ESTADO DE MATO GROSSO DO SUL
MUNICIPIO DE LADÁRIO
SECRETARIA MUNICIPAL DE EDUCAÇÃO
ESCOLA MUNICIPAL FAROL DO NORTE
DELIBERAÇÃO CME/LADÁRIO Nº38/2017 DE 13/11/2017
e-mail: emfaroldonorte@hotmail.com

ATIVIDADES PEDAGÓGICAS COMPLEMENTARES

2° Ano B

Ensino Fundamental I

Querido(a) aluno(a) estas são as atividades referente ao período de 08/09/2020 a 15/09/2020. **LÍNGUA PORTUGUESA, MATEMÁTICA, HISTÓRIA E GEOGRAFIA.**

Estabeleça uma rotina diária de estudos; Seja cuidadoso com seus materiais; Capriche na letra e realização das atividades; Acompanhe a explicações na plataforma http://ead.tisocial.com.br/ladario

Se cuide! Use máscara! Evite aglomerações.

Com carinho, Prof. **Zenina de Fátima**

ESTADO DE MATO GROSSO DO SUL
MUNICIPIO DE LADÁRIO
SECRETARIA MUNICIPAL DE EDUCAÇÃO
ESCOLA MUNICIPAL FAROL DO NORTE
DELIBERAÇÃO CME/LADÁRIO Nº38/2017 DE 13/11/2017
e-mail: emfaroldonorte@hotmail.com

Nome: _____ Turma: 2° Ano B Turno: ( ) Mat. (**X**) Vesp.

Professor (a): **Zenina de Fátima** Ensino Fundamental I

Atividade referente ao período de 16/09 a 30/09/2020. Quantidades de aulas: 14

Componente Curricular: **Língua Portuguesa**

***Atividades para serem realizadas durante o isolamento social, no combate ao Novo Coronavírus (COVID-19)**

. Faça como no exemplo, colocando o til ~ no "a" ou no "o" da sílaba sublinhada. Depois, copie a palavra.

a) raçao ração
b) colchao _____
c) peixao _____
d) caldeirao _____
e) sabao _____
f) mamao _____
g) mamae _____
h) coraçoes _____
i) limao _____
j) limoes _____

O til ~ não é um acento, é um sinal gráfico que marca sons nasalizados, isto é, sons cujas pronúncia saem em parte pela boca e em parte pelo nariz.

. Faça como no exemplo e use o til ~.

ães: a) o pão os pães; b) o capitão _____; c) o avião _____; d) a lição _____

ãos: e) o cidadão os cidadãos; f) a mão _____; g) o irmão _____; h) o grão _____

Fonte: Atividades na Sala de Aula, 2º ano – Ensino Fundamental – Língua Portuguesa / Editora: RIDDEL: Vasconcelos Adson.

EMPREGO DE C, Ç, S, SS

. Complete com as letras indicadas:

Ç	S	SS	C
po__o	__apo	pá__aro	vo__ê
tra__o	con__erva	trave__eiro	__ebola
pra__a	__ereia	gro__o	alfa__e
dan__a	__elo	a__unto	ro__eiro
caro__o	in__eto	pa__agem	__igarra
ro__a	__obra	impre__ão	__enoura

. Copie a palavra cuja pronúncia da parte destacada se diferencia das demais.

A	B	C
POSSUIR	CINZA	VASO
PARECER	SINAL	MESA
PORÇÃO	ASSADO	VERSO
POUCO	DIVISÃO	RISO

. Recorte de revista algumas palavras que tenham a letra **ç** e cole-as.

. Observe as palavras que você pesquisou e assinale a alternativa certa.

☐ Há palavras iniciadas com **ç**. ☐ Nenhuma palavra se inicia com **ç**.



ESTADO DE MATO GROSSO DO SUL
MUNICIPIO DE LADÁRIO
SECRETARIA MUNICIPAL DE EDUCAÇÃO
ESCOLA MUNICIPAL FAROL DO NORTE
DELIBERAÇÃO CME/LADÁRIO Nº38/2017 DE 13/11/2017
e-mail: emfaroldonorte@hotmail.com

Professor (a): **Zenina de Fátima** Ensino Fundamental I

Atividade referente ao período de 16/09 a 30/09/2020. Quantidades de aulas: 14

Componente Curricular: **Língua Portuguesa**

PONTUAÇÃO

. Pontue as frases, usando um destes sinais de pontuação: . ! ?

a) Por que você quer usar o meu creme dental ☐

b) O gato está miando alto ☐

c) Nossa, que chuva forte ☐

d) Vamos brincar de esconde-esconde ☐

e) Veja, o livro está sobre a mesa ☐

f) Márcio, feliz aniversário ☐



Lembre que:

- As **frases afirmativas** afirmam, declaram alguma coisa.
  Exemplo: Vamos à festa juntos.
- As **frases negativas** negam, declaram alguma coisa de maneira negativa.
  Exemplo: Não sabemos onde ele está.
- As **frases interrogativas** indicam uma pergunta.
  Exemplo: Quem quer brincar comigo?
- As **frases exclamativas** indicam admiração, espanto, alegria, etc.
  Exemplo: Que dia lindo!



Fonte: Atividades na Sala de Aula, 2º ano – Ensino Fundamental – Língua Portuguesa / Editora: RIDDEL: Vasconcelos Adson.

ESTADO DE MATO GROSSO DO SUL
MUNICIPIO DE LADÁRIO
SECRETARIA MUNICIPAL DE EDUCAÇÃO
ESCOLA MUNICIPAL FAROL DO NORTE
DELIBERAÇÃO CME/LADÁRIO Nº38/2017 DE 13/11/2017
e-mail: emfaroldonorte@hotmail.com

Professor (a): **Zenina de Fátima** Ensino Fundamental I

Atividade referente ao período de 16/09 a 30/09/2020. Quantidades de aulas: 14

Componente Curricular: **Língua Portuguesa**

. Use a vírgula [,] para separar os itens apresentados na frase:

a) Fui à padaria e comprei leite [ ] torrada [ ] doce e patê.

b) Os nomes dos meus irmãos são Pedro [ ] Tiago [ ] João e Lucas.

c) Ganhei uma bola [ ] uma boneca [ ] uma peteca e um ioiô.

d) Hoje tenho aula de matemática [ ] português [ ] ciências e história.

e) Comprei banana [ ] maçã [ ] abacaxi [ ] laranja e morango.

. Use a vírgula [,] e o ponto [.],como no exemplo:

Um, dois, feijão com arroz.

Três [ ] quatro [ ] feijão no prato [ ]

cinco [ ] seis [ ] molho inglês [ ]

sete [ ] oito [ ] comer biscoito [ ]

nove [ ] dez [ ] comer pastéis [ ]



ACENTUAÇÃO

. Faça como no exemplo, colocando o acento agudo [´] na vogal da sílaba sublinhada. Depois, copie a palavra com o acento.

a) cafe café

b) sofa _____

c) historia _____

d) agua _____

e) indio _____

f) jacare _____

g) regua _____

h) passaro _____

i) vovo _____

j) perola _____

. Faça como no exemplo, colocando o acento circunflexo [^] na vogal da sílaba sublinhada. Depois, copie a palavra com o acento.

a) pêssego pêssego

b) voce _____

c) vovo _____

d) triangulo _____

e) infancia _____

f) estomago _____

g) metro _____

h) comodo _____

i) lampada _____

j) robo _____

ESTADO DE MATO GROSSO DO SUL
MUNICIPIO DE LADÁRIO
SECRETARIA MUNICIPAL DE EDUCAÇÃO
ESCOLA MUNICIPAL FAROL DO NORTE
DELIBERAÇÃO CME/LADÁRIO Nº38/2017 DE 13/11/2017
e-mail: emfaroldonorte@hotmail.com

Nome: _____ Turma: 2° Ano B Turno: ( ) Mat. (**X**) Vesp.

Professor (a): **Zenina de Fátima** Ensino Fundamental I

Atividade referente ao período de 16/09 a 30/09/2020. Quantidades de aulas: 10

Componente Curricular: **Matemática**

CÉDULAS DO REAL

1. Anote o valor de cada cédula de real.

a) 

_____

b) 

_____



c) 

_____

d) 

_____

e) 

_____

f) 

_____

Fonte: Atividades na Sala de Aula, 2º ano – Ensino Fundamental – Matemática / Editora: RIDDEL: Vasconcelos Adson

2. De quantas cédulas de dez reais eu preciso para compor:

a) 40 reais _____ c) 80 reais _____

b) 60 reais _____ d) 90 reais _____

3. Quantas cédulas de vinte reais equivalem à de 100 reais?

_____

4. De quantas cédulas de 50 reais eu preciso para compor 100 reais?

_____

5. Quantas cédulas de:

a) 2 reais equivalem à de 10 reais? _____

b) 2 reais equivalem à de 20 reais? _____

c) 2 reais equivalem à de 50 reais? _____

d) 2 reais equivalem à de 100 reais? _____

e) 5 reais equivalem à de 10 reais? _____

f) 5 reais equivalem à de 20 reais? _____

g) 5 reais equivalem à de 50 reais? _____

h) 5 reais equivalem à de 100 reais? _____

6. Marcos tem 2 notas de 5 reais, 1 nota de 20 reais e 4 notas de 2 reais na carteira. Quanto ele tem no total?

_____

_____

Cálculo

5. Helena comprou uma saia por 23 reais e uma camiseta por 16 reais.

a) Quanto ela gastou no total?

_____

b) Ela pagou com uma nota de 50 reais. Quanto recebeu de troco? _____

Cálculo

ESTADO DE MATO GROSSO DO SUL
MUNICIPIO DE LADÁRIO
SECRETARIA MUNICIPAL DE EDUCAÇÃO
ESCOLA MUNICIPAL FAROL DO NORTE
DELIBERAÇÃO CME/LADÁRIO Nº38/2017 DE 13/11/2017
e-mail: emfaroldonorte@hotmail.com

Professor (a): **Zenina de Fátima** Ensino Fundamental I

Atividade referente ao período de 16/09 a 30/09/2020. Quantidades de aulas: 10

Componente Curricular: **Matemática**

UNIDADE MONETÁRIA

1. O nome do dinheiro atual no Brasil é:

☐ cruzeiro ☐ dólar ☐ real ☐ euro

2. O símbolo de nossa unidade monetária é:

☐ $ ☐ R$ ☐ CR$

3. Observe esta tabela de preços ao lado.

a) Circule o valor mais alto.

b) Sublinhe o valor mais baixo.

c) Escreva por extenso o valor do cachorro-quente.

_____

CANTINA DA NONA

TABELA DE PREÇOS

SUCO	R$ 1,50
CACHORRO-QUENTE	R$ 2,00
LANCHE NATURAL	R$ 1,00
MISTO-QUENTE	R$ 2,50
VITAMINA DE FRUTAS	R$ 2,00
IOGURTE	R$ 1,00
SALGADINHO	R$ 0,50



Fonte: Atividades na Sala de Aula, 2º ano – Ensino Fundamental – Matemática / Editora: RIDDEL: Vasconcelos Adson.

ESTADO DE MATO GROSSO DO SUL
MUNICIPIO DE LADÁRIO
SECRETARIA MUNICIPAL DE EDUCAÇÃO
ESCOLA MUNICIPAL FAROL DO NORTE
DELIBERAÇÃO CME/LADÁRIO Nº38/2017 DE 13/11/2017
e-mail: emfaroldonorte@hotmail.com

Professor (a): **Zenina de Fátima** Ensino Fundamental I

Atividade referente ao período de 16/09 a 30/09/2020. Quantidades de aulas: 10

Componente Curricular: **Matemática**

4. Faça como no modelo.

1 real = R$ 1,00

a) três reais = _____ d) trinta e sete reais = _____

b) seis reais = _____ e) dezenove reais = _____

c) doze reais = _____ f) cinquenta reais = _____

QUANTO CUSTA?

1. Verifique em folhetos de supermercado ou pergunte a um adulto o valor de produtos como estes e anote.

A



R$ ____

B



R$ ____

C



R$ ____

D



R$ ____

E



R$ ____

F



R$ ____

2. Com base em sua pesquisa, responda:

a) Qual dos produtos pesquisados é o de menor valor?

_____

b) Qual dos produtos pesquisados é o de maior valor?

_____

ESTADO DE MATO GROSSO DO SUL
MUNICIPIO DE LADÁRIO
SECRETARIA MUNICIPAL DE EDUCAÇÃO
ESCOLA MUNICIPAL FAROL DO NORTE
DELIBERAÇÃO CME/LADÁRIO Nº38/2017 DE 13/11/2017
e-mail: emfaroldonorte@hotmail.com

Nome: _____ Turma: 2° Ano B Turno: ( ) Mat. (**X**) Vesp.

Professor (a): **Zenina de Fátima** Ensino Fundamental I

Atividade referente ao período de 16/09 a 30/09/2020. Quantidades de aulas: 04

Componente Curricular: **História**

NA DÉCADA DE 1960

Esta imagem representa um pouco da vida no Brasil por volta dos anos 1960.



Fonte: Atividades na Sala de Aula, 2º ano – Ensino Fundamental – História / Editora: RIDDEL: Vasconcelos Adson.

ESTADO DE MATO GROSSO DO SUL
MUNICIPIO DE LADÁRIO
SECRETARIA MUNICIPAL DE EDUCAÇÃO
ESCOLA MUNICIPAL FAROL DO NORTE
DELIBERAÇÃO CME/LADÁRIO Nº38/2017 DE 13/11/2017
e-mail: emfaroldonorte@hotmail.com

Professor (a): **Zenina de Fátima** Ensino Fundamental I

Atividade referente ao período de 16/09 a 30/09/2020. Quantidades de aulas: 04

Componente Curricular: **História**

1. Anote os números correspondentes que aparecem na imagem.

( ) As pessoas ouviam novelas no rádio.
( ) As ruas eram tranquilas e, nelas, as crianças brincavam livremente
( ) A maioria das pessoas lavava a roupa em bacias.
( ) A TV era em preto e branco e custava caro, quase ninguém tinha.
( ) Poucas casas contavam com a eletricidade. Na maioria dos lares, a iluminação era feita com lampião.
( ) Na maioria das casas, usava-se fogão à lenha.

2. Quais brinquedos aparecem na imagem?

_____

1. Marque as datas religiosas.

( ) Dia do amigo
( ) Natal
( ) Dia da Bandeira
( ) Dia da secretária
( ) Páscoa
( ) Dia do professor
( ) Corpus Christi
( ) Sexta-feira santa



2. Associe as datas históricas.

A Independência do Brasil
B Tiradentes
C Achamento do Brasil
D Proclamação da República
E Abolição da Escravatura
F Dia da Bandeira

( ) 15 de novembro
( ) 19 de novembro
( ) 13 de maio
( ) 21 de abril
( ) 22 de abril
( ) 7 de setembro

3. Pinte esta cena referente ao Dia da Árvore, comemorado em 21 de setembro.



ESTADO DE MATO GROSSO DO SUL
MUNICIPIO DE LADÁRIO
SECRETARIA MUNICIPAL DE EDUCAÇÃO
ESCOLA MUNICIPAL FAROL DO NORTE
DELIBERAÇÃO CME/LADÁRIO Nº38/2017 DE 13/11/2017
e-mail: emfaroldonorte@hotmail.com

Professor (a): **Zenina de Fátima** Ensino Fundamental I

Atividade referente ao período de 16/09 a 30/09/2020. Quantidades de aulas: 04

Componente Curricular: **História**

1. Em que data é comemorado o Dia das Mães



- ☐ segundo domingo de agosto.
- ☐ primeiro domingo de maio.
- ☐ terceiro domingo de julho.
- ☐ segundo domingo de maio.

2. O Dia dos Pais é comemorado em que data?

- ☐ segundo domingo de maio.
- ☐ primeiro domingo de agosto.
- ☐ segundo domingo de agosto.
- ☐ primeiro domingo de maio.



3. Decifre o código e descubra em que data é comemorado o Dia dos Avós.

Dia	Mês
Número entre 25 e 27	Sétimo mês do ano

Fonte: Atividades na Sala de Aula, 2º ano – Ensino Fundamental História / Editora: RIDDEL: Vasconcelos Adson.

EM QUE MÊS SE COMEMORA?

1. Pinte o que se comemora no mês de abril.











ESTADO DE MATO GROSSO DO SUL
MUNICIPIO DE LADÁRIO
SECRETARIA MUNICIPAL DE EDUCAÇÃO
ESCOLA MUNICIPAL FAROL DO NORTE
DELIBERAÇÃO CME/LADÁRIO Nº38/2017 DE 13/11/2017
e-mail: emfaroldonorte@hotmail.com

Nome: _____ Turma: 2° Ano B Turno: ( ) Mat. (**X**) Vesp.

Professor (a): **Zenina de Fátima** Ensino Fundamental I

Atividade referente ao período de 16/09 a 30/09/2020. Quantidades de aulas: 06

Componente Curricular: **Geografia**

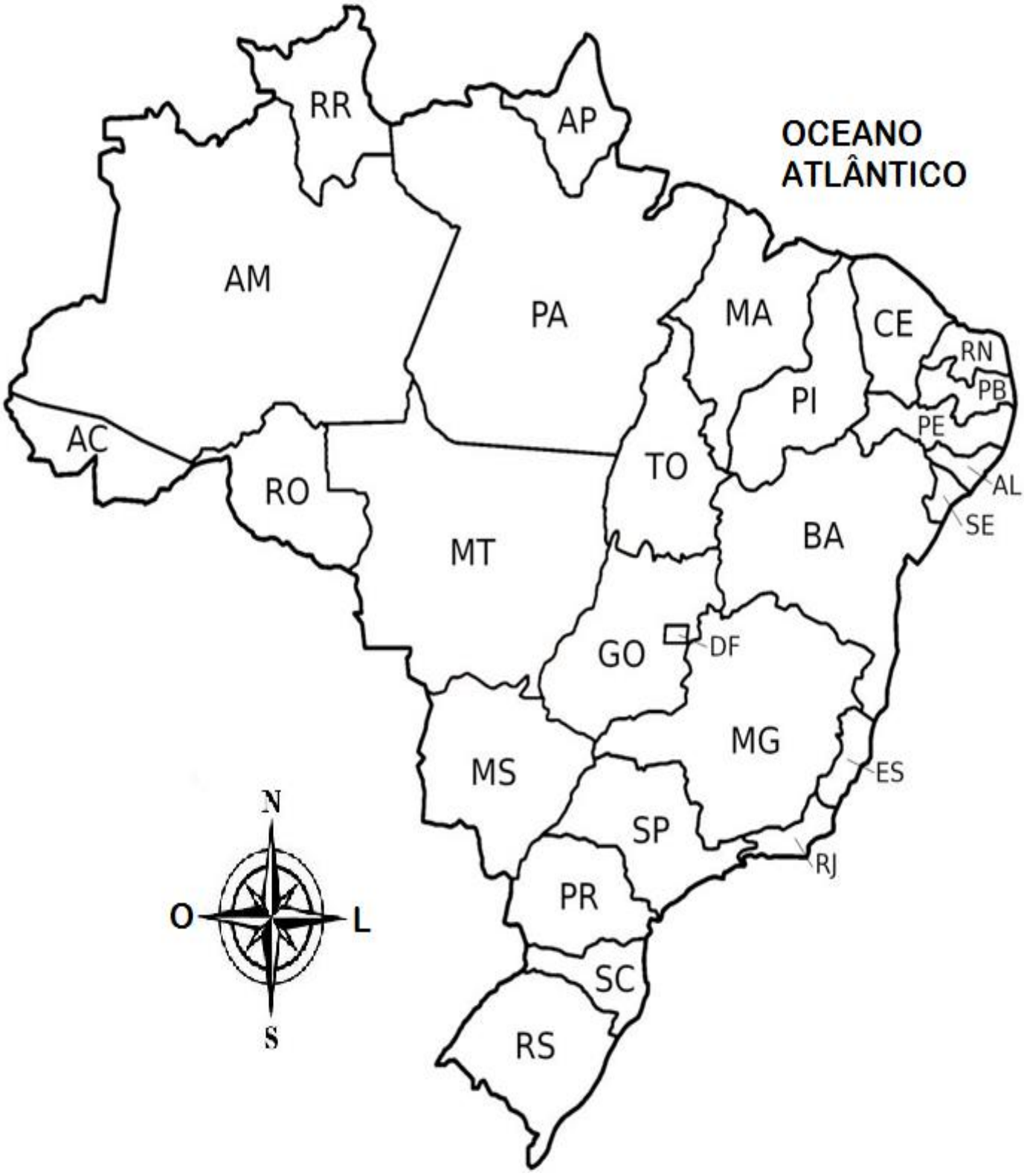

Disponível em: https://www.infoescola.com/geografia/mapa-do-brasil/. Acesso em 25/09/2020.

ESTADO DE MATO GROSSO DO SUL
MUNICIPIO DE LADÁRIO
SECRETARIA MUNICIPAL DE EDUCAÇÃO
ESCOLA MUNICIPAL FAROL DO NORTE
DELIBERAÇÃO CME/LADÁRIO Nº38/2017 DE 13/11/2017
e-mail: emfaroldonorte@hotmail.com

Professor (a): **Zenina de Fátima** Ensino Fundamental I

Atividade referente ao período de 16/09 a 30/09/2020. Quantidades de aulas: 06

Componente Curricular: **Geografia**

1. Circule o nome do Estado onde você nasceu.
2. Pinte de verde a área do Estado em que você mora.
3. Pinte de amarelo os Estados que fazem divisa com o Estado onde você mora.
4. Pinte o Oceano Atlântico de azul.
5. Circule a área em que Brasília está situada.

MAPA POLÍTICO DO BRASIL

1. Pinte o mapa, usando cores variadas e sem que a mesma cor se encontre em Estados vizinhos.

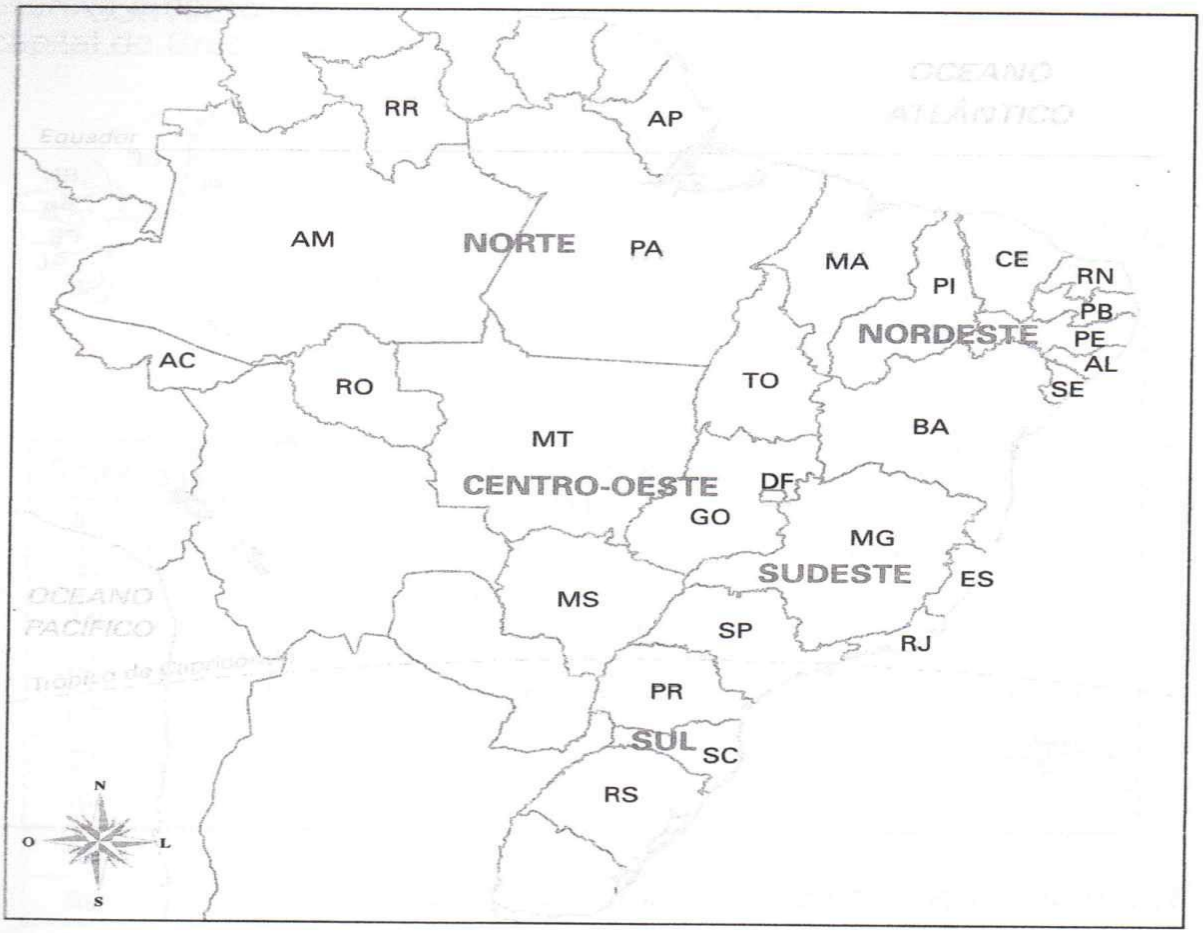

2. Indique com uma seta o Estado em que você mora.
3. Qual é a capital do seu Estado? _____

ESTADO DE MATO GROSSO DO SUL
MUNICIPIO DE LADÁRIO
SECRETARIA MUNICIPAL DE EDUCAÇÃO
ESCOLA MUNICIPAL FAROL DO NORTE
DELIBERAÇÃO CME/LADÁRIO Nº38/2017 DE 13/11/2017
e-mail: emfaroldonorte@hotmail.com

RECONHECENDO MEIOS DE TRANSPORTE

Nesta cena, aparece um trecho de uma cidade. Observe.



1. Liste os meios de transporte que você vê na cena.

Fonte: Atividades na Sala de Aula, 2º ano – Ensino Fundamental - Geografia/ Editora: RIDDEL: Vasconcelos Adson.

ESTADO DE MATO GROSSO DO SUL
MUNICIPIO DE LADÁRIO
SECRETARIA MUNICIPAL DE EDUCAÇÃO
ESCOLA MUNICIPAL FAROL DO NORTE
DELIBERAÇÃO CME/LADÁRIO Nº38/2017 DE 13/11/2017
e-mail: emfaroldonorte@hotmail.com

Nome: _____ Turma: 2° Ano B Turno: ( ) Mat. (**X**) Vesp.

Professor (a): **Zenina de Fátima** Ensino Fundamental I

Atividade referente ao período de 16/09 a 30/09/2020. Quantidades de aulas: 06

Componente Curricular: **Geografia**

1. O que há em sua cidade?

☐ porto	☐ aeroporto	☐ terminal rodoviário
☐ estacionamentos	☐ pontos de táxi	☐ pontos de ônibus
☐ estações de metrô	☐ estações de trem	☐ terminal de cargas

2. Pinte os quadrinhos conforme a legenda.

azul: aquáticos **verde**: terrestres **amarelo**: aéreos

☐ balsa	☐ bicicleta	☐ avião	☐ charrete
☐ lambreta	☐ barco	☐ helicóptero	☐ navio
☐ automóvel	☐ canoa	☐ trem	☐ patinete
☐ balão	☐ motocicleta	☐ jangada	☐ foguete

3. Para ir a escola você usa algum meio de transporte? Qual?

_____

4. Seus pais utilizam algum meio de transporte para se deslocarem até o trabalho? Qual?

_____

5. Desenhe ou cole recortes dos dois meios de transporte que você mais gosta de usar.

