ESTADO DE MATO GROSSO DO SUL
MUNICIPIO DE LADÁRIO
SECRETARIA MUNICIPAL DE EDUCAÇÃO
ESCOLA MUNICIPAL FAROL DO NORTE
DELIBERAÇÃO CME/LADÁRIO Nº38/2017 DE 13/11/2017
e-mail: emfaroldonorte@hotmail.com

ATIVIDADES PEDAGÓGICAS COMPLEMENTARES

4° Ano B

Ensino Fundamental I

Querido(a) aluno(a) estas são as atividades referente ao período de 01/07/2020 a 15/07/2020. **LÍNGUA PORTUGUESA, MATEMÁTICA, HISTÓRIA, GEOGRAFIA, EDUCAÇÃO FÍSICA, CIÊNCIAS DA NATUREZA E ARTE.**

Estabeleça uma rotina diária de estudos; Seja cuidadoso com seus materiais; Capriche na letra e realização das atividades; Acompanhe a explicações na plataforma http://ead.tisocial.com.br/ladario

Se cuide! Use máscara! Evite aglomerações.

Com carinho, Prof. Sílvia Céspedes, Lucélia Verônica, Gregório e Suziane Luzia.

ESTADO DE MATO GROSSO DO SUL
MUNICIPIO DE LADÁRIO
SECRETARIA MUNICIPAL DE EDUCAÇÃO
ESCOLA MUNICIPAL FAROL DO NORTE
DELIBERAÇÃO CME/LADÁRIO Nº38/2017 DE 13/11/2017
e-mail: emfaroldonorte@hotmail.com

Nome: _____ Turma: 4° Ano B Turno:

( ) Mat. (**X**) Vesp.

Professor (a): **Sílvia Céspedes** Ensino Fundamental I

Atividade referente ao período de 01/07 a 15/07/2020. Quantidade de aulas: 15

Componente Curricular: **Língua Portuguesa**

***Atividades para serem realizadas durante o isolamento social, no combate ao Novo Coronavírus (COVID-19)**



Fábula

Complete a fábula com as palavras do quadro abaixo :

folha	caçador	perigo
dentro	água	amiga
rio	pomba	rede

A FORMIGA E A POMBA

Uma formiga sedenta veio à margem do rio para beber_____ . Para alcançá-la, devia descer por uma folha de grama. Quando assim fazia, escorregou e caiu _____ da correnteza.

Uma_____ , pousada numa árvore próxima, viu a formiga em perigo. Rapidamente, arrancou uma_____ da árvore e deixou-a cair no_____ , perto da formiga, que pode subir nela e flutuar até a margem.

Logo que alcançou a terra, a formiga viu um_____ de pássaros, que se escondia atrás duma árvore, com uma rede nas mãos. Vendo que a pomba corria_____ , correu até o caçador e mordeu-lhe o calcanhar. A dor fez o caçador largar a_____ e a pomba fugiu para um ramo mais alto.

De lá, ela arrulhou para a formiga:

- Obrigada, querida_____ .

Uma boa ação se paga com outra.

FONTE:PINTEREST.COM

ESTADO DE MATO GROSSO DO SUL
MUNICIPIO DE LADÁRIO
SECRETARIA MUNICIPAL DE EDUCAÇÃO
ESCOLA MUNICIPAL FAROL DO NORTE
DELIBERAÇÃO CME/LADÁRIO Nº38/2017 DE 13/11/2017
e-mail: emfaroldonorte@hotmail.com

Professor (a): **Sílvia Céspedes** Ensino Fundamental I

Atividade referente ao período de 01/07 a 15/07/2020. Quantidade de aulas: 15

1. Leia a fábula abaixo e responda as questões.

O Galo e a Pedra Preciosa

Esopo

Um Galo, que procurava ciscando no terreiro, alimento para ele e suas galinhas, sem querer, acaba por encontrar uma pedra preciosa de grande beleza e valor.
Mas, depois de observá-la e examiná-la por alguns instantes, se volta e comenta desolado:
"Ora, Ora, se ao invés de mim, teu dono tivesse te encontrado, ele decerto não iria se conter diante de tamanha alegria, e é quase certo que iria te colocar em lugar digno de adoração. No entanto, eu te achei e de nada me serves. Antes disso, preferia ter encontrado um simples grão de milho, ao invés de todas as jóias do mundo!"

Moral da Estória: A utilidade de cada coisa é o que determina seu real valor.

2. Qual o título da fábula?

3. Quem é o autor?

4. Por que sabemos que esse texto é uma fábula?

5. Sobre o que fala a fábula?

Fonte:Pinterest.com

ESTADO DE MATO GROSSO DO SUL
MUNICIPIO DE LADÁRIO
SECRETARIA MUNICIPAL DE EDUCAÇÃO
ESCOLA MUNICIPAL FAROL DO NORTE
DELIBERAÇÃO CME/LADÁRIO Nº38/2017 DE 13/11/2017
e-mail: emfaroldonorte@hotmail.com

Professor (a): **Sílvia Céspedes** Ensino Fundamental I

Atividade referente ao período de 01/07 a 15/07/2020. Quantidade de aulas: 15

TRABALHANDO COM TIRINHA



Copyright © 2002 Mauricio de Sousa Produções Ltda. Todos os direitos reservados. 6586

1- Este gênero textual é:

☐ carta ☐ tirinha

☐ receita ☐ fábula

2- Onde acontece a cena em que o Chico Bento está?

☐ Na esquina da rua ☐ Numa pracinha

☐ Dentro de casa ☐ Num sítio

3- O animal que está em questão neste diálogo é o

☐ macaco ☐ boi ☐ cavalo

4- O assunto principal do texto é:

☐ um passeio no sítio.

☐ falta de conhecimento sobre o assunto de gado.

☐ boi sem cabeça.

☐ o exibimento do menino.

www.misturadealegria.blogspot.com

ESTADO DE MATO GROSSO DO SUL
MUNICIPIO DE LADÁRIO
SECRETARIA MUNICIPAL DE EDUCAÇÃO
ESCOLA MUNICIPAL FAROL DO NORTE
DELIBERAÇÃO CME/LADÁRIO Nº38/2017 DE 13/11/2017
e-mail: emfaroldonorte@hotmail.com

Complete a cruzadinha abaixo com palavras com G OU J.

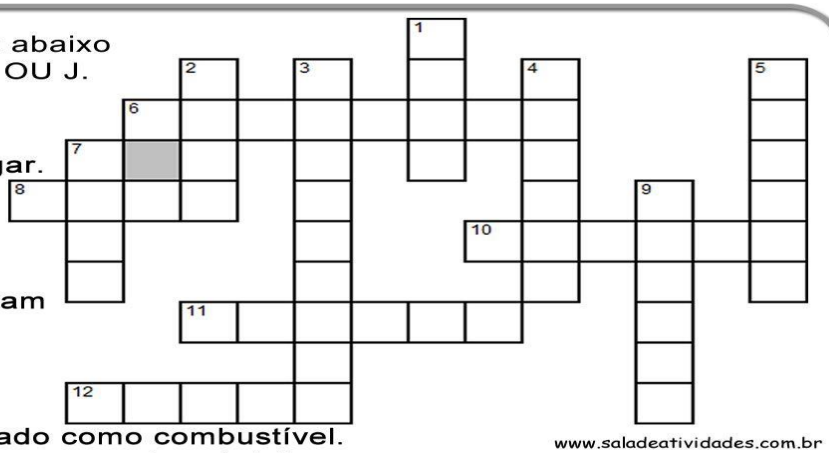

1- Quem tem autoridade pública e poder para julgar.
2- Pequeno mamífero carnívoro.
3- Pessoa que fabrica, conserta ou vende joias.
4- Terreno no qual se cultivam plantas ornamentais, arbustos e flores.
5- Crianças que nasceram no mesmo parto.
6- Destilado do petróleo usado como combustível.
7- Parte amarela do ovo das aves e dos répteis.
8- Água ou outro líquido solidificado pela ação do frio.
9- Publicação diária com reportagens, notícias, entrevistas, etc.
10- Grande serpente não venenosa.
11- Armação de arame ou madeira usada para manter passarinhos presos.
12- O sexto mês do ano no nosso calendário.

www.saladeatividades.com.br

Professor (a): **Sílvia Céspedes** Ensino Fundamental I

Atividade referente ao período de 01/07 a 15/07/2020. Quantidade de aulas: 15

- Pesquise 5 palavras com as letras G ou J e escreva-os no espaço abaixo:

ESTADO DE MATO GROSSO DO SUL
MUNICIPIO DE LADÁRIO
SECRETARIA MUNICIPAL DE EDUCAÇÃO
ESCOLA MUNICIPAL FAROL DO NORTE
DELIBERAÇÃO CME/LADÁRIO Nº38/2017 DE 13/11/2017
e-mail: emfaroldonorte@hotmail.com

Fonte:Pinterest

1. Marque com um **x** e/ou complete corretamente

a) Em qual das palavras abaixo devemos usar «Ç»?

( ) A_____ÚCAR ( ) _____ARTA ( ) A_____CHAR

Fo

b) Qual das palavras está escrita de forma errada?

( ) MOÇA ( ) ÇINEMA ( ) TAÇA

c) Qual das palavras está escrita corretamente?

( ) CACHORRO ( ) ELEICAO ( ) DANCA

2. Escreva em cada círculo, 5 palavras que contenham em suas sílabas: «Ç» e «C»

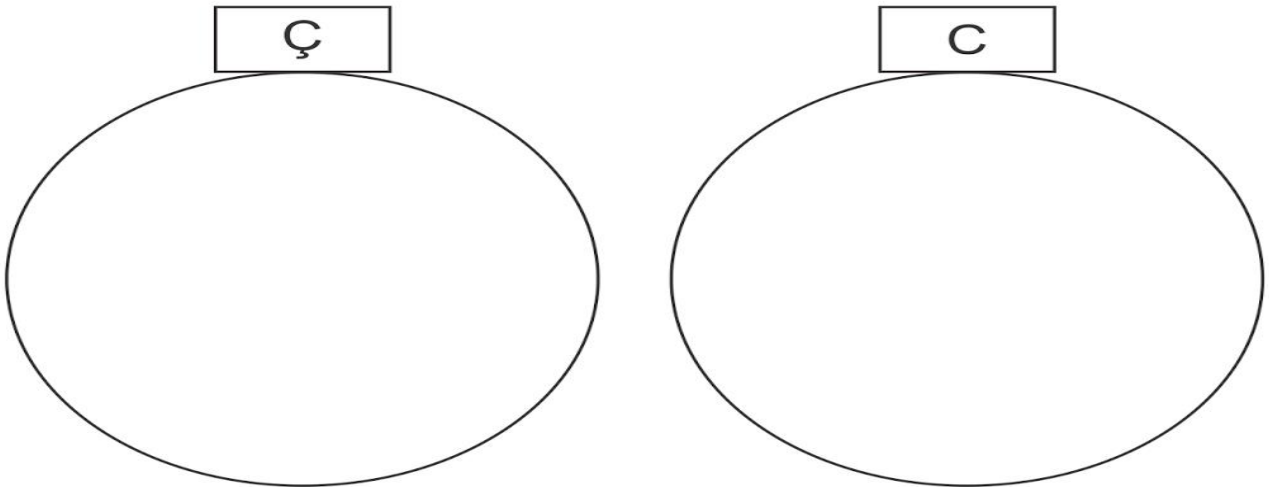

Professor (a): **Sílvia Céspedes** Ensino Fundamental I

Atividade referente ao período de 01/07 a 15/07/2020. Quantidade de aulas: 15

ESTADO DE MATO GROSSO DO SUL
MUNICIPIO DE LADÁRIO
SECRETARIA MUNICIPAL DE EDUCAÇÃO
ESCOLA MUNICIPAL FAROL DO NORTE
DELIBERAÇÃO CME/LADÁRIO Nº38/2017 DE 13/11/2017
e-mail: emfaroldonorte@hotmail.com

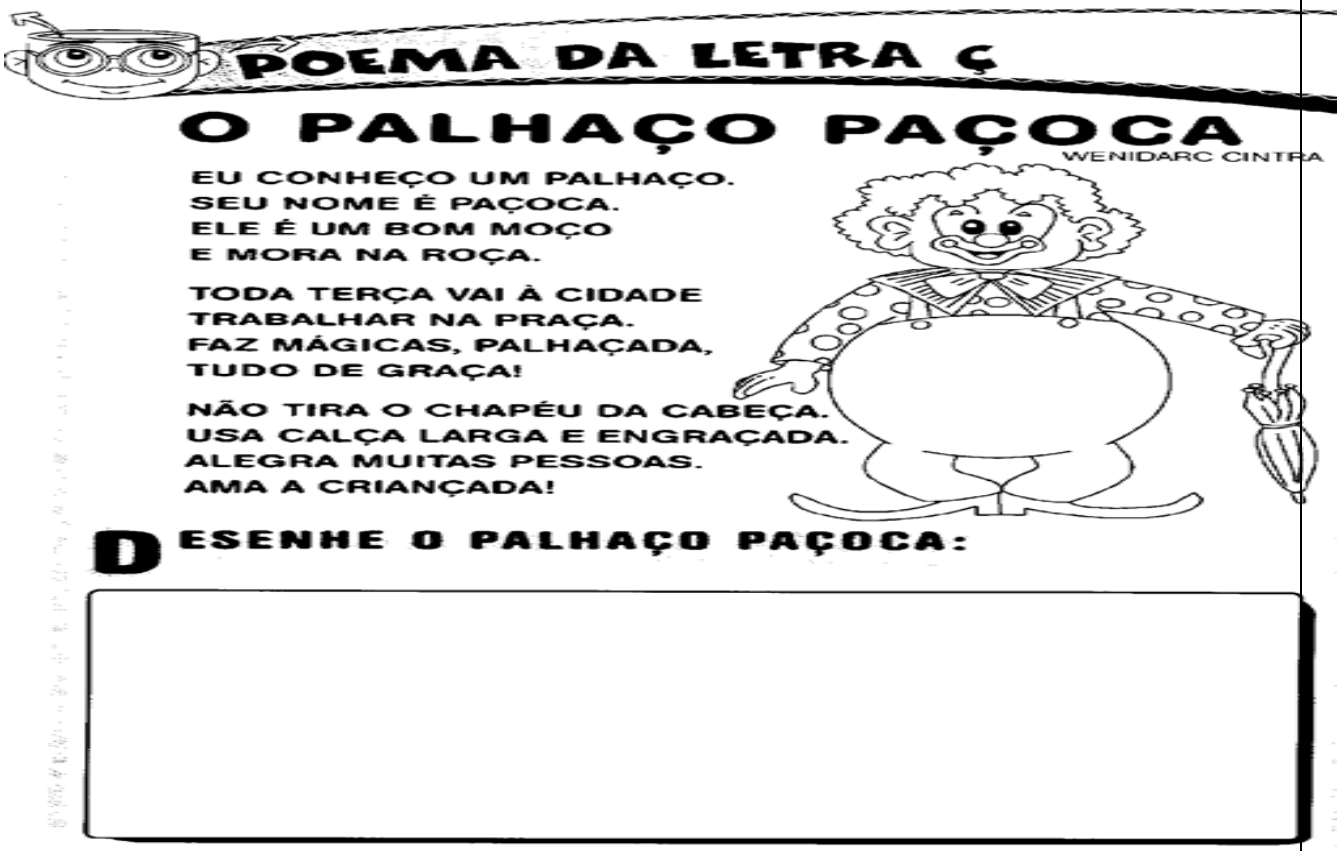

Vamos trabalhar com :Ç

Lembre-se que:

- Colocamos a cedilha debaixo do C para atribuir-lhe o som de S no inicial.
  Exemplos :criança; moço.
- **Não se usa** cedilha no ce, ci e nem no início das palavras.
  Exemplos: circo , cenoura .

1)Coloque cedilha onde for necessário de pois separe as sílabas das palavras:

a)começamos b)açucareiro c)cabeça d)cacique
e)moco f)pescoço g)caçador
h)entristecer

2)Complete as palavras com C ou Ç:

a) feli___idade b) carca_____a c)_____inema
d) amea_____ar e)_____édula f) hortali_____a

Fonte:Caderno do futuro-Língua Portuguesa 4 ano.

ESTADO DE MATO GROSSO DO SUL
MUNICIPIO DE LADÁRIO
SECRETARIA MUNICIPAL DE EDUCAÇÃO
ESCOLA MUNICIPAL FAROL DO NORTE
DELIBERAÇÃO CME/LADÁRIO Nº38/2017 DE 13/11/2017
e-mail: emfaroldonorte@hotmail.com

Professor (a): **Sílvia Céspedes** Ensino Fundamental I

Atividade referente ao período de 01/07 a 15/07/2020. Quantidade de aulas: 15

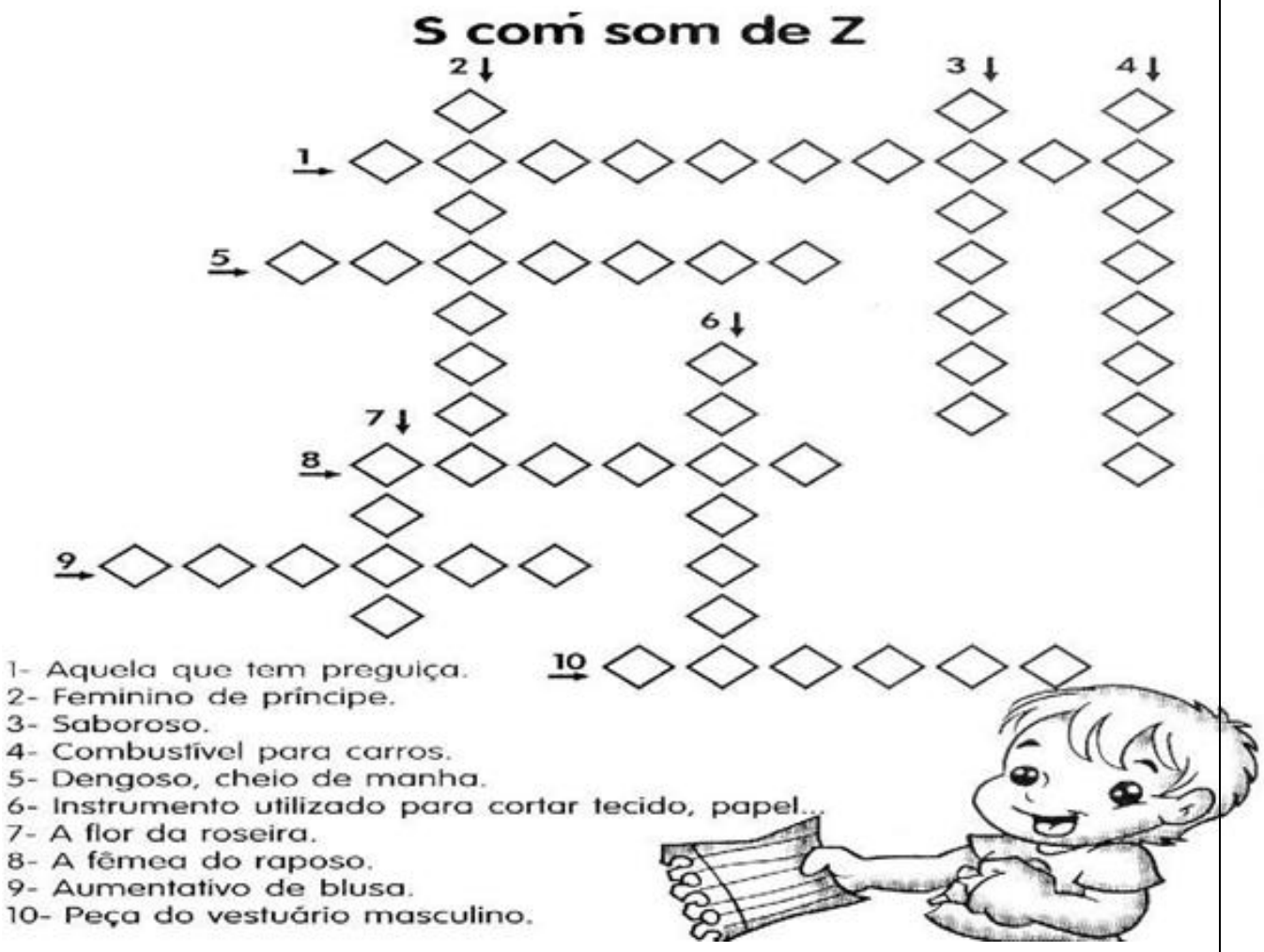

Fonte:Leitorzinho.com

- Recorte e cole no espaço abaixo, 5 palavras escritas com S e que possui o som de Z.

ESTADO DE MATO GROSSO DO SUL
MUNICIPIO DE LADÁRIO
SECRETARIA MUNICIPAL DE EDUCAÇÃO
ESCOLA MUNICIPAL FAROL DO NORTE
DELIBERAÇÃO CME/LADÁRIO Nº38/2017 DE 13/11/2017
e-mail: emfaroldonorte@hotmail.com

Nome: _____ Turma: 4° Ano B Turno:

( ) Mat. (**X**) Vesp.

Professor (a): **Sílvia Céspedes** Ensino Fundamental I

Atividade referente ao período de 01/07 a 15/07/2020. Quantidade de aulas: 08

Componente Curricular: **Matemática**

***Atividades para serem realizadas durante o isolamento social, no combate ao Novo Coronavírus (COVID-19)**

Fonte:soescola

1- Se o quilo de um peixe custa R$ 3,49 qual é o preço de 2 quilos desse mesmo peixe?

A) R$ 6,88
B) R$ 6,96
C) R$ 6,98
D) R$ 7,98

2- O Brasil é o maior país da América do Sul em extensão, possuindo oito milhões, quinhentos e quarenta e sete mil, quatrocentos e três Km² . A forma correta de escrever esse número é:

A) 8.000.547
B) 8.547.403
C) 8.547.406
D) 80.547.403

3- Qual o resultado da expressão: (131 – 40) x 4 ÷ 7 =

A) 350
B) 364
C) 357
D) 352

4 - Vovô Juvenal quer repartir, igualmente R$1.872,00 entre 6 netos. Cada neto receberá?

A) R$312,00
B) R$418,00
C)R$261,00
D) R$512,00

6-Qual o resultado da expressão: 129 ÷ 3 – 12 × 3 + 15 × 6 =

A) 77
B) 97
B) 90
C) 87

ESTADO DE MATO GROSSO DO SUL
MUNICIPIO DE LADÁRIO
SECRETARIA MUNICIPAL DE EDUCAÇÃO
ESCOLA MUNICIPAL FAROL DO NORTE
DELIBERAÇÃO CME/LADÁRIO Nº38/2017 DE 13/11/2017
e-mail: emfaroldonorte@hotmail.com

Fonte:Leitorzinho.com

Professor (a): **Sílvia Céspedes** Ensino Fundamental I

Atividade referente ao período de 01/07 a 15/07/2020. Quantidade de aulas: 08

Componente Curricular: **Matemática**

Leia, resolva e marque a resposta certa:

Paulo, José e Joana foram ao shopping. Observe os preços dos brinquedos de que mais gostaram.



A) Paulo tem 52 reais. Pode comprar dois desses brinquedos. Quais são os dois brinquedos que ele pode comprar?

- ☐ O carrinho e a bola.
- ☐ A boneca e a bola.
- ☐ O carrinho e a boneca.

B) Joana tem uma nota de 50 reais, uma de 20 reais e uma de 10 reais. Quanto Joana tem?

- ☐ 70 reais.
- ☐ 60 reais.
- ☐ 80 reais.

C) Joana quer comprar 2 bonecas com o dinheiro que tem.Quanto receberá de troco se comprar as bonecas?

- ☐ 10 reais.
- ☐ Não terá troco a receber.
- ☐ 20 reais.

D) José tinha 10 reais. Ele queria comprar uma bola para dar de presente a sua irmã.Quanto falta para poder comprar a bola?

- ☐ 1 real.
- ☐ 2 reais.
- ☐ 3 reais.

ESTADO DE MATO GROSSO DO SUL
MUNICIPIO DE LADÁRIO
SECRETARIA MUNICIPAL DE EDUCAÇÃO
ESCOLA MUNICIPAL FAROL DO NORTE
DELIBERAÇÃO CME/LADÁRIO Nº38/2017 DE 13/11/2017
e-mail: emfaroldonorte@hotmail.com

PROBLEMATIZANDO

✎ Recorte, cole no caderno e resolva:

A) Num trem de ferro viajam 252 passageiros em pé e 180 sentados. Quantos passageiros há no trem?

Operação **Resposta**



B) Para uma festa, foram compradas 5 dúzias de rosas, 2 dezenas de hortênsias e 1 dezena de palmas. Quantas flores enfeitaram a festa?

Operação **Resposta**



C) Chiquinho coleciona carrinhos. Ele possui 5 dezenas de carros vermelhos, 70 amarelos, 30 azuis e 35 verdes. Quantos carrinhos Chiquinho possui em sua coleção?

Operação **Resposta**

D) Uma indústria tem 3 027 funcionários, que trabalham durante o dia, e 1 203 funcionários, que trabalham à noite. Quantos funcionários tem essa fábrica?

Operação **Resposta**

E) Uma farmácia vendeu 152 caixas de remédio na segunda-feira, 96 caixas de remédio na terça-feira. Quantas caixas de remédio foram vendidas nos dois dias?

Operação **Resposta**

ESTADO DE MATO GROSSO DO SUL
MUNICIPIO DE LADÁRIO
SECRETARIA MUNICIPAL DE EDUCAÇÃO
ESCOLA MUNICIPAL FAROL DO NORTE
DELIBERAÇÃO CME/LADÁRIO Nº38/2017 DE 13/11/2017
e-mail: emfaroldonorte@hotmail.com

Professor (a): **Sílvia Céspedes** Ensino Fundamental I

Atividade referente ao período de 01/07 a 15/07/2020. Quantidade de aulas: 08

Componente Curricular: **Matemática**

1) Ligue os numerais ao seu **antecessor**:

88	○ 36	87	○ 20
55	○ 33	54	○ 32
44	○ 87	43	○ 86
22	○ 54	21	○ 53
37	○ 43	36	○ 42
34	○ 21	33	○ 35

2) Registre os **numerais**:

- Cento e vinte e seis: _____
- Trinta e quatro: _____
- Quarenta: _____
- Trinta e oito: _____
- Noventa e cinco: _____

3. Escreva como se leem os números abaixo.

46 - _____
58 - _____
169- _____
277 - _____
351 - _____
483- _____
532- _____
621- _____

4) Arme e efetue as operações:

a-) 2531-125	b-) 3689 - 1753	c-) 2531+125	d-) 3689 + 1753

Fonte:educaçãoetransformação

ESTADO DE MATO GROSSO DO SUL
MUNICIPIO DE LADÁRIO
SECRETARIA MUNICIPAL DE EDUCAÇÃO
ESCOLA MUNICIPAL FAROL DO NORTE
DELIBERAÇÃO CME/LADÁRIO Nº38/2017 DE 13/11/2017
e-mail: emfaroldonorte@hotmail.com

Professor (a): **Sílvia Céspedes** Ensino Fundamental I

Atividade referente ao período de 01/07 a 15/07/2020. Quantidade de aulas: 08

Componente Curricular: **Matemática**

Assinale com um X as questões:

1-O número 9 806 pode ser escrito da seguinte forma:
(A) nove mil e oitenta e seis
(B) nove mil oitocentos e sessenta
(C) nove mil oitocentos e seis
(D) nove mil oitenta sessenta

2-Calcule o resultado de 425 + 1342.
(A) 5 592
(B) 4 592
(C) 2 767
(D) 1 767



3-O produto de 268 por 9 é:
(A) 1812
(B) 1842
(C) 2342
(D) 2412

4-Multiplique 63 por 12. O resultado é:
(A)656
(B)756
(C)186
(D) 75

5-O resultado da divisão de 381 por 3 é:
(A)130
(B)128
(C)127
(D)125

6-A altura de Karen é 1,45 metros e a de seu irmão é 1,27 metros. Quantos centímetros Karen tem a mais que seu irmão?
(A)28 cm
(B)18 cm
(C)15 cm
(D)12 cm

7-Caio gastou cinco reais e quatro centavos em uma loja. Esse valor é representado por:
(A)R$ 5,40
(B)R$ 5,04
(C)R$ 5,004
(D)R$ 504,00

Fonte:leitorzinho.com

ESTADO DE MATO GROSSO DO SUL
MUNICIPIO DE LADÁRIO
SECRETARIA MUNICIPAL DE EDUCAÇÃO
ESCOLA MUNICIPAL FAROL DO NORTE
DELIBERAÇÃO CME/LADÁRIO Nº38/2017 DE 13/11/2017
e-mail: emfaroldonorte@hotmail.com

Nome: _____ Turma: 4° Ano B Turno:

( ) Mat. (**X**) Vesp.

Professor (a): **Sílvia Céspedes** Ensino Fundamental I

Atividade referente ao período de 01/07 a 15/07/2020. Quantidade de aulas: 05

Componente Curricular: **Geografia**

***Atividades para serem realizadas durante o isolamento social, no combate ao Novo Coronavírus (COVID-19)**

Descobrindo a cidade como lugar de produção e consumo

Além dos serviços, há nas cidades dois espaços especiais: o de produção, que é a indústria; e o de consumo, que é o comércio.

As matérias primas industriais transformadas pelo trabalho e pela maquinaria podem ter várias procedências (de onde veio), inclusive do campo.

Os produtos industrializados são vendidos para o comércio de atacado e de varejo, dentro e fora do município.

Sobre o texto responda:

1)Converse com seus pais ou responsáveis sobre produtos sem os quais você não conseguiriam viver e sobre produtos que vocês consideram necessários. Liste 3 de cada.

2)Em sua opinião, o que é necessário para vivermos bem?

ESTADO DE MATO GROSSO DO SUL
MUNICIPIO DE LADÁRIO
SECRETARIA MUNICIPAL DE EDUCAÇÃO
ESCOLA MUNICIPAL FAROL DO NORTE
DELIBERAÇÃO CME/LADÁRIO Nº38/2017 DE 13/11/2017
e-mail: emfaroldonorte@hotmail.com

Fonte:educaçãoe transformação.com

Professor (a): **Sílvia Céspedes** Ensino Fundamental I

Atividade referente ao período de 01/07 a 15/07/2020. Quantidade de aulas: 05

Componente Curricular: **Geografia**

Bens de Consumo

- Produzem bens qe serão consumidos pela população e que são classificados em:

  - Duráveis: Automóveos, geladeiras e etc.

  - Não-duráveis: Alimentos, calçados, roupas e etc.

Cole figuras abaixo de produtos de consumo:Duráveis e Não duráveis.

Fonte:pesquisagoogle.com

ESTADO DE MATO GROSSO DO SUL
MUNICIPIO DE LADÁRIO
SECRETARIA MUNICIPAL DE EDUCAÇÃO
ESCOLA MUNICIPAL FAROL DO NORTE
DELIBERAÇÃO CME/LADÁRIO Nº38/2017 DE 13/11/2017
e-mail: emfaroldonorte@hotmail.com

Nome: _____ Turma: 4° Ano B Turno:

( ) Mat. (**X**) Vesp.

Professor (a): **Sílvia Céspedes** Ensino Fundamental I

Atividade referente ao período de 01/07 a 15/07/2020. Quantidade de aulas: 06

Componente Curricular: **História**

***Atividades para serem realizadas durante o isolamento social, no combate ao Novo Coronavírus (COVID-19)**

Em meio à epidemia de 16oronavírus que se espalhou pelo planeta,muitas dúvidas surgiram sobre o assunto ,entre elas a diferença do i**solamento,** que dura 14 dias,e a **"quarentena**",cujo período é de 40 dias. O método é utilizado para prevenir a proliferação do vírus.

Pandemia desperta ação positivas em todo o planeta

Estamos vivendo um momento muito difícil mas podemos perceber que mesmo diante disso pessoas do mundo inteiro têm investido em ações de empatia,solidariedade e diversão para ajudar umas as outras a enfrentar o novo corona vírus.

1)Que tal você também pensar em outras iniciativas? Reflita e apresente suas idéias.

a) O que você faz atualmente, para ajudar o próximo?

b) Agora conte-me como você está adaptando sua rotina nesse momento?

O QUE É CORONAVÍRUS?

Coronavírus são uma grande família que causam infecções respiratórias.O novo agente do coronavírus(COVÍD-19)foi descoberto em dezembro de 2019,na China.A doença pode causar infecções com sintomas semelhantes aos resfriados ou gripes leves,mas com risco de se agravarem,podendo se resultar em morte.

* Pesquise e responda atrás desta folha:

1)Como a COVID-19 é transmitida?

2)Como se prevenir?

3)Quais os sintomas das pessoas infectadas pela COVID-19?

Fonte:Modelodeensino.com.br

ESTADO DE MATO GROSSO DO SUL
MUNICIPIO DE LADÁRIO
SECRETARIA MUNICIPAL DE EDUCAÇÃO
ESCOLA MUNICIPAL FAROL DO NORTE
DELIBERAÇÃO CME/LADÁRIO Nº38/2017 DE 13/11/2017
e-mail: emfaroldonorte@hotmail.com

Nome: _____ Turma: 4º B Turno: ( ) Mat. (**X**) Vesp.

Professor (a): **Lucélia Verônica** Ensino Fundamental I

Atividade referente ao dia 02/07/2020 Quantidade de aulas: 01

Componente Curricular: **EDUCAÇÃO FÍSICA**

***Atividades para serem realizadas durante o isolamento social, no combate ao Novo Coronavírus (COVID-1)**

***Escreva o nome na atividade.**

Atividade

Esporte de Rede - Voleibol

Leia o texto.

Fundamentos do Voleibol.

- **Saque**

O saque é considerado o primeiro ataque, porque é o fundamento que dá início ao jogo ou ao rally - que compreende o momento em que o árbitro apita até a marcação de um ponto. Para executar um saque, o sacador segura a bola com uma mão e com a outra bate nela para a lançar por cima da rede em direção à quadra adversária.



- **Tipos de Saques:**

Saque por baixo: é o saque menos potente. O jogador deve segurar a bola com uma mão e bater-lhe com a outra, aberta ou fechada, fazendo um movimento de baixo para cima.

Saque por cima: é o saque mais utilizado e em que a bola é lançada com força. Nesse tipo de saque, o jogador deve lançar a bola para cima, com uma mão, e bater-lhe com a outra.

- **Ataque:** É chamado também de "cortada", no qual o jogador levará a bola ao campo do adversário, visando ganhar pontos;

- **Recepção:** pode ser o primeiro toque na bola que vai receber o saque do adversário, visando preparar a equipe para o ataque;

- **Levantamento:** o levantamento visa levar adequadamente e na melhor posição a bola para o jogador que irá fazer o ataque;

- **Bloqueio:** o bloqueio é feito por um ou mais jogadores que se preparam para defender o ataque do time adversário, podendo até mesmo rebater a bola.

Há diversas técnicas e formas que esses movimentos são realizados no voleibol. Todos eles visam manter a bola no ar, em constante ligação de passe entre os jogadores do mesmo time.

Fonte: https://www.todamateria.com.br/fundamentos-voleibol/ Acesso em 04/07/2020 e https://www.todoestudo.com.br/educacao-fisica/voleibol Acesso em 04/07/2020.

ESTADO DE MATO GROSSO DO SUL
MUNICIPIO DE LADÁRIO
SECRETARIA MUNICIPAL DE EDUCAÇÃO
ESCOLA MUNICIPAL FAROL DO NORTE
DELIBERAÇÃO CME/LADÁRIO Nº38/2017 DE 13/11/2017
e-mail: emfaroldonorte@hotmail.com

Nome: _____ Turma: 4º B Turno: ( ) Mat. (**X**) Vesp.

Professor (a): **Lucélia Verônica** Ensino Fundamental I

Componente Curricular: **EDUCAÇÃO FÍSICA**

***Atividades para serem realizadas durante o isolamento social, no combate ao Novo Coronavírus (COVID-1)**

Atividade

Esporte de Rede - Voleibol

1) O que é saque?

2) Quais são os tipos de saques?

3) Destaque no texto as respostas das perguntas abaixo usando lápis coloridos para cada resposta.
   a) O que é ataque?
   b) O que é levantamento?
   c) O que é Bloqueio?

4) Marque a imagem correspondente:
   a) A manchete é um recurso em que o jogador recebe a bola com os antebraços esticados e as duas mãos unidas pelos polegares. Serve para recepcionar saques, bem como para defender ataques e para não deixar uma bola que está abaixo da cintura do jogador cair no chão.



( )



( )



( )



( )

Elaboração própria: Prof. Lucélia Verônica.

Fonte: https://www.todamateria.com.br/fundamentos-voleibol/ Acesso em 03/07/2020.

ESTADO DE MATO GROSSO DO SUL
MUNICIPIO DE LADÁRIO
SECRETARIA MUNICIPAL DE EDUCAÇÃO
ESCOLA MUNICIPAL FAROL DO NORTE
DELIBERAÇÃO CME/LADÁRIO Nº38/2017 DE 13/11/2017
e-mail: emfaroldonorte@hotmail.com

Nome: _____ Turma: 4º B Turno: ( ) Mat. (**X**) Vesp.

Professor (a): **Lucélia Verônica** Ensino Fundamental I

Atividade referente ao dia 09/07/2020 e 14/07/2020 Quantidade de aulas: 02

Componente Curricular: **EDUCAÇÃO FÍSICA**

***Enviar fotos ou vídeos para o nosso grupo.**
Atividade

Esporte de Rede Voleibol.

1) Fazer os alongamentos ilustrados abaixo ficando 20 segundos em cada posição.



2) Bola na parede. Você pode utilizar a bola disponível em casa grande ou pequena **Regras: 1-** Sentado no chão ou em pé de frente para parede, você irá jogar a bola que ela quique no chão e bata na parede e volte em suas mãos. **2-** Em seguida realizar o mesmo procedimento, jogando com a mão direita e pegando com a esquerda. **3-** Jogando com a mão esquerda e pegando com a direita. **4-** Jogar a bola com as duas mãos mais distante da parede.



3) Vôlei com bexiga.

O aluno vai precisar de bexiga um barbante ou outro material disponível em casa.

Regras: Esticar o barbante de um lado e do outro, jogar com outra pessoa sem deixar a bola cair no chão.



Fonte: https://www.tempojunto.com/2017/10/09/como-brincar-de-paredao/ Acesso em 03/07/2020.
:https://www.google.com/search?q=alongamento+para+crian%C3%A7a+&tbm=isch&ved=2ahUKEwia Acesso em 03/07/2020.
https://www.smartkids.com.br/colorir/desenho-brincadeiras-com-bola-volei . Elaboração Própria: Prof. Lucélia Verônica.

ESTADO DE MATO GROSSO DO SUL
MUNICIPIO DE LADÁRIO
SECRETARIA MUNICIPAL DE EDUCAÇÃO
ESCOLA MUNICIPAL FAROL DO NORTE
DELIBERAÇÃO CME/LADÁRIO Nº38/2017 DE 13/11/2017
e-mail: emfaroldonorte@hotmail.com

Nome: _____ Turma: 4º B Turno: ( ) Mat. (**X**) Vesp.

Professor (a): **Gregório Cosme de Arruda Gomes** Ensino Fundamental I

Atividade referente ao dia: 01/07 a 10/07/2020 Quantidades de aulas: 05

Componente Curricular: **Ciências**

***Atividades para serem realizadas durante o isolamento social, no combate ao Novo Coronavírus (COVID-19)**

Atividades 01 e 02.

Vamos colorir os usos da água!



Atividades 04 /05 e 06.



Blog conhecimentos e transformação.

ESTADO DE MATO GROSSO DO SUL
MUNICIPIO DE LADÁRIO
SECRETARIA MUNICIPAL DE EDUCAÇÃO
ESCOLA MUNICIPAL FAROL DO NORTE
DELIBERAÇÃO CME/LADÁRIO Nº38/2017 DE 13/11/2017
e-mail: emfaroldonorte@hotmail.com

Nome: _____ Turma: 4º B Turno: ( ) Mat. (**X**) Vesp.

Professor (a): **Gregório Cosme de Arruda Gomes** Ensino Fundamental I

Atividade referente ao dia: 06/07, 11/07 e 13/07/2020 Quantidades de aulas: 03

Componente Curricular: **Educação, Cidadania e Direitos Humanos.**

***Atividades para serem realizadas durante o isolamento social, no combate ao Novo Coronavírus (COVID-19)**

DIREITOS HUMANOS

1) Associe a 2ª coluna de acordo com a 1ª, identificando o desenho com o artigo a que se refere.

A) **Art 1º** – Todos os homens nascem livres e iguais em dignidade e direitos.

B) **Art 3º** – Todo homem tem direito à vida, à liberdade e à segurança.

C) **Art 4º** – Ninguém será mantido em escravidão ou servidão.

D) **Art 5º** – Ninguém será submetido à tortura, nem a tratamento ou castigo cruel, desumano ou degradante.

E) **Art 6º** – Todo homem tem direito de ser, em todos os lugares, reconhecido como pessoa perante a lei.

F) **Art 18º** – Todo homem tem direito à liberdade de pensamento, consciência e religião.



Blog conhecimentos e transformação.

ESTADO DE MATO GROSSO DO SUL
MUNICIPIO DE LADÁRIO
SECRETARIA MUNICIPAL DE EDUCAÇÃO
ESCOLA MUNICIPAL FAROL DO NORTE
DELIBERAÇÃO CME/LADÁRIO Nº38/2017 DE 13/11/2017
e-mail: emfaroldonorte@hotmail.com

Nome: _____ Turma:4° Ano B Turno: ( ) Mat. (**X**) Vesp.

Professor (a): **Suziane Luzia** Ensino Fundamental I

Componente Curricular: **Arte**

***Atividades para serem realizadas durante o isolamento social, no combate ao Novo Coronavírus (COVID-19)**

DESENHO COM LINHAS

As linhas podem ser aplicadas de várias maneiras e com belos efeitos. Veja:



1. Crie **em seu caderno** um desenho grande, com linhas; utilize o lápis de cor, caneta hidrocor; faça bem colorido e com belos efeitos.

2. Crie em seu caderno um desenho com o engrossamento das linhas, utilize caneta hidrocor preta ou lápis preto.

Disponível em: apostila-de-arte-ef-150223121530-conversion-gate01