Nome:_____

Data:_____/_____/2020

Ano:_____ Turma:_____

Professor:_____

Atividades Pedagógicas Complementares

Componente Curricular:_____

ATIVIDADE 13







ATIVIDADE 14

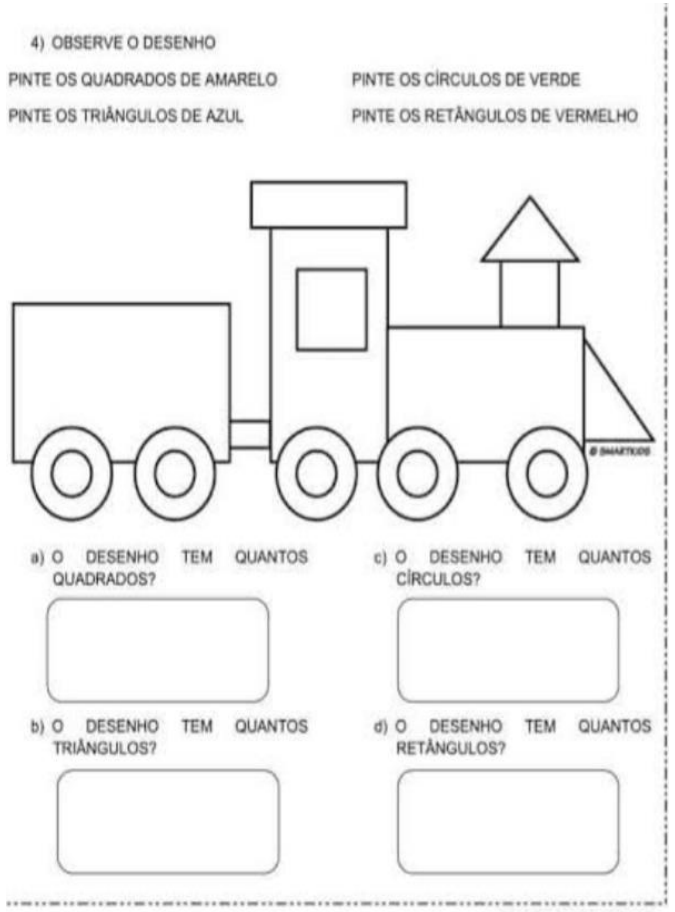

ATIVIDADE 15

CADA CONJUNTO UMA QUANTIDADE

1) CIRCULE O NUMERAL CORRESPONDENTE AOS ELEMENTOS DE CADA CONJUNTO.



6 - 9 - 3 - 1



2 - 7 - 4 - 5



8 - 6 - 9 - 7

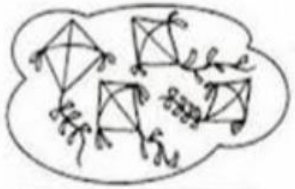

4 - 3 - 5 - 1

2) COMPLETE OS CONJUNTOS PARA QUE FIQUEM COM AS QUANTIDADES PEDIDAS.



ATIVIDADE 16

Ligue os objetos a suas formas correspondentes ! Boa diversão!

1. 

2. 

3. 

4. 

a. 

b. 

c. 

d. 

ATIVIDADE 17



ATIVIDADE 18



ATIVIDADE 19

Conte quantas figuras tem em cada conjunto e pinte o quadrinho com o número correspondente.



3	6
5	4



5	4
3	6



6	5
4	3

ATIVIDADE 20

VAMOS DESENHAR A QUANTIDADE PEDIDA?

4 - QUATRO	1 - UM	8 - OITO
2 - DOIS	9 - NOVE	5 - CINCO
3 - TRÊS	6 - SEIS	7 - SETE