Nome:_____

Data:_____/_____/2020

Ano:_____ Turma:_____

Professor:_____

Atividades Pedagógicas Complementares

Componente Curricular:_____

PERCURSO MALUCO

COMPLETE O PERCURSO EM ORDEM DECRESCENTE E AJUDE O MENINO A ENCONTRAR SUA BOLA.



50	49			46	45	
						43
33	34		36		38	
					41	
31			28		26	25
					23	22
11		13	14		16	17
					19	
9		7			4	3



SECRETARIA MUNICIPAL DE EDUCAÇÃO
Avenida 14 de Março, 656 – Centro – Ladário – MS – CEP: 79370-000
Endereço Eletrônico: educaladario@brturbo.com.br
Telefone para contato: 67 3226 2034

ESTADO DE MATO GROSSO DO SUL
MUNICÍPIO DE LADÁRIO
SECRETARIA MUNICIPAL DE EDUCAÇÃO

Nome:_____

Data:_____/_____/2020

Ano:_____ Turma:_____

Professor:_____

FAÇA UM CIRCULO NA CESTA COM NOVE LARANJAS.





DE ACORDO COM OS NUMERAIS,PINTE A QUANTIDADE INDICADA

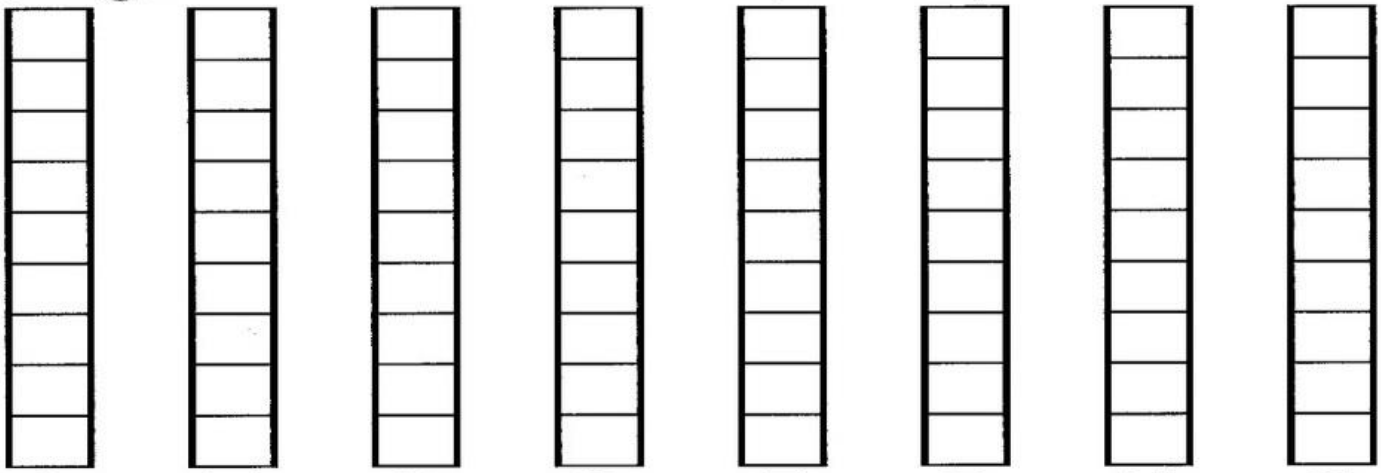

SECRETARIA MUNICIPAL DE EDUCAÇÃO
Avenida 14 de Março, 656 – Centro – Ladário – MS – CEP: 79370-000
Endereço Eletrônico: educaladario@brturbo.com.br
Telefone para contato: 67 3226 2034

ESTADO DE MATO GROSSO DO SUL
MUNICÍPIO DE LADÁRIO
SECRETARIA MUNICIPAL DE EDUCAÇÃO

Nome:_____

Data:_____/_____/2020

Ano:_____ Turma:_____

Professor:_____

VAMOS RESOLVER O QUE SE PEDE?



QUANTAS FRUTAS TEM?

a) NA PRIMEIRA CESTA: ☐

b) NA SEGUNDA CESTA: ☐

c) NA TERCEIRA CESTA: ☐

NA PRIMEIRA CESTA TEM:



NA SEGUNDA CESTA TEM:

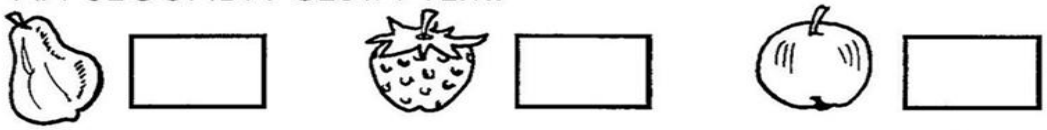

NA TERCEIRA CESTA TEM:

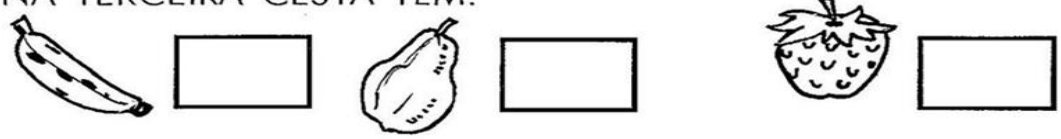

AO TODO, AS CESTAS TÊM: ☐ FRUTAS.

SECRETARIA MUNICIPAL DE EDUCAÇÃO
Avenida 14 de Março, 656 – Centro – Ladário – MS – CEP: 79370-000
Endereço Eletrônico: educaladario@brturbo.com.br
Telefone para contato: 67 3226 2034

ESTADO DE MATO GROSSO DO SUL
MUNICÍPIO DE LADÁRIO
SECRETARIA MUNICIPAL DE EDUCAÇÃO

Nome:_____

Data:_____/_____/2020

Ano:_____ Turma:_____

Professor:_____

Calculando



1.Resolva as adições abaixo:

5+6= ☐	9+5= ☐
2+1= ☐	3+8= ☐
7+1= ☐	9+9= ☐
3+2= ☐	7+9= ☐
8+8= ☐	6+4= ☐
6+6= ☐	2+5= ☐
6+5= ☐	5+7= ☐
9+1= ☐	4+9= ☐
9+4= ☐	8+4= ☐
5+5= ☐	9+3= ☐
4+1= ☐	3+6= ☐
4+6= ☐	9+4= ☐

SECRETARIA MUNICIPAL DE EDUCAÇÃO
Avenida 14 de Março, 656 – Centro – Ladário – MS – CEP: 79370-000
Endereço Eletrônico: educaladario@brturbo.com.br
Telefone para contato: 67 3226 2034

ESTADO DE MATO GROSSO DO SUL
MUNICÍPIO DE LADÁRIO
SECRETARIA MUNICIPAL DE EDUCAÇÃO

Nome:_____

Data:_____/_____/2020

Ano:_____ Turma:_____

Professor:_____

OBSERVE OS DESENHOS E FAÇA COMO O MODELO.

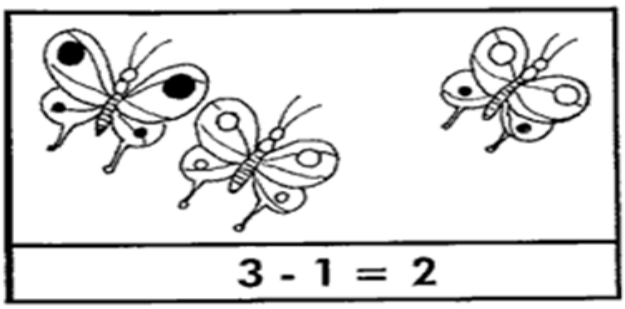

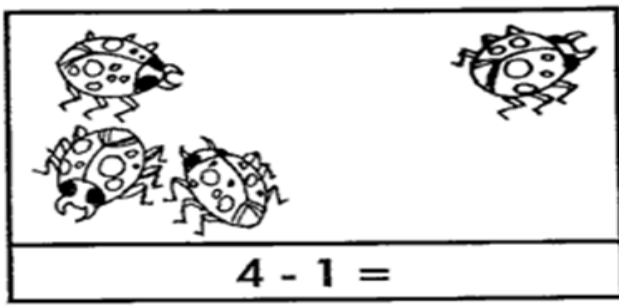

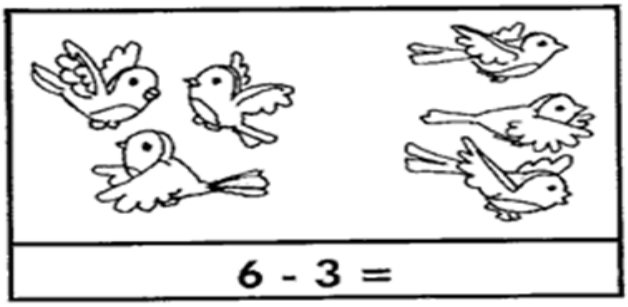



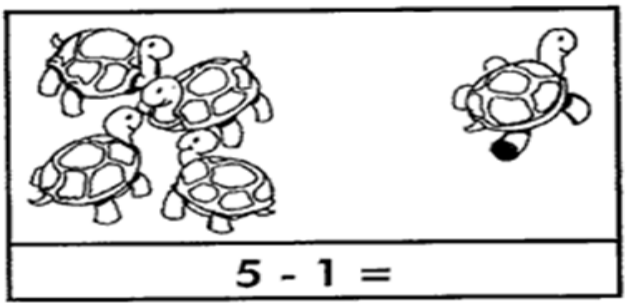





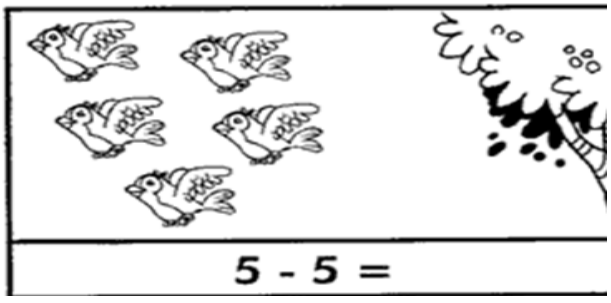

SECRETARIA MUNICIPAL DE EDUCAÇÃO
Avenida 14 de Março, 656 – Centro – Ladário – MS – CEP: 79370-000
Endereço Eletrônico: educaladario@brturbo.com.br
Telefone para contato: 67 3226 2034

ESTADO DE MATO GROSSO DO SUL
MUNICÍPIO DE LADÁRIO
SECRETARIA MUNICIPAL DE EDUCAÇÃO

Nome:_____

Data:_____/_____/2020

Ano:_____ Turma:_____

Professor:_____



HORIZONTAL OU VERTICAL?

1) OBSERVE AS PEÇAS DO DOMINÓ E REGISTRE OS FATOS EM CADA QUADRO, CONFORME O MODELO.

FORMA VERTICAL



$$\begin{array}{r} 5 \\ +\ 0 \\ \hline 5 \end{array}$$

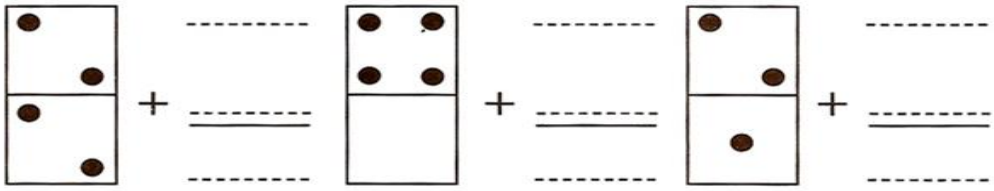

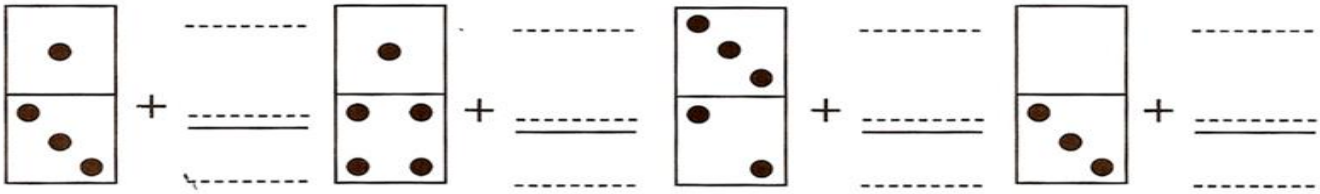

FORMA HORIZONTAL



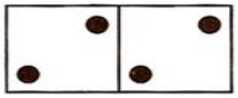

2 + 2 = 4

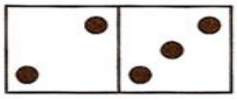

_____+_____= _____

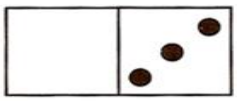

_____+_____= _____

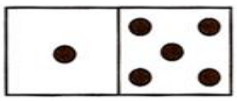

_____+_____= _____



_____+_____= _____

SECRETARIA MUNICIPAL DE EDUCAÇÃO
Avenida 14 de Março, 656 – Centro – Ladário – MS – CEP: 79370-000
Endereço Eletrônico: educaladario@brturbo.com.br
Telefone para contato: 67 3226 2034