ESCOLA: MARQUÊS DE TAMANDARÉ

PROFESSOR (A): Luciene M. Batista de almeida **TURMA (S): 3º A**
ENSINO FUNDAMENTAL **TURNO:** Matutino
ALUNO (A):

COMPONENTE CURRICULAR: Língua Portuguesa.
PERÍODO: 25/05/2020 A 06/06/2020
QUANTIDADE DE AULAS:02 aulas.

Objeto de conhecimento: Texto:Chico Cochicho.
Habilidade: EF03LP03.

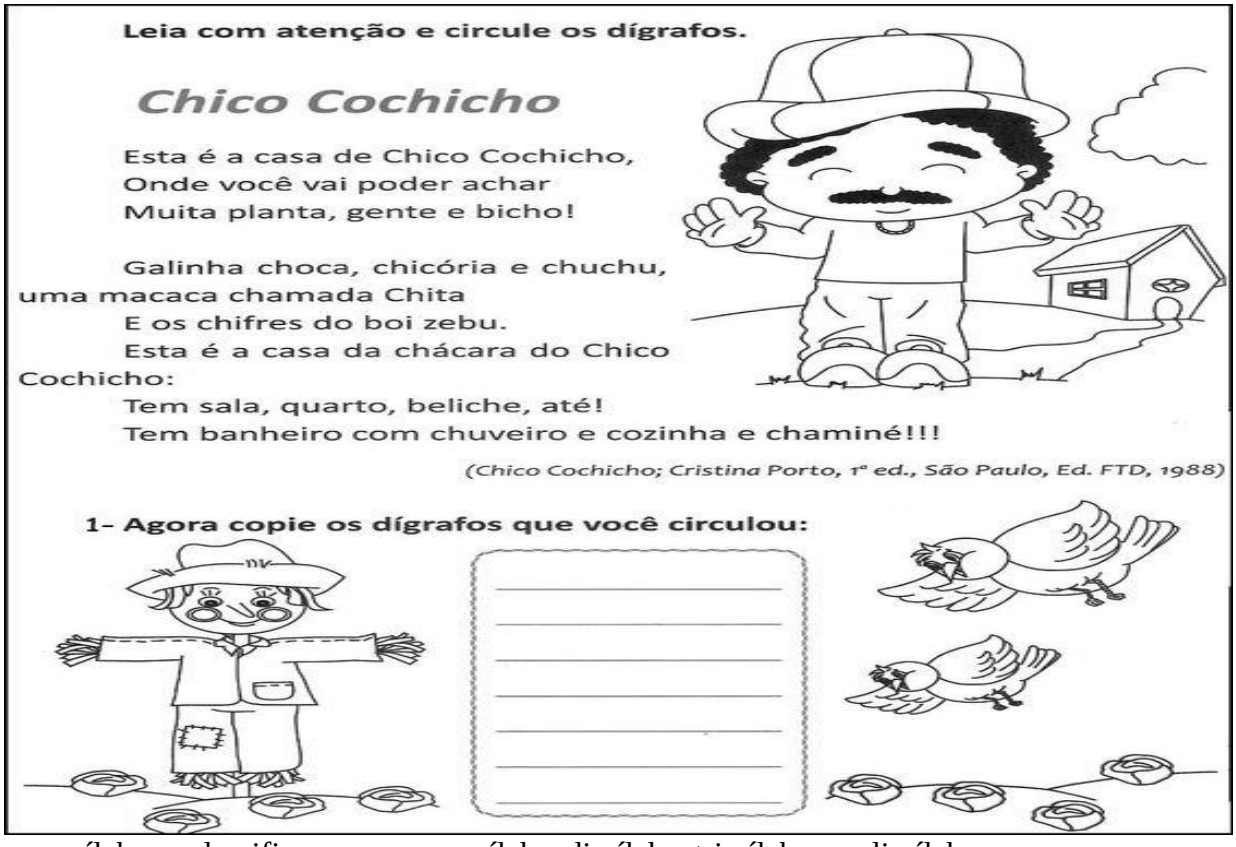

Leia com atenção e circule os dígrafos.

Chico Cochicho

Esta é a casa de Chico Cochicho,
Onde você vai poder achar
Muita planta, gente e bicho!

Galinha choca, chicória e chuchu, uma macaca chamada Chita
E os chifres do boi zebu.
Esta é a casa da chácara do Chico Cochicho:
Tem sala, quarto, beliche, até!
Tem banheiro com chuveiro e cozinha e chaminé!!!

(Chico Cochicho; Cristina Porto, 1ª ed., São Paulo, Ed. FTD, 1988)

1- Agora copie os dígrafos que você circulou:

2- Separe as sílabas e classifique em: monossílaba, dissílaba, trissílaba e polissílaba

a) cochicho_____
b) bicho_____
c) galinha_____
d) banheiro_____
e) chuveiro_____
f) chá_____
g) beliche_____

ESCOLA: MARQUÊS DE TAMANDARÉ

PROFESSOR (A): Luciene M. Batista de almeida **TURMA (S): 3ªA**
ENSINO FUNDAMENTAL **TURNO:** Matutino.
ALUNO (A):

COMPONENTE CURRICULAR:Língua Portuguesa.
PERÍODO: 25/05/2020 A 06/06/2020
QUANTIDADE DE AULAS:02 aulas.

h) passarinho_____

⇒ **Objeto de conhecimento:SEPARE AS SÍLABAS.**
⇒ **Habilidade: EF03LP05**

1 - **Observe os modelos e separe as sílabas, dentro dos quadradinhos.**

a) coelho	co	e	lho	
b) leite	lei	te		
c) canoa				
d) caixa				
e) meigo				
f) peixe				
g) faixa				
h) poeta				
i) encaixar				
j) trouxa				
k) moela				
l) amêndoa				

2-Pinte os quadrinhos do exercício número 1, como se pede.

Verde-claro **-** Para palavras em que as vogais do encontro vocálicos ficaram juntas, como na palavra **lei**-te.

Amarelo* –** Para palavras em que as vogais do encontro vocálico ficaram separadas como na palavra ***co- e- lho.

3-Separe as sílabas destas palavras:

a) casa _____
b) pastel_____
c) morango _____
d) zumbido_____
e) espaço_____
f) livro_____
g) brasa_____
h) raposa_____
i) tesoura_____
j)cavalo _____

ESCOLA: MARQUÊS DE TAMANDARÉ

PROFESSOR (A): Luciene M. Batista de almeida **TURMA (S): 3ª A**
ENSINO FUNDAMENTAL **TURNO:** Matutino
ALUNO (A):

COMPONENTE CURRICULAR: Língua Portuguesa.
PERÍODO: 25/05/2020 A 06/06/2020
QUANTIDADE DE AULAS:03 aulas.

⇒ **Objeto de conhecimento:separação e classificação das sílabas**
⇒ **Habilidade: EF03LP05**

4-Distribua as palavras do exercício número 3 neste quadro, conforme o numero de sílabas.

Monossílaba 1 sílaba	***Dissílaba 2 sílabas***	***Trissílaba 3 sílabas***	***Polissílaba 4 ou mais sílabas***

5-Faça como no exemplo e separe as sílabas.

a) milho mi – lho
b) cacho ca- cho
c) ninho_____
d) toalha_____
e) pinho_____
f) folha_____
g) telha_____
h) tacho_____
i) molhado_____
j) caminho _____
k) esculacho_____
l) galho _____

6-Separe e classifique as sílabas como nos modelos.

cachorro	ca- chor – ro trissílaba
osso	os- so dissílaba
álcool	ál – co – ol trissílaba
guerra	
sucesso	
cooperar	
carro	
professor	
coordenador	
barro	
zoológico	

ESCOLA: MARQUÊS DE TAMANDARÉ

PROFESSOR (A): Luciene M. Batista de almeida **TURMA (S): 3º A**
ENSINO FUNDAMENTAL **TURNO:** Matutino.
ALUNO (A):

COMPONENTE CURRICULAR:Língua Portuguesa.
PERÍODO: 25/05/2020 A 06/06/2020
QUANTIDADE DE AULAS:02 aulas.

⇒ **Objeto de conhecimento:Trabalhando sílabas**
Habilidade: EF03LP05

1- Em cada quadradinho, circule o nome que **não** tem a mesma quantidade de sílabas que os demais.

A		
Camila	Marcela	Silvana
Beatriz	Denise	Gisele
Fernanda	Teresa	Mariana

B		
Pedro	Carlos	André
José	Édson	Mauro
César	Rafael	Paulo

2- Separe as sílabas das palavras.
a-secretária
b─ fluído
c─ cadeado
d─ pássaro
e – terra
f─ prato
g – psicológico
h– pneumático
i─ fruta
j – rainha
l – substância
m – gratuito
n – atualização

ESCOLA: MARQUÊS DE TAMANDARÉ

PROFESSOR (A): Luciene M. Batista de almeida **TURMA (S): 3ªA**
ENSINO FUNDAMENTAL **TURNO:** Matutino.
ALUNO (A):

COMPONENTE CURRICULAR: Língua Portuguesa.
PERÍODO: 25/05/2020 A 06/06/2020
QUANTIDADE DE AULAS:03 aulas.

⇒ **Objeto de conhecimento:Texto:A CASA DA DONA RATA.**
⇒ **Habilidade: EF03LP07**

Leia a poesia:

A casa de Dona Rata

Na casa de Dona Rata,
tem uma enorme goteira.
Quando chove, ninguém dorme,
acordado a noite inteira.
A goteira é tão grande
que molha a sala e a cozinha,
quarto, banheiro, despensa,
e mais de vinte ratinhas.
Dona Rata contratou
um ratão para o conserto:
_ De que adiante eu subir,
Se o telhado não tem jeito?
_ Não tem jeito, seu Ratão?
Explique então esse caso.
_ Sua casa, Dona Rata,
não tem telha nem telhado.

Sérgio Caparelli

1. QUAL É O TÍTULO DO TEXTO?

R - _____

2. QUAIS SÃO OS PERSONAGENS DO TEXTO?

R - _____

_____

3. QUAL É O NOME DO AUTOR DO TEXTO?

R - _____

4. QUAL É O PROBLEMA DA CASA DE DONA RATA?R -

_____

5. QUANDO CHOVE O QUE ACONTECE NA CASA DE DONA RATA?

R_____

_____

_____

6. QUAIS SÃO AS PARTES DA CASA DE DONA RATA QUE FICAM MOLHADAS POR CAUSA DA GOTEIRA?

R_____

_____

_____

7. PARA QUE DONA RATA CONTRATOU UM RATÃO?

R_____

_____

8. POR QUE O TELHADO DE DONA RATA NÃO TEM JEITO?

R_____

_____

9. QUANTAS RATINHAS TÊM NA CASA?

R_____

_____

10. EXPLIQUE ONDE VOCÊ ACHA QUE É A CASA DE DONA RATA.

R_____

_____

_____

_____

Objeto de conhecimento: Atividades envolvendo adição.
Habilidade: EF03MA01

1. Efetue as somas.

a) 4 + 2 + 3 = ____

b) 12 + 26 = ____

c) 64 + 12 = ____

d) 3 + 7 + 8 = ____

e) 17 + 81 = ____

f) 35 + 54 = ____

2. Observe a ilustração. Quantas laranjas há no total? Arme e efetue a conta.

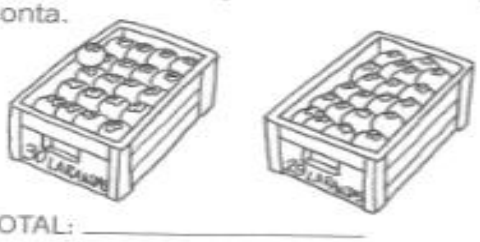

TOTAL: _____

3. Quantas frutas há no total, somando as duas caixas? Arme e efetue a conta.



TOTAL: _____

⇒ **Objeto de conhecimento:Trabalhando adição,dezenas e unidades.**

⇒ **Habilidade: EF03MA05**

1- Observe a tabela abaixo e responda e responda:

Lucas	10 anos
Carla	6 anos
Bruno	9 anos
Maria	7 anos

a) Quem é mais novo?

( ) Lucas ( ) Carla ( )Bruno

b) Qual idade da criança mais velha?

( )10 anos ( )9 anos ( )6 anos



Efetue as adições:

D	U
5	7
+2	8

D	U
1	9
+3	4

D	U
5	3
+1	7

D	U
4	4
+2	9

D	U
6	6
+1	4

D	U
1	5
+1	5

D	U
1	8
+8	5

D	U
3	9
+	7

Calcule e complete:

28	45	52	69	25	18
+16	+37	+19	+13	+25	+18

ESCOLA: MARQUÊS DE TAMANDARÉ

PROFESSOR (A): Luciene M. Batista de almeida **TURMA (S): 3ª A**
ENSINO FUNDAMENTAL **TURNO:** Matutino.
ALUNO (A):

COMPONENTE CURRICULAR: Matemática
PERÍODO: 25/05/2020 A 06/06/2020
QUANTIDADE DE AULAS:02 aulas.

⇒ **Objeto de conhecimento:trabalhando adição**
⇒ **Habilidade: EF03MA05**

1- Observe a tabela de preços do material escolar e responda:

Material	Preço R$
Borracha	0,50
Lápis	0,25
Canetinhas 12 cores	4,50
Lápis de cor 12 cores	3,00
Tesoura sem ponta	2,50
Caderno 96 folhas	3,50
Estojo	10,00
Mochila	30,00

A) Qual o material mais barato? ( ) Estojo ( ) Lápis ( ) canetinhas

B) Qual o material mais caro? ( ) borracha ( ) caderno ( )mochila



ESCOLA: MARQUÊS DE TAMANDARÉ

PROFESSOR (A): Luciene M. Batista de almeida **TURMA (S): 3ª A**
ENSINO FUNDAMENTAL **TURNO:Matutino**
ALUNO (A):

COMPONENTE CURRICULAR: História.
PERÍODO: 25/05/2020 A 06/06/2020
QUANTIDADE DE AULAS:02 aulas.

Objeto de conhecimento:Selecionar por meio de consultas e registros sobre a história da escola.
Habilidade: EF03HI02

⇒ ***Aula 01 História***

1- Você conhece sua escola?

a) Escreva o nome da sua escola :

_____

_____

b) Endereço da sua escola :

_____

_____

2- Pesquise a história da sua escola seguindo as orientações:

a) Em que ano foi construída?

b) Qual foi o dia da inauguração?

c) Quem escolheu o nome?

d) Qual é o significado do nome da escola?

e) Quantos alunos ela comporta?

f) Alguma coisa mudou na escola desde a sua inauguração?

ESCOLA: MARQUÊS DE TAMANDARÉ

PROFESSOR (A): Luciene M. Batista de almeida **TURMA (S): 3ª A**
ENSINO FUNDAMENTAL **TURNO:**
ALUNO (A):

COMPONENTE CURRICULAR: História
PERÍODO: 25/05/2020 A 06/06/2020
QUANTIDADE DE AULAS:02 aulas.

Objeto de conhecimento:Fazer registros sobre A ESCOLA.
Habilidade: EF03HI02

⇒ ***Aula 02 História***

1- Complete:

a) O diretor ou a diretora da minha escola chama-se_____
_____

b) Estudo no_____ano_____, no período da _____.

c) Na minha classe há _____ alunos.

d) O nome do(a) meu(minha) professor(a) é_____
_____

2- Marque um X nos nomes das dependências que a sua escola possui

	secretaria		refeitório
	pátio		laboratório
	biblioteca		piscina
	sala do supervisor		sala dos professores
	diretoria		consultório dentário
	salas de aula		parque
	banheiros		auditório
	quadra de esportes		jardim
	cantina		sala de tecnologia
	cozinha		

3) Complete corretamente:
a) A merenda é preparada na_____

b)Brincamos no _____.

c)Os livros para pesquisa ficam na_____

d)A merenda é servida no_____

e)As carteiras dos alunos ficam nas _____

f)Praticamos esportes na_____

ESCOLA: MARQUÊS DE TAMANDARÉ

PROFESSOR (A): Luciene M. Batista de almeida **TURMA (S): 3ª A**
ENSINO FUNDAMENTAL **TURNO:** Matutino.
ALUNO (A):

COMPONENTE CURRICULAR: História.
PERÍODO: 25/05/2020 A 06/06/2020
QUANTIDADE DE AULAS:01

Objeto de conhecimento:Conhecer sobre o funcionamento da ESCOLA.
Habilidade:EF03HI02

1- Ligue cada pessoa à sua atividade na escola:

Diretor ou diretora	cuida dos documentos da escola.
Professores	cuida da limpeza da escola.
Secretária	dirige a escola.
Funcionários	ensinam e orientam os alunos.
Alunos	preparam a merenda dos alunos
Merendeiras	estudam

2- Complete :
a) Estudo numa escola_____(pública/particular)
b) Ela tem _____(um andar/mais de um andar)
c) Ela é _____(grande/pequena)
d) Ela fica_____de minha casa. (perto/longe)
e) Estudo no horário da _____(manã/tarde).

3- Desenhe o que você mais gosta na sua sala de aula.

ESCOLA: MARQUÊS DE TAMANDARÉ

PROFESSOR (A): Luciene M. Batista de almeida **TURMA (S): 3ª A**
ENSINO FUNDAMENTAL **TURNO:** Matutino.
ALUNO (A):

COMPONENTE CURRICULAR:Geografia.
PERÍODO: 25/05/2020 A 06/06/2020
QUANTIDADE DE AULAS:

Objeto de conhecimento:A PAISAGEM
Habilidade: EF03GE04.

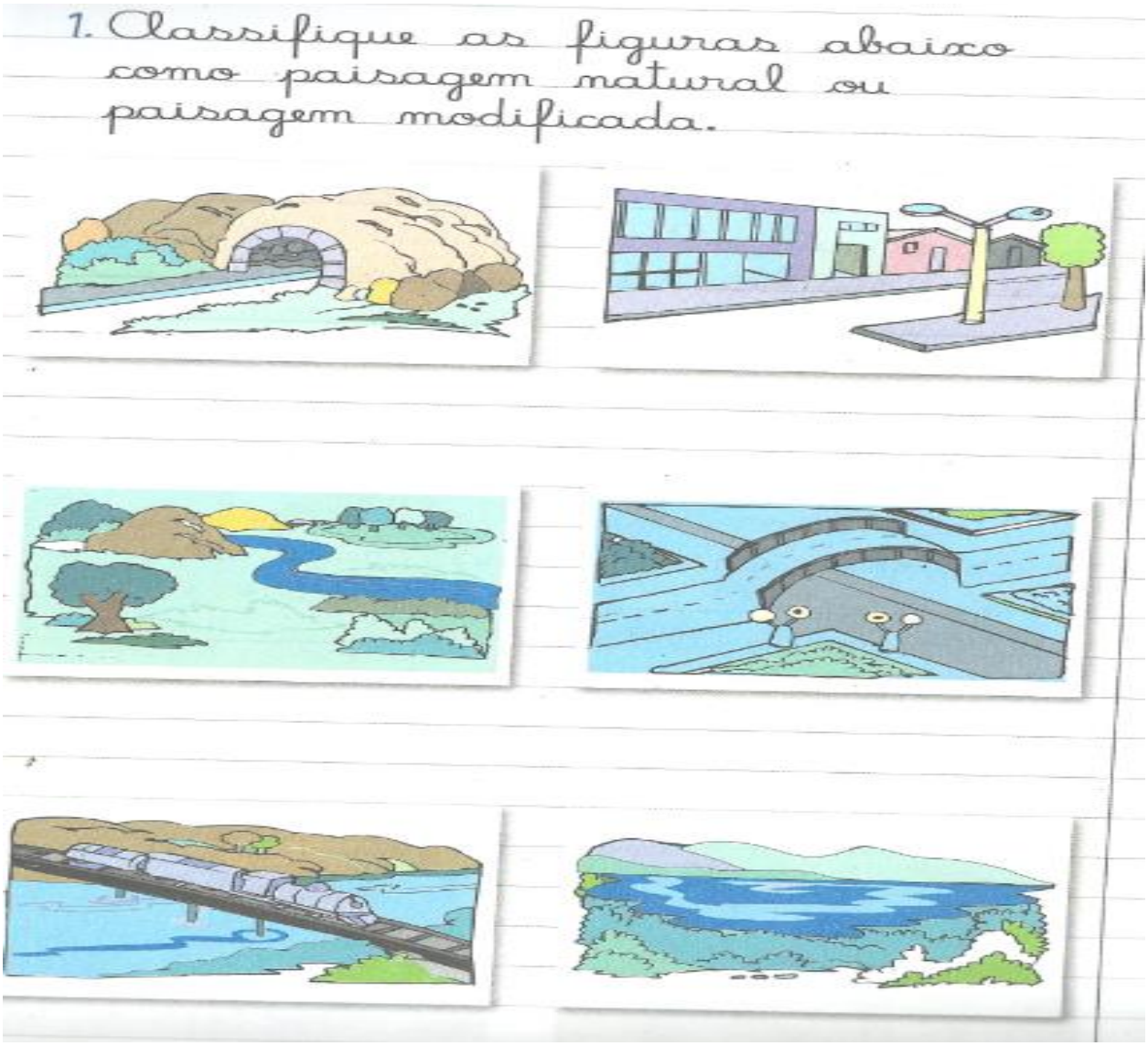

ESCOLA: MARQUÊS DE TAMANDARÉ

PROFESSOR (A): Luciene M. Batista de almeida **TURMA (S): 3ª A**
ENSINO FUNDAMENTAL **TURNO:Matutino.**
ALUNO (A):

COMPONENTE CURRICULAR: Geografia.
PERÍODO: 25/05/2020 A 06/06/2020
QUANTIDADE DE AULAS:02

Objeto de conhecimento:A PAISAGEM NATURAL E A PAISAGEM MODIFICADA.
Habilidade:EF03GE04.

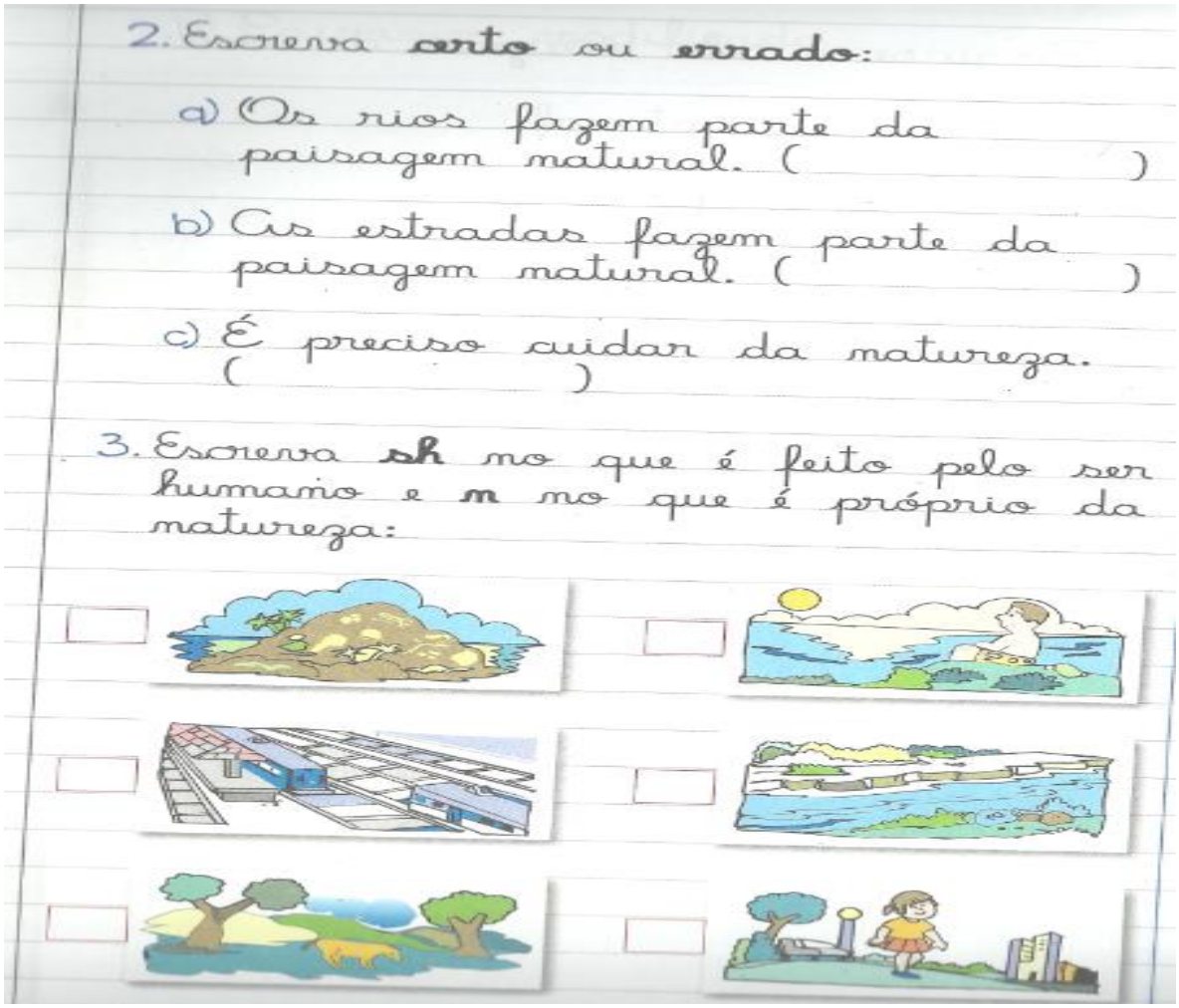

ESCOLA: MARQUÊS DE TAMANDARÉ

PROFESSOR (A): Luciene M. Batista de almeida **TURMA (S): 3ª A**
ENSINO FUNDAMENTAL **TURNO:** Matutino.
ALUNO (A):

COMPONENTE CURRICULAR: Geografia.
PERÍODO: 25/05/2020 A 06/06/2020
QUANTIDADE DE AULAS:02

Objetivo de conhecimento:A PAISAGEM
Habilidade:EF03GE04.

1- ***Descreva a paisagem de sua cidade.***

2- ***Agora, desenhe essa paisagem.***

ESCOLA: MARQUÊS DE TAMANDARÉ

PROFESSOR (A): Luciene M. Batista de almeida **TURMA (S): 3ª A**
ENSINO FUNDAMENTAL **TURNO:** Matutino.
ALUNO (A):

COMPONENTE CURRICULAR:Geografia.
PERÍODO: 25/05/2020 A 06/06/2020
QUANTIDADE DE AULAS:02

Objeto de conhecimento:A PAISAGEM NATURAL E A PAISAGEM MODIFICADA
Habilidade:EF03GE04.

1- Escreva:
a) Os nomes de alguns elementos naturais que você vê em seu caminho de casa até a escola.

b) Os nomes de alguns elementos construídos pelo ser humano que você vê em seu caminho da escola até sua casa.

2) pesquise e cole imagens de uma:
a) Paisagem natural
b) Paisagem modificada