ESTADO DE MATO GROSSO DO SUL
MUNICÍPIO DE LADÁRIO
SECRETARIA MUNICIPAL DE EDUCAÇÃO

Nome:_____

Data:_____/_____/2020

Ano:_____ Turma:_____

Professor:_____

Atividades Pedagógicas Complementares

Componente Curricular:_____

Situações problemas

1) Papai comprou 13 quilos de feijão e depois comprou mais 4 quilos. Quantos quilos de feijão ele comprou?
R.

2) Em uma caixa havia 68 morangos. 23 estragaram. Quantos morangos sobraram na caixa?
R.

3) Em uma creche havia 78 pratos para servir a refeição escolar. 14 pratos foram quebrados. Quantos pratos há?
R.

4) Rita comprou 15 pirulitos e ganhou mais 4 de sua amiga Tati. Com quantos pirulitos Rita ficou?
R.

5) Em uma fruteira há 5 mangas, 8 bananas, 3 peras e 2 laranjas. Quantas frutas têm na fruteira?
R.

Nome:_____

Data:_____/_____/2020

Ano:_____ Turma:_____

Professor:_____

1) **SITUAÇÕES - PROBLEMA:**

a. NO MEU ÁLBUM, HÁ 43 FIGURINHAS COLADAS. AGORA, VOU COLAR 26. QUANTAS FIGURINHAS FICARÃO NO ÁLBUM?

RESPOSTA: _____

b. LUANA COMPROU 75 FOLHAS SULFITE PARA USAR DURANTE O SEMESTRE. JÁ GASTOU 43 DELAS. QUANTAS FOLHAS ELA AINDA TEM?

RESPOSTA: _____

c. UM TIME DE BASQUETE FEZ 51 PONTOS NO PRIMEIRO TEMPO. NO SEGUNDO TEMPO FEZ 46 PONTOS. QUANTOS PONTOS FEZ ESSE TIME NO JOGO TODO?

RESPOSTA: _____

d. FÁBIO PESAVA 45 QUILOS, MAS EMAGRECEU 11. QUANTO ELE PASSOU A PESAR?

RESPOSTA: _____

2) **DESAFIO:**

QUEM SOU EU?
SOU FORMADO POR 2 ALGARISMOS. O ALGARISMO DA UNIDADE É MEIA DÚZIA E O ALGARISMO DA DEZENA É O NÚMERO DE CORES DO ARCO-ÍRIS.





ESTADO DE MATO GROSSO DO SUL
MUNICÍPIO DE LADÁRIO
SECRETARIA MUNICIPAL DE EDUCAÇÃO

Nome:_____

Data:_____/_____/2020

Ano:_____ Turma:_____

Professor:_____

PRATICANDO



Decomponha o número em destaque.

23 476 895 → _____ unidades.

_____ unidades ou _____ dezenas.

_____ unidades ou _____ centenas.

_____ unidades ou _____ unidades de milhar.

_____ unidades ou _____ dezenas de milhar.

_____ unidades ou _____ centenas de milhar.

_____ unidades ou _____ unidades de milhão.

_____ unidades ou _____ dezenas de milhão.

Decomponha os números pedidos.

A) 3 centenas de milhão + 9 centenas de milhar + 5 dezenas de milhar + 7 centenas =

B) 6 dezenas de milhão + 5 dezenas de milhar + 1 centena + 2 unidades =

C) 9 centenas de milhão + 3 dezenas de milhar + 4 centenas + 4 unidades =

D) 8 dezenas de milhão + 6 unidades de milhão + 6 dezenas de milhar + 13 unidades =

SECRETARIA MUNICIPAL DE EDUCAÇÃO
Avenida 14 de Março, 656 – Centro – Ladário – MS – CEP: 79370-000
Endereço Eletrônico: educaladario@brturbo.com.br
Telefone para contato: 67 3226 2034

ESTADO DE MATO GROSSO DO SUL
MUNICÍPIO DE LADÁRIO
SECRETARIA MUNICIPAL DE EDUCAÇÃO

Nome:_____

Data:_____/_____/2020

Ano:_____ Turma:_____

Professor:_____

PROBLEMATIZANDO

✎ Vovó Lia colheu 36 flores. Resolveu arrumá-las em 6 vasos..
Quantas flores vovó colocou em cada vaso?

Operação	Resposta



✎ Um feirante colocou 72 maçãs em 9 caixas. Quantas maçãs colocou em cada caixa?

Operação	Resposta



✎ Davi tem 28 soldadinhos e quer 2 filas com a mesma quantidade de soldadinhos. Quantos soldadinhos haverá em cada fila?

Operação	Resposta



SECRETARIA MUNICIPAL DE EDUCAÇÃO
Avenida 14 de Março, 656 – Centro – Ladário – MS – CEP: 79370-000
Endereço Eletrônico: educaladario@brturbo.com.br
Telefone para contato: 67 3226 2034

ESTADO DE MATO GROSSO DO SUL
MUNICÍPIO DE LADÁRIO
SECRETARIA MUNICIPAL DE EDUCAÇÃO

Nome:_____

Data:_____/_____/2020

Ano:_____ Turma:_____

Professor:_____

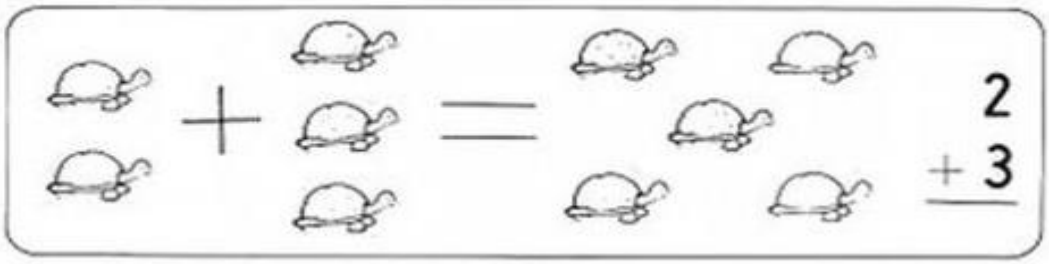

$$\begin{array}{r} 2 \\ +\,3 \\ \hline \end{array}$$

135 + 623	246 + 450	352 + 535	460 + 339
517 + 472	306 + 692	645 + 202	572 + 416
825 + 144	439 + 260	536 + 342	367 + 30
413 + 265	724 + 152	349 + 640	634 + 253
63 + 704	321 + 565	462 + 207	591 + 308

SECRETARIA MUNICIPAL DE EDUCAÇÃO
Avenida 14 de Março, 656 – Centro – Ladário – MS – CEP: 79370-000
Endereço Eletrônico: educaladario@brturbo.com.br
Telefone para contato: 67 3226 2034

ESTADO DE MATO GROSSO DO SUL
MUNICÍPIO DE LADÁRIO
SECRETARIA MUNICIPAL DE EDUCAÇÃO

Nome:_____

Data:_____/_____/2020

Ano:_____ Turma:_____

Professor:_____

Resolva as operações:





$$\begin{array}{r} 7 \\ -\,6 \\ \hline \end{array}$$

724 − 612	525 − 160	409 − 143	964 − 791
610 − 13	850 − 124	502 − 101	430 − 260
514 − 190	690 − 532	263 − 46	725 − 11
906 − 104	820 − 160	450 − 141	125 − 82
367 − 308	657 − 552	640 − 92	705 − 83

SECRETARIA MUNICIPAL DE EDUCAÇÃO
Avenida 14 de Março, 656 – Centro – Ladário – MS – CEP: 79370-000
Endereço Eletrônico: educaladario@brturbo.com.br
Telefone para contato: 67 3226 2034