ESCOLA: MARQUÊS DE TAMANDARÉ

PROFESSOR (A): Marcelina Costa
TURMA (S): 6 ANO A
ENSINO FUNDAMENTAL II **TURNO:**VESP
ALUNO (A):

COMPONENTE CURRICULAR: MATEMATICA
PERÍODO: 17/08 A 07/09/20
QUANTIDADE DE AULAS: 12

Objetivo de conhecimento: PERIMETRO
Habilidade: EF06MA17

Circule as figuras geométricas planas.

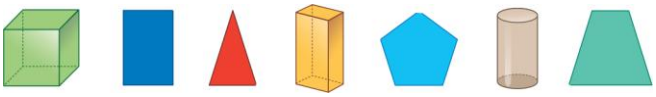

Exploração e descoberta

Perímetro é o comprimento da linha que contorna uma figura geométrica plana.

Se a figura for um polígono, podemos dizer que o perímetro é a soma das medidas de todos os seus lados.

Exemplo 1:

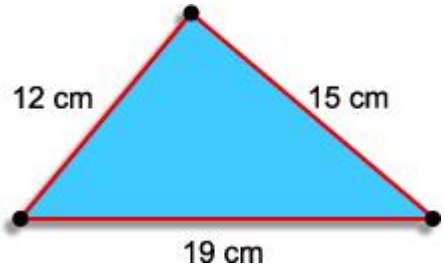

O perímetro do triângulo é: 12 + 15 + 19 = 46 cm

Exemplo 2:

O mesmo raciocínio se estende às outras figuras, sempre somando as medidas de todos os seus lados. Observe:

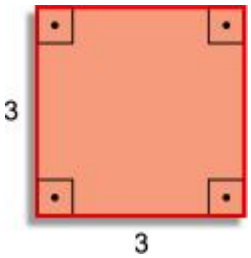

Um quadrado de lado 3 tem como perímetro: 3 + 3 + 3 + 3 = 12

Demonstre seus conhecimentos

1. Calcule o perímetro das figuras a seguir:

a)

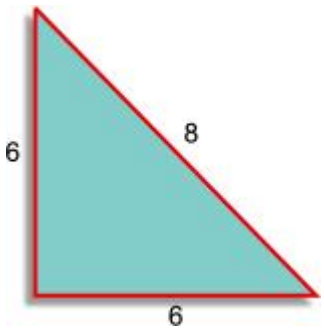

b)

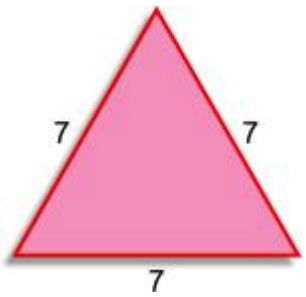

c)

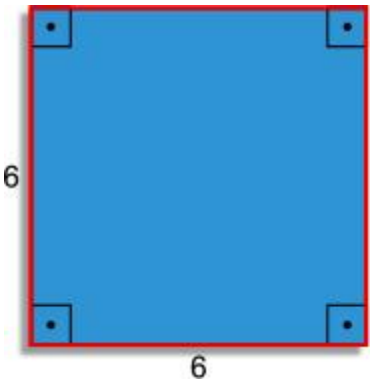

d)



e)

