ESCOLA: MARQUÊS DE TAMANDARÉ

PROFESSOR (A): Vinícius Aranda V. Da Silva
TURMA (S): 7ºB
ENSINO FUNDAMENTAL **TURNO:** Vespertino
ALUNO (A):

COMPONENTE CURRICULAR: Matemática
PERÍODO: 01/07/2020, 02/07/2020, 03/07/2020, 07/07/2020 e 08/07/2020
QUANTIDADE DE AULAS: 5

Objeto de conhecimento: Frações (reforço)
Habilidade: EF07MA05

⇒ ***Aula 01-*** *Matemática*

1) Observe a figura:

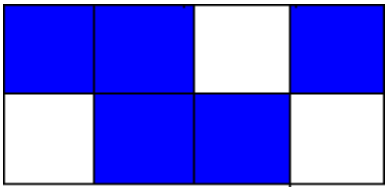

a) Em quantas partes iguais o retângulo foi dividido?
b) Cada uma dessas partes representa que fração do retângulo?
c) A parte pintada representa que fração do retângulo?

2) Observe as figuras e diga quanto representa cada parte da figura. E quanto representa o total de partes pintadas:
a)

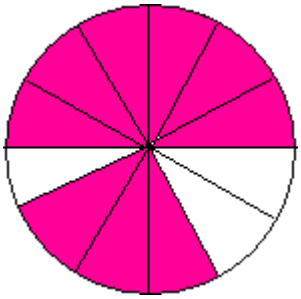

R: _____

a)

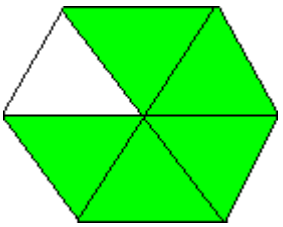

*R:*_____

a)

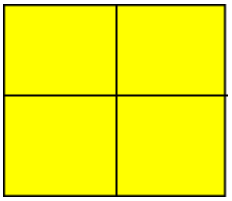

R: _____

*Lembre-se: o total de partes representa o denominador (o número que aparece abaixo do traço de fração) e o total de partes pintadas representa o numerador (o número que aparece acima do traço de fração)

3) Um sexto de uma pizza custa 3 reais, quanto custa:

a) $\frac{3}{6}$ *da pizza*

b) $\frac{5}{6}$ *da pizza*

c) a pizza toda

Caro aluno,
As situações apresentadas nestas atividades complementares são ferramentas importantes no avanço do seu conhecimento e uma peça fundamental do seu sucesso no presente período, portanto é importante que você se dedique com seriedade e compromisso em suas atividades. Bons estudos!

PLANO DE ATIVIDADE PEDAGÓGICA COMPLEMENTAR

ESCOLA: E. M. DE EDUCAÇÃO INF. E ENSINO FUND. MARQUES DE TAMANDARÉ
PROFESSOR (A): Vinícius Aranda V. Da Silva **TURMA(S):** 7ºB
TURNO: Vespertino
QUANTIDADE DE AULAS: 4
COMPONENTE CURRICULAR: Matemática
DATA: 09/07/2020, 10/07/2020, 14/07/2020, e 15/07/2020
COMPETÊNCIAS E HABILIDADES: (EF07MA05) Resolver um mesmo problema utilizando diferentes algoritmos.
CONTEÚDOS/OBJETOS DE CONHECIMENTO: Frações (reforço)
METODOLOGIA: Atividade pedagógica complementar realizada mediante exercícios tipo tarefa.
RECURSOS: Folha de caderno com margens (recomendado)
AVALIAÇÃO: Será avaliado o desenvolvimento da atividade pedagógica complementar
REFERÊNCIA: SILVEIRA**,** Ênio. Matemática compreensão e prática 7º ano. 5º edição. São Paulo. Moderna 2018

_____

Assinatura do Professor (a)

_____

Assinatura do Coordenador (a) Pedagógico (a)