ESCOLA MUNICIPAL EDUARDO MALHADO

Atividade Pedagógica Complementar



ALUNO (A):_____

PROFESSORA: ANA PAULA A. ALMEIDA MIRANDA **TURMA:** 1º ANO “A” / MATUTINO

LADÁRIO / MS

2020

ESCOLA MUNICIPAL EDUARDO MALHADO.

LADÁRIO, 22 DE ABRIL DE 2020.

ALUNO (A): _____ TURMA: 1º ANO “A” MATUTINO.

PROFESSORA: ANA PAULA ALVARES DE ALMEIDA MIRANDA

ATIVIDADE PEDAGÓGICA COMPLEMENTAR / HISTÓRIA

OS DOCUMENTOS DA CRIANÇA

COM A AJUDA DE ALGUÉM DE SUA FAMÍLIA PREENCHA A SUA CERTIDÃO DE NASCIMENTO.

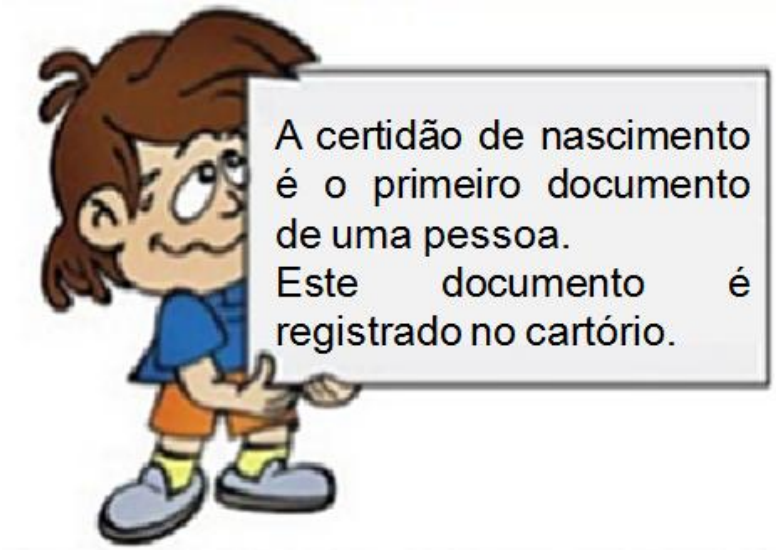

NOME: _____

DATA DE NASCIMENTO: _____ / _____ / _____

HORA DO NASCIMENTO: _____

LOCAL DO NASCIMENTO: _____

NOME DOS PAIS:

PAI: _____

MÃE: _____

NOME DOS AVÓS MATERNOS:

AVÔ: _____

AVÓ: _____

NOME DOS AVÓS PATERNOS:

AVÔ: _____

AVÓ: _____

ESCOLA MUNICIPAL EDUARDO MALHADO.

LADÁRIO, 22 DE ABRIL DE 2020.

ALUNO (A): _____ TURMA: 1º ANO “A” MATUTINO.

PROFESSORA: ANA PAULA ALVARES DE ALMEIDA MIRANDA

ATIVIDADE PEDAGÓGICA COMPLEMENTAR / GEOGRAFIA

A CRIANÇA E NOÇÕES DE LATERALIDADE

OBSERVE A CENA, PINTE SOMENTE QUEM ESTÁ INDO PARA A **ESQUERDA.**



OBSERVE A CENA, PINTE SOMENTE QUEM ESTÁ INDO PARA A **DIREITA.**



ESCOLA MUNICIPAL EDUARDO MALHADO.

LADÁRIO, 23 DE ABRIL DE 2020.

ALUNO (A): _____ TURMA: 1º ANO “A” MATUTINO.

PROFESSORA: ANA PAULA ALVARES DE ALMEIDA MIRANDA

ATIVIDADE PEDAGÓGICA COMPLEMENTAR / LINGUA PORTUGUESA

OBSERVE:



Uilá

Uilá

U

U

UILÁ É NOME DE PESSOA, ESCREVEMOS NOME DE PESSOAS COM LETRA MAIÚSCULA. ABAIXO SEGUE UMA LISTA DOS AMIGOS DA UILÁ. CIRCULE A VOGAL “U” MAIÚSCULA NOS NOMES QUE VOCÊ ENCONTRAR E PINTE AS FIGURAS.



Ulisses



Uriel



Ubirajara



Úrsula

ESCOLA MUNICIPAL EDUARDO MALHADO.

LADÁRIO, 23 DE ABRIL DE 2020.

ALUNO(A): _____

PROFESSORA: ANA PAULA TURMA: 1º ANO “A” MATUTINO

ATIVIDADE PEDAGÓGICA COMPLENTAR / MATEMÁTICA

OBSERVE A CENA, RESPONDA AS PERGUNTAS E PINTE OS DESENHOS.

1) QUANTOS CARRINHOS JOÃO MARCOS TEM?



10 UNIDADES FORMAM UMA DEZENA

2) QUANTAS BOLAS JULIANA TEM?

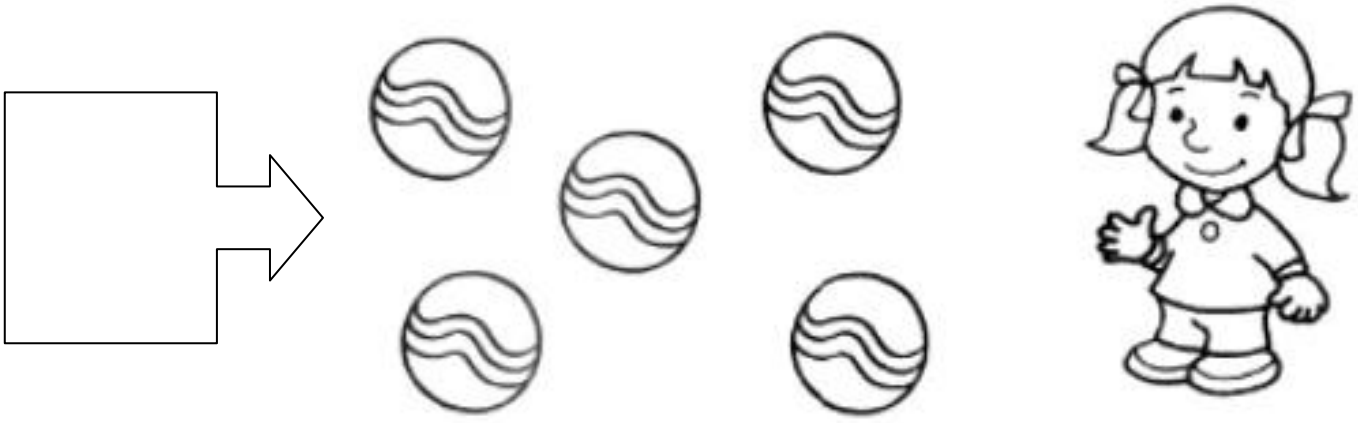

5 UNIDADES FORMAM MEIA DEZENA

ESCOLA MUNICIPAL EDUARDO MALHADO.

LADÁRIO, 24 DE ABRIL DE 2020.

ALUNO (A): _____ TURMA: 1º ANO “A” MATUTINO.

PROFESSORA: ANA PAULA ALVARES DE ALMEIDA MIRANDA

ATIVIDADE PEDAGÓGICA COMPLEMENTAR / HISTÓRIA

A CRIANÇA E SUAS PREFERÊNCIAS

DESENHE OU COLE NOS ESPAÇOS ABAIXO FIGURAS QUE REPRESENTE SUAS PREFERÊNCIAS.



ESCOLA MUNICIPAL EDUARDO MALHADO.

LADÁRIO, 24 DE ABRIL DE 2020.

ALUNO (A): _____ TURMA: 1º ANO “A” MATUTINO.

PROFESSORA: ANA PAULA ALVARES DE ALMEIDA MIRANDA

ATIVIDADE PEDAGÓGICA COMPLEMENTAR / GEOGRAFIA

A CRIANÇA E NOÇÕES DE LATERALIDADE

OBSERVE OS DESENHOS E COM A AJUDA DE ALGUÉM DA FAMÍLIA MARQUE A RESPOSTA CERTA.



1 - O PINCEL ESTÁ:

( ) DEBAIXO DA MESA ( ) EM CIMA DA MESA

( ) AO LADO DA MESA ( ) LONGE DA MESA

---

2 - A MENINA SEGURA O BALÃO COM A MÃO:

( ) DIREITA ( ) ESQUERDA

---

3 - O QUE ESTÁ EM CIMA DA MESA É:

( ) O GATO ( ) A MOCHILA ( ) O PINCEL

---

4 - O GATINHO ESTÁ INDO EM DIREÇÃO:

( ) À ESQUERDA ( ) À DIREITA

---

5 - EM QUE LADO A MENINA ESTÁ DA MESA?

( ) DIREITO ( ) ESQUERDO

ESCOLA MUNICIPAL EDUARDO MALHADO.

LADÁRIO, 25 DE ABRIL DE 2020.

ALUNO (A): _____ TURMA: 1º ANO “A” MATUTINO.

PROFESSORA: ANA PAULA ALVARES DE ALMEIDA MIRANDA

ATIVIDADE PEDAGÓGICA COMPLEMENTAR / HISTÓRIA

AS CRIANÇAS TÊM DIREITOS



COM BASE NO ESTATUTO DA CRIANÇA E DO ADOLESCENTE, ESCOLHA UM DIREITO DA CRIANÇA E FAÇA UMA ILUSTRAÇÃO (DESENHO).

QUE DIREITO DA CRIANÇA VOCÊ ESCOLHEU?

.....

.....

ILUSTRE ESSE DIREITO.

ESCOLA MUNICIPAL EDUARDO MALHADO.

LADÁRIO, 25 DE ABRIL DE 2020.

ALUNO (A): _____ TURMA: 1º ANO “A” MATUTINO.

PROFESSORA: ANA PAULA ALVARES DE ALMEIDA MIRANDA

ATIVIDADE PEDAGÓGICA COMPLEMENTAR / GEOGRAFIA

LATERALIDADE E POSIÇÃO

A CRIANÇA ABAIXO ESTÁ DE FRENTE. OBSERVE O LADO DIREITO E ESQUERDO DELA.



AGORA OBSERVE AS CRIANÇAS ABAIXO E MARQUE AS RESPOSTAS CERTAS.



JÚNIOR PISA NA BOLA COM O PÉ:

◯ ESQUERDO.

◯ DIREITO.



ALEX SEGURA A BOLA COM A MÃO:

◯ ESQUERDA.

◯ DIREITA.



ANA BATE A BOLA COM A MÃO:

◯ ESQUERDA.

◯ DIREITA.

ESCOLA MUNICIPAL EDUARDO MALHADO.

LADÁRIO, 27 DE ABRIL DE 2020.

ALUNO (A): _____ TURMA: 1º ANO “A” MATUTINO.

PROFESSORA: ANA PAULA ALVARES DE ALMEIDA MIRANDA

ATIVIDADE PEDAGÓGICA COMPLEMENTAR / LINGUA PORTUGUESA

FAÇA A LETRA “U” CURSIVA COM ATENÇÃO. PRESTE ATENÇÃO NO MODELO.



ESCOLA MUNICIPAL EDUARDO MALHADO.

LADÁRIO, 27 DE ABRIL DE 2020.

ALUNO(A): _____

PROFESSORA: ANA PAULA TURMA: 1º ANO “A” MATUTINO

ATIVIDADE PEDAGÓGICA COMPLENTAR / MATEMÁTICA

OBSERVE A FORMA COM O CASCÃO AGRUPOU OS BOTÕES E RESPONDA.

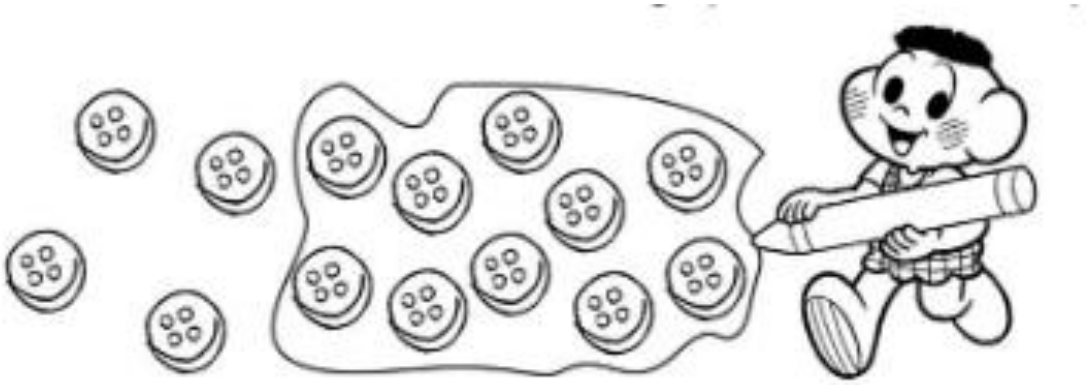

1) O AGRUPAMENTO DE CASCÃO POSSUI QUANTOS BOTÕES? ☐

2) PODEMOS DIZER QUE CASCÃO AGRUPOU:

( ) MEIA DEZENA DE BOTÕES.

( ) UMA DEZENA DE BOTÕES.

3) QUANTAS UNIDADES DE BOTÕES FICARAM DE FORA DO AGRUPAMENTO DO CASCÃO? ☐

4) UTILIZANDO LÁPIS DE COR DE CORES DIFERENTES FORME GRUPOS DE BOTÕES COM UMA DEZENA.



ESCOLA MUNICIPAL EDUARDO MALHADO.

LADÁRIO, 28 DE ABRIL DE 2020.

ALUNO (A): _____ TURMA: 1º ANO “A” MATUTINO.

PROFESSORA: ANA PAULA ALVARES DE ALMEIDA MIRANDA

ATIVIDADE PEDAGÓGICA COMPLEMENTAR / LINGUA PORTUGUESA

RECORTE AS LETRAS E COLE NO QUADRO CORRETO.



ESCREVA AS VOGAIS MINÚSCULAS.

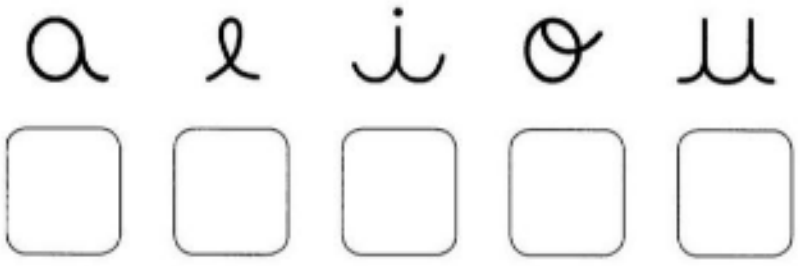

ESCREVA AS VOGAIS MAIÚSCULAS.

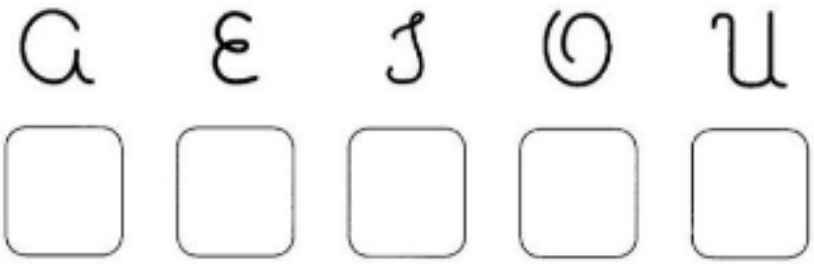

ESCOLA MUNICIPAL EDUARDO MALHADO.

LADÁRIO, 28 DE ABRIL DE 2020.

ALUNO(A): _____

PROFESSORA: ANA PAULA TURMA: 1º ANO “A” MATUTINO

ATIVIDADE PEDAGÓGICA COMPLENTAR / MATEMÁTICA

1) ESCREVA OS NUMERAIS ATÉ 10.

2) QUANTOS BOLINHOS MAGALI TEM NA BANDEJA?



O NÚMERO DE BOLINHOS DE MAGALI CORRESPONDE A UMA DEZENA

3) COMPLETE OS CONJUNTOS ATÉ FORMAR UMA DEZENA.

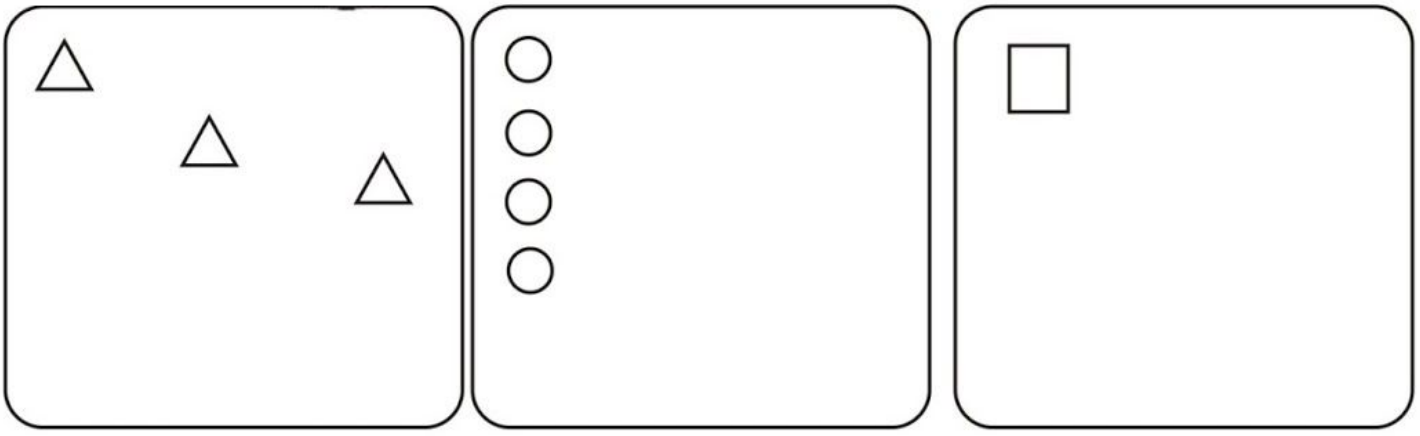

ESCOLA MUNICIPAL EDUARDO MALHADO.

LADÁRIO, 29 DE ABRIL DE 2020.

ALUNO (A): _____ TURMA: 1º ANO “A” MATUTINO.

PROFESSORA: ANA PAULA ALVARES DE ALMEIDA MIRANDA

ATIVIDADE PEDAGÓGICA COMPLEMENTAR / HISTÓRIA

AS CRIANÇAS TAMBÉM TÊM SEU TRABALHO E TAMBÉM PRECISAM ORGANIZAR O SEU TEMPO, PARA DESENVOLVER MELHOR SUAS ATIVIDADES.

PINTE OS DESENHOS QUE RESPRESENTAM AS ATIVIDADES DIÁRIAS QUE REALIZA E COM AJUDA DE ALGUÉM DA FAMÍLIA MARQUE OS HORÁRIOS QUE VOCÊ AS FAZ.



ESCOLA MUNICIPAL EDUARDO MALHADO.

LADÁRIO, 29 DE ABRIL DE 2020.

ALUNO (A): _____ TURMA: 1º ANO “A” MATUTINO.

PROFESSORA: ANA PAULA ALVARES DE ALMEIDA MIRANDA

ATIVIDADE PEDAGÓGICA COMPLEMENTAR / GEOGRAFIA

- **NOÇÕES DE POSIÇÃO E LOCALIZAÇÃO**

É HORA DE OBSERVAR PARA PINTAR.



- PINTE DE VERDE A ROUPA DOS JOGADORES QUE ESTÃO **EMBAIXO** DA CESTA.
- PINTE DE VERMELHO QUE ESTÁ **DENTRO** DO SACO.
- PINTE DE AZUL A ROUPA DOS JOGADORES QUE ESTÃO **NA FRENTE** DO BANCO DE RESERVAS.
- PINTE DE AMARELO A ROUPA DOS JOGADORES QUE ESTÃO **NO CENTRO** DA QUADRA.

ESCOLA MUNICIPAL EDUARDO MALHADO.

LADÁRIO, 30 DE ABRIL DE 2020.

ALUNO (A): _____ TURMA: 1º ANO “A” MATUTINO.

PROFESSORA: ANA PAULA ALVARES DE ALMEIDA MIRANDA

ATIVIDADE PEDAGÓGICA COMPLEMENTAR / LINGUA PORTUGUESA

CADA CRIANÇA DENTRO DO ÕNIBUS TEM O SEU NOME INICIADO POR UMA VOGAL. IDENTIFIQUE A LETRA INICIAL DE CADA UMA E ESCREVA NO TRACINHO.



LIGUE AS VOGAIS QUE APRESENTAM O MESMO SOM.





ESCOLA MUNICIPAL EDUARDO MALHADO.

LADÁRIO, 30 DE ABRIL DE 2020.

ALUNO(A): _____

PROFESSORA: ANA PAULA TURMA: 1º ANO “A” MATUTINO

ATIVIDADE PEDAGÓGICA COMPLENTAR / MATEMÁTICA

1) COMPLETE A SEQUENCIA NUMÉRICA COM OS NUMERAIS QUE FALTAM.



2) PINTE A QUANTIDADE PEDIDA:

A) MEIA DEZENA DE MALETAS



B) UMA DEZENA DE CENOURAS

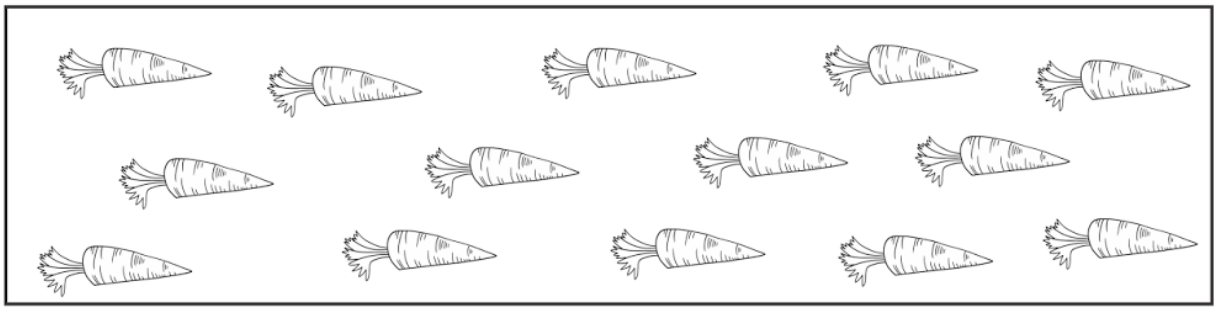

3) INDIQUE QUANTOS ELEMENTOS TEM EM CADA CONJUNTO.

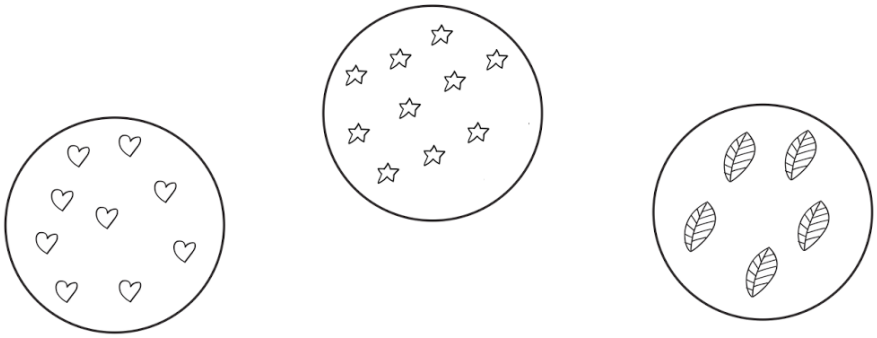

PARA RECORTE

