ESTADO DE MATO GROSSO DO SUL
MUNICIPIO DE LADÁRIO -MS
SECRETARIA MUNICIPAL DE EDUCAÇÃO









ESCOLA MUNICIPAL EDUARDO MALHADO

PROFESSOR(A):APARECIDA CENA

COMPONENTES CURRICULARES: L. PORTUGUESA, MATEMÁTICA, GEOGRAFIA E HISTÓRIA

ATIVIDADES PEDAGÓGICAS COMPLEMENTARES

(REFERENTE AOS DIA 01/07/2020 À 15/07/2020)

SÉRIE: 1º ANO -ENSINO FUNDAMENTAL -I

TURMA: B -PERÍODO: VESPERTINO

HABILIDADE: (MS01LP10)

CONTEÚDO: Alfabeto: (Consoantes e Vogais)

Aluno:_____

data: 02/07/2020

LIGUE CERTO

1 - Ligue cada letra do alfabeto maiúsculo ao alfabeto minúsculo.

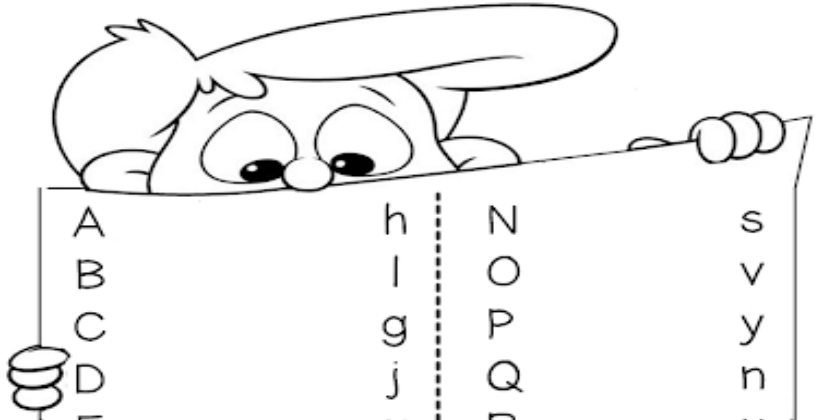

A	h	N	s
B	l	O	v
C	g	P	y
D	j	Q	n
E	m	R	u
F	b	S	o
G	f	T	x
H	d	U	p
I	k	V	q
J	c	W	z
K	a	X	r
L	e	Y	t
M	i	Z	w

www.aartedeensinareaprender.com.br

COMPONENTE CURRICULAR: LÍNGUA PORTUGUESA

DATA: 02/07/2020 (01-AULA) -QUINTA-FEIRA

DATA: 03/07/2020 (01-AULA) -SEXTA-FEIRA

NOME: _____

03/07/2020

LINGUAGEM

FAMÍLIA SILÁBICA

J

COMPLETE AS PALAVRAS COM AS VOGAIS FALTOSAS



J___C___R___



J___RR___



J_____



J___RN___L

COMPLETE AS PALAVRAS COM AS CONSOANTES FALTOSAS

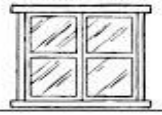

___A___E___A



___I___E



___A___A



___U___U___A

notebookdaprofblogspot.com

HABILIDADE: (MSEF01LP05); (MS01EFLP10)

CONTEÚDO: Alfabeto e Nome de Frutas

ALUNO:_____

data:04/07/2020



*VAMOS COMPLETAR O ALFABETO?

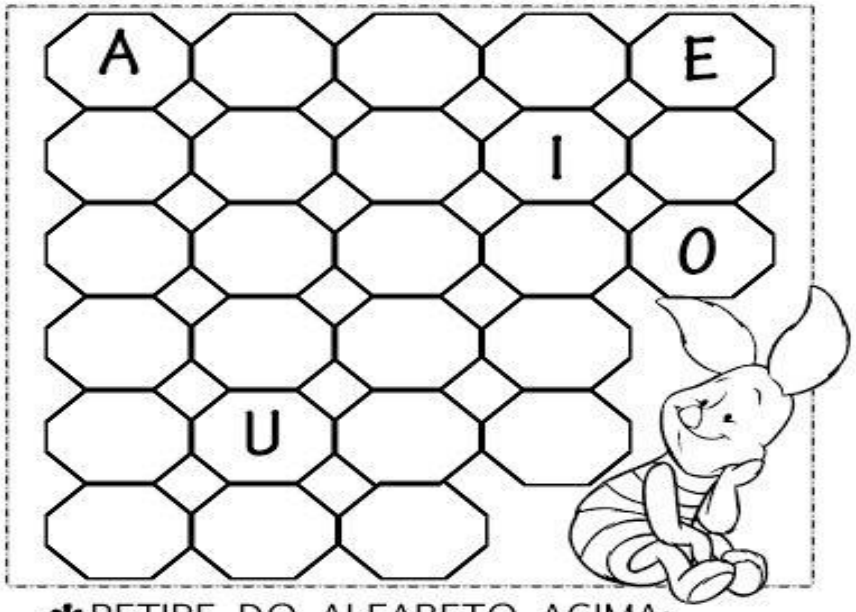

*RETIRE DO ALFABETO ACIMA:

*AS VOGAIS: ____ ____ ____ ____ ____

*AS CONSOANTES:

____ ____ ____ ____ ____ ____ ____ ____

____ ____ ____ ____ ____ ____ ____ ____

____ ____ ____ ____ ____

www.aartedeensinareaprender.com.br

COMPONENTE CURRICULAR: LÍNGUA PORTUGUESA

DATA: 04/07/2020 (01-AULA) -H-SEXTA-FEIRA

DATA: 06/7/2020 (02-AULAS) -SEGUNGA-FEIRA

Aluno(a)_____

data:06/07/2020

Escreva o nome das Frutas:



1. _____
2. _____
3. _____
4. _____
5. _____
6. _____
7. _____
8. _____
9. _____

@DIARIODATIAMARI

HABILIDADE: (MSEF01LP10)**;** (MSEF01LP18)

CONTEÚDO: Alfabeto (VC); Leitura Oral e Escrita

Aluno(a)_____

data:06/07/2020

Observe as letras que iniciam os nomes dos desenhos. Depois, escreva as palavras no quadro em ordem alfabética.



vogais	consoantes

www.soescola.com.br

COMPONENTE CURRICULAR: LÍNGUA PORTUGUESA

DATA: 06/07/2020 (02-AULAS) -SEGUNDA-FEIRA

DATA: 07/07/2020 (01-AULA) -TERÇA-FEIRA

Aluno(a)_____

data: 07/07/2020

1) Com a ajuda de um adulto(a) para ler o texto e observe o que se se pede abaixo.



2) Quais animais aparecem no texto?

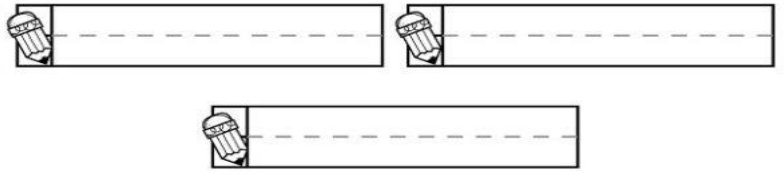

www.amorensina.com.br -

HABILIDADE: (MSEF01LP05); (MSEF01LP07)

CONTEÚDO: Letras maiúsculas e minúsculas; V C

Aluno(a)_____

09/07/20

Complete as palavras com as letras **maiuscúlas** do quadro, depois pinte as figuras.

A C G M

__vião 

__ato 

__asa 

__acaco 

Complete as palavras com as letras **minúsculas** do quadro, depois pinte as figuras.

n p f s

__avio 

__apo 

__oca 

__eixe 

www.smartkids.com.br

COMPONENTE CURRICULAR: LÍNGUA PORTUGUESA

DATA: 09/07/2020 (01-AULA) -QUINTA-FEIRA

DATA:10/07/2020 (01-AULA) -SEXTA-FEIRA

Aluno(a)_____

data:10/07/2020

Pesquisando

A

B

C

Pesquise em jornais e revistas palavras iniciadas com vogais e consoantes e cole-as abaixo:



blodaprofessoraedivannia.blogspot.com.br

HABILIDADE: (MSEF01LP10); (MSEF01LP07)

CONTEÚDO: Ordem Alfabética; Formação de Palavras

Aluno(a)_____

11/07/20

Ordem Alfabética



1 - Escreva os nomes dos objetos acima, seguindo a ordem alfabética.

1._____ 6._____

2._____ 7._____

3._____ 8._____

4._____ 9._____

5._____ 10._____

A B C...

www.aartedeensinareaprender.com.br

COMPONENTE CURRICULAR: LÍNGUA PORTUGUESA

DATA: 11/07/2020 –(02-AULAS) HOR. SEGUNDA-FEIRA

Aluno(a)_____

data:11/07/2020

FORMANDO PALAVRAS

1 BA	2 BO	3 FU	4 DO	5 LA
6 CU	7 MA	8 PI	9 NE	10 TA
11 CE	12 PO	13 ÇA	14 VE	15 PE
16 FI	17 LA	18 TE	19 BA	20 CA

1-5 _____ 2-9-20 _____

6-2 _____ 3-7-13 _____

4-11 _____ 8-12-20 _____

10-15-18 _____ 16-14-17 _____

www.aartedeensinareaprender.com

HABILIDADE: (MSEF01LP05);

CONTEÚDO: Letra J , j; Letra G

Aluno(a)_____

data: 13/07/2020

Ψ CUBRA AS LETRAS



Ψ JUNTE AS SILABAS E FORME PALAVRAS:

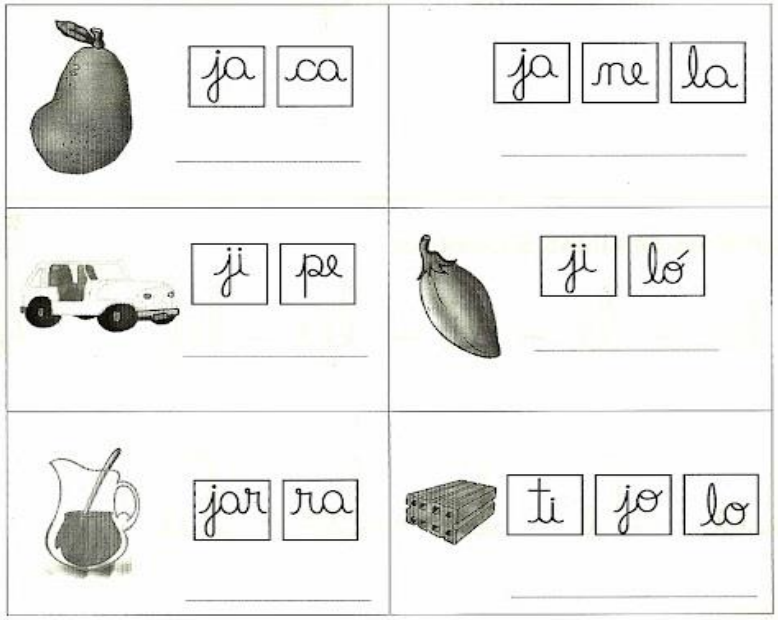



COMPONENTE CURRICULAR: LINGUA PORTUGUESA

DATA: 13/07/2020 – (02-AULAS) - SEGUNDA-FEIRA

Aluno(a)_____

13/07/2020

PEÇA UM ADULTO PARA LER PARA VOCÊ :

PARA CASA

A FITA DO GATINHO
TEM BOLINHAS E UM NÓ.
O PORQUINHO, COM INVEJA
PÔS OS ÓCULOS DA VOVÓ.

CIRCULE NO TEXTO A PALAVRA QUE COMEÇA COM **G**.

COM AJUDA DE UM ADULTO, FAÇA UM **X** NA RESPOSTA CERTA, DE ACORDO COM O TEXTO.

1- NA FITA DO GATINHO TEM:

	BOLINHAS		FLORZINHAS		NÓ

2- O PORQUINHO PÔS:

	UM CHAPÉU		UM CASACO		ÓCULOS

LIGUE CADA DESENHO À SUA SÍLABA INICIAL.



GI	GIRAFA
CA	CARACOL
GA	GALINHA
BO	BODE

HABILIDADE: (MSEF01LP08); (MSEF01LP10)

CONTEÚDO: Cruzadinha dos animais; e CV (Maiúscula e minúsculas)

COMPONENTE CURRICULAR: LINGUA PORTUGUESA -DATA:4/07/2020 –(01-AULA) -TERÇA -FEIRA

Aluno(a)_____

data:14/07/2020

CRUZADINHA DOS ANIMAIS

- ORGANIZE OS NOMES DOS ANIMAIS DE FORMA QUE TODOS SE ENCAIXEM.



1) Pratique a escrita das consoantes maiúsculas e minúsculas

B_____ C_____D_____ F_____ G_____

H_____ J_____

b_____ c _____ d_____ f_____ g_____

h_____ j_____

2)Pratique as vogais maiúsculas e minúsculas.

A_____ E_____ I_____ O_____U_____

a_____ e_____ i_____ o_____ u_____

HABILIDADE: (EF01MA0106); (MS01MA15)

CONTEÚDO: Adições; Maior/Menor, Mais Fino/Mais Grosso

ALUNO(A)_____

data:01/07/2020

☐ QUARTA

MATEMATICA

RECORTE AS ADIÇÕES DA ESQUERDA E COLE NOS CARRINHOS DE ACORDO COM O RESULTADO.



2 + 3=
2 + 2=
2 + 1=
4 + 1=
2 + 0=
3 + 1=
1 + 2=
1 + 1=

Alfakids.org

Ensino Fundamental I -

COMPONENTE CURRICULAR: MATEMÁTICA

DATA:01/07/2020 – (01-AULA) - QUARTA -FEIRA

DATA: 03/07/2020 (02-AULAS) -SEXTA -FEIRA

Aluno(a)_____

data:03/07/2020

1) Circule a borboleta menor:

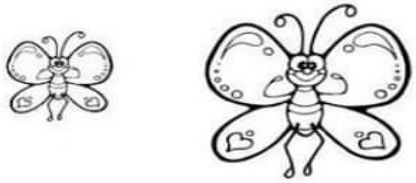

2)Faça uma flor na jarra maior:



3) Circule a caneta mais fina:



www.acessaber.com.br

HABILIDADE: (MSEF01MA01)

CONTEÚDO: Numerais de 0 a 30; Correspondência dos Conjuntos

Aluno(a)_____

data:03/07/2020



1) AJUDE A MÔNICA A COMPLETAR O QUADRO DE NUMERAIS ABAIXO:

0	**1**		**3**	**4**		
7						**13**
		16			**19**	
21						**27**
	29					

2) AGORA OBSERVE O QUADRO E MARQUE AS **RESPOSTAS CERTAS**:

A) OBSERVE O NUMERAL: **20**

O NUMERAL QUE **VEM ANTES** DELE É

(A) ☐ 19
(B) ☐ 21
(C) ☐ 22
(D) ☐ 23

B) OBSERVE O NUMERAL: **29**

O NUMERAL QUE **VEM DEPOIS** DELE É

(A) ☐ 27
(B) ☐ 26
(C) ☐ 30
(D) ☐ 28

C) A **ESCRITA** CORRETA DO NUMERAL **25** É:

(A) ☐ DOIS E CINCO
(B) ☐ VINTE E CINCO
(C) ☐ VINTE E UM
(D) ☐ DOIS MAIS CINCO

D) OBSERVE A SEQUÊNCIA NUMÉRICA.

20 – 21 – 22 – 23 – 24 – 25 -.....

QUAL SERIA O **PRÓXIMO** NUMERAL A SER ESCRITO?

(A) ☐ 30
(B) ☐ 27
(C) ☐ 26
(D) ☐ 28



blodaprofessoraedivannia.blogspot.com.br

COMPONENTE CURRICULAR: MATEMÁTICA

DATA:03/07/2020 -(02-AULAS) - SEXTA-FEIRA

DATA: 04/07/2020 –(02-AULAS) – H-SEXTA-FEIRA

Aluno(a)_____

data:04/07/2020

Ligue os numerais aos conjuntos correspondentes:

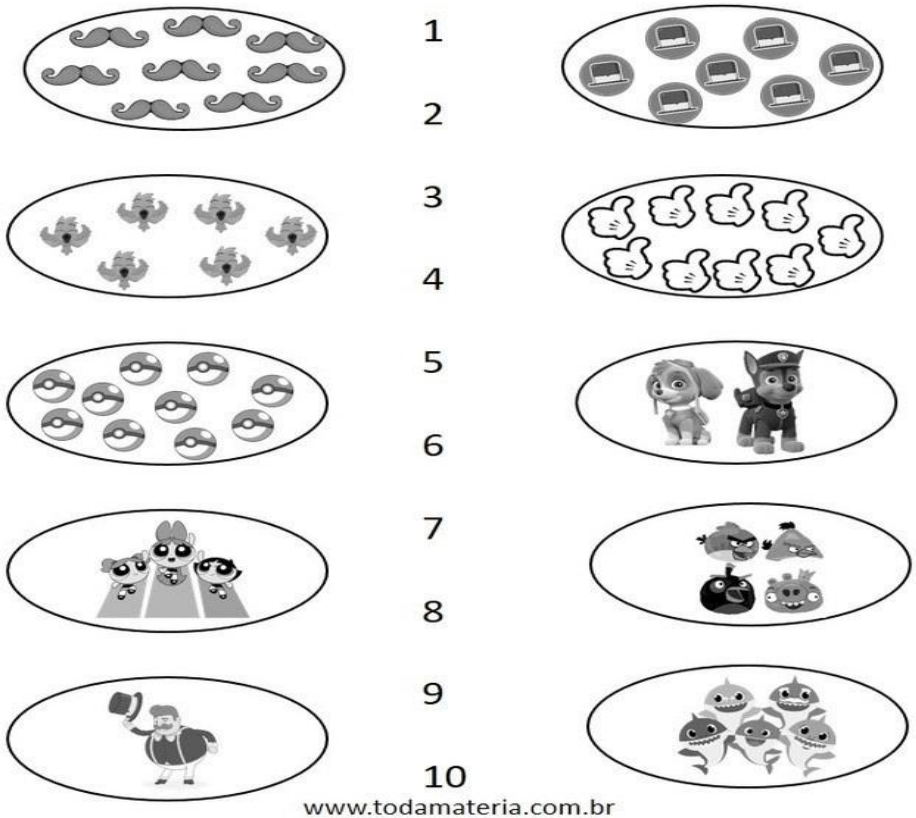

www.todamateria.com.br

HABILIDADE: (MSEF01); (EF01MA11)

CONTEÚDO: Cores e Numerais; Lateralidade: Direito/Esquerdo

Aluno(a)_____

data:04/07/2020

PINTE A ARARA SEGUINDO A ORIENTAÇÃO DOS NUMERAIS E SUAS CORES.

1 BRANCO 2 VERMELHO 3 AZUL 4 AMARELO 5 PRETO 6 MARROM

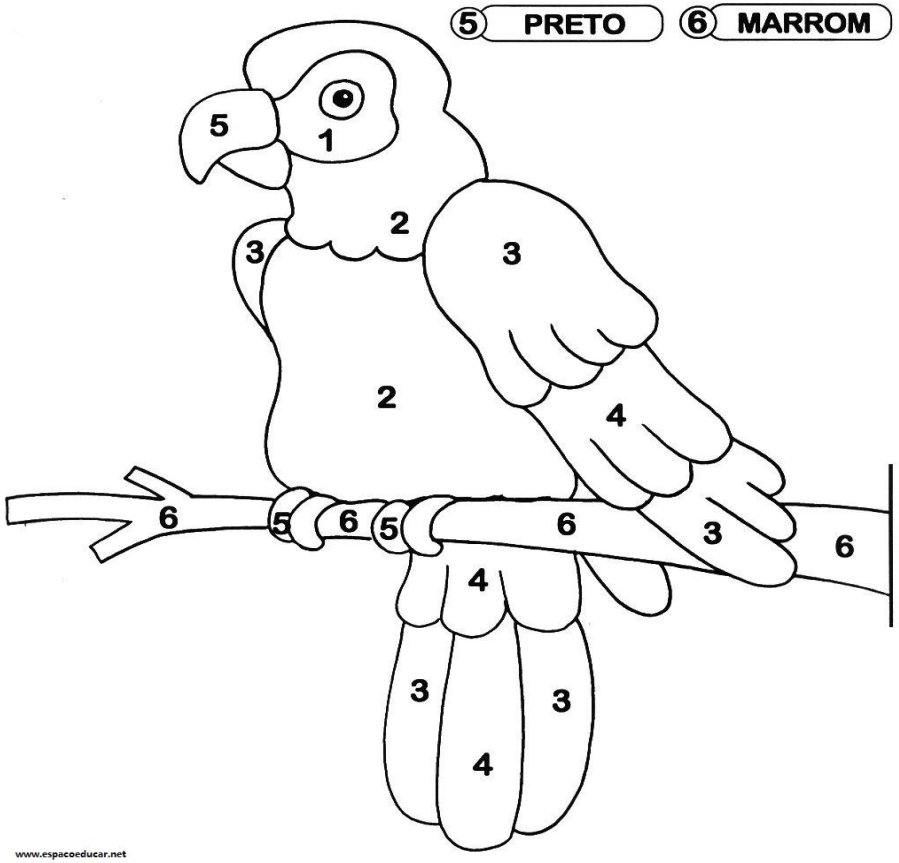

www.espacoeducar.net

COMPONENTE CURRICULAR: MATEMÁTICA

DATA:04/07/2020 (02-AULAS) -H- SEXTA-FEIRA

DATA:07/07/2020 (02-AULAS) -TERÇA-FEIRA

Aluno(a)_____

data: 07/07/2020

Responda corretamente



O peixe está virado para a

_____



O peixe está virado para a

_____



O carro está virado para a

_____



O carro está virado para a

_____



O elefante está virado para a

_____



O elefante está virado para a

_____

www.ideiacriativa.com.br

HABILIDADE: (MSEF01MA01)

CONTEÚDO: Correspondência dos Numerais e Escrita por extenso

Aluno(a)_____

data:08/07/20

Nomes dos Numerais

1 - Pinte o nome de cada numeral com a cor correspondente indicada na legenda:



dois	2	3	4	sete	
quatro	5	6	7	dez	
seis	8	9	10	três	
oito	um	cinco		nove	

2 - Escreva por extenso os numerais:



1	2	3	4	5
um				
6	7	8	9	10

www.aartedeensinareaprender.com.br

COMPONENTE CURRICULAR: MATEMÁTICA

DATA: 08/07/2020- (01-AULA) -QUARTA-FEIRA

DATA: 10/07/2020 (02-AULAS) -ZEXTA-FEIRA



Aluno(a)_____

10/07/20



1- RECORTE E COLE NO LUGAR CORRESPONDENTE O NOME DE CADA NUMERAL:

OS NUMERAIS

1.	8.
2.	9.
3.	10.
4.	
5.	
6.	
7.	



UM
DOIS
TRÊS
QUATRO
CINCO
SEIS
SETE
OITO
NOVE
DEZ

· A ARTE DE ENSINAR E APRENDER

HABILIDADE: (MSEF01MA01); (MSEF01MA06)

CONTEÚDO: Conjuntos; Adições

Aluno(a)_____

data:10/07/2020

Conte quantas figuras tem em cada conjunto e pinte o quadrinho com o número correto:

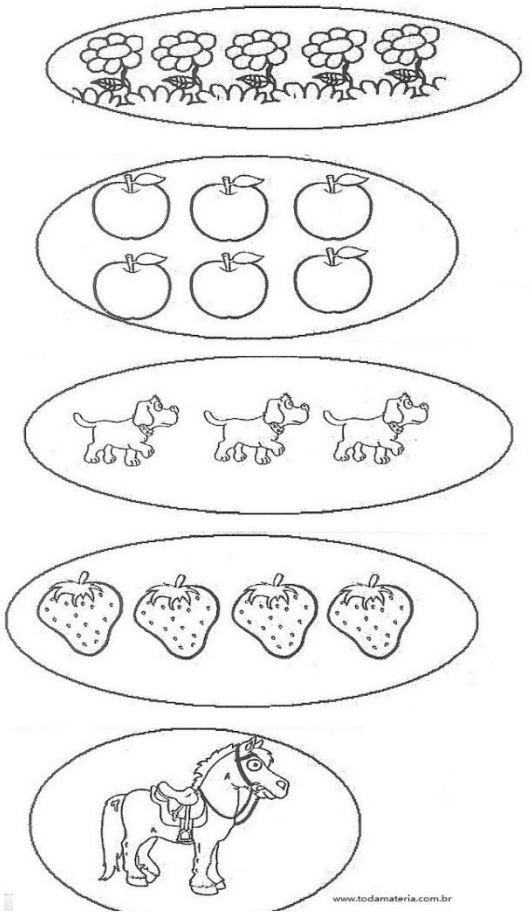

5	6
7	8

8	7
5	6

5	2
3	4

4	1
7	9

3	0
2	1

COMPONENTE CURRICULAR: MATEMÁTICA

DATA: 10/07/2020 –(02-AULAS) -SEXTA -FEIRA

DATA: 14/07/200 –(01-AULA) - TERÇA-FEIRA

Aluno(a)_____

14/07/2020

RESOLVA AS ADIÇÕES. USE OS ESPAÇOS PARA DESENHAR SE PRECISO:

6 + 4 =
8 + 3 =
7 + 5 =
9 + 4 =
7 + 7 =
10 + 5 =
9 + 5 =
8 + 9 =
10 + 8 =
12 + 7 =
10 + 10 =

profrafaelak.blogspot.com

Aluno(a)_____

15/07/20

DESENHE A QUANTIDADE DE BOLINHAS QUE SE PEDE:

09(NOVE)	10(DEZ)	11(ONZE)
12(DOZE)	13(TREZE)	14(QUATORZE
15(QUINZE)	16(DEZESSEIS)	17(DEZESSETE)



profrafaelak.blogspot.com

HABILIDADE: (MSEF01MA14); (MSEF01MA01)

CONTEÚDO: Correspondência e Quantidades dos elementos

COMPONENTE CURRICULAR: MATEMÁTICA

DATA: 15/07/2020-(01-AULA) -QUARTA-FEIRA

1) Escreva os numerais de 0 a 10 em ordem crescente.

_____

_____

2) Escreva os numerais de 0 a 10 em ordem decrescente

_____

_____

3) Coloque o nome nas formas e pinte-as.

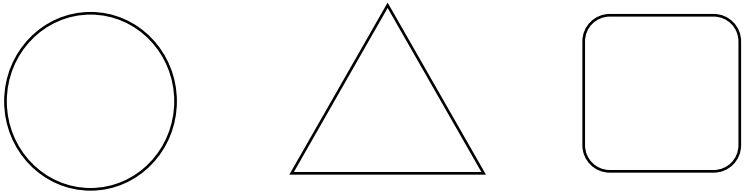

_____ _____ _____

HABILIDADE: (MS. EF01GE05)

CONTEÚDO: Meios de Comunicação; Noções Temporais

Aluno(a)_____

data:01/07/2020

Meios de comunicação

Descubra o meio de comunicação, observando as gravuras abaixo.



a) Circule o meio de comunicação que apresenta apenas som.

b) Pinte o meio de comunicação no qual se fala com as pessoas a distância.

c) Faça um X no meio de comunicação que apresenta som e imagem.

d) Faça um quadrado em torno do meio de comunicação no qual podemos acessar a internet.

httpeducar.blogspot.com

COMPONENTE CURRICULAR: GEOGRAFIA

DATA: 01/07/2020 (01-AULA) QUARTA-FEIRA

DATA:02/07/2020 (01-AULA) QUINTA-FEIRA

Aluno(a)_____

data:02/07/2020

PINTE AS CENAS, RECORTE AS FIGURAS ABAIXO E COLE-AS NOS QUADROS DE ACORDO COM ATIVIDADES QUE FAZEMOS DURANTE O DIA E À NOITE.



HABILIDADE: (EFGE01)

CONTEÚDO: Os Cômodos, divisão e objetos de uma casa

Aluno(a)_____

data:08/07/2020

◆ Escreva nos quadros os nomes dos cômodos e áreas de uma casa, de acordo com a ilustração:



COMPONENTE CURRICULAR: GEOGRAFIA

DATA:08/07/2020 (01-AULA) QUARTA-FEIRA

DATA:09/07/2020 (01-AULA) QUINTA-FEIRA

Aluno(a)_____09/07/2020

☺ ESCREVA OS NOMES DE CADA UMA DAS PARTES DA CASA.



☺ ENCONTRE NO CAÇA-PALAVRAS O NOME DOS OBJETOS ABAIXO:



B	A	B	A	J	U	R	C	D	E	F
G	G	E	L	A	D	E	I	R	A	H
I	J	L	M	F	O	G	Ã	O	N	O
C	A	M	A	P	T	O	A	L	H	A
Q	S	O	F	Á	R	S	T	U	V	X
Z	A	E	S	T	A	N	T	E	B	C
D	V	A	S	O	E	F	G	H	I	J

HABILIDADE: (EF01GE04)

CONTEÚDO: Bairro; Entrevista familiar.

ALUNO(A):.....

15/07/20

VISÃO DO BAIRRO!

MOSTRE QUE VOCÊ É UM BOM OBSERVADOR E RESPONDA AS PERGUNTAS:



De acordo com a ilustração, o que está no centro? _____

O que está à direita da igreja? _____

Em frente à igreja? _____

O que se localiza à esquerda da igreja? _____

E à esquerda da praça? _____

httpsatividadespedagogicas.net

COMPONENTE CURRICULAR: GEOGRAFIA E HISTÓRIA

DATA: 15/07/2020 –(01-AULA) – QUARTA-FEIRA

DATA:01/07/2020 –(01-AULA) -QUARTA-FEIRA

Aluno(a)_____

data:01/07/2020

PESQUISANDO EM CASA

① ENTREVISTE TRÊS PESSOAS DA SUA FAMÍLIA SOBRE O PROGRAMA AO QUAL ELAS COSTUMAM ASSISTIR PELA TV.



1ª ENTREVISTA	NOME:
DO QUE VOCÊ MAIS GOSTA NA TV?	
( ) DESENHO ANIMADO	( ) TELEJORNAL
( ) NOVELA	( ) FILME ( ) OUTROS

2ª ENTREVISTA	NOME:
DO QUE VOCÊ MAIS GOSTA NA TV?	
( ) DESENHO ANIMADO	( ) TELEJORNAL
( ) NOVELA	( ) FILME ( ) OUTROS

3ª ENTREVISTA	NOME:
DO QUE VOCÊ MAIS GOSTA NA TV?	
( ) DESENHO ANIMADO	( ) TELEJORNAL
( ) NOVELA	( ) FILME ( ) OUTROS

HABILIDADE: (MSEF 01HI08**)**

CONTEÚDO: Festa Junina; Minhas Preferencias.

Aluno(a)_____

02/07/20

ATIVIDADE JUNINA

Descubra o nome e cole o desenho:

Sou branquina e saborosa	Eu aqueço as noites frias
Sou feito de chitão e fitas	Sou usada nas quadrilhas
Sou feito de palha ou de couro	Sou colorida e sirvo de enfeite



www.misturadealegria.blogspot.com.br

COMPONENTE CURRICULAR: HISTÓRIA

DATA:02/07/2020 (01-AULA) -QUINTA-FEIRA

DATA:08/07/2020 (01-AULA) -QUARTA-FEIRA

Aluno(a)_____

08/07/20

MEUS BRINQUEDOS PREFERIDOS

① COMPLETE O NOME DE CADA BRINQUEDO COM AS LETRAS QUE ESTÃO FALTANDO, DE ACORDO COM A LEGENDA.
DEPOIS, PINTE SEUS BRINQUEDOS PREFERIDOS.

LEGENDA			
	BICICLETA		BOLA
	CARRO		BONECA

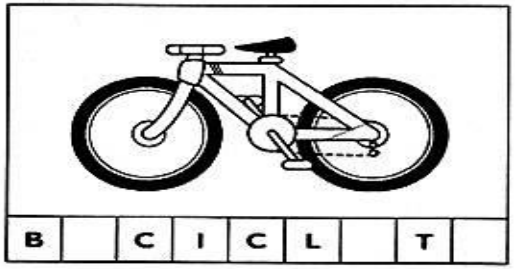

B C I C L T

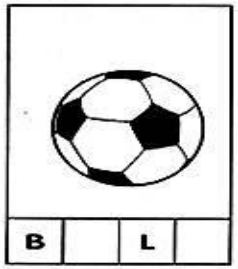

B L

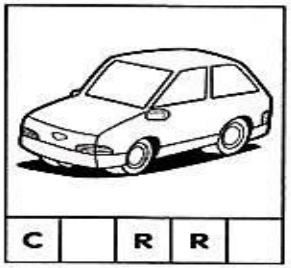

C R R



B N E C

httpwwwmarcelacristina.blogspot.com

HABILIDADE: (MSEF01HI01)

CONTEÚDO: Fases de Crescimento; Preferencia Familiar

Aluno(a)_____ 09/07/2020

FASES DA VIDA

LIGUE CADA PESSOA AO NOME DA FASE QUE ESTÁ VIVENDO.









VELHICE

FASE ADULTA

INFÂNCIA

ADOLESCÊNCIA

2. COMO É CHAMADO O PRIMEIRO MOMENTO DA VIDA,

- ◯ INFÂNCIA
- ◯ NASCIMENTO
- ◯ JUVENTUDE



www.educaçãoetranformação.com.br

COMPONENTE CURRRICULAR: HISTÓRIA

DATA:09/07/2020 –(01-AULA) -QUINTA-FEIRA

DATA:15/07/2020 –(01-AULA) -QUARTA-FEIRA

Aluno(a)_____

TRABALHANDO COM GRÁFICOS

① PINTE UM QUADRO PARA REPRESENTAR O RESULTADO DAS ENTREVISTAS QUE A TURMA FEZ SOBRE O PROGRAMA DE TV PREFERIDO DAS PESSOAS DA FAMÍLIA.

DESENHO ANIMADO	TELEJORNAL	NOVELA	FILME	OUTROS

② MARQUE UM X NO PROGRAMA AO QUAL AS PESSOAS ENTREVISTADAS MAIS ASSISTEM.

- ☐ DESENHO ANIMADO.
- ☐ TELEJORNAL.
- ☐ NOVELA.
- ☐ FILME.
- ☐ OUTROS.



httpwwwmarcelacristina.blogspot.com