ESTADO DE MATO GROSSO DO SUL
MUNICIPIO DE LADÁRIO -MS
SECRETARIA MUNICIPAL DE EDUCAÇÃO

ESCOLA MUNICIPAL EDUARDO MALHADO

PROFESSOR(A):APARECIDA CENA
COMPONENTES CURRICULARES: LÍNGUA PORTUGUESA, MATEMÁTICA, GEOGRAFIA E HISTÓRIA

ATIVIDADES PEDAGÓGICAS COMPLEMENTARES

(REFERENTE AOS DIA 01/08/2020 A 14/08/2020)

SÉRIE: 1º ANO -ENSINO FUNDAMENTAL - I
TURMA: B -PERÍODO: VESPERTINO







ALUNO(A)_____SERIE:_____DATA:03/08/2020-02 (DUAS AULAS) -SEGUNDA-FEIRA

COMPONENTE CURRICULAR:LÍNGUA PORTUGUESA-CONTEÚDO: Correspondência e Letra Nn- HABILIDADE: MS. EF01LPs.10; MSEF01LP.s.03

Pinte os quadrinhos que corresponde com o nome da figura



- ☐ BOLA
- ☐ PETECA
- ☐ BONECA
- ☐ PIÃO

- ☐ FOCA
- ☐ TOCA
- ☐ BOCA
- ☐ BOTA





- ☐ MACACO
- ☐ MALA
- ☐ MOCACA
- ☐ MACCAO

- ☐ CANECA
- ☐ PETECA
- ☐ BONECA
- ☐ PANELA



Este desenho começa com a letra:

- ☐ C
- ☐ S
- ☐ A
- ☐ N



Marque o nome do desenho



- ☐ BLAO
- ☐ BOAL
- ☐ BOLA
- ☐ BAOL

MARQUE QUANTAS PALAVRAS HÁ NESTA FRASE:O PATO NADA NO RIO

- ☐ 4
- ☐ 3
- ☐ 2
- ☐ 5



www.misturadealegria.blogspot.com

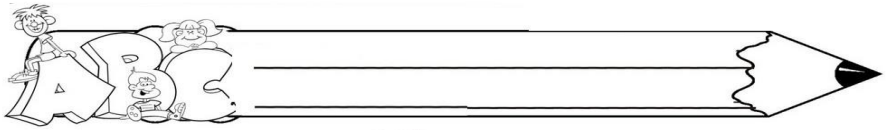

TEM NO NÓ E TEM NA NOZ
NO NARIZ E NA NAVALHA
NO NAVIO E NO NOVELO
NA NENÊ E NA NATÁLIA



Complete com a letra N



___ OVELO

9 ___ OVE



___ UVEM

VAMOS TREINAR?

N _____ _____ _____ _____ _____ _____ _____

N _____ _____ _____ _____ _____ _____ _____

N _____ _____ _____ _____ _____ _____ _____

n _____ _____ _____ _____ _____ _____ _____

n _____ _____ _____ _____ _____ _____ _____

n _____ _____ _____ _____ _____ _____ _____

www.gibarbosa1blogspot.com

ALUNO(A)_____SÉRIE:_____DATA:04/08/20200 e 06/08/2020

COMPONENTE CURRICULAR:LÍNGUA PORTUGUESA- CONTEÚDO: Letra Nn- HABILIDADE: MS. EF01LPs.10

1-Vamos treinar a letra N n

m

n

Ô marinheiro, marinheiro
Marinheiro só.
Quem te ensionou a nadar?
Marinheiro só.
Foi o tombo do navio?
Marinheiro só.
Ou foi o balanço do mar?

Folclore



Cubra e copie

n m m

N N N

na ne ni no nu

Na Ne Ni No Nu



nuvem

Nanda



Natália olhava as nuvens.

WWW.MESTREDOSABER.COM.BR

1-Complete as palavras com as sílabas NA-NE-NI-NO-NU



___VIO



___ VE



___VE



___RIZ



___ TA



___ NHO



___VELO



___VEM



___ VALHA

www.misturadealegria.blogspot.com.br

ALUNO(A)_____SERIE_____DATA:07/08/2020 e 08/08/2020

COMPONENTE CURRICULAR: LÍNGUA PORTUGUESA-CONTEÚDO: Dia dos Pais e Letra P- HABILIDADE:MS01LPs.05



PAPAI

PROCURAR NO DIAGRAMA ABAIXO A PALAVRA **PAPAI** E PINTAR:

Q	W	P	A	P	A	I	E	R	T	Y
P	A	P	A	I	U	I	O	A	S	D
F	G	H	J	P	A	P	A	I	K	L
Z	P	A	P	A	I	X	C	V	B	N
M	Q	V	Z	W	S	P	A	P	A	I
X	E	D	P	A	P	A	I	C	R	F

1. QUANTAS LETRAS TEM A PALAVRA PAPAI?

2. QUAL É A PRIMEIRA LETRA?

3. QUAL É A ÚLTIMA LETRA?

4. QUANTAS VEZES APARECE A PALAVRA PAPAI NO DIAGRAMA?

www.pinterest.com

P p
p p



Porco

Aluno(a) Cubra o pontilhado e copie as letras com capricho!

P - P - P - P - P

Copie a letra P

P_____P_____P_____P_____P_____P_____P_____

P_____P_____P_____P_____P_____P_____P_____

P_____P_____P_____P_____P_____P_____P_____

P_____P_____P_____P_____P_____P_____P_____

ESCOLAEDUCACAO.COM.BR

ALUNO(A)_____SÉRIE:_____DATA:10/08/2020- 02(DUAS AULAS) -SEGUNDA FEIRA

COMPONENTE CURRICULAR:LÍNGUA PORTUGUESA- CONTEÚDO: Letra Pp (família silábica) e Adivinhas-HABILIDADE:MS01LPs.05; MS01LPs.06

1-Vamos trabalhar com a letra Pp

Pulga toca flauta,
perereca, violão.
Piolho pequenino
também toca rabecão.

A pulga e o percevejo
fizeram uma combinação:
de dar uma serenata
debaixo do meu colchão.

Folclore



Cubra e copie.

p P

pa pe pi po pu

Pa Pe Pi Po Pu

peteca Paula





A pulga picou Pepeu.

WWW.MESTREDOSABER.COM.BI

ADIVINHAÇÕES COM A LETRA P:

USAMOS PARA PENTEAR OS CABELOS.

INSTRUMENTO MUSICAL COM VÁRIAS TECLAS.

PEÇA DO VESTUÁRIO QUE USAMOS PARA DORMIR.

MAMÃE USA PARA FAZER COMIDA.

TRABALHA NO CIRCO E DIVERTE AS CRIANÇAS.

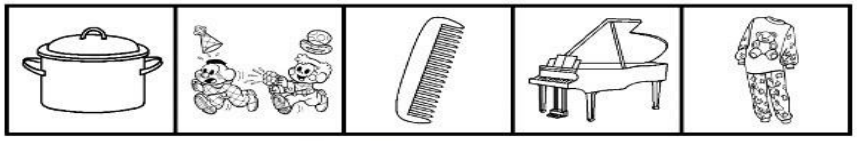

www.educaçaoetranformação.com.br

ALUNO (A)_____SERIE_____DATA: 11/08/2020 e 13/08/2020

COMPONENTE CURRICULAR: LÍNGUA PORTUGUESA -CONTEÚDO: Família Silábica da letra P e Junção de Silabas- HABILIDADE:MS. EF01LP.s.06

1)Complete as palavras com as sílabas PA-PE-PI-PO-PU



___POCA



___VIO



___TO



___ÃO

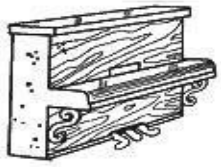

___ANO



___TECA

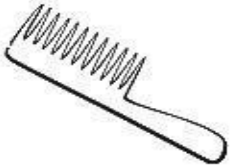

___NTE



___TINS



___NELA

www.misturadealegria.blogspot.com.br

JUNTOU...Formou!

Junte as sílabas com símbolos iguais e escreva as palavras abaixo

SA	A	MI	VI	CO
RA	ÇÃO	ÃO	BA	ÃO
LÃO	NHÃO	BÃO	LE	CA













Blog Nosso Espaço Educando

ALUNO (A)_____SÉRIE_____ DATA:14/08/2020-

COMPONENTE CURRICULAR LÍNGUA PORTUGUESA – CONTEÚDO: Formação de Palavras e Alfabeto/Família Silábica HABILIDADE: MS. EF01LPs.05; MS. EFLPs.06

1-Recorte as sílabas abaixo.
2-Forme os nomes dos desenhos, seguindo os símbolos.
3-Cole e copie na linha pontilhada

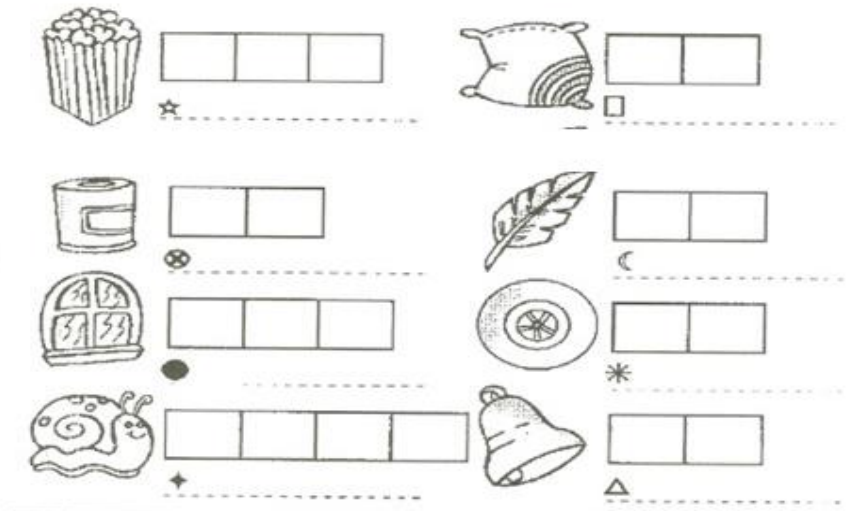

PI	SA	PE	JA	CA
LA	RA	PO	RO	NA
SI	NE	MU	CA	TA
DA	JO	LA	NO	CO

Blog Nosso Espaço Educando

1) Vamos treinar as letras do alfabeto? (Consoantes e Vogais) , e Familia Silabica das letras B, C, D, F. G, H,J,M,N

B_____C_____D_____F_____G_____ H_____ J_____ K_____

L_____ M_____ N_____ P_____

b___ c___ d___ f___ g___ h___ j___ k___

l___ m___ n___ p___

A_____ E_____ I_____ O_____ U_____

A_____ E_____ I_____ O_____ U_____

a___ e___ i___ o___ u___

a___ e___ i___ o___ u___

BA_____BE_____BI_____BO_____BU_____BÃO_____

CA_____CE_____CI_____CO_____CU_____CÃO_____

DA_____DE_____DI_____DO_____DU_____DÃO_____

FA_____FE_____FI_____FO_____FU_____FÃO_____

GA-___GE____GI_____GO____GU_____GÃO ____

MA____ME____MI___MO____MU_____MÃO_____

NA____NE_____NI____NO_____NU____NÃO____

PA____PE_____PI_____PO_____PU_____PÃO____

ALUNO(A)_____SÉRIE:_____ DATA:04/08/2020 e 05/08/2020

COMPONENTE CURRICULAR: MATEMÁTICA-CONTEÚDO: Gráfico e Quantidade- HABILIDADE:MS. EF01MA.s.01; MS. EF01MA.s.02

AS COISAS DO PAPAI

VEJA AS QUANTIDADES:

			
BONÉS 6	**CAMISAS** 12	**CALÇAS** 15	**CINTOS** 4

REPRESENTE NO GRÁFICO:

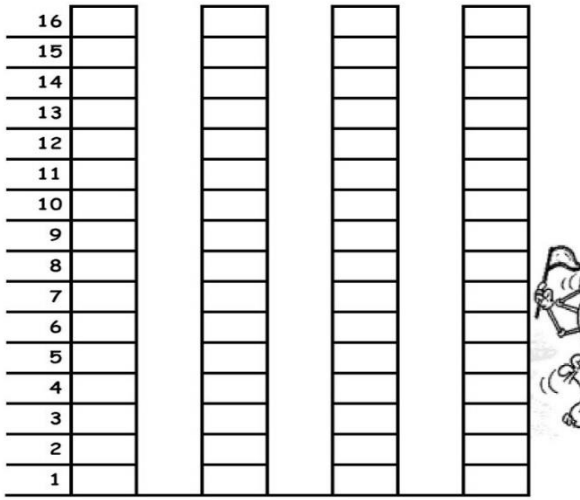



blogdaprofessoraedivania.blogspot.com.br

Papai precisa de 2 (dois) objetos de cada quadro em sua mala. Ajude-o pintando a quantidade corretamente.





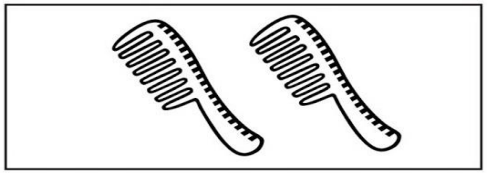



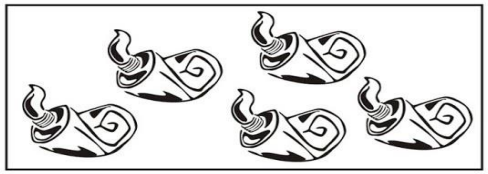

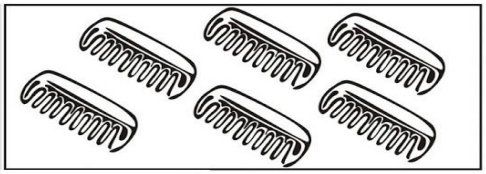



ALUNO(A)_____SERIE:_____ DATA:07/08/2020-(02-AULAS)-SEXTA-FEIRA

COMPONENTE CURRICULAR: MATEMÁTICA-CONTEÚDO :Gráfico/Quantidade e Problemas - HABILIDADE:MS. EF01MA.s.01; MS. EF01MA06

A PARTIDA DE FUTEBOL

PAPAI CEBOLA, O CEBOLINHA E O VOVÔ JOGARAM UMA PARTIDA DE FUTEBOL.

VEJA A QUANTIDADE DE GOLS QUE CADA UM MARCOU:





1-QUEM MARCOU MAIS GOLS ?_____

2-QUEM MARCOU MENOS GOLS ?_____

3-QUAL FOI O TOTAL DE GOLS DESSA PARTIDA ?_____

4-REGISTRE NA TABELA A QUANTIDADE DE GOLS DE CADA UM, REPRESENTANDO COM NÚMEROS E DESENHOS:

PAPAI		
VOVÔ		
CEBOLINHA		

blogdaprofessoraedivania.blogspot.com.br

PROBLEMATIZANDO

HISTÓRIA MATEMÁTICA	COMPLETANDO COM DESENHO	TOTAL
HAVIA 1 PÁSSARO NA ÁRVORE. 	POUSARAM MAIS 5.	QUANTOS PÁSSAROS AO TODO?
ERAM 5 FLORZINHAS NO JARDIM. 	MAMÃE PLANTOU MAIS 4.	QUANTAS FLORZINHAS AO TODO?
2 PATINHOS NADAVAM NA LAGOA. 	CHEGARAM MAIS 3.	QUANTOS PATINHOS AO TODO?
6 JOANINHAS ESTAVAM NO JARDIM. 	CHEGARAM MAIS 2.	QUANTAS JOANINHAS AO TODO?
7 PEIXINHOS ESTAVAM NO AQUÁRIO. 	PEDRINHO COLOCOU MAIS 3.	QUANTOS PEIXINHOS AO TODO?

www.amorensina.com.br

ALUNO(A)_____SERIE:_____ DATA:08/02/2020-(02 AULAS) SL REF. SEXTA-FEIRA

COMPONENTE CURRICULAR: MATEMÁTICA-CONTEÚDO: Sequência Numérica e Adição/Subtração/Ordem Crescente/Decrescente-HABILIDADE:MS. EF01MA.04-10





ESCREVA A SEQUENCIA NUMÉRICA ATÉ 30

0									
10									
20									
30									

ESCREVA OS NUMERAIS DE 1 A 20 POR EXTENSO.

-1.....
-2.....
-3.....
-4.....
-5.....
-6.....
-7.....
-8.....
-9.....

10.....
11.....
12.....
13.....
14.....
15.....
16.....
17.....

18.....
19.....
20.....

danieducar.com

Treinando Adição

1) 6+8 =
2) 3+5 =
3) 4+8=
4) 9+3=
5) 5+2=
6)11+1=
7) 7+2=
8) 2+3=
9)14+2=
10) 3+7=

Treinando a Subtração

1) 3-2=
2) 5-1=
3) 8-2=
4) 7-5=
5) 9-4=
6) 10-8 =
7) 12-2 =
8) 14-7 =
9) 13-5 =
10) 11-3=

Coloque os numerais em ordem crescente.

20-19-18-17-16-15-14-13-12-11-10-9-8-7-6-5-4-3-2-1-0

.....

.....

EducacaoeTransformacao.com.br

ALUNO(A)_____SERIE:_____ DATA:11/08/2020 e 12/08/2020

COMPONENTE CURRICULAR: MATEMÁTICA-CONTEÚDO: Dezenas e Unidades e Números Naturais até 20 - HABILIDADE:MS. EF01MA.s.08

DEZENAS E UNIDADES



1 grupo de 10 unidades forma 1 dezena!

Os palitos da caixa de fósforo foram contados. Observe a tabela e complete

Palitos	Dezenas	Unidades	Palitos
	0	9	nove
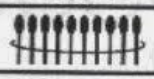			
			
			
			
			
			
			
			
			
			
			

1) DESCUBRA QUAIS SÃO OS NÚMEROS E ESCREVA:

D U	D U	D U	D U	D U	D U
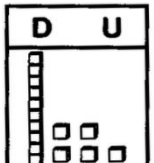 15	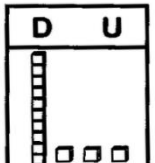	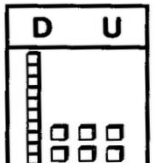	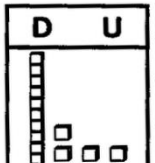	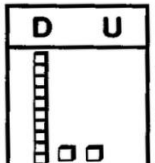	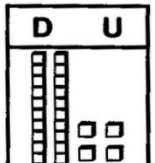
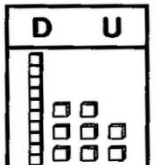	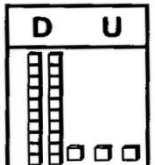	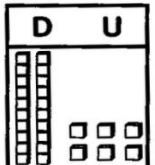	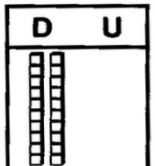	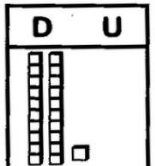	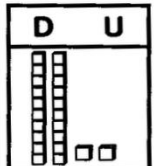

2) QUEM SOU EU?

A) 1 DEZENA E 5 UNIDADES, SOU O [ ].

B) 1 DEZENA E 3 UNIDADES, SOU O [ ].

C) 2 DEZENAS E 8 UNIDADES, SOU O [ ].

D) 2 DEZENAS E 0 UNIDADES, SOU O [ ].

E) 1 DEZENA E 2 UNIDADES, SOU O [ ].



3) EU COMEÇO, VOCÊ CONTINUA:

0 - 1

10 - 11

20 - 21

ALUNO(A)_____SERIE:_____ DATA:14/02/2020 –(02 AULAS) -SEXTA-FEIRA

COMPONENTE CURRICULAR: MATEMÁTICA-CONTEÚDO: Unidades/Dezenas e Operações com Números Naturais- HABILIDADE: MS. EF01MA.s.08

FIQUE LIGADO!

1) Veja o modelo e complete as operações.

D	U		
1	1		10 + 1 = 11

1 dezena + 1 unidade = 11

10 + 1 = 11 unidades

D	U		
1	2		10 + 2 =

1 dezena + 2 unidades = 12

10 + _____ = 12 unidades

D	U		
1	3		10 + 3 =

1 dezena + _____ unidades = 13

10 + 3 = _____ unidades

D	U		
1	4		10 + 4 =

1 dezena + 4 unidades = _____

10 + _____ = 14 unidades

1)LIGUE CADA CACHORRINHO AS SUAS CASAS DE ACORDO COM O RESULTADO DAS OPERAÇÕES





$+\begin{matrix}6\\7\end{matrix}$



8



$+\begin{matrix}5\\3\end{matrix}$



13



$+\begin{matrix}7\\4\end{matrix}$

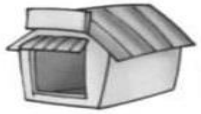

11

COMPLETE COM OS NÚMEROS QUE FALTAM O CAMINHO QUE O GATO DEVE PERCORRER ATÉ O NÚMERO 19:

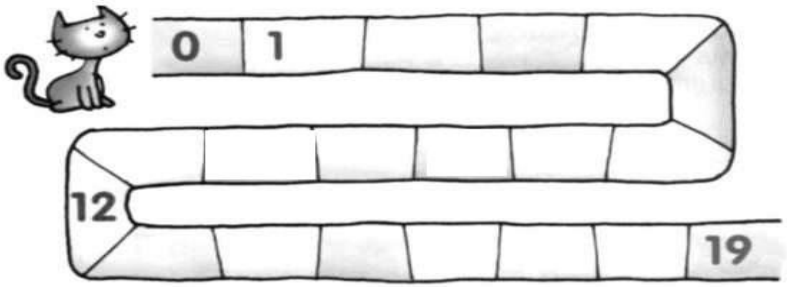

www.atividadespedagogicasuzano.com.br

ALUNO(A)_____SÉRIE:_____ DATA: 05/08/2020 e 06/08/2020-QUARTA E QUINTA

COMPONENTE CURRICULAR: GEOGRAFIA-CONTEÚDO: Paisagem - HABILIDADE: Identificar os elementos naturais e modificados no ambiente em que vivemos.

A PAISAGEM

O ambiente é formado por tudo o que faz parte de um lugar: Animais, plantas, água, terra.

Também faz parte do ambiente aquilo que foi construido pelas pessoas: Casas, carros, objetos

1. CIRCULE O QUE NÃO É NATURAL NESTA PAISAGEM, OU SEJA, FOI CONSTRUÍDO PELAS PESSOAS.



2. PINTE APENAS OS ELEMENTOS NATURAIS.



www.atividadespedagogicas.net

1) PINTE DE VERDE O CIRCULO QUE REPRESENTA PAISAGEM NATURAL

2)PINTE O CIRCULO DE AZUL QUE REPRESENTA PAISAGEM MODIFICADA PELAS PESSOAS



www.viverdeeducar.com

ALUNO(A)_____SERIE:_____ DATA:12/08/2020 E 13/08/2020-QUARTA E QUINTA

COMPONENTE CURRICULAR: GEOGRAFIA-CONTEÚDO: Meios de Transporte - HABILIDADE: Identificar os meios de transporte aéreos, aquáticos e terrestre

Existem vários tipos de meios de transportes:Aéreo, Terrestre e Aquático

Marque os meios de transporte conforme a legenda abaixo:

1 AÉREO 2 TERRESTRE 3 AQUÁTICO



www.aartedeensinareaprender.com



(1 - avião, 2 - ônibus, 3 - trem, 4 - foguete, 5 - carro, 6 - helicóptero, 7- navio

ALUNO(A)_____SERIE:_____ DATA:05/06/2020 e 06/08/2020

COMPONENTE CURRICULAR: HISTÓRIA-CONTEÚDO: Dia dos Pais (Cruzadinha e Jornal do dia Pais) - HABILIDADE: Explorar o significado dessas datas comemorativas.

PAI JORNAL DO PAPAI

ESCRITO POR_____

Escreva seu nome

ESTE É MEU PAI!

Desenhe

PAPAI GOSTA DE COMER_____

ELE TRABALHA

_____

O NOME DELE É

_____

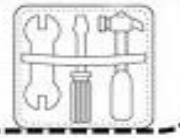

COISAS QUE GOSTO DE FAZER COM PAPAI:

_____

_____

_____

_____

_____

_____

_____

danieducar.com

CRUZADINHA DO PAPAI

1)Preencha a cruzadinha com os nomes do objeto que o papai usa

1-ELE USA TODO O DIA NO PULSO.
2-É GRANDE, TEM 4 RODAS E SÓ FUNCIONA COM COMBUSTÍVEL.
3-LOCAL ONDE ELE GUARDA O DINHEIRO.
4-É FORMADO DE 2 E VIVE ANDANDO NO CHÃO.
5-LOCAL ONDE ELE GUARDA AS CHAVES.
6-ELE USA NOS DIAS DE MUITO SOL.



(RELÓGIO - CARRO - CARTEIRA -SAPATO - CHAVEIRO - ÓCULOS)

1-
2-
3-
4-
5-
6-

2) Agora escreva três frases com a ajuda de um adulto sobre o papai utilizando palavras da cruzadinha

_____

_____

_____

ALUNO(A)_____SERIE:_____ DATA:12/08/2020 e 13/08/2020-QUARTA e QUINTA

COMPONENTE CURRICULAR: HISTÓRIA-CONTEÚDO: Dia dos Estudantes /Cruzadinha e Objetos - HABILIDADE: Explorar o significado dessas datas comemorativas

Parabéns!!!! estudante pelo seu dia que é comemorado no dia 11 de Agosto

Estudar.....é conhecer coisas novas, aprender a ver o mundo de um jeito bem diferente, é ter alegria a cada hora, é tempo de preparar para a vida, é uma tarefa que deve ser feito com o coração. ❤

1)Dê o nome dos objetos que voce usa na escola.

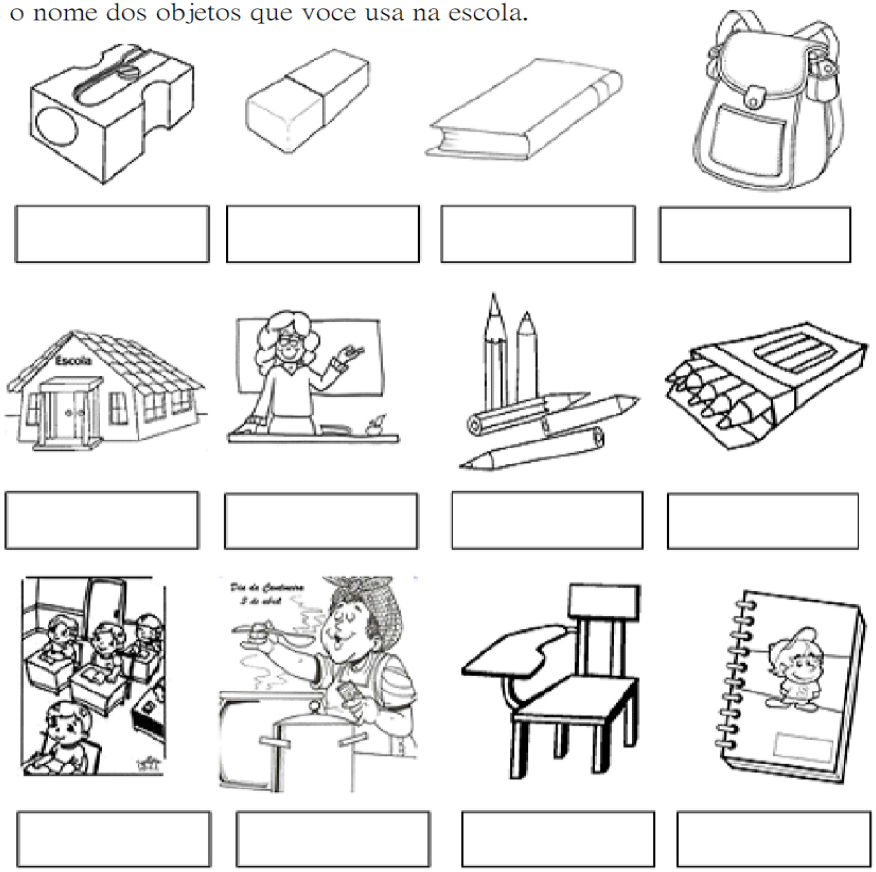

EducacaoeTransformacao.com.br

Parabéns!!! estudante pelo seu dia!

1) Complete o diagrama abaixo com os nomes dos objetos utilizados pelos estudantes



www.smartkids.com.br