Escola Municipal Eduardo Malhado

Ladário MS, 17 de Abril de 2020

Aluno(a)_____**Série: 1º Ano B-Vespertino**

Professor(a): Aparecida Cena

Matemática: Contagem e Registro

ATIVIDADES PEDAGÓGICAS COMPLEMENTARES



QUANTOS PASSARINHOS TEM NA ÁRVORE? _____



QUANTOS PASSARINHOS ESTÃO CHEGANDO? _____



QUANTOS PASSARINHOS TEM AGORA NA ÁRVORE? ____



QUANTOS MENONOS ESTÃO BRINCANDO? _____



QUANTOS MENINOS ESTÃO CHEGANDO? _____



AGORA, QUANTOS MENINOS ESTÃO BRINCANDO? _____

Escola Municipal Eduardo Malhado
Ladário MS, 07 de Abril de 2020
Aluno(a)_____Série: 1º Ano B -Vesp.
Professor(a):Aparecida

Atividade Pedagógica Complementar
Matemática: Quantidade e Conjuntos

1) Conte a quantidade em cada conjunto e registre.













Escola Municipal Eduardo Malhado

Ladário MS, 08 de Abril de 2020

Aluno(a):_____Série:1º Ano B Vesp.

Professor(a): Aparecida

Atvividades Pedagógicas Complementares

Matemática: Quantidades e Formas

1) Conte e registre a quantidade em cada conjunto.



2) OBSERVE OS BISCOITOS ABAIXO E PINTE DE AMARELO OS QUE SE PARECEM COM UM TRIÂNGULO E DE VERMELHO OS PARECIDOS COM UM CÍRCULO. DEPOIS, CIRCULE OS BISCOITOS MENORES .

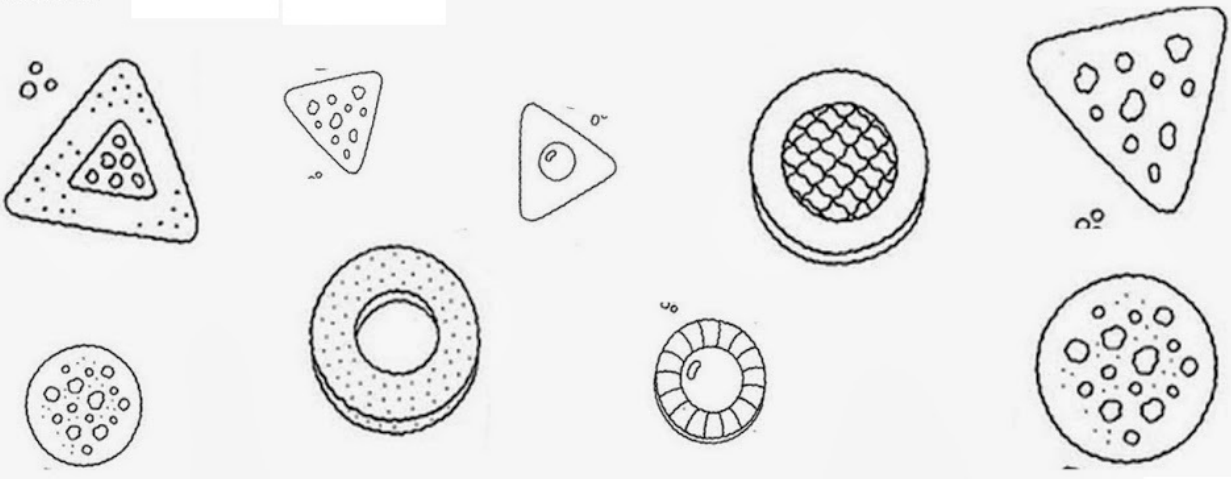

ESCOLA MUNICIPAL EDUARDO MALHADO
LADÁRIO MS,14 DE ABRIL DE 2020
ALUNO(A)_____SÉRIE: 1º ANO B
PROFESSORA(A):APARECIDA CENA
MATEMÁTICA: NÚMEROS NATURAIS ATÉ 20 POR EXTENSO

ATIVIDADES PEDAGÓGICAS COMPLEMENTARES

1- ESCREVA OS NÚMEROS POR EXTENSO ATÉ 20

1 _____
2 _____
3 _____
4 _____
5 _____
6 _____
7 _____
8 _____
9 _____
10 _____
11 _____
12 _____
13 _____
14 _____
15 _____
16 _____
17 _____
18 _____
19 _____
20 _____

ESCOLA M.EDUARDO MALHADO

LADARIO MS 03 DE ABRIL DE 2020

ALUNO(A)_____SÉRIE:1º B-V.

PROFESSOR(A):APARECIDA

***MATEMÁTICA**: ATIVIDADE/CORRESPONDENCIA DOS NUMERAIS.*

1)PINTE O NUMERAL QUE CORRESPONDE À QUANTIDADE DE ELEMENTOS



6	5	4



8	7	9



3	6	2



8	5	6

ESCOLA MUNICIPAL EDUARDO MALHADO
LADÁRIO MS, 15 DE ABRIL DE 2020
ALUNO(A)_____SÉRIE:1º A-VESP
PROF. APARECIDA CENA
MATEMÁTICA: PERCEPÇÃO VISUAL/DIFERENÇA



ATIVIDADES PEDAGÓGICAS COMPLEMENTARES

1- PROCURE AS 4 DIFERENÇAS ENTRE AS IMAGENS.





ESCOLA MUNICIPAL EDUARDO MALHADO
LADARIO MS 18 DE ABRIL DE 2020
ALUNO(A)_____SÉRIE:1º ANO B-VESP
PROF.APARECIDA CENA
MATEMÁTICA:FORMAS GEOMÉTRICAS E CORES



ATIVIDADES PEDAGÓGICAS COMPLEMENTARES

1)Pinte as formas geométricas com cores primárias e secundárias.

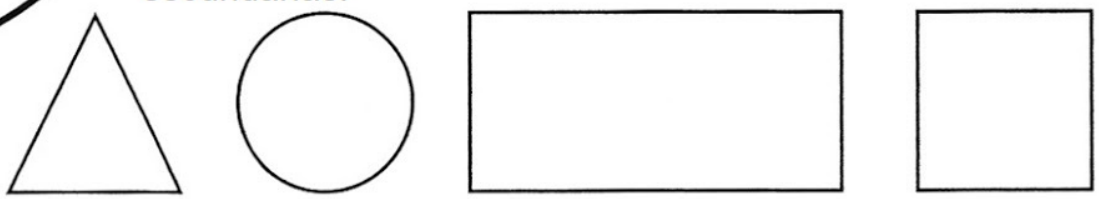

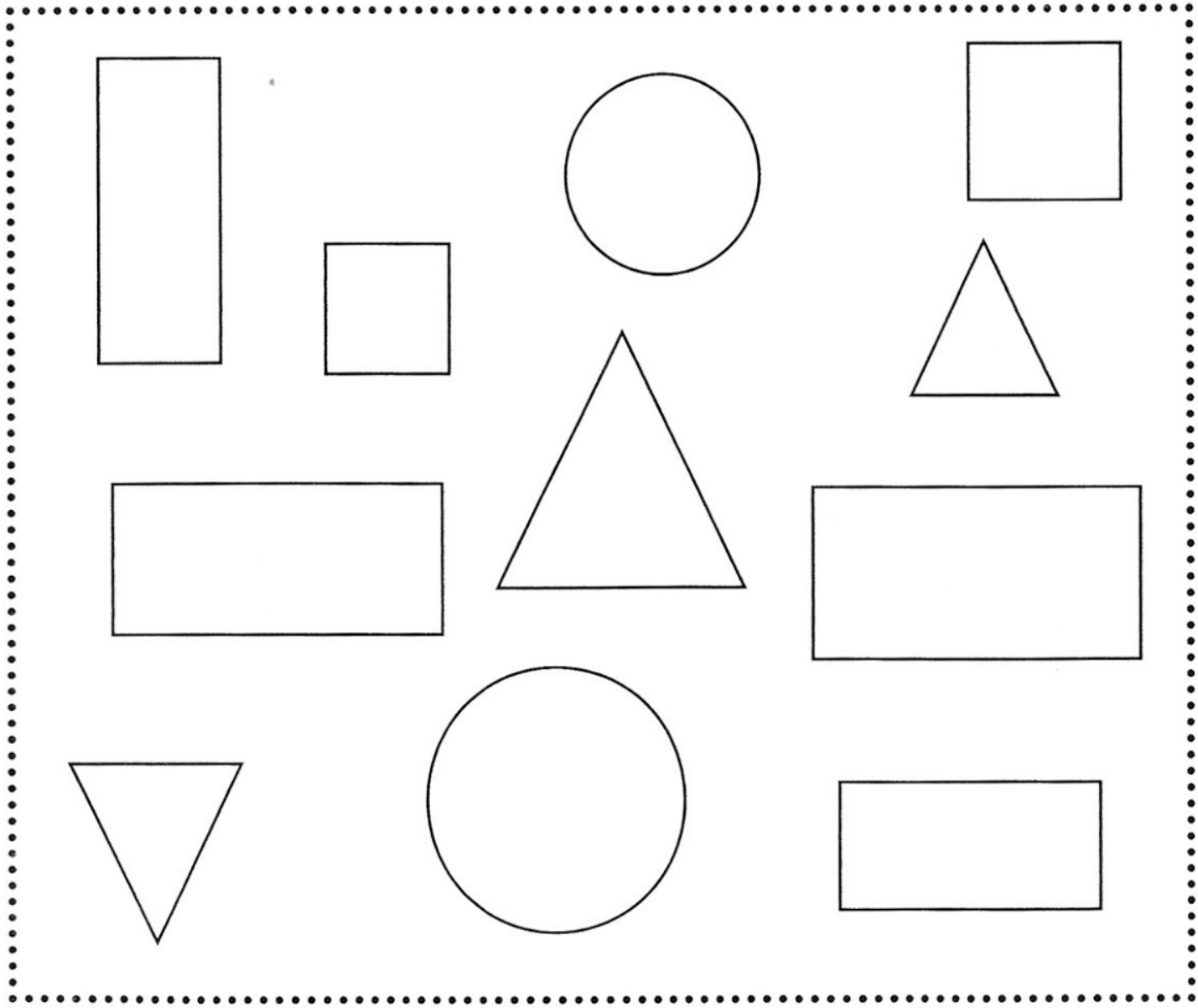

Escola Municipal Eduardo Malhado
Ladário MS, 11 de Abril de 2020
Aluno(a)_____Série: 1º Ano B
Professor(a): Aparecida
Matemática: Contagem e Cores

Atividades Pedagógicas Complementares

COELHİNHO DA PÁSCOA

1. COMPLETE A MÚSICA 'COELHINHO DA PÁSCOA' CORRETAMENTE:

COELHINHO DA _____

O QUE TRAZES PRA MIM?

UM _____, DOIS _____, _____ OVOS ASSIM

COELHINHO DA PÁSCOA

QUE COR ELES TÊM?

_____, AMARELO, _____ TAMBÉM



VERMELHO - OVO - PÁSCOA - TRÊS - OVOS - AZUL

2. PINTE OS OVOS ABAIXO NA SEQUÊNCIA DE CORES DA MÚSICA, FORMANDO UMA SEQUÊNCIA LÓGICA. DEPOIS, NUMERE OS OVOS E DESCUBRA A QUANTIDADE TOTAL:

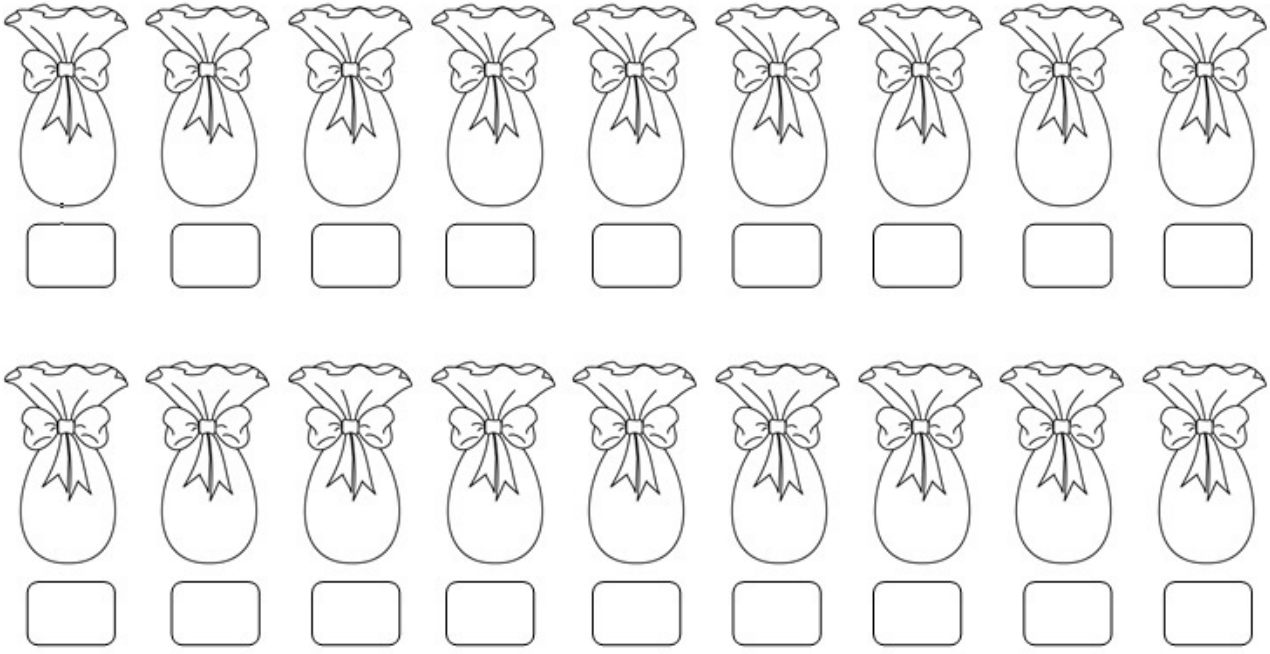

ESCOLA MUNICIPAL EDUARDO MALHADO
LADÁRIO MS, 17 DE ABRIL DE 2020
ALUNO(A)_____SÉRIE: 1º ANO B -VESPERTINO
PROF. *APARECIDA CENA*
MATEMÁTICA: PERCEPÇÃO DAS CORES

ATIVIDADES PEDAGÓGICAS COMPLEMENTARES

PINTE DE AMARELO O SOL:



PINTE DE VERMELHO A MAÇÃ:



PINTE DE VERDE A ÁRVORE:



PINTE DE AZUL A FLOR:



ESCOLA MUNICIPA EDUARDO MALHADO
LADÁRIO MS,03 DE ABRIL DE 2020
ALUNO(A)_____SÉRIE:1º ANO VESP
PROFESSO(A):APARECIDA
MATEMÁTICA: ATIVIDADE/NÚMEROS VIZINHOS

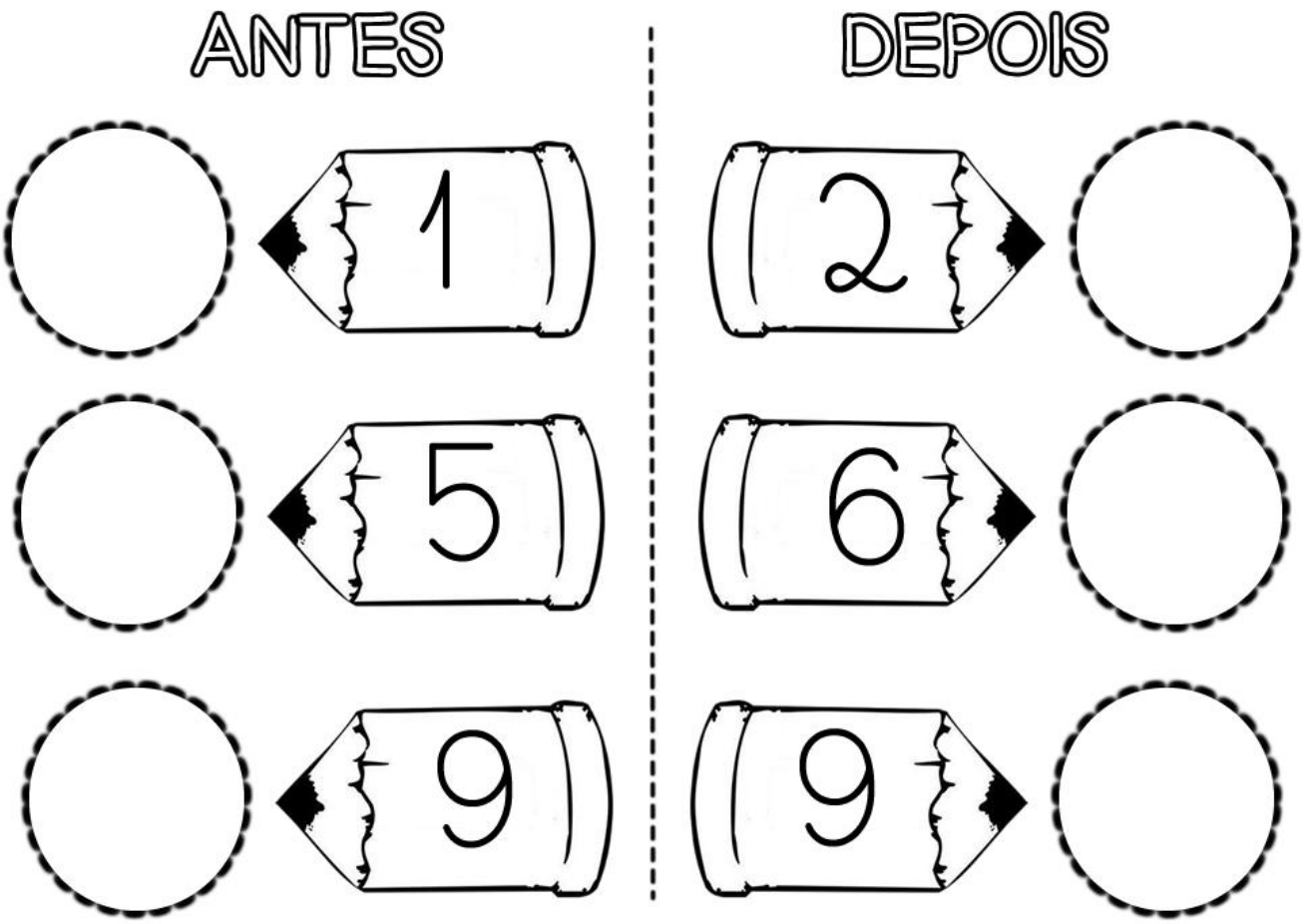

2- QUEM SÃO OS NÚMEROS VIZINHOS DE...

