ESCOLA MUNICIPAL EDUARDO MALHADO.

LADÁRIO MS, _____ DE AGOSTO DE 2020.

ALUNO(A)_____ 2° ANO_____.

PROF. SUELISY AULAS:02

CIÊNCIAS- Seres Vivos no ambiente- Plantas

HABILIDADE- MS(E.F02CI06) PERÍODO: 01/08 a 15/08/2020.

BIBLIOGRAFIA: https://br.pinterest.com

1 - Quais as partes que você conhece de uma planta?

_____

_____

2 – Leia o texto:

**História de uma planta**

Eu sou uma planta.

Tenho uma raiz que me segura bem firme na terra. Do solo, ela retira água e sais minerais.

Tenho também um caule forte que sustenta* meus galhos e folhas. Ele transporta a água e os sais minerais para todas as minhas partes.

As minhas folhas geralmente são verdes e precisam de muito Sol. Elas fabricam alimentos para eu crescer bem forte.

Às vezes, nascem flores em mim. É das minhas flores que se formam os frutos e as sementes.

Viu como eu sou?

3 - Agora, coloque o nome das minhas partes no desenho.

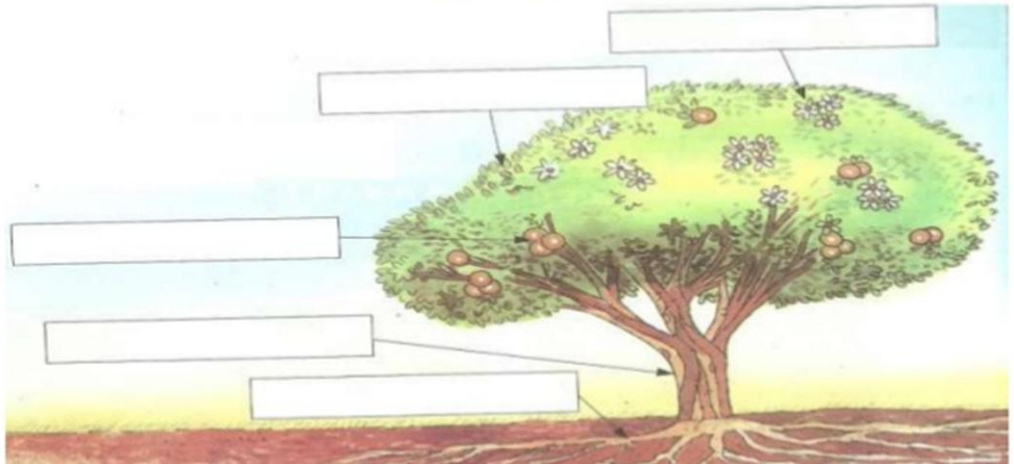

4 - Lembre-se das partes de uma planta e pinte a raiz de preto, o caule de marrom, as folhas de verde, as flores de amarelo e os frutos de vermelho:

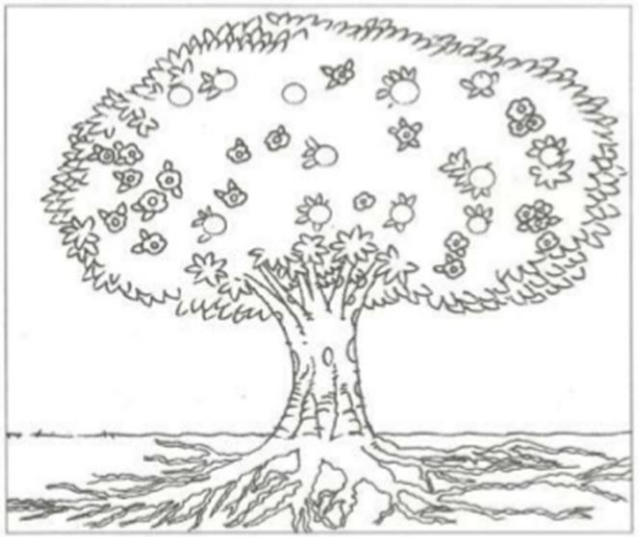

5 - Responda:

a) Para que serve a raiz?

_____

_____

_____

b) O que sustenta os galhos e as folhas de uma planta?

_____

_____

c) Onde pode ocorrer a formação dos frutos de uma planta?

_____

_____

d) Em uma planta, onde ficam as sementes?

_____

_____

6 - O que é, o que é? Leia as frases e responda às perguntas com apenas uma palavra.

a) Eu dei uma rosa e um cravo para a professora. O que a rosa e o cravo são? _____

b) Nós comemos seis bananas. O que a banana é? _____

c) Meu vizinho plantou uma laranjeira. O que a laranjeira é? _____

ESCOLA MUNICIPAL EDUARDO MALHADO.

LADÁRIO MS, _____ DE AGOSTO DE 2020.

ALUNO(A)_____ 2° ANO_____.

PROF. SUELISY AULAS:02

CIÊNCIAS- Seres Vivos no ambiente- Plantas

HABILIDADE- MS(E.F02CI06) PERÍODO: 01/08 a 15/08/2020.

BIBLIOGRAFIA: https://br.pinterest.com

1) Numere as partes de uma planta, de acordo com o que foi estudado.

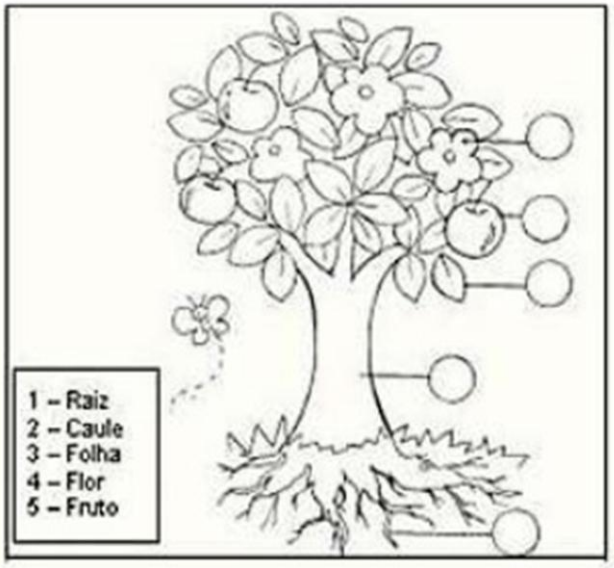


As plantas são seres vivos e por isso, nascem, crescem, se reproduzem e morrem

Numere pela ordem de crescimento.

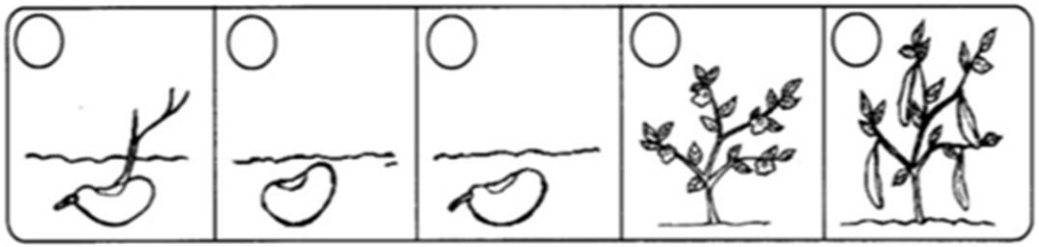

..ASSINALE COM UM X OS TIPOS DE PLANTAS QUE VOCÊ CONHECE.



PINTE DE VERDE AS PLACAS COM AS FIGURAS QUE CONTÉM PLANTAS QUE PODEMOS COMER E DE VERMELHO AS QUE NÃO PODEMOS COMER.



· Desenhe uma flor e um fruto que você conhece. Escreve seus nomes.

Flor

Fruto

· Encontre, na figura a seguir, as cinco partes diferentes de uma planta. Pinte cada parte de uma cor. Escreva o que você sabe sobre elas.



ESCOLA MUNICIPAL EDUARDO MALHADO.

LADÁRIO MS, _____ DE AGOSTO DE 2020.

ALUNO(A)_____ 2° ANO_____.

PROF. SUELISY AULAS:02

CIÊNCIAS- Seres Vivos no ambiente- Plantas

HABILIDADE- MS(E.F02CI06) PERÍODO: 01/08 a 15/08/2020.

BIBLIOGRAFIA: http://priscilapiassi.blogspot.com/

## AS PLANTAS E AS PESSOAS

As pessoas utilizam as plantas de diversas maneiras: na alimentação, na fabricação de remédios, móveis, tecidos e até para enfeitar ambientes.

Observe as ilustrações e pinte-as.




## ORDENE AS LETRAS E SAIBA ONDE SE CULTIVAM ESTAS PLANTAS:

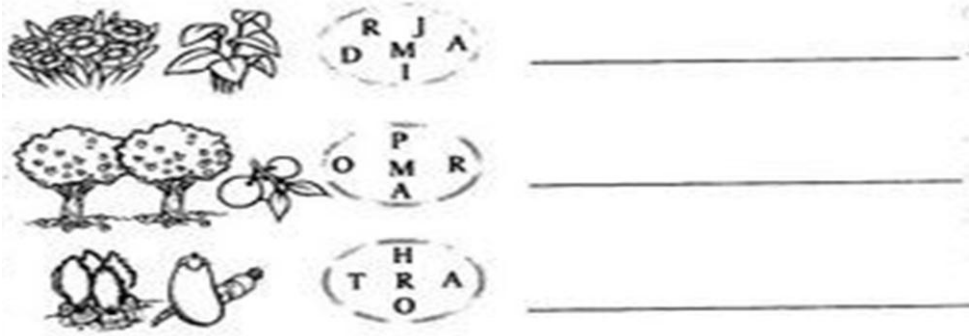


_____

_____

_____

## O QUE É, O QUE É?

QUE SEGURA A PLANTA E LHE DÁ A VIDA EMBAIXO DA TERRA, VIVE ESCONDIDA?

RESPOSTA: _____



QUE ROMPENDO O SOLO ESTENDE SEUS BRAÇOS COM GRANDE ESFORÇO ALCANÇA OS ESPAÇOS?

RESPOSTA: _____



QUE SERVE PARA A PLANTA RESPIRAR, AJUDANDO TAMBÉM BUSCAR A FORÇA SOLAR?

RESPOSTA: _____



GUARDA A SEMENTE DA PLANTA FRUTEIRA NA SUA POLPA VERDE OU MADURA?

RESPOSTA: _____

