ESTADO DE MATO GROSSO DO SUL
MUNICIPIO DE LADÁRIO
SECRETARIA MUNICIPAL DE EDUCAÇÃO
ESCOLA MUNICIPAL EDUARDO MALHADO

COMPONENTE CURRICULAR:MATEMÁTICA PERÍODO: 01/072020 A 15/07/2020
Quantidade de aulas: 08: AULAS-02
Objeto de conhecimento:ADIÇÃO E SUBTRAÇÃO
Habilidade: EF01MA22 (Resolver problemas e operação de adição e subtração);
3ª e 4ªaula-Matemática -01/07/2020-Quarta-feira

Leia, resolva e marque a resposta certa:

Paulo, José e Joana foram ao shopping. Observe os preços dos brinquedos de que mais gostaram.



A) Paulo tem 52 reais. Pode comprar dois desses brinquedos. Quais são os dois brinquedos que ele pode comprar?

- ☐ O carrinho e a bola.
- ☐ A boneca e a bola.
- ☐ O carrinho e a boneca.

B) Joana tem uma nota de 50 reais, uma de 20 reais e uma de 10 reais. Quanto Joana tem?

- ☐ 70 reais.
- ☐ 60 reais.
- ☐ 80 reais.

C) Joana quer comprar 2 bonecas com o dinheiro que tem.Quanto receberá de troco se comprar as bonecas?

- ☐ 10 reais.
- ☐ Não terá troco a receber.
- ☐ 20 reais.

D) José tinha 10 reais. Ele queria comprar uma bola para dar de presente a sua irmã.Quanto falta para poder comprar a bola?

- ☐ 1 real.
- ☐ 2 reais.
- ☐ 3 reais.

ESTADO DE MATO GROSSO DO SUL

MUNICIPIO DE LADÁRIO
SECRETARIA MUNICIPAL DE EDUCAÇÃO
ESCOLA MUNICIPAL EDUARDO MALHADO

COMPONENTE CURRICULAR: Língua portuguesa
PERÍODO: 01/07/2020 A 15/07/2020
Quantidade de aulas: 10
Objeto de conhecimento: : Leitura e Interpretação de texto- Fábula;
Habilidade: EF02LP01 (Ler pequenas fábulas, com fluência e autonomia gradativas).
3ªe4ªaula-Língua portuguesa – 02/07/2020-quinta-feira

Leia o texto com atenção antes de começar as atividades.

O burrinho medroso

Tico era um burrinho muito medroso, mas dizia que não tinha medo de nada.

Um dia, seu amigo Teteco colocou um lençol branco na cabeça e ficou atrás do barranco esperando Tico passar.

Quando Tico passou:

_ Buuuuuuuuuu!

Tico levou um susto tão grande que saiu em disparada!



Interpretando o texto

1) Responda:

a) Qual é o título do texto?

_____

b) Quem é o personagem principal do texto?

_____

c) Quem deu um susto em Tico?

_____

ESTADO DE MATO GROSSO DO SUL
MUNICIPIO DE LADÁRIO
SECRETARIA MUNICIPAL DE EDUCAÇÃO
ESCOLA MUNICIPAL EDUARDO MALHADO

COMPONENTE CURRICULAR: HISTÓRIA
PERÍODO: 01/07/2020 A 15/07/2020
Quantidade de aulas: 06
Objeto de conhecimento: As crianças e suas histórias.
Habilidade: EF02HI02 (Identificar e descrever práticas e papéis sociais que as pessoas exercem em diferentes comunidades);
1ªaula-HISTÓRIA – 03/07/2020-sexta-feira

encontrar no diagrama abaixo as palavras relacionadas à zona rural.
Boa diversão!



R	O	J	M	K	R	P	L	Y	V	P
S	G	V	E	D	P	M	J	H	A	R
F	A	Z	E	N	D	A	F	D	C	F
Z	L	H	P	Y	H	O	R	T	A	T
H	I	L	O	A	H	F	N	E	W	R
L	N	E	R	C	F	N	W	A	P	Q
H	H	T	C	P	W	P	O	M	A	R
O	A	L	O	Z	R	M	Q	L	M	C



ESTADO DE MATO GROSSO DO SUL

MUNICIPIO DE LADÁRIO
SECRETARIA MUNICIPAL DE EDUCAÇÃO
ESCOLA MUNICIPAL EDUARDO MALHADO

COMPONENTE CURRICULAR: Língua portuguesa
PERÍODO: 01/072020 A 15/07/2020
Quantidade de aulas: 18-02
Objeto de conhecimento: : Leitura e Interpretação de texto- Fábula;
Habilidade: EF02LP01 (Ler pequenas fábulas, com fluência e autonomia gradativas).
3ªaula-Língua portuguesa – 03/07/2020-sexta-feira
LEITORZINHO.COM / escolaeducacao.com.br

LEIA E RESPONDA.



Adoro fábulas!



Um pastor cuidava de seu rebanho perto de um povoado. Ele gostava de mentir de vez em quando gritando:

_ Socorro! Um lobo vai comer minhas ovelhas. Socorro!

Os vizinhos largavam o trabalho e saíam correndo para ajudar. Encontravam o pastor dando risadas.

Um dia, apareceu um lobo de verdade. O pastor gritou desesperado, mas os vizinhos acharam que era mentira e nem deram atenção. Nesse dia, o lobo acabou com o rebanho do pastorzinho.

Fábula de Esopo (texto adaptado)



Interpretando o texto

1) Crie um título para o texto.

2) Responda:

a) Qual era o animal que o pastor cuidava?

_____

b) Em que lugar o pastor cuidava de seu rebanho? _____

_____

c) O que ele gritava quando mentia que o lobo estava atacando suas ovelhas? _____

ESTADO DE MATO GROSSO DO SUL

MUNICIPIO DE LADÁRIO
SECRETARIA MUNICIPAL DE EDUCAÇÃO
ESCOLA MUNICIPAL EDUARDO MALHADO

COMPONENTE CURRICULAR: **GEOGRAFIA** PERÍODO: 01/07/2020 A 15/07/2020
Quantidade de aulas: (06)

Objeto de conhecimento: Os direitos das crianças.

Habilidade: EF02HI01 – (Reconhecer espaços de sociabilidades e identificar os motivos que aproximam e separam as pessoas em diferentes grupos);

4ªULA: GEOGRAFIA-03/07/2020-sexta-feira

LEITORZINHO.COM / escolaeducacao.com.br/WWW.viverdeeducar.com



ESTADO DE MATO GROSSO DO SUL
MUNICIPIO DE LADÁRIO
SECRETARIA MUNICIPAL DE EDUCAÇÃO
ESCOLA MUNICIPAL EDUARDO MALHADO

COMPONENTE CURRICULAR: **GEOGRAFIA** PERÍODO: 01/07/2020 A 15/07/2020
Quantidade de aulas: (06)
Objeto de conhecimento: Os direitos das crianças.
Habilidade: EF02HI01 – (Reconhecer espaços de sociabilidades e identificar os motivos que aproximam e separam as pessoas em diferentes grupos);
1ªULA: GEOGRAFIA-06/07/2020-segunda-feira

DIREITOS HUMANOS

① Associe a 2ª coluna de acordo com a 1ª, identificando o desenho com o artigo a que se refere.

(A) **Art 1º** – Todos os homens nascem livres e iguais em dignidade e direitos.

(B) **Art 3º** – Todo homem tem direito à vida, à liberdade e à segurança.

(C) **Art 4º** – Ninguém será mantido em escravidão ou servidão.

(D) **Art 5º** – Ninguém será submetido à tortura, nem a tratamento ou castigo cruel, desumano ou degradante.

(E) **Art 6º** – Todo homem tem direito de ser, em todos os lugares, reconhecido como pessoa perante a lei.

(F) **Art 18º** – Todo homem tem direito à liberdade de pensamento, consciência e religião.



ESTADO DE MATO GROSSO DO SUL
MUNICIPIO DE LADÁRIO
SECRETARIA MUNICIPAL DE EDUCAÇÃO
ESCOLA MUNICIPAL EDUARDO MALHADO

COMPONENTE CURRICULAR: -Matemática PERÍODO: 01/07/2020 A 15/07/2020
Quantidade de aulas: (18)-2
Objeto de conhecimento: ADIÇÃO E SUBTRAÇÃO.
Habilidade: : EF01MA22 (Resolver problemas e operação de adição e subtração);
2ªaula-Matemática – 06/07/2020-segunda-feira

RESOLVA OS PROBLEMINHAS

Manuel tem____carrinhos, ____bolas e ____petecas. Quantos brinquedos Manoel tem?



____ + ____ + ____ = ____

Agora responda:

Qual brinquedo Manoel tem mais?

Qual brinquedo Manoel tem menos?

Se Manoel tivesse apenas carrinhos e bolas, quantos brinquedos ele teria?

____ + ____ =

Se Manoel tivesse apenas carrinhos e petecas, quantos brinquedos ele teria?

____ + ____ =

ESTADO DE MATO GROSSO DO SUL

MUNICIPIO DE LADÁRIO

SECRETARIA MUNICIPAL DE EDUCAÇÃO
ESCOLA MUNICIPAL EDUARDO MALHADO

COMPONENTE CURRICULAR: HISTÓRIA
PERÍODO: 01/07/2020 A 15/07/2020
Quantidade de aulas: 06
Objeto de conhecimento: As crianças e suas histórias.
Habilidade: EF02HI02 (Identificar e descrever práticas e papéis sociais que as pessoas exercem em diferentes comunidades);
4ªaula-HISTÓRIA – 06/07/2020-segundafeira

- Marque com um X os quadrinhos, classificando os aspectos de **Zona Urbana** e **Zona Rural**:

	Zona Urbana	Zona Rural
Estradas de terra		
Muitas casas e prédios		
Carros, ônibus, caminhões		
Casas simples		
Carros de boi, mulas		
Grandes avenidas		
Grande número de comércio		
Poucos moradores		
Grande número de plantações		
Ruas asfaltadas e movimentadas		
Fumaça de fábricas		
Criação de gado		
Falta de indústrias		
Ar puro, orvalho e silêncio		
Várias indústrias		

MUNICIPIO DE LADÁRIO
SECRETARIA MUNICIPAL DE EDUCAÇÃO
ESCOLA MUNICIPAL EDUARDO MALHADO

COMPONENTE CURRICULAR: LÍNGUA PORTUGUESA
PERÍODO: 01/07/2020 A 15/072020
Quantidade de aulas: 18-02
Objeto de conhecimento: Leitura e Interpretação de texto- Fábula;
Habilidade: EF02LP01 (Ler pequenas fábulas, com fluência e autonomia gradativas).
3ªe 4ªaula-LÍNGUA PORTUGUESA – 07/07/2020-terça-feira
LEITORZINHO.COM / escolaeducacao.com.br

LEIA E RESPONDA.

Nome:_____ Data:_____/_____/____

A Galinha e os Ovos de Ouro



Um camponês e sua esposa possuíam uma galinha que punha todo dia um ovo de ouro.

Supondo que devia haver uma grande quantidade de ouro em seu interior, eles a mataram para que pudessem pegar tudo.

Então, para surpresa deles, viram que a galinha em nada era diferente das outras galinhas.

O casal de tolos, desse modo, desejando ficar rico de uma só vez, perdeu o ganho diário que tinha assegurado.

Moral da História: Quem tudo quer, acaba ficando sem nada.

---

1. O texto pertence ao gênero

(A) conto. (B) poema. (C) notícia. (D) fábula.

---

2. Quem são os personagens da história?

_____

_____

---

3. O camponês e sua esposa foram chamados de tolos porque

(A) venderam a galinha dos ovos de ouro.
(B) perderam o sustento que haviam garantido.
(C) acharam que a galinha era igual às outras galinhas.
(D) mataram a galinha que botava ovos de ouro.

COMPONENTE CURRICULAR: -Matemática PERÍODO: 01/07/2020 A 15/07/2020
Quantidade de aulas: 08
Objeto de conhecimento: ADIÇÃO E SUBTRAÇÃO.
Habilidade: : EF01MA22 (Resolver problemas e operação de adição e subtração);
3ªe4ªaula-Matemática – 08/07/2020-quarta-feira

LEITORZINHO.COM / escolaeducacao.com.br

ATIVIDADES DE MATEMÁTICA

1) CALCULE MENTALMENTE OS RESULTADOS DAS ADIÇÕES E ESCREVA AS RESPOSTAS:



A) 5 + 8 = _____
B) 7 + 9 = _____
C) 6 + 7 = _____
D) 8 + 9 = _____
E) 8 + 7 = _____
F) 9 + 7 = _____
G) 10 + 7 = _____
H) 11 + 7 = _____
I) 5 + 7 = _____
J) 6 + 8 = _____
K) 6 + 9 = _____
L) 6 + 10 = _____
M) 6 + 6 = _____
N) 7 + 7 = _____
O) 8 + 8 = _____
P) 9 + 9 = _____

2) CALCULE MENTALMENTE O RESULTADO DAS ADIÇÕES E LIGUE CADA ENVELOPE A SUA CAIXA DE CORREIO:



3) CALCULE O RESULTADO DE CADA OPERAÇÃO:

A) 25 + 4 = _____
B) 29 + 10 = _____
C) 15 + 3 = _____
D) 30 + 6 = _____

MUNICIPIO DE LADÁRIO
SECRETARIA MUNICIPAL DE EDUCAÇÃO
ESCOLA MUNICIPAL EDUARDO MALHADO

COMPONENTE CURRICULAR: Língua portuguesa
PERÍODO: 01/07/2020 A 15/07/2020
Quantidade de aulas: 10
Objeto de conhecimento: : Leitura e Interpretação de texto- Fábula;
Habilidade: EF02LP01 (Ler pequenas fábulas, com fluência e autonomia gradativas).
3ªe4ªaula-Língua portuguesa – 09/07/2020-quinta-feira

Nome:_____ Data:_____/_____/_____

A causa da chuva

Não chovia há muitos e muitos meses, de modo que os animais ficaram inquietos. Uns diziam que ia chover logo, outros diziam que ainda ia demorar. Mas não chegavam a uma conclusão.

_ Chove só quando a água cai do telhado de meu galinheiro - esclareceu a galinha.

_ Ora, que bobagem! - disse o sapo de dentro da lagoa. - Chove quando a água da lagoa começa a borbulhar suas gotinhas.

_ Como assim? - disse a lebre. - Está visto que só chove quando as folhas das árvores começam a deixar cair as gotas d'água que têm dentro.

Nesse momento começou a chover.

_ Viram? - gritou a galinha. - O telhado de meu galinheiro está pingando. Isso é chuva!

_ Ora, não vê que a chuva é a água da lagoa borbulhando? - disse o sapo.

_ Mas, como assim? - tornou a lebre - Parecem cegos! Não veem que a água cai das folhas das árvores?

Millôr Fernandes

---

1. O trecho do texto que indica um fato é

(A) "...começou a chover."
(B) "... diziam que ia demorar..."
(C) "... que bobagem!"
(D) "... diziam que ia chover..."

---

2. A ideia central do texto é apresentar uma discussão sobre

(A) o telhado do galinheiro.
(B) a chuva.
(C) a água da lagoa.
(D) as folhas das árvores.

MUNICIPIO DE LADÁRIO
SECRETARIA MUNICIPAL DE EDUCAÇÃO
ESCOLA MUNICIPAL EDUARDO MALHADO

COMPONENTE CURRICULAR: HISTÓRIA
PERÍODO: 01/07/2020 A 15/07/2020
Quantidade de aulas: 04
Objeto de conhecimento: As crianças e suas histórias.
Habilidade: EF02HI02 (Identificar e descrever práticas e papéis sociais que as pessoas exercem em diferentes comunidades);
1ªaula-HISTÓRIA – 10/07/2020-sexta-feira
.



ESTADO DE MATO GROSSO DO SUL

MUNICIPIO DE LADÁRIO

SECRETARIA MUNICIPAL DE EDUCAÇÃO

ESCOLA MUNICIPAL EDUARDO MALHADO

COMPONENTE CURRICULAR: Língua portuguesa
PERÍODO: 01/07/2020 A 15/07/2020
Quantidade de aulas: 10
Objeto de conhecimento: : Leitura e Interpretação de texto- Fábula;
Habilidade: EF02LP01 (Ler pequenas fábulas, com fluência e autonomia gradativas).
3ªaula-Língua portuguesa – 10/07/2020-sexta-feira

Escreva frases para contar a história. Observe o roteiro:

1



O que o menino fez?

2



O que aconteceu?

3



O que o menino fez?

4



O que aconteceu?

BLOG CLICK EDUCATIVO

COMPONENTE CURRICULAR: **GEOGRAFIA** PERÍODO: 01/072020 A 15/07/2020
Quantidade de aulas: (06)
Objeto de conhecimento: Os direitos das crianças.
Habilidade: EF02HI01 – (Reconhecer espaços de sociabilidades e identificar os motivos que aproximam e separam as pessoas em diferentes grupos);
1ªULA: GEOGRAFIA-10/07/2020-sexta-feira

1 – LEIA O POEMA COM ATENÇÃO:



AS CRIANÇAS
(ADAPTAÇÃO)

AS CRIANÇAS MERECEM TODO RESPEITO
ELAS TAMBÉM TÊM DIREITOS!
GOSTAM DE BRINCAR,
CANTAR E PULAR.



TODA CRIANÇA TEM QUE TER UM LAR
E UMA ESCOLA PARA ESTUDAR!
PARA ASSIM TER DIREITOS DE SONHAR.

O ESTATUTO GARANTE,
DIREITO É O QUE TEMOS DE RECEBER, CUIDADO E AMOR!
E OS DEVERES, UMA OBRIGAÇÃO QUE TEMOS QUE CUMPRIR.
PARA FELIZ SONHAR E VIVER!

2 – LIGUE AS RESPOSTAS CERTAS: O QUE SIGNIFICA: DIREITOS E DEVERES?

DIREITOS	É UMA **OBRIGAÇÃO** QUE TEM QUE FAZER, CUMPRIR.
DEV	É O QUE SE TEM O **DIREITO** DE RECEBER.

MUNICIPIO DE LADÁRIO
SECRETARIA MUNICIPAL DE EDUCAÇÃO
ESCOLA MUNICIPAL EDUARDO MALHADO

COMPONENTE CURRICULAR: GEOGRAFIA
PERÍODO: 01/07/2020 A 15/07/2020
Quantidade de aulas: 06
Objeto de conhecimento: As crianças e suas histórias.
Habilidade: EF02HI02 (Identificar e descrever práticas e papéis sociais que as pessoas exercem em diferentes comunidades);
4ªaula-HISTÓRIA – 13/07/2020-segunda-feira

Para brincar com o jogo da Cruzadinha basta imprimir esta página, depois preencha os quadros com as palavras correspondentes de cada frase. Boa diversão!

1. Onde moram muitas pessoas...
2. Lugar onde se compra remédio...
3. Comprar a comida é no...
4. Para abastecer o carro vamos ao...
5. Pessoas doentes vão ao...
6. Passeamos nos finais de semana no...

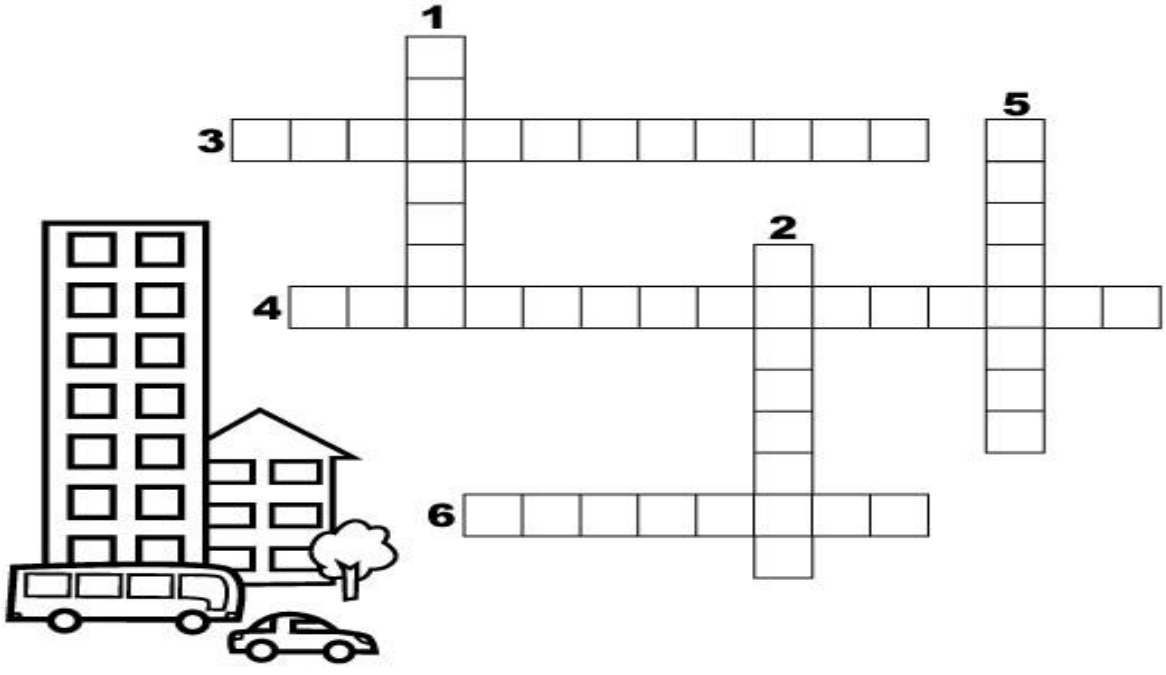

COMPONENTE CURRICULAR: -Matemática PERÍODO: 01/07/2020 A 13/07/2020
Quantidade de aulas: 08
Objeto de conhecimento: ADIÇÃO E SUBTRAÇÃO.
Habilidade: : EF01MA22 (Resolver problemas e operação de adição e subtração);
2ªaula-Matemática – 13/07/2020-segunda-feira

LEITORZINHO.COM / escolaeducacao.com.br/WWW.viverdeeducar.com

Veja, no gráfico abaixo, quanto pesa cada brinquedo e, depois, responda:



A) Qual o brinquedo **mais pesado**?

- ☐ Boneca.
- ☐ Trem.
- ☐ Carrinho.

B) Quantos quilos pesam o **carrinho** e a **boneca** juntos?

- ☐ 12 quilos.
- ☐ 13 quilos.
- ☐ 14 quilos.

C) Qual a **diferença** de peso entre a **boneca** e o **ursinho**?

- ☐ 2 quilos.
- ☐ 3 quilos.
- ☐ 4 quilos.

MUNICIPIO DE LADÁRIO
SECRETARIA MUNICIPAL DE EDUCAÇÃO
ESCOLA MUNICIPAL EDUARDO MALHADO

COMPONENTE CURRICULAR: HISTÓRIA
PERÍODO: 01/07/2020 A 15/072020
Quantidade de aulas: 06
Objeto de conhecimento: As crianças e suas histórias.
Habilidade: EF02HI02 (Identificar e descrever práticas e papéis sociais que as pessoas exercem em diferentes comunidades);
4ªaula-HISTÓRIA – 13/07/2020-segunda-feira

Observe a gravura abaixo:



O que as crianças estão fazendo?_____

Quantas crianças aparecem na ilustração? _____

Quantos meninos?_____

Quantas meninas?_____

Qual tem mais, meninos ou meninas?_____

Aqui vai um desafio para você.

Quantos pés você vê debaixo da porta? _____

Quantas pessoas estão atrás da porta? _____

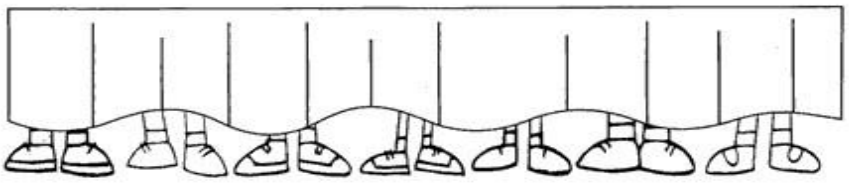

MUNICIPIO DE LADÁRIO
SECRETARIA MUNICIPAL DE EDUCAÇÃO
ESCOLA MUNICIPAL EDUARDO MALHADO

COMPONENTE CURRICULAR: Língua portuguesa
PERÍODO: 01/07/2020 A 15/07/2020
Quantidade de aulas: 10
Objeto de conhecimento: : Leitura e Interpretação de texto- Fábula;
Habilidade: EF02LP01 (Ler pequenas fábulas, com fluência e autonomia gradativas).
3ªe 4ªaula-Língua portuguesa - 14/07/2020-terça-feira
LEITORZINHO.COM / escolaeducacao.com.br/WWW.viverdeeducar.com

Língua Portuguesa

Leia o texto.

As meninas



O dia amanheceu ensolarado. Larissa e Elisa foram cedo para a praia catar conchinhas.

As meninas são muito amigas. Elas moram perto uma da outra e estudam na mesma escola.

Larissa e Elisa estão catando conchinhas para fazer um trabalho de artesanato que a professora de artes passou.

As meninas são estudiosas e muito espertas, não se esqueceram do protetor solar ao sair ao Sol.

Isabel Cristina S. Soares

Estudando o texto

1 – Numere os parágrafos do texto.

---

2 – Escreva abaixo o título do texto.

_____

_____

ESTADO DE MATO GROSSO DO SUL
MUNICIPIO DE LADÁRIO
SECRETARIA MUNICIPAL DE EDUCAÇÃO
ESCOLA MUNICIPAL EDUARDO MALHADO

COMPONENTE CURRICULAR: -Matemática PERÍODO: 01/07/2020 A 15/07/2020
Quantidade de aulas: 08
Objeto de conhecimento: ADIÇÃO E SUBTRAÇÃO.
Habilidade: : EF01MA22 (Resolver problemas e operação de adição e subtração);
1ªaula-Matemática – 15/07/2020-quarta-feira

PROBLEMAS

Numa escola estão matriculados 326 alunos no período da manhã e 541 alunos no período da tarde. Ao todo, quantos alunos estudam nesta escola.



OPERAÇÃO:

RESPOSTA:

Na escola de Ricardo existem duas turmas de 2º ANO. Na turma A estudam 37 alunos e na turma B, 41. Quantos alunos, no total, estudam na 2º ANO dessa escola.

OPERAÇÃO:

RESPOSTA:



Para completar o álbum, são necessários 84 selos. Bruno já colou 61. Quantos selos faltam para que ele complete o álbum.



OPERAÇÃO:

RESPOSTA:

Joel e Mário colecionam selos. Joel tem 518 selos, e Mário, 749. Quantos selos Mário tem a mais que Joel.



OPERAÇÃO:

RESPOSTA:

