ESCOLA MUNICIPAL EDUARDO MALHADO.

LADÁRIO MS, _____ DE JULHO DE 2020.

ALUNO(A)_____ 2° ANO_____.

PROF. SUELISY AULAS:02

CIÊNCIAS- SERES VIVOS NO AMBIENTE- PLANTAS

PERÍODO: 16/07 a 31/07/2020. HABILIDADE- MS(E.F02CI04)

BIBLIOGRAFIA: https://pt.slideshare.net



Muitas plantas nascem de sementes.
No ambiente natural, as sementes se espalham com a ajuda do vento, dos pássaros, de outros animais e caem em muitos lugares.
Quando as sementes caem e encontram terra boa, água, luz e calor do sol, elas germinam, dando origem a uma nova planta.
Como todo ser vivo, a planta também se reproduz, isto é, dá origem a um novo ser semelhante a ela.

1º) Responda de acordo com o texto.

a) Quem pode ajudar as sementes a se espalharem no meio ambiente?

_____

_____

b) Do que as sementes precisam para germinar e dar origem a uma nova planta?

_____

c) Marque X nas sementes que podemos comer.

( ) feijão ( ) amendoim ( ) semente de abacate ( ) arroz

d) Além das sementes as plantas também podem se reproduzir através de:

( ) mudas ( ) flores

e) Qual é o título do texto acima?

_____

2º) Coloque **(V)** se a reposta for verdadeira e **(F)** se for falsa.

a - ( ) Os vegetais também respiram.
b - ( ) As plantas não possuem raiz por isso elas sempre morrem.
c - ( ) As plantas não possuem vários tamanhos, elas são sempre iguais.
d - ( ) As plantas são seres vivos e dependem do solo, da água, do ar e da luz para existir.
e - ( ) Para crescer as plantas precisam ser cuidadas.

3º) Observe os vegetais abaixo e escreva-os em que grupo pertence cada um.


Tomate


Mandioca


Couve-flor


Brócolis


cana-de-açúcar


Amendoim


Maça


Cenoura


Coentro


Feijão


Alface


Palmito

RAIZ	CAULE	FOLHA	FLOR	FRUTOS	SEMENTES

4º) Os vegetais podem ter muitas **M** utilidades. Escreva **R** quando os vegetais forem utilizados na fabricação de remédios e quando forem utilizados para a fabricação de móveis.

○ Pinheiro ○ Camomila ○ Peroba

○ Erva-doce ○ Cerejeira ○ Agrião

ESCOLA MUNICIPAL EDUARDO MALHADO.

LADÁRIO MS, _____ DE JULHO DE 2020.

ALUNO(A)_____ 2° ANO_____.

PROF. SUELISY AULAS:02

CIÊNCIAS- PLANTAS

PERÍODO: 16/07 a 31/07/2020. HABILIDADE- MS(E.F02CI04)

BIBLIOGRAFIA: https://pt.slideshare.net

5º) Verifique as plantas abaixo e marque um (X) em que tipo de ambiente vivem cada uma.



( ) Ambiente aquático
( ) Ambiente terrestre

vitória – régia



( ) Ambiente aquático
( ) Ambiente terrestre

Cacto

6º) Numere pela ordem de crescimento.

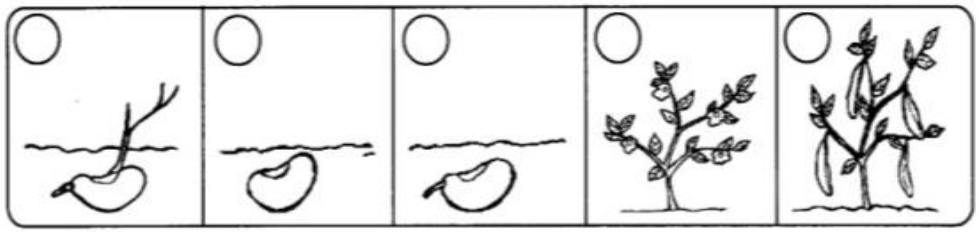

7º) Escreva no desenho o nome de cada parte da planta no lugar correto:



8º) Marque (V) para as afirmativas verdadeiras e (F) para as falsas.

( ) As plantas que são encontradas presas na terra são chamadas de plantas aquáticas.

( ) As plantas nascem, crescem e não se reproduzem.

( ) Existem plantas que vivem nos galhos de outras planta, são as plantas aéreas.

( ) Os vegetais servem de alimentos para os seres humanos e outros animais.

( ) A vitória-régia é um exemplo de planta aquática porque ela vive em rios e aquários

9º) Complete com a resposta correta:

a-) Parte por onde a planta respira, transpira e fabrica o alimento:_____.

(**frutos** / **folhas**)

b-) Guarda as sementes e serve de alimento:_____.

(**caule** / **frutos**)

c-) Fixa a planta ao solo e retira dele água e sais minerais:_____.

(**flores** / **raiz**)

d-) Conduz água, sais minerais e nutrientes para outras partes das plantas:_____.

(**caule** / **folhas**)

e-) Parte da planta que origina sementes e frutos:_____.

(**raiz** / **flores**)

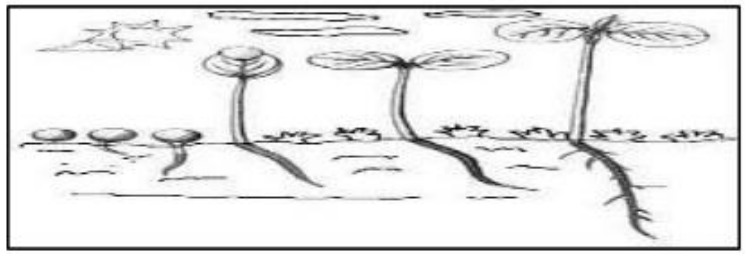

10º) Marque um X na alternativa correta sobre a germinação do grão acima:

( ) A semente é plantada, depois incha e arrebenta, surge um broto que se dirige para baixo: a raiz surge um broto que se dirige para cima: o caule, e surgem às primeiras folhas, temos a plantinha.

( ) A semente é plantada, surge um primeiro broto, a semente incha e arrebenta, um broto se dirige para baixo: é o caule, um broto se dirige para cima: é a raiz, e surgem às folhas, temos a plantinha.

ESCOLA MUNICIPAL EDUARDO MALHADO.

LADÁRIO MS, _____ DE JULHO DE 2020.

ALUNO(A)_____ 2° ANO_____.

PROF. SUELISY AULAS:02

CIÊNCIAS- A IMPORTÂNCIA DA ÁGUA E DA LUZ PARA AS PLANTAS

PERÍODO: 16/07 a 31/07/2020. HABILIDADE- MS(E.F02CI05)

BIBLIOGRAFIA: https://educacaoetransformacaooficial.blogspot.com/

O homem e a natureza



Os rios, as montanhas, as plantas e as pedras fazem parte da natureza.

O homem aproveita e modifica os lugares da natureza, para poder viver neles.

1) Escreva na primeira coluna as coisas da natureza e na segunda, as coisas inventadas pelo homem:

cavalo - avião - árvore - estátua - fruta - livro

Coisas da natureza	***Coisas inventadas pelo homem***



Água para beber.
Água para limpar.

Água para plantar.
Água para viver.

Que beleza!
É a água na natureza.



Complete a cruzadinha.











					N				
			C		A				
					T				
	B				U				
			A		R				
E					E				
					Z				
			D		A				