ESTADO DE MATO GROSSO DO SUL
MUNICÍPIO DE LADÁRIO
SECRETARIA MUNICIPAL DE EDUCAÇÃO
ESCOLA MUNICIPAL EDUARDO MALHADO

ESCOLA MUNICIPAL EDUARDO MALHADO
PROFESSORA: ROSÂNGELA TEIXEIRA PÉCORA TURMA: 2º ANO B
ENSINO FUNDAMENTAL I TURNO: VESPERTINO
COMPONENTE CURRICULAR: LÍNGUA PORTUGUESA PERÍODO: 16/07/2020
ALUNO (A):

wwwmestresosaber.com.br

ATIVIDADE DE LÍNGUA PORTUGUESA

1- COMPLETE AS PALAVRAS COM AS SÍLABAS: LA, LE, LI, LO, LU.
2- ACHE A PALAVRA E PINTE AS SÍLABAS, COM CORES VARIADAS.



BA	DA	GÃO	FE	GA	DI	A
LÃO	JO	GAI	GA	LO	LU	VA
O	BA	O	FÃO	BO	JU	BU
FU	LE	LA	E	JA	BA	LA
MO	LA	LI	DE	JI	FO	BO
U	FA	LÁ	PIS	LÓ	D U	LO
JI	LA	BE	LU	A	NE	DU
TU	ÇO	JE	VI	O	LA	GU
LU	MI	BI	FI	NA	GO	LA
MA	LA	MO	GE	LA	TI	NA

ESTADO DE MATO GROSSO DO SUL
MUNICÍPIO DE LADÁRIO
SECRETARIA MUNICIPAL DE EDUCAÇÃO
ESCOLA MUNICIPAL EDUARDO MALHADO

ESCOLA MUNICIPAL EDUARDO MALHADO
PROFESSORA: ROSÂNGELA TEIXEIRA PÉCORA TURMA: 2º ANO B
ENSINO FUNDAMENTAL I TURNO: VESPERTINO
COMPONENTE CURRICULAR: LÍNGUA PORTUGUESA PERÍODO: 18/07/2020
ALUNO (A):

wwwmestresosaber.com.br

ATIVIDADE DE LÍNGUA PORTUGUESA

1 – COMPLETE AS PALAVRAS COM AS SÍLABAS ABAIXO:



ESTADO DE MATO GROSSO DO SUL
MUNICÍPIO DE LADÁRIO
SECRETARIA MUNICIPAL DE EDUCAÇÃO
ESCOLA MUNICIPAL EDUARDO MALHADO

wwwmestresosaber.com.br

ESCOLA MUNICIPAL EDUARDO MALHADO	
PROFESSORA: ROSÂNGELA TEIXEIRA PÉCORA	TURMA: 2º ANO B
ENSINO FUNDAMENTAL I	TURNO: VESPERTINO
COMPONENTE CURRICULAR: LÍNGUA PORTUGUESA	PERÍODO: 18/07/2020
ALUNO (A):	

ATIVIDADE DE LÍNGUA PORTUGUESA

1 – LEIA O POEMA ABAIXO:

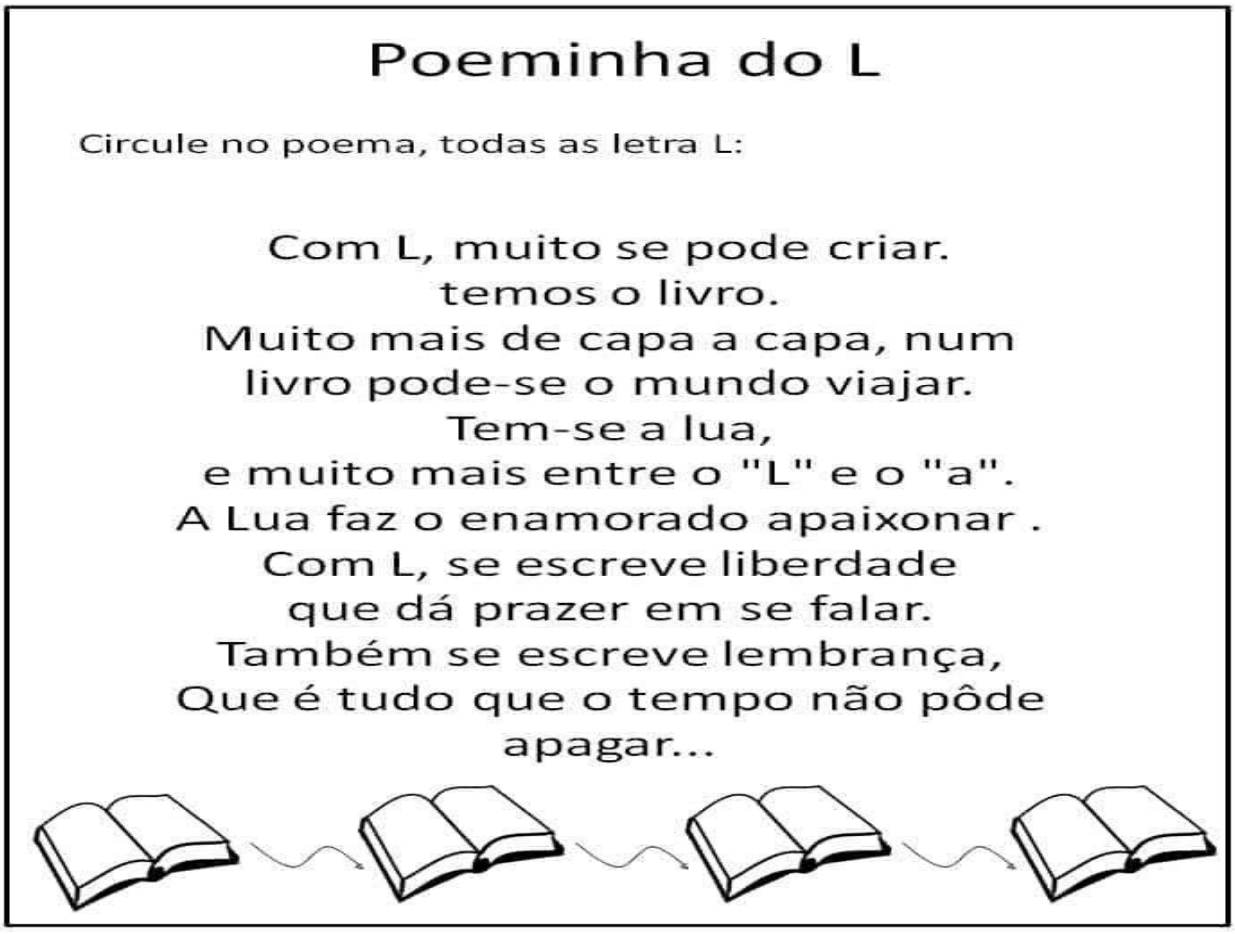

3- AGORA COPIE O POEMA NO CADERNO

ESTADO DE MATO GROSSO DO SUL
MUNICÍPIO DE LADÁRIO
SECRETARIA MUNICIPAL DE EDUCAÇÃO
ESCOLA MUNICIPAL EDUARDO MALHADO

ESCOLA MUNICIPAL EDUARDO MALHADO	
PROFESSORA: ROSÂNGELA TEIXEIRA PÉCORA	TURMA: 2º ANO B
ENSINO FUNDAMENTAL I	TURNO: VESPERTINO
COMPONENTE CURRICULAR: LÍNGUA PORTUGUESA	PERÍODO: 20/07/2020 (duas aulas)
ALUNO (A):	

wwwmestresosaber.com.br

ATIVIDADE DE LÍNGUA PORTUGUESA

SINÔNIMOS E ANTÔNIMOS

Mônica está alegre Mônica está feliz	João está triste João está infeliz

Palavras sinônimas: São palavras que possuem o mesmo significado ou significado parecido.
Alegre e feliz são palavras sinônimas, pois têm o mesmo significado.

Palavras antônimas: São palavras que possuem significados contrários.
Alegre e triste são palavras antônimas, pois têm significados contrários.

EXERCÍCIO

1. Procure no quadro os antônimos das palavras abaixo:

salgado	bem	transparente	fraco	raso	Muito
comprido	mole	pequeno	claro	fino	Cheio
vitória	largo	lento	liso	achar	belo

a) grosso_____ g) feio_____ n) pouco_____
b) grande_____ h) rápido_____ o) perder_____
c) mal_____ i) estreito_____ p) vazio_____
d) fundo_____ j) curto_____ q) forte_____
e) áspero_____ l) derrota_____ r) duro_____
f) doce_____ m) opaco_____ s) escuro_____

http://varaldeatividades.blogspot.com

ESTADO DE MATO GROSSO DO SUL
MUNICÍPIO DE LADÁRIO
SECRETARIA MUNICIPAL DE EDUCAÇÃO
ESCOLA MUNICIPAL EDUARDO MALHADO

ESCOLA MUNICIPAL EDUARDO MALHADO
PROFESSORA: ROSÂNGELA TEIXEIRA PÉCORA TURMA: 2º ANO B
ENSINO FUNDAMENTAL I TURNO: VESPERTINO
COMPONENTE CURRICULAR: LÍNGUA PORTUGUESA PERÍODO:21/07/2020 (duas aulas)
ALUNO (A):

wwwmestresosaber.com.br

ATIVIDADE DE LÍNGUA PORTUGUESA

Sinônimo

1. Pinte o sinônimo das palavras em destaque:

a) A joaninha é **bonita**.

elegante | linda

b) No jardim moram **muitos** bichinhos.

alguns | vários | poucos

c) Na floresta, **vivem** animais enormes.

estão | saíram | moram

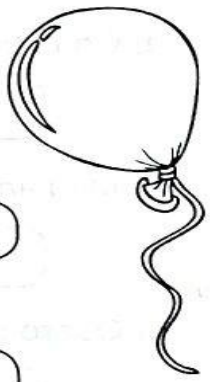

2. Escreva o sinônimo, usando as palavras do quadro.

alegre	moradia	inteligente
ver	comida	bonito

a) feliz _____ d) enxergar _____

b) casa _____ e) esperto _____

c) lindo _____ f) alimento _____

ESTADO DE MATO GROSSO DO SUL
MUNICÍPIO DE LADÁRIO
SECRETARIA MUNICIPAL DE EDUCAÇÃO
ESCOLA MUNICIPAL EDUARDO MALHADO

ESCOLA MUNICIPAL EDUARDO MALHADO	
PROFESSORA: ROSÂNGELA TEIXEIRA PÉCORA	TURMA: 2º ANO B
ENSINO FUNDAMENTAL I	TURNO: VESPERTINO
COMPONENTE CURRICULAR: LÍNGUA PORTUGUESA	PERÍODO: 23/07- 27/07/2020
ALUNO (A):	

wwwmestresosaber.com.br

ATIVIDADE DE LÍNGUA PORTUGUESA

ANTÔNIMOS

ANTÔNIMOS SÃO PALAVRAS COM SENTIDOS OPOSTOS.



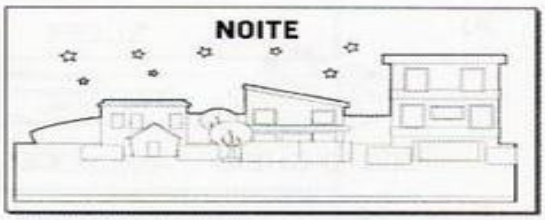

1. DÊ O ANTÔNIMO.

A) ALTO		F) CERTO	
B) PEQUENO		G) PERTO	
C) DEVAGAR		H) VELHO	
D) CLARO		I) TUDO	
E) FÁCIL		J) INÍCIO	

2. DÊ O ANTÔNIMO DAS PALAVRAS DESTACADAS.

A) MANTENHA A PORTA **ABERTA**. _____

B) **ACENDA** A LUZ. _____

C) COMPREI BOLACHA **DOCE**. _____

D) ELE **ENTROU** EM CASA. _____

E) A TOALHA ESTÁ **MOLHADA**. _____

ESTADO DE MATO GROSSO DO SUL
MUNICÍPIO DE LADÁRIO
SECRETARIA MUNICIPAL DE EDUCAÇÃO
ESCOLA MUNICIPAL EDUARDO MALHADO

ESCOLA MUNICIPA EDUARDO MALHADO	
PROFESSORA: ROSÂNGELA TEIXEIRA PÉCORA	TURMA: 2º ANO B
ENSINO FUNDAMENTAL I	TURNO: VESPERTINO
COMPONENTE CURRICULAR: LÍNGUA PORTUGUESA E HISTÓRIA	PERÍODO: 17//07- 27/07/2020
ALUNO (A):	

wwwmestresosaber.com.br

ATIVIDADE DE LÍNGUA PORTUGUESA E HISTÓRIA

LEIA O TEXTO ABAIXO E FAÇA AS ATIVIDADES:

O TEXTO ABAIXO É UMA MÚSICA CANTADA NAS FESTAS JUNINAS. VAMOS CANTAR?

O BALÃO VAI SUBINDO
VEM CAINDO A GAROA
O CÉU É TÃO LINDO
E A NOITE É TÃO BOA

SÃO JOÃO
SÃO JOÃO
ACENDE A FOGUEIRA
DO MEU CORAÇÃO.



1) CIRCULE NO TEXTO, DE VERMELHO, A PALAVRA BALÃO:

2) CIRCULE NO TEXTO AS PALAVRAS:

GAROA - FOGUEIRA - NOITE

3) COMPLETE AS RIMAS DA MÚSICA.

SUBINDO RIMA COM _____

GAROA RIMA COM _____

JOÃO RIMA COM _____



4) ESCREVA UMA LISTA DE COMIDAS TÍPICAS DA FESTA

A) _____ D) _____

B) _____ E) _____

C) _____ F) _____

ESTADO DE MATO GROSSO DO SUL
MUNICÍPIO DE LADÁRIO
SECRETARIA MUNICIPAL DE EDUCAÇÃO
ESCOLA MUNICIPAL EDUARDO MALHADO

ESCOLA MUNICIPAL EDUARDO MALHADO	
PROFESSORA: ROSÂNGELA TEIXEIRA PÉCORA	TURMA: 2º ANO B
ENSINO FUNDAMENTAL I	TURNO: VESPERTINO
COMPONENTE CURRICULAR: LÍNGUA PORTUGUESA E HISTÓRIA	PERÍODO:22/ 07 - 30/07/2020
ALUNO (A):	

wwwmestresosaber.com.br

ATIVIDADE DE LINGUA PORTUGUESA E HISTÓRIA

1) LEIA O TEXTO ABAIXO E COPIE NO CADERNO:

FESTAS JUNINAS

O MÊS DE JUNHO É CARACTERIZADO POR DANÇAS, COMIDAS TÍPICAS E BANDEIRINHAS.

A FESTA JUNINA SE INICIA NO DIA 12 DE JUNHO, VÉSPERA DO DIA DE SANTO ANTÔNIO E ENCERRA NO DIA 29, DIA DE SÃO PEDRO.

O PONTO MAIS ELEVADO DA FESTA OCORRE NOS DIAS 23 E 24, O DIA DE SÃO JOÃO.

DURANTE OS FESTEJOS ACONTECEM QUADRILHAS, FORRÓS, LEILÕES, BINGOS, BRINCADEIRAS E CASAMENTOS CAIPIRAS.



ESCREVA AQUI OS NOMES DOS SANTOS QUE APARECEM NO TEXTO:

ESTADO DE MATO GROSSO DO SUL
MUNICÍPIO DE LADÁRIO
SECRETARIA MUNICIPAL DE EDUCAÇÃO
ESCOLA MUNICIPAL EDUARDO MALHADO

ESCOLA MUNICIPAL EDUARDO MALHADO
PROFESSORA: ROSÂNGELA TEIXEIRA PÉCORA TURMA: 2º ANO B
ENSINO FUNDAMENTAL I TURNO: VESPERTINO
COMPONENTE CURRICULAR: LÍNGUA PORTUGUESA PERÍODO: 28/07/2020 (duas aulas)
ALUNO (A):

wwwmestresosaber.com.br

AVALIAÇÃO DE LINGUA PORTUGUESA

Faça um X no quadradinho onde tem somente letras;







☐ ☐ ☐

Quantas sílabas tem o nome do animal que você viu

( ) 4
( ) 2
( ) 3

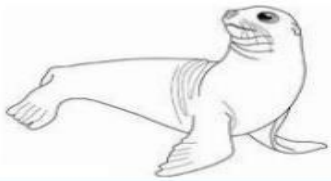

Faça um X no quadradinho da palavra goiaba

☐ gaveta

☐ *goiaba*

☐ gavião

Qual o primeira letra da palavra DADO

( ) F
( ) D
( ) G

Faça um X no quadradinho da palavra que comece com a sílaba XI, como em XICARA

☐ XALE
☐ XIXI
☐ XUXA

Faça um X no quadradinho do animal formado por três sílabas;




☐ ☐


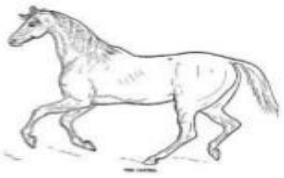

☐ ☐

Faça um X no quadradinho da palavra que começa com a mesma sílaba da palavra MACARRÃO

☐ MEIA

☐ MOEDA

☐ MARGARINA

ESTADO DE MATO GROSSO DO SUL
MUNICÍPIO DE LADÁRIO
SECRETARIA MUNICIPAL DE EDUCAÇÃO
ESCOLA MUNICIPAL EDUARDO MALHADO

4-MARQUE COM UM X A RESPOSTA CERTA:



☐ BOLA
☐ PETECA
☐ BONECA
☐ PIÃO

☐ FOCA
☐ TOCA
☐ BOCA
☐ BOTA



5-



☐ AVE
☐ ARMÁRIO
☐ ÁRVORE
☐ ARGOLA

6-

☐ CANECA
☐ BONECA
☐ PETECA
☐ PANELA



7-DITADO DE LETRAS:

☐ P R S
☐ N T L
☐ V A C
☐ G U Q

8- Este desenho começa com a letra:

☐ C
☐ S
☐ P
☐ N



Marque o nome do desenho

9-



☐ ESCADA
☐ ESTRELA
☐ ESPELHO
☐ ESCOVA

10-EU QUERO UM PRESENTE:

☐ 1
☐ 2
☐ 3
☐ 4



ESTADO DE MATO GROSSO DO SUL
MUNICÍPIO DE LADÁRIO
SECRETARIA MUNICIPAL DE EDUCAÇÃO
ESCOLA MUNICIPAL EDUARDO MALHADO

ESCOLA MUNICIPAL EDUARDO MALHADO
PROFESSORA: ROSÂNGELA TEIXEIRA PÉCORA TURMA: 2º ANO B
ENSINO FUNDAMENTAL I TURNO: VESPERTINO
COMPONENTE CURRICULAR: MATEMÁTICA PERÍODO: 17/07/2020
ALUNO (A):

www.leitorzinho.com

ATIVIDADE DE MATEMÁTICA

ESCOLHENDO RESULTADOS

1) Resolva as operações e, depois, circule o resultado ao lado.

4 + 5 =	8 9 7
4 + 3 =	6 8 7



7 + 2	9 7 6
3 + 2	5 4 3
4 + 2	5 6 7
4 + 4	9 7 8
6 + 3	7 8 9
2 + 6	6 7 8
8 − 5	2 4 3
5 − 4	0 1 2

9 − 6 =	2 3 4	5 − 0 =	0 5 6	7 − 7 =	0 1 2
8 − 4 =	4 3 2	9 − 4 =	3 5 4	6 − 5 =	0 1 2

ESTADO DE MATO GROSSO DO SUL
MUNICÍPIO DE LADÁRIO
SECRETARIA MUNICIPAL DE EDUCAÇÃO
ESCOLA MUNICIPAL EDUARDO MALHADO

ESCOLA MUNICIPAL EDUARDO MALHADO
PROFESSORA: ROSÂNGELA TEIXEIRA PÉCORA TURMA: 2º ANO B
ENSINO FUNDAMENTAL I TURNO: VESPERTINO
COMPONENTE CURRICULAR: MATEMÁTICA PERÍODO: 17/07- 18/07/2020
ALUNO (A):

www.ensinoja.com.br

ATIVIDADE DE MATEMÁTICA

TERMOS FALTOSOS

① Complete os fatos com os termos que faltam.

□ + 7 = 9	4 + □ = 8
7 − □ = 3	□ − 7 = 2
6 − 4 = □	9 − 2 = □
□ + 3 = 8	2 + □ = 7
5 + 4 = □	3 − □ = 3
□ − 2 = 6	□ − 8 = 0
□ + 3 = 9	7 − 5 = □
□ − 2 = 7	9 − 3 = □



ESTADO DE MATO GROSSO DO SUL
MUNICÍPIO DE LADÁRIO
SECRETARIA MUNICIPAL DE EDUCAÇÃO
ESCOLA MUNICIPAL EDUARDO MALHADO

ESCOLA MUNICIPA EDUARDO MALHADO
PROFESSORA: ROSÂNGELA TEIXEIRA PÉCORA TURMA: 2º ANO B
ENSINO FUNDAMENTAL I TURNO: VESPERTINO
COMPONENTE CURRICULAR: MATEMÁTICA PERÍODO: 21/07- 22/07/2020
ALUNO (A):

www.ensinoja.com.br

ATIVIDADE DE MATEMÁTICA

Resolva os problemas.

	CÁLCULOS
O ônibus da escola de Mariana tem capacidade para 30 alunos. Hoje apenas 22 alunos foram. Quantos alunos faltaram? 	
Na casa de Mateus têm 10 laranjeiras, 1 mangueira, 2 limoeiros, 12 aceroleiras e 2 bananeiras. Quantas árvores tem na casa de Mateus, no total? 	
Junior tem uma coleção de carrinhos de brinquedos com 128 carrinhos. Ele quer dividi-los igualmente em quatro prateleiras. Quantos carrinhos cada prateleira terá? 	
Se a previsão é de que o dia amanheça em 20°C e passe para 33°C ao longo do dia. Quantos graus irá subir? 	

ESTADO DE MATO GROSSO DO SUL
MUNICÍPIO DE LADÁRIO
SECRETARIA MUNICIPAL DE EDUCAÇÃO
ESCOLA MUNICIPAL EDUARDO MALHADO

ESCOLA EDUARDO MALHADO	
PROFESSORA: ROSÂNGELA TEIXEIRA PÉCORA	TURMA: 2º ANO B
ENSINO FUNDAMENTAL I	TURNO: VESPERTINO
COMPONENTE CURRICULAR: MATEMÁTICA	PERÍODO: 24/07/2020 (duas aulas)
ALUNO (A):	

ATIVIDADE DE MATEMÁTICA

1 **OBSERVE AS IMAGENS ABAIXO E MARQUE A RESPOSTA CORRESPONDENTE:**



( ) UMA DÚZIA
( ) MEIA DÚZIA



( ) UMA DÚZIA
( ) MEIA DÚZIA

DESENHE:

1 DÚZIA DE PIRULITOS:

MEIA DÚZIA DE FLORES:

1 DÚZIA CAMISETAS:

BLOG CLICK EDUCATIVO

ESTADO DE MATO GROSSO DO SUL
MUNICÍPIO DE LADÁRIO
SECRETARIA MUNICIPAL DE EDUCAÇÃO
ESCOLA MUNICIPAL EDUARDO MALHADO

ESCOLA MUNICIPAL EDUARDO MALHADO	
PROFESSORA: ROSÂNGELA TEIXEIRA PÉCORA	TURMA: 2º ANO B
ENSINO FUNDAMENTAL I	TURNO: VESPERTINO
COMPONENTE CURRICULAR: MATEMÁTICA	PERÍODO: 28/07/2020 (duas aulas)
ALUNO (A):	

AS CRIANÇAS ESTÃO BRINCANDO DE PAR OU ÍMPAR. ESCREVA QUEM GANHOU CADA RODADA:

JOGADA	NÚMERO	PAR OU ÍMPAR
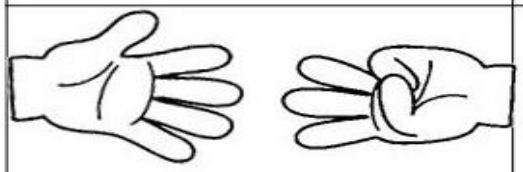		
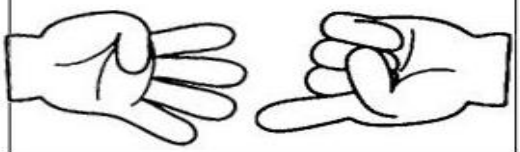		
		
		
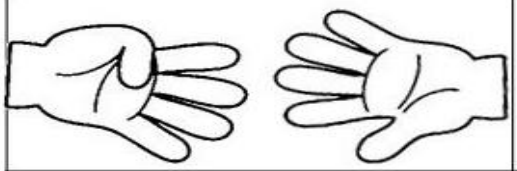		
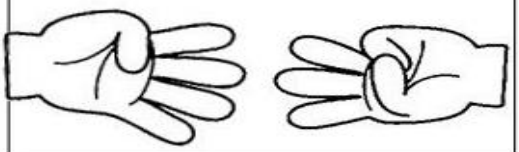		
		

ESTADO DE MATO GROSSO DO SUL
MUNICÍPIO DE LADÁRIO
SECRETARIA MUNICIPAL DE EDUCAÇÃO
ESCOLA MUNICIPAL EDUARDO MALHADO

ESCOLA MUNICIPAL EDUARDO MALHADO
PROFESSORA: ROSÂNGELA TEIXEIRA PÉCORA TURMA: 2º ANO B
ENSINO FUNDAMENTAL I TURNO: VESPERTINO
COMPONENTE CURRICULAR: MATEMÁTICA PERÍODO: 31/07/2020 (duas aulas)
ALUNO (A):

AVALIAÇÃO DE MATEMÁTICA

Nome:_____

1- Escreva os numerais em palavras:

102:_____ 56:_____

118:_____ 42:_____

120:_____ 63:_____

2- Veja a fila das crianças e responda:



- A primeira criança da fila é _____
- Tiago é a _____ criança da fila.
- A última criança da fila é _____
- Douglas é a _____ crianda da fila.
- Depois de Amanda vem _____. Ela é a _____ criança da fila.
- Quem chegar depois de Juliana será a _____ criança da fila.

3-Escreva o fato que está representado no desenho:





4- Complete:

- Hoje é dia _____ de _____ de _____
- O quinto mês do ano é _____
- O sétimo dia da semana é _____
- Agosto é o _____ mês do ano.
- Este mês tem _____ dias e _____ domingos.
- O décimo segundo mês do ano é _____
- Um bimestre tem _____ meses, e um semestre tem _____ meses.

5- Tatiana tinha 6 rosas vermelhas. Ela ganhou mais 7 rosas amarelas. Com quantas rosas ela ficou?

Operação

Resposta:_____

6- Ernane tinha 10 bombons. Comeu 4. Com quantos bombons Ernane ficou?

Operação

Resposta:_____

7- Registre os fatos da adição e subtração: (7)

7 +0	+	+	+	+	+	+	+
7 -0	-	-	-	-	-	-	-

ESTADO DE MATO GROSSO DO SUL
MUNICÍPIO DE LADÁRIO
SECRETARIA MUNICIPAL DE EDUCAÇÃO
ESCOLA MUNICIPAL EDUARDO MALHADO

ESCOLA MUNICIPAL EDUARDO MALHADO
PROFESSORA: ROSÂNGELA TEIXEIRA PÉCORA TURMA: 2º ANO B
ENSINO FUNDAMENTAL I TURNO: VESPERTINO
COMPONENTE CURRICULAR: GEOGRAFIA PERÍODO: 16/07-17/07/2020
ALUNO (A):

ATIVIDADE DE GEOGRAFIA

1- LEIA O TEXTO ABAIXO E COPIE NO CADERNO:

22 DE ABRIL – DIA MUNDIAL DO PLANETA TERRA



A TERRA É O PLANETA EM QUE VIVEMOS.
NELA ENCONTRAMOS O MAR, AS PLANTAS, AS PESSOAS E OS ANIMAIS.
A TERRA NÃO TEM LUZ PRÓPRIA.
ELA RECEBE A LUZ E O CALOR DO SOL.

1) QUAL É O NOME DO PLANETA EM QUE VIVEMOS?

2) RETIRE DO TEXTO E ANOTE NO CADERNO:

A) 3 PALAVRAS QUE COMEÇAM COM A LETRA **P.**

B) 3 PALAVRAS QUE TENHAM 3 LETRAS.

C) DIGA O NÚMERO DE LETRAS DESTAS PALAVRAS:

TERRA ANIMAIS RECEBE CALOR

ESTADO DE MATO GROSSO DO SUL
MUNICÍPIO DE LADÁRIO
SECRETARIA MUNICIPAL DE EDUCAÇÃO
ESCOLA MUNICIPAL EDUARDO MALHADO

ESCOLA MUNICIPAL EDUARDO MALHADO	
PROFESSORA: ROSÂNGELA TEIXEIRA PÉCORA	TURMA: 2º ANO B
ENSINO FUNDAMENTAL I	TURNO: VESPERTINO
COMPONENTE CURRICULAR: GEOGRAFIA	PERÍODO: 23/07 -24/07/2020
ALUNO (A):	

wwwpinterest.com

ATIVIDADE DE GEOGRAFIA



O DIA É CLARO
PORQUE O SOL BRILHA.
A NOITE É ESCURA
A LUA E AS ESTRELAS
APARECEM À NOITE.



- Observar como o dia está hoje e fazer um bonito desenho.

- Observar como está a noite e desenhar com bastante capricho.

ESTADO DE MATO GROSSO DO SUL
MUNICÍPIO DE LADÁRIO
SECRETARIA MUNICIPAL DE EDUCAÇÃO
ESCOLA MUNICIPAL EDUARDO MALHADO

ESCOLA MUNICIPAL EDUARDO MALHADO	
PROFESSORA: ROSÂNGELA TEIXEIRA PÉCORA	TURMA: 2º ANO B
ENSINO FUNDAMENTAL I	TURNO: VESPERTINO
COMPONENTE CURRICULAR: GEOGRAFIA	PERÍODO: 30/07 - 31/072020
ALUNO (A):	

AVALIAÇÃO DE GEOGRAFIA. Pense bem responda: **(4.0 pontos).**



1. Quais são as regras da sua sala de aula?

_____
_____
_____
_____
_____

2. Assinale **V** para verdadeiro e **F** para falso:

a. ( ) Todos nós queremos ter bons amigos.
b. ( ) Na escola não se pode fazer amizades verdadeiras.
c. ( ) Antes precisamos ser bons amigos para termos bons amigos.
d. ( ) Somos todos diferentes no jeito de ser.
e. ( ) Não devemos aceitar um amigo diferente da gente na cor, cabelo ou tom da voz.

3. Marque com um X quais podem ser as boas qualidades de uma pessoa: .

	Ser Bondosa
	Ser Desonesta
	Ser Verdadeira
	Ser Maldosa
	Ser Leal



4. Desenhe uma brincadeira:

Preferida pelos meninos.	Preferida pelas meninas.
_____	_____

ESTADO DE MATO GROSSO DO SUL
MUNICÍPIO DE LADÁRIO
SECRETARIA MUNICIPAL DE EDUCAÇÃO
ESCOLA MUNICIPAL EDUARDO MALHADO

5- Mostre o que sabe: (2.0 pontos).

a) Nome de sua escola:-

_____

b) Seu nome completo:_____.

c) Nome de sua professora:_____.

d) Nome de três colegas_____.

e) Desenhe sua escola no caderno.



7- Que elementos você vê na pintura? (1.0 pontos).

_____

8-Quais os elementos naturais presentem na pintura? (1.0 ponto).

_____

9-Quais foram construídos pelos seres humanos? (1.0 ponto).

_____

10- A paisagem mostra o campo ou a cidade? (1.0 ponto).

_____

_____

ESTADO DE MATO GROSSO DO SUL
MUNICÍPIO DE LADÁRIO
SECRETARIA MUNICIPAL DE EDUCAÇÃO
ESCOLA MUNICIPAL EDUARDO MALHADO

ESCOLA MUNICIPAL EDUARDO MALHADO
PROFESSORA: ROSÂNGELA TEIXEIRA PÉCORA TURMA: 2º ANO B
ENSINO FUNDAMENTAL I TURNO: VESPERTINO
COMPONENTE CURRICULAR: HISTÓRIA PERÍODO: 24/07 – 29/07- 31/07
ALUNO (A):

AVALIAÇÃ0 DE HISTÓRIA

1-COMPLETE AS FRASES: (2.5 PONTOS).

a) UMA FAMÍLIA E FORMADA
PELO_____,PELA_____PELOS_____
E POR OUTROS.

b) QUANTAS PESSOAS MORAM EM SUA CASA? _____.

c) ESCREVA O NOME DAS PESSOAS QUE FAZEM PARTE DE SUA FAMÍLIA:_____.

d) ESCREVA UMA FRASE SOBRE SUA FAMÍLIA-
_____.

e) DESENHE SUA FAMÍLIA:

2-PROCURE NO CAÇA PALAVRAS ESSES MEMBROS DA FAMÍLIA: (2.0 PONTOS)

PRIMO- GENRO- AVO-CUNHADO-SOGRA-

L	O	P	O	S	Z	A	S	O	S	Z	A	S
V	O	S	I	A	O	O	C	N	V	A	V	O
A	G	O	O	P	U	E	U	B	A	J	S	G
O	A	G	L	I	B	E	N	E	I	S	A	R
P	R	I	M	O	O	A	H	Z	A	A	P	A
J	B	A	P	O	S	Z	A	L	G	P	I	N
J	B	A	P	O	B	A	D	J	O	B	I	P
R	V	E	G	E	N	R	O	L	S	A	R	A

ESTADO DE MATO GROSSO DO SUL
MUNICÍPIO DE LADÁRIO
SECRETARIA MUNICIPAL DE EDUCAÇÃO
ESCOLA MUNICIPAL EDUARDO MALHADO

3- COMPLETE COM AS PALAVRAS DO QUADRO: (2.5PONTOS).

MORADIA – CASAS –CÔMODOS -SEGURANÇA – LUGAR –

AS _____SÃO CONSTRUÇÕES FEITAS SOBRE ESTACAS.

A MORADIA É O _____ ONDE VIVEMOS.

AS MORADIAS GRANDES TÊM MUITOS _____.

UMA MORADIA DEVE OFERECER CONFORTO E _____PARA AS PESSOAS QUE MORAM NELA.

A _____ NOS PROTEGE DO SOL E DA CHUVA.

4-CÍRCULE OS DIREITOS DAS CRIANÇAS: (1.0 PONTOS).

EDUCAÇÃO- MAUS TRATOS- AMOR- AMIZADE- BRIGAS- ESTUDAR- BOA ALIMENTAÇÃO

PROTEÇÃO
IGUALDADE
ALIMENTAÇÃO
EDUCAÇÃO
AMOR
LAZER
SAÚDE
NOME
NACIONALIDADE

L N I G U A L D A D E C O S
A O P R O T E Ç Ã O C A T A
Z M E D U C A Ç Ã O O A S Ú
E E A L I M E N T A Ç Ã O D
R N A C I O N A L I D A D E
Q A M O R O T F T A A G D X



5- ENCONTRE OS DIREITOS DAS CRIANÇAS NO CAÇA PALAVRAS: