**ESTADO DE MATO GROSSO DO SUL**
**MUNICÍPIO DE LADÁRIO**
**SECRETARIA MUNICIPAL DE EDUCAÇÃO**
**ESCOLA MUNICIPAL EDUARDO MALHADO**

| | |
|---|---|
| ESCOLA MUNICIPA EDUARDO MALHADO | |
| PROFESSORA: ROSÂNGELA TEIXEIRA PÉCORA | TURMA: 2º ANO B |
| ENSINO FUNDAMENTAL I | TURNO: VESPERTINO |
| COMPONENTE CURRICULAR: LÍNGUA PORTUGUESA | PERÍODO: 05/10 – (02 aulas) |
| ALUNO (A): | |

**ATIVIDADE DE LÍNGUA PORTUGUESA**

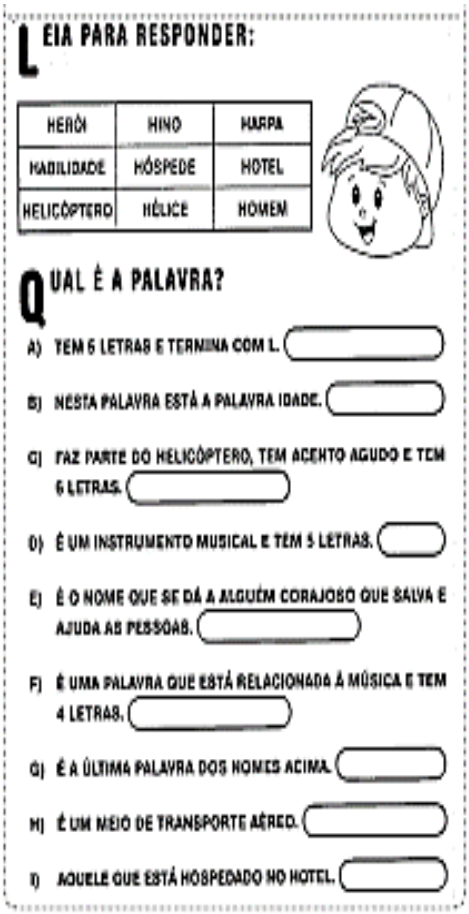
LEIA PARA RESPONDER:

| | | |
|---|---|---|
| HERÓI | HINO | HARPA |
| HABILIDADE | HÓSPEDE | HOTEL |
| HELICÓPTERO | HÉLICE | HOMEM |

QUAL É A PALAVRA?

A) TEM 6 LETRAS E TERMINA COM L. ( )

B) NESTA PALAVRA ESTÁ A PALAVRA IDADE. ( )

C) FAZ PARTE DO HELICÓPTERO, TEM ACENTO AGUDO E TEM 6 LETRAS. ( )

D) É UM INSTRUMENTO MUSICAL E TEM 5 LETRAS. ( )

E) É O NOME QUE SE DÁ A ALGUÉM CORAJOSO QUE SALVA E AJUDA AS PESSOAS. ( )

F) É UMA PALAVRA QUE ESTÁ RELACIONADA À MÚSICA E TEM 4 LETRAS. ( )

G) É A ÚLTIMA PALAVRA DOS NOMES ACIMA. ( )

H) É UM MEIO DE TRANSPORTE AÉREO. ( )

I) AQUELE QUE ESTÁ HOSPEDADO NO HOTEL. ( )




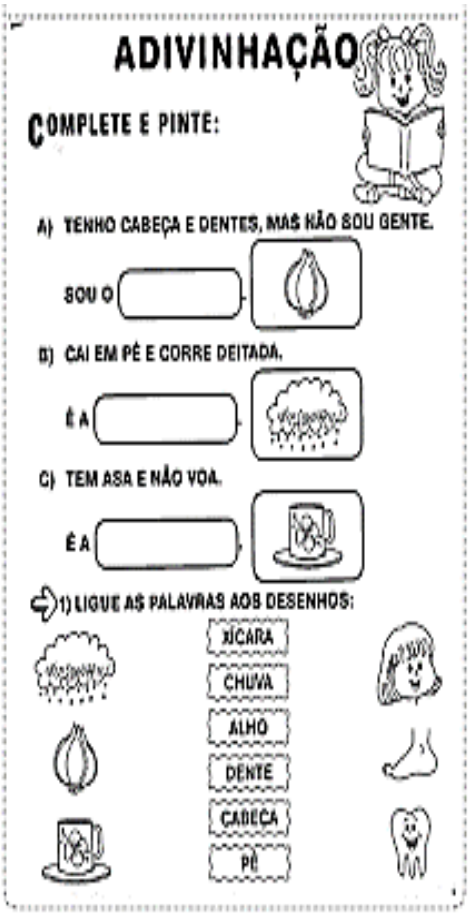


ESCREVA 5 PALAVRAS COM LH, NH, CH;

_____

_____

_____

DESENHE 3 DESENHOS QUE TENHAM LH, NH, CH.

**ESTADO DE MATO GROSSO DO SUL**
**MUNICÍPIO DE LADÁRIO**
**SECRETARIA MUNICIPAL DE EDUCAÇÃO**
**ESCOLA MUNICIPAL EDUARDO MALHADO**

| | |
|---|---|
| ESCOLA MUNICIPA EDUARDO MALHADO | |
| PROFESSORA: ROSÂNGELA TEIXEIRA PÉCORA | TURMA: 2º ANO B |
| ENSINO FUNDAMENTAL I | TURNO: VESPERTINO |
| COMPONENTE CURRICULAR: LÍNGUA PORTUGUESA | PERÍODO: 06/10- ( 02 aulas) - 08/10/2020 |
| ALUNO (A): | |

**ATIVIDADE DE LÍNGUA PORTUGUESA**



## A ABELHA LILI

LILI É UMA LINDA ABELHINHA.
LILI VOA, VOA PELO JARDIM.
ELA COLHE O NÉCTAR DAS FLORES.
LILI LEVA O NÉCTAR PARA A COLMEIA.
SUAS IRMÃS TRANSFORMAM O NÉCTAR EM UM DELICIOSO MEL.
LILI É UMA ABELHA MUITO TRABALHADEIRA.



**KÁTIA TEIXEIRA**

### COMPREENSÃO DO TEXTO

1. QUAL É O TÍTULO DO TEXTO?

2. LILI É:

☐ UMA LAGARTA ☐ UMA ABELHA
☐ UMA BORBOLETA ☐ UMA CIGARRA

3. ONDE LILI VOA?

## A fada Sofia

Sofia é uma fada.
Ela faz muitas mágicas legais!
Fabiana vê a fada e pede:
— Você pode fazer a mágica do facão, Sofia?
A fada bate a varinha no facão e ele some.
O facão virou uma fumaça perfumada.

*Graça Boquet*



1) Quem é Sofia?

2) O que a fada Sofia faz?

3) Qual a mágica que Fabiana pede à Sofia para fazer?

4) O que o facão virou?

5) Circule, no texto, todas as palavras escritas com **F-f** e, depois, separe-as em sílabas no caderno.

**ESTADO DE MATO GROSSO DO SUL**
**MUNICÍPIO DE LADÁRIO**
**SECRETARIA MUNICIPAL DE EDUCAÇÃO**
**ESCOLA MUNICIPAL EDUARDO MALHADO**

| | |
|---|---|
| ESCOLA MUNICIPA EDUARDO MALHADO | |
| PROFESSORA: ROSÂNGELA TEIXEIRA PÉCORA | TURMA: 2º ANO B |
| ENSINO FUNDAMENTAL I | TURNO: VESPERTINO |
| COMPONENTE CURRICULAR: MATEMÁTICA | PERÍODO: 06-10- 0710-2020 |
| ALUNO (A): | |

**ATIVIDADE DE MATEMÁTICA**

1) Observe o quadro numerado de 1 a 30.

| | | | | | | | | | |
|---|---|---|---|---|---|---|---|---|---|
| 1 | 2 | 3 | 4 | 5 | 6 |  | 8 | 9 | 10 |
|  | 12 | 13 | ✱ | 15 |  | 17 | 18 | ⊗ | 20 |
| 21 |  | 23 | 24 |  | 26 |  | 28 | 29 | ☒ |

Agora, substitua os símbolos pelos numerais correspondentes:

| | | |
|---|---|---|
|  | ✱ |  |
|  | ⊗ |  |
|  |  | ☒ |

2) Ligue os numerais aos nomes.

| | |
|---|---|
| 15 | VINTE E NOVE |
| 21 | QUINZE |
| 18 | VINTE E TRÊS |
| 29 | DOZE |
| 12 | VINTE E UM |
| 23 | DEZOITO |

**ESTADO DE MATO GROSSO DO SUL**
**MUNICÍPIO DE LADÁRIO**
**SECRETARIA MUNICIPAL DE EDUCAÇÃO**
**ESCOLA MUNICIPAL EDUARDO MALHADO**

| | |
|---|---|
| ESCOLA MUNICIPA EDUARDO MALHADO | |
| PROFESSORA: ROSÂNGELA TEIXEIRA PÉCORA | TURMA: 2º ANO B |
| ENSINO FUNDAMENTAL I | TURNO: VESPERTINO |
| COMPONENTE CURRICULAR: MATEMÁTICA | PERÍODO: 09-10-2020 ( 02 aulas ). |
| ALUNO (A): | |

**ATIVIDADE DE MATEMÁTICA**

Veja, no gráfico abaixo, quanto pesa cada brinquedo e, depois, responda:




**A)** Qual o brinquedo **mais pesado**?

☐ Boneca.
☐ Trem.
☐ Carrinho.

**B)** Quantos quilos pesam o **carrinho** e a **boneca** juntos?

☐ 12 quilos.
☐ 13 quilos.
☐ 14 quilos.

**C)** Qual a **diferença** de peso entre a **boneca** e o **ursinho**?

☐ 2 quilos.
☐ 3 quilos.
☐ 4 quilos.

**ESTADO DE MATO GROSSO DO SUL**
**MUNICÍPIO DE LADÁRIO**
**SECRETARIA MUNICIPAL DE EDUCAÇÃO**
**ESCOLA MUNICIPAL EDUARDO MALHADO**

| | |
|---|---|
| ESCOLA MUNICIPA EDUARDO MALHADO | |
| PROFESSORA: ROSÂNGELA TEIXEIRA PÉCORA | TURMA: 2º ANO B |
| ENSINO FUNDAMENTAL I | TURNO: VESPERTINO |
| COMPONENTE CURRICULAR: HISTÓRIA | PERÍODO: 07/10- 09/10/2020 |
| ALUNO (A): | |

**ATIVIDADE DE HISTÓRIA**

## ATIVIDADES SOBRE DIA DAS CRIANÇAS

Professor: As atividades foram elaboradas com base no texto "História dos brinquedos" que pode ser acessado no site http://www.nossoclubinho.com.br/category/atividades-dia-das-criancas/

1) ESCREVA A PRIMEIRA LETRA DE CADA BRINQUEDO NO QUADRO AO LADO DAS FIGURAS:



2) COMPLETE AS LETRAS QUE ESTÁ FALTANDO NO NOME DE CADA UMA DAS BRINCADEIRAS:



| | | | | | | | | | |
|---|---|---|---|---|---|---|---|---|---|
| | U | L | A | | C | | R | | A |



| | | | | | | | |
|---|---|---|---|---|---|---|---|
| | | N | | | R | | A |



| | | | |
|---|---|---|---|
| P | | | O |

**ESTADO DE MATO GROSSO DO SUL**
**MUNICÍPIO DE LADÁRIO**
**SECRETARIA MUNICIPAL DE EDUCAÇÃO**
**ESCOLA MUNICIPAL EDUARDO MALHADO**

| | |
|---|---|
| ESCOLA MUNICIPA EDUARDO MALHADO | |
| PROFESSORA: ROSÂNGELA TEIXEIRA PÉCORA | TURMA: 2º ANO B |
| ENSINO FUNDAMENTAL I | TURNO: VESPERTINO |
| COMPONENTE CURRICULAR: GEOGRAFIA | PERÍODO: 08/10 – 09/0/2020 |
| ALUNO (A): | |

## ATIVIDADE DE GEOGRAFIA

*Os meios de transporte são classificados de acordo com a via por onde circulam.*

1. QUAL ALTERNATIVA APRESENTA UM MEIO DE TRANSPORTE AQUÁTICO?

(A) AVIÃO

(B) CARRO

(C) NAVIO

(D) MOTO

2. ÔNIBUS, TRENS, MOTOS E BICICLETAS SÃO MEIOS DE TRANSPORTE:

(A) TERRESTRES

(B) AQUÁTICOS

(C) AÉREOS

3. OS TRANSPORTES ABAIXO FORAM AGRUPADOS DE ACORDO COM O LOCAL ONDE CIRCULAM: TERRA, AR OU ÁGUA. ASSINALE A ALTERNATIVA QUE APRESENTA ALGUM TRANSPORTE NO GRUPO ERRADO:



(A)



(B)

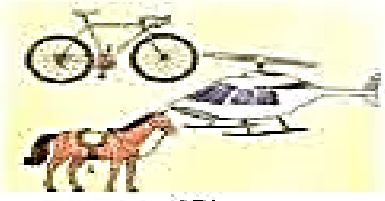

(C)

4. QUAL O SIGNIFICADO DA COR EM DESTAQUE NO SEMÁFORO?

(A) PARE

(B) ATENÇÃO

(C) SIGA

(D) PASSE RÁPIDO

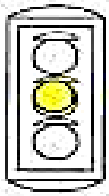

5. QUAL O PRINCIPAL MATERIAL USADO NA FABRICAÇÃO DE CADA UMA DAS CASAS ABAIXO?

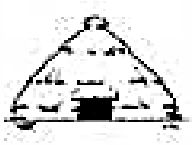

( ) TIJOLO
( ) PALHA

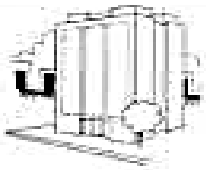

( ) GELO
( ) TIJOLO



( ) MADEIRA
( ) PALHA