ESTADO DE MATO GROSSO DO SUL
MUNICÍPIO DE LADÁRIO
SECRETARIA MUNICIPAL DE EDUCAÇÃO
ESCOLA MUNICIPAL EDUARDO MALHADO

ESCOLA MUNICIPAL EDUARDO MALHADO
PROFESSORA: ROSÂNGELA TEIXEIRA PÉCORA ANO: 2ª TURMA: B
ENSINO FUNDAMENTAL I TURNO: VESPERTINO
COMPONENTE CURRICULAR: LÍNGUA PORTUGUESA Data: 02/07/2020
ALUNO (A):

mestresosaber.com.br

ATIVIDADE DE LÍNGUA PORTUGUESA

1- DESCUBRA A PALAVRA ESCREVENDO A LETRA INICIAL DO NOME DE CADA DESENHO:
2- ESCREVA O ALFABETO CURSIVO MAIÚSCULO E MINÚSCULO.



3- SEPARE NO CADERNO AS PALAVRAS ENCONTRADAS.

ESTADO DE MATO GROSSO DO SUL
MUNICÍPIO DE LADÁRIO
SECRETARIA MUNICIPAL DE EDUCAÇÃO
ESCOLA MUNICIPAL EDUARDO MALHADO

ESCOLA MUNICIPAL EDUARDO MALHADO
PROFESSORA: ROSÂNGELA TEIXEIRA PÉCORA ANO: 2º TURMA:B
ENSINO FUNDAMENTAL I TURNO: VESPERTINO
COMPONENTE CURRICULAR: LÍNGUA PORTUGUESA PERÍODO: 06/07/2020- (duas aulas).
ALUNO (A):

blog.psiqueyse.com.br

ATIVIDADE DE LÍNGUA PORTUGUESA

1 – CIRCULE AS SÍLABAS QUE FORMAM O NOME DAS FIGURAS:
2 – ESCREVA NO CADERNO TRÊS PALAVRAS COM AS LETRAS DO ALFABETO.

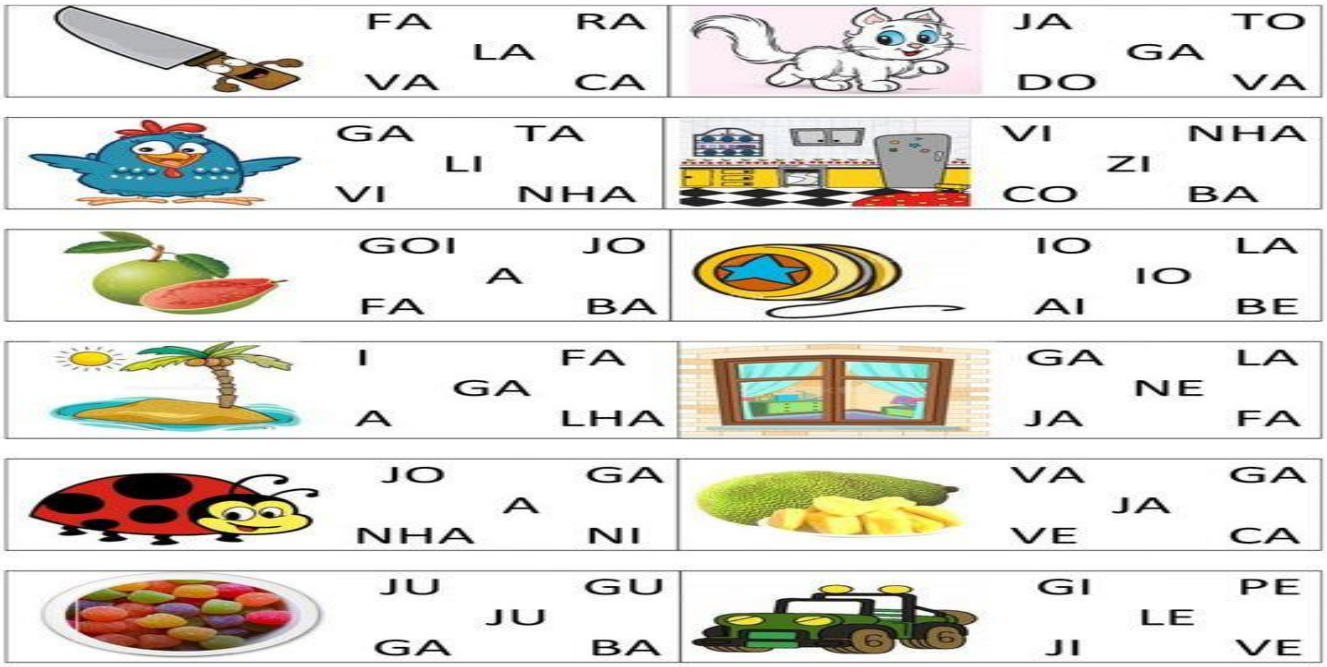

2) AGORA ESCREVA ABAIXO AS PALAVRAS QUE VOÇE FORMOU:

ESTADO DE MATO GROSSO DO SUL
MUNICÍPIO DE LADÁRIO
SECRETARIA MUNICIPAL DE EDUCAÇÃO
ESCOLA MUNICIPAL EDUARDO MALHADO

ESCOLAMUNICIPAL EDUARDO MALHADO
PROFESSORA: ROSÂNGELA TEIXEIRA PÉCORA ANO: 2ª TURMA: B
ENSINO FUNDAMENTAL I TURNO: VESPERTINO
COMPONENTE CURRICULAR: LÍNGUA PORTUGUESA DATAS: 07/07/2020- (duas aulas).
ALUNO (A):

mestresosaber.com.br

ATIVIDADE DE LÍNGUA PORTUGUESA

1 – ORDENE AS SÍLABAS E ESCREVA O NOME DAS FIGURAS.
2-PASSE AS PALAVRAS PARA O CADERNO.
3-ESCREVA DEZ PALAVRAS NO CADERNO EM SEGUIDA DESENHE ELAS. EX. CASA, AI DESENHA A CASA.



ESTADO DE MATO GROSSO DO SUL
MUNICÍPIO DE LADÁRIO
SECRETARIA MUNICIPAL DE EDUCAÇÃO
ESCOLA MUNICIPAL EDUARDO MALHADO

ESCOLA MUNICIPAL EDUARDO MALHADO
PROFESSORA: ROSÂNGELA TEIXEIRA PÉCORA ANO: 2º TURMA: B
ENSINO FUNDAMENTAL I TURNO: VESPERTINO
COMPONENTE CURRICULAR: LÍNGUA PORTUGUESA DATAS: 09/07/2020
ALUNO (A):

www.mestredosaber.com.br

ATIVIDADE DE LÍNGUA PORTUGUESA

1) COMPLETE AS PALAVRAS COM A LETRA INICIAL E DEPOIS ORGANIZE EM ORDEM ALFABÉTICA.
2) REPASSE AS PALAVRAS PARA O CADERNO.



ESTADO DE MATO GROSSO DO SUL
MUNICÍPIO DE LADÁRIO
SECRETARIA MUNICIPAL DE EDUCAÇÃO
ESCOLA MUNICIPAL EDUARDO MALHADO

ESCOLA MUNICIPAL EDAURDO MALHADO
PROFESSORA:ROSÂNGELA TEIXEIRA PÉCORA ANO: 2º TURMA: B
ENSINO FUNDAMENTAL I TURNO: VESPERTINO
COMPONENTE CURRICULAR: LÍNGUA PORTUGUESA DATA: 11/07/2020-(duas aulas).
ALUNO (A):

www.mestredosaber.com.br

ATIVIDADE DE LÍNGUA PORTUGUESA

1- PINTE O NÚMERO QUE APRESENTA A QUANTIDADE DE SÍLABAS DE CADA PALAVRA E REPASSSE AS PALAVRAS PARA O CADERNO.



2- RECORTE E COLE NO CADERNO PALAVRAS COM UM E R E DOIS RR.

3- PEÇA AOS RESPONSÁVEIS FAZEREM DITADO DE PALAVRAS SIMPLES NO CADERNO**.**

4- FAÇAM LEITURA DIARIAMENTE DE PALAVRAS E LIVROS QUE TIVEREM.

ESTADO DE MATO GROSSO DO SUL
MUNICÍPIO DE LADÁRIO
SECRETARIA MUNICIPAL DE EDUCAÇÃO
ESCOLA MUNICIPAL EDUARDO MALHADO

ESCOLA MUNICIPAL EDUARDO MALHADO
PROFESSORA:ROSÂNGELA TEIXEIRA PÉCORA ANO: 2º TURMA:
ENSINO FUNDAMENTAL I TURNO: VESPERTINO
COMPONENTE CURRICULAR: LÍNGUA PORTUGUESA DATA: 14/07/2020- (duas aulas).
ALUNO:

/www.educacaoetransformacao.com.br/

ATIVIDADE DE LÍNGUA PORTUGUESA

Sinais de pontuação



. **Ponto final:** indica que a frase terminou.

? **Ponto de interrogação:** usado em perguntas.

! **Ponto de exclamação:** usado para indicar admiração, surpresa, alegria, dor, etc.

Leia e complete as frases:
a) Que lindo quadro!
Em frases exclamativas, usamos o ponto de _____
b) Quem quer ser meu colega?
Em frases interrogativas, usamos o ponto de _____
c) Clara é minha melhor amiga.
Em final de frases afirmativas usamos e ponto _____



Ordene as palavras e forme frases. Não se esqueça de colocar o sinal de pontuação!

árvore cortou O homem a não

sorvete vou tomar Amanhã um

cachorro pêssego O caiu do na cabeça

passear no Ele de parque gosta não

de tarde ao fui Ontem cinema

estrelada Que noite

aqui você Como chegou

meu Quero em dinheiro troco



Complete com os sinais de pontuação adequados:



Quando ele voltará de viagem __
Que tarefa difícil __
Como o dia está bonito __
Anita gosta de biscoito __
Quantos anos você tem __

ESTADO DE MATO GROSSO DO SUL
MUNICÍPIO DE LADÁRIO
SECRETARIA MUNICIPAL DE EDUCAÇÃO
ESCOLA MUNICIPAL EDUARDO MALHADO

ESCOLA MUNICIPAL EDUARDO MALHADO
PROFESSORA:ROSÂNGELA TEIXEIRA PÉCORA ANO: 2º TURMA:
ENSINO FUNDAMENTAL I TURNO: VESPERTINO
COMPONENTE CURRICULAR: LÍNGUA PORTUGUESA DATA: 14/07/2020- (duas aulas).
ALUNO:

ESCOLA: _____
NOME: _____
TURMA: _____ DATA ____ /____ /____ Professora: _____



SONDAGEM DE LÍNGUA PORTUGUESA

1. ESCREVA O ALFABETO NA ORDEM, ABAIXO:



A

2. ESCREVA TRÊS PALAVRINHAS EM CADA QUADRINHO, DE ACORDO COM A LETRA PEDIDA:

A

C

3. ESCREVA DUAS PALAVRAS CONFORME SOLICITADO:

ANIMAIS

ALIMENTOS

ESTADO DE MATO GROSSO DO SUL
MUNICÍPIO DE LADÁRIO
SECRETARIA MUNICIPAL DE EDUCAÇÃO
ESCOLA MUNICIPAL EDUARDO MALHADO

4. LEIA E CIRCULE O NOME DA FIGURA:





CABELO
CORUJA
CEBOLA



PATETA
POTE
PATO



MOLA
MEIA
MACACO



BOLA
BANANA
BOTA



GIRAFA
GELO
GATO



PAPAI
PIPA
PETECA

5. AGORA FORME UMA FRASE SOBRE A FIGURA ABAIXO:



6. ESCREVA ABAIXO A PARLENDA DO SAPO:



ESTADO DE MATO GROSSO DO SUL
MUNICÍPIO DE LADÁRIO
SECRETARIA MUNICIPAL DE EDUCAÇÃO
ESCOLA MUNICIPAL EDUARDO MALHADO

ESCOLA MUNICIPAL EDUARDO MALHADO
PROFESSORA: ROSÂNGELA TEIXEIRA PÉCORA ANO: 2º TURMA:B
ENSINO FUNDAMENTAL I TURNO: VESPERTINO
COMPONENTE CURRICULAR: MATEMÁTICA DATAS: 02/07/2020
ALUNO:

wwwdanieducar.com

ATIVIDADE DE MATEMÁTICA

SITUAÇÃO PROBLEMA

HIRO ADORA FRUTAS. NO SÍTIO ONDE ELE MORA ELE COLHEU 6 CAJUS E 5 MAÇÃS. QIUANTAS FRUTAS ELE COLHEU AO TODO?



MAGALI E DORINHA SAÍRAM PARA A FEIRA E COMPRARAM 4 ABOBRINHAS E 5 BERINJELAS. QUANTOS LEGUMES ELAS COMPRARAM JUNTAS?



NA FESTA DE ANIVERSÁRIO DO CEBOLINHA FORAM 8 MENINAS E 3 MENINOS. QUANTAS CRIANÇAS FORAM NESTA FESTA?



NO SUPERMERCADO MAGALI COMPROU 2 ABACAXIS E 3 MAÇAS. QUANTAS FRUTAS ELA COMPROU?



2- ESCREVA DE 0 a 150 NO CADERNO.

ESTADO DE MATO GROSSO DO SUL
MUNICÍPIO DE LADÁRIO
SECRETARIA MUNICIPAL DE EDUCAÇÃO
ESCOLA MUNICIPAL EDUARDO MALHADO

ESCOLA MUNICIPAL EDUARDO MALHADO
PROFESSORA: ROSÂNGELA TEIXEIRA PÉCORA ANO:2º TURMA: B
ENSINO FUNDAMENTAL I TURNO: VESPERTINO
COMPONENTE CURRICULAR: MATEMÁTICA DATA:04/07/2020 - (duas aulas).
ALUNO:

https://atividadesparaeducadores.blogspot.com

ATIVIDADE DE MATEMÁTICA

1) PINTE OS CÍRCULOS DE ACORDO COM O NÚMERO DE ELEMENTOS DE CADA CONJUNTO E REGISTRE O NÚMERO AO LADO.

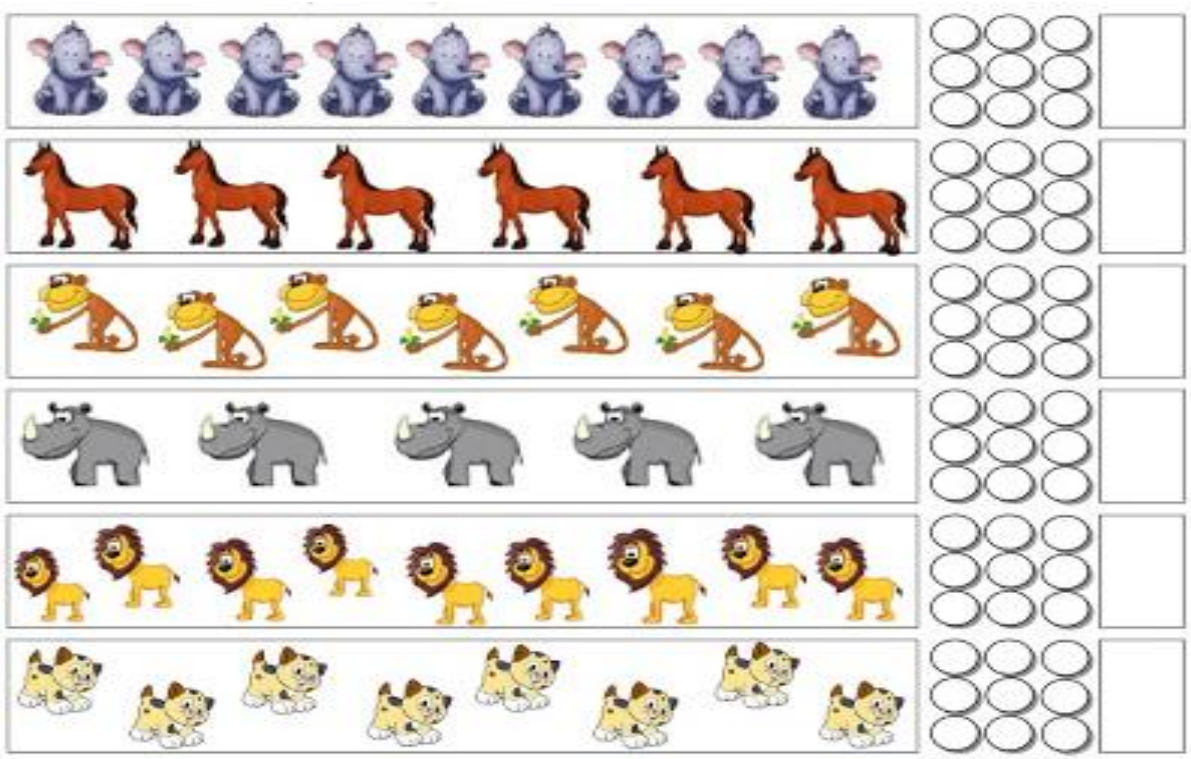

2) Observe a reta numérica:



- Escreva os vizinhos de cada número abaixo:

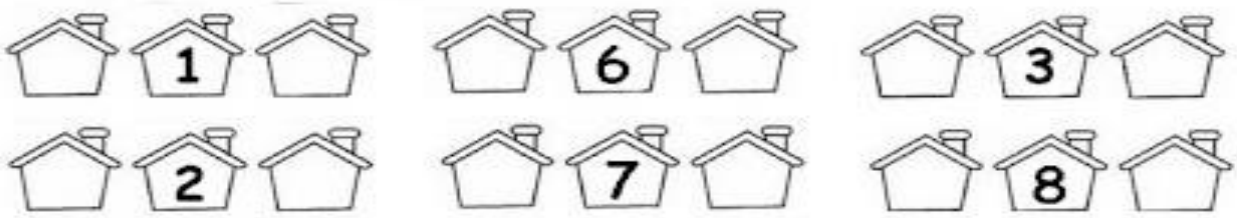

ESTADO DE MATO GROSSO DO SUL
MUNICÍPIO DE LADÁRIO
SECRETARIA MUNICIPAL DE EDUCAÇÃO
ESCOLA MUNICIPAL EDUARDO MALHADO

ESCOLA: MUNICIPAL EDUARDO MALHADO	
PROFESSORA: ROSÂNGELA TEIXEIRA PÉCORA	ANO: 2º TURMA: B
ENSINO FUNDAMENTAL I	TURNO: VESPERTINO
COMPONENTE CURRICULAR: MATEMÁTICA	DATAS: 07//07/2020.
ALUNO :	

wwwideiacriativa.blogspot.com

ATIVIDADE DE MATEMÁTICA

1) SIGA O EXEMPLO E RESOLVA AS SUBTRAÇÕES:

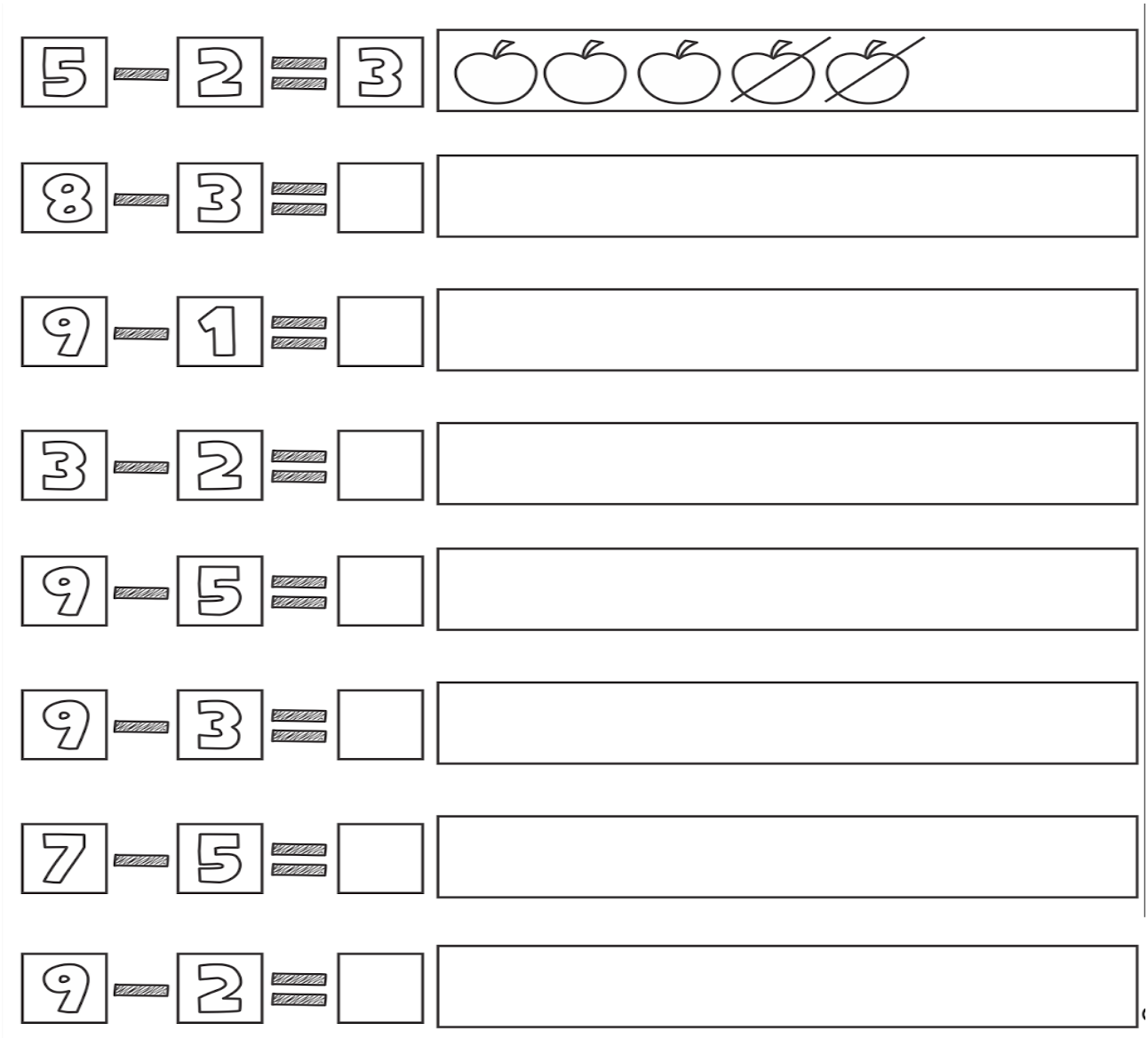

ESTADO DE MATO GROSSO DO SUL
MUNICÍPIO DE LADÁRIO
SECRETARIA MUNICIPAL DE EDUCAÇÃO
ESCOLA MUNICIPAL EDUARDO MALHADO

ESCOLA MUNICIPAL EDUARDO MALHADO
PROFESSORA: ROSÂNGELA TEIXEIRA PÉCORA ANO: 2º TURMA: B
ENSINO FUNDAMENTAL I TURNO; VESPERTINO
COMPONENTE CURRICULAR: MATEMÁTICA DATAS: 08/07/2020.
ALUNO:

www.amorensina.com.br

ATIVIDADE DE MATEMÁTICA

1) PINTE USANDO CORES DIFERENTES PARA EFETUAR CADA SOMA:

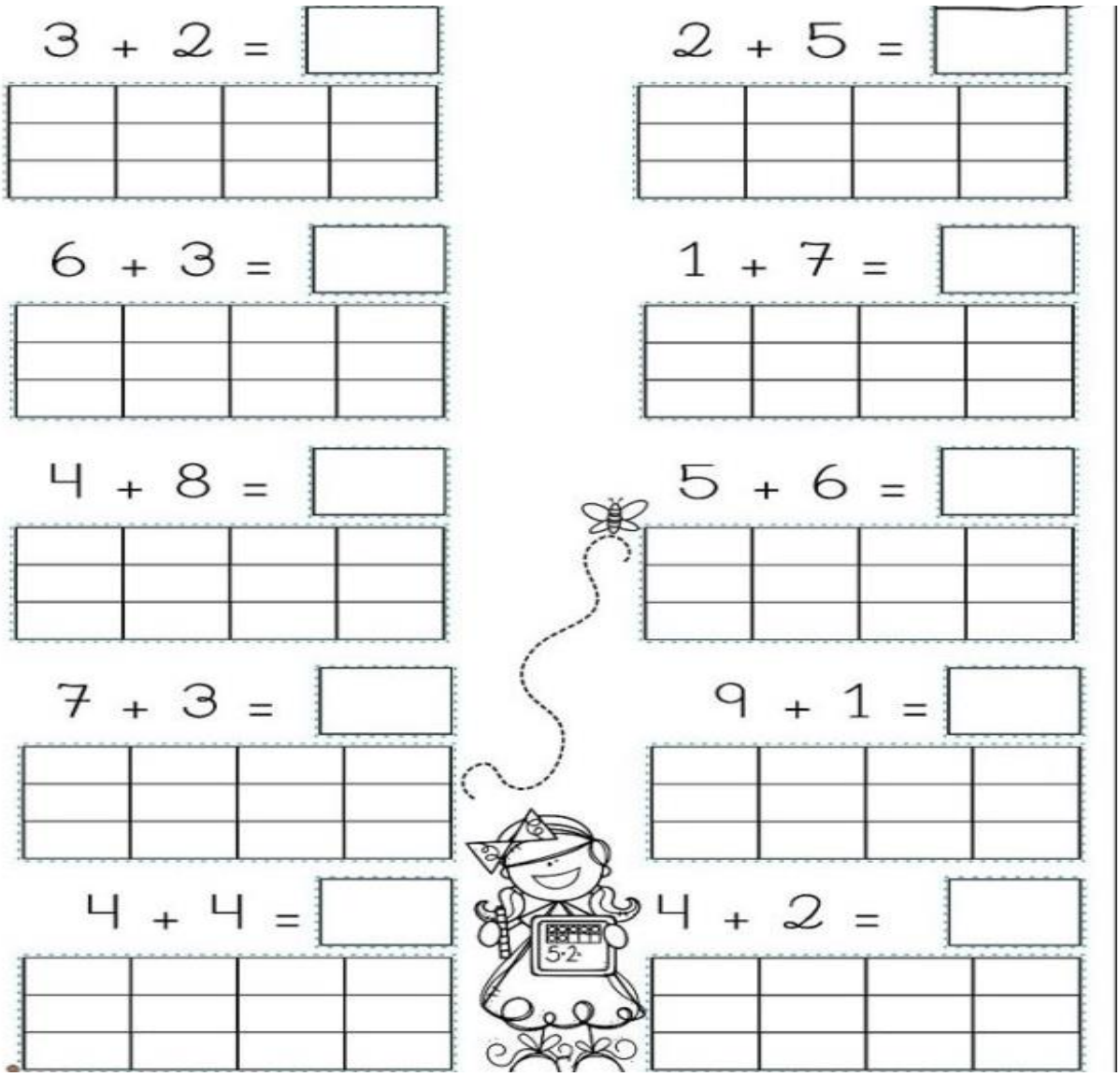

ESTADO DE MATO GROSSO DO SUL
MUNICÍPIO DE LADÁRIO
SECRETARIA MUNICIPAL DE EDUCAÇÃO
ESCOLA MUNICIPAL EDUARDO MALHADO

ESCOLA MUNICIPAL EDUARDO MALHADO
PROFESSORA: ROSÂNGELA TEIXEIRA PÉCORA ANO: 2º TURMA: B
ENSINO FUNDAMENTAL I TURNO: VESPERTINO
COMPONENTE CURRICULAR: MATEMÁTICA DATA: 10/07/2020
ALUNO:

soescola.com/2016/09/atividades-2-ano-

ATIVIDADE DE MATEMÁTICA

1) COMPLETE O QUADRO COM OS NUMERAIS QUE FALTAM. DEPOIS, PINTE APENAS AS DEZENAS EXATAS.

10	11	12	13	14	15	16	17	18	
20									
50									
80									
								98	

2) FAÇA AS CONTINHAS E MARQUE O RESULTADO CERTO AO LADO:

4 + 5	8 9 10	18 + 15	31 32 33	9 + 5	12 13 14	10 + 5	13 14 15	15 + 16	29 30 31
15 + 10	25 26 27	18 + 15	32 33 34	19 - 8	11 12 13	9 - 5	3 4 5	15 + 6	19 20 21
8 -5	3 4 5	18 + 9	26 27 25	10 -10	0 1 2				

-

ESTADO DE MATO GROSSO DO SUL
MUNICÍPIO DE LADÁRIO
SECRETARIA MUNICIPAL DE EDUCAÇÃO
ESCOLA MUNICIPAL EDUARDO MALHADO

ESCOLA MUNICIPAL NELSON MANGABEIRA
PROFESSORA: ROSÂNGELA TEIXEIRA PÉCORA ANO: 2º TURMA: B
ENSINO FUNDAMENTAL I TURNO: VESPERTINO
COMPONENTE CURRICULAR: MATEMÁTICA DATA: 10/07/2020
ALUNO:

1) RISQUE A QUANTIDADE DE ELEMENTOS PEDIDA EM CADA FILEIRA E ESCREVA O FATO NAS FORMAS HORIZONTAL E VERTICAL. JÁ COMECEI!

5	6 – 5 = 1	4	____ – ____ = ____	3	____ – ____ = ____
	6 – 5 1		------ – ------ ------		------ – ------ ------
1	____ – ____ = ____	6	____ – ____ = ____	2	____ – ____ = ____
	------ – ------ ------		------ – ------ ------		------ – ------ ------

2) QUE FATOS ESTÃO REPRESENTADOS? ESCREVA-OS.



____ – ____ = ____



____ – ____ = ____



____ – ____ = ____

ESTADO DE MATO GROSSO DO SUL
MUNICÍPIO DE LADÁRIO
SECRETARIA MUNICIPAL DE EDUCAÇÃO
ESCOLA MUNICIPAL EDUARDO MALHADO

ESCOLA MUNICIPAL EDUARDO MALHADO	
PROFESSORA: ROSÂNGELA TEIXEIRA PÉCORA	ANO: 2º TURMA:B
ENSINO FUNDAMENTAL I	TURNO: VESPERTINO
COMPONENTE CURRICULAR: MATEMÁTICA	DATAS: 13/07/, 14/07/2020.
ALUNO:	

ESCOLA: _____

NOME: _____

TURMA: _____ DATA ____ /____ /_____ Professora: _____

Educar com Amor

SONDAGEM DE MATEMÁTICA

1. OBSERVE OS CONJUNTOS E COMPLETE COM AS QUANTIDADES:



2. COMPLETE A SEQUÊNCIA.

1									10
				15					

3. QUEM VEM ANTES E QUEM VEM DEPOIS?

_____ 19 _____ _____ 1 _____

_____ 15 _____ _____ 20 _____

_____ 6 _____ _____ 9 _____

ESTADO DE MATO GROSSO DO SUL
MUNICÍPIO DE LADÁRIO
SECRETARIA MUNICIPAL DE EDUCAÇÃO
ESCOLA MUNICIPAL EDUARDO MALHADO

Educar com Amor

4. RESOLVA OS FATOS, DESCUBRA O SEGREDO E PINTE.



AZUL 4 + 3 = _____

VERMELHO 8 + 6 = _____

PRETO 2 + 3 = _____

VERDE 12 + 5 = _____

AMARELO 2 + 6 = _____

BEIJE 15 + 9 = _____

ROSA 3 + 8 = _____

5. SARA FEZ UMA PESQUISA PARA SABER QUAL O BICHINHO DE JARDIM PREFERIDO DE SEUS COLEGAS. PARA CADA RESPOSTA, ELA FEZ UMA MARQUINHA. REGISTRE O NÚMERO DE VOTOS DE CADA BICHINHO.

JOANINHA	BORBOLETA	GAFANHOTO
		
I I I I I I I I	I I I I	I I I I I I I I I I

A- QUANTOS VOTOS TEVE O BICHINHO PREFERIDO?

_____

B- QUANTOS VOTOS O GAFANHOTO TEVE A MAIS QUE A BORBOLETA?

_____

ESTADO DE MATO GROSSO DO SUL
MUNICÍPIO DE LADÁRIO
SECRETARIA MUNICIPAL DE EDUCAÇÃO
ESCOLA MUNICIPAL EDUARDO MALHADO

ESCOLA MUNICIPAL EDUARDO MALHADO
PROFESSORA: ROSÂNGELA TEIXEIRA PÉCORA ANO:2º TURMA: B
ENSINO FUNDAMENTAL I TURNO: VESPERTINO
COMPONENTE CURRICULAR: HISTÓRIA DATA: 01/07/ e 03/07/2020
ALUNO (A):

www.professorzezinhoramos.com

ATIVIDADE DE HISTÓRIA

MINHA HISTÓRIA

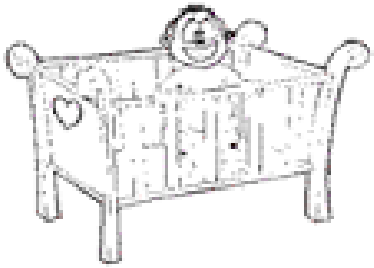

MAMÃE,
RESPONDA-ME E DEPOIS ESCREVA ABAIXO:

EM QUE DIA NASCI?

EM QUE HOSPITAL?

QUANTOS QUILOS PESEI?

COM QUANTOS CENTÍMETROS NASCI?

QUEM ESCOLHEU O MEU NOME?

AGORA É COMIGO!

EU ERA ASSIM QUANDO BEBÊ.

DESENHE OU COLE FOTOS

ESTADO DE MATO GROSSO DO SUL
MUNICÍPIO DE LADÁRIO
SECRETARIA MUNICIPAL DE EDUCAÇÃO
ESCOLA MUNICIPAL EDUARDO MALHADO

ESCOLA MUNICIPAL EDUARDO MALHADO
PROFESSORA: ROSÂNGELA TEIXEIRA PÉCORA ANO:2º TURMA: B
ENSINO FUNDAMENTAL I TURNO: VESPERTINO
COMPONENTE CURRICULAR: HISTÓRIA DATA: 04/07 e 08/07/2020.
ALUNO (A):

ATIVIDADE DE HISTÓRIA



DATA; 08/07/2020- PINTE BEM BONITO SUA FAMÍLIA



ESTADO DE MATO GROSSO DO SUL
MUNICÍPIO DE LADÁRIO
SECRETARIA MUNICIPAL DE EDUCAÇÃO
ESCOLA MUNICIPAL EDUARDO MALHADO

ESCOLA MUNICIPAL EDUARDO MALHADO
PROFESSORA: ROSÂNGELA TEIXEIRA PÉCORA ANO:2º TURMA: B
ENSINO FUNDAMENTAL I TURNO: VESPERTINO
COMPONENTE CURRICULAR: HISTÓRIA DATA: 10//07 e 15/07/2020
ALUNO (A):

SONDAGEM DE HISTÓRIA

1. Você já sabe quanto é importante na sua família, na sua escola e em sua comunidade. Pinte como desejar a figura que mais se parece com você.






2. Todos os animais do mundo quando nascem passam a fazer parte de uma família. Circule a que mais parece com a sua.






3. Casas, apartamentos e quitinetes são alguns tipos de moradia que estudamos neste bimestre. Das figuras abaixo, marque um X apenas naquelas que podem morar pessoas.






4. Ligue os objetos aos cômodos da casa em que devem estar.







5. Observe a figura e escolha o local do quarto em que você mais gosta de ficar. Desenhe um boneco (a) que represente você e pinte.



ESTADO DE MATO GROSSO DO SUL
MUNICÍPIO DE LADÁRIO
SECRETARIA MUNICIPAL DE EDUCAÇÃO
ESCOLA MUNICIPAL EDUARDO MALHADO

PINTE BEM BONITO A IMAGEM.

ESCREVA SOBRE A SUA ESCOLA E QUEM FAZ PARTE DELA:

NOME DA MINHA ESCOLA

NOME DA MINHA PROFESSORA

NOME DOS MEUS AMIGOS DA CLASSE



CONSTRUA UMA FRASE SOBRE A SUA ESCOLA

ESTADO DE MATO GROSSO DO SUL
MUNICÍPIO DE LADÁRIO
SECRETARIA MUNICIPAL DE EDUCAÇÃO
ESCOLA MUNICIPAL EDUARDO MALHADO

ESCOLA MUNICIPAL EDUARDO MALHADO
PROFESSORA: ROSÂNGELA TEIXEIRAPÉCORA ANO:2º TURMA: B
ENSINO FUNDAMENTAL I TURNO: VESPERTINO
COMPONENTE CORRICULAR: GEOGRAFIA DATA: 02/07/2020
ALUNO (A):

atividadespedagogicas.net

ATIVIDADE DE GEOGRAFIA

COMO SOU E MEUS SENTIMENTOS NO DIA-A-DIA

A- DESENHE NOS ESPAÇOS ABAIXO O QUE SE PEDE:

1- VOCÊ COM RAIVA	2- VOCÊ FELIZ
3- VOCÊ TRISTE	4- VOCÊ COM MEDO

NOSSO JEITO, AS EXPRESSÕES DO NOSSO ROSTO, MOSTRAM AQUILO QUE ESTAMOS SENTINDO. HÁ DIAS EM QUE ACORDAMOS FELIZES, COM VONTADE DE RIR E DE CANTAR, E HÁ OUTROS EM QUE SAÍMOS DA CAMA DE MAU HUMOR, SEM VONTADE DE FAZER NADA... **PENSE SOBRE ISSO:** É NORMAL QUE AS PESSOAS SINTAM ALEGRIA, TRISTEZA, MEDO, RAIVA E TANTAS OUTRAS EMOÇÕES. PORÉM, O QUE NÃO É LEGAL É DEIXARMOS NOSSO MAU HUMOR, NOSSA RAIVA ETC ATINGIR AS PESSOAS QUE ESTÃO PRÓXIMAS DE NÓS E NÃO TEM NADA A VER COM NOSSOS PROBLEMAS.

B- OBSERVE AS EXPRESSÕES ABAIXO E ESCREVA O NOME DAS EMOÇÕES CORRESPONDENTES A CADA UMA:






ESTADO DE MATO GROSSO DO SUL
MUNICÍPIO DE LADÁRIO
SECRETARIA MUNICIPAL DE EDUCAÇÃO
ESCOLA MUNICIPAL EDUARDO MALHADO

ESCOLA MUNICIPAL EDUARDO MALHADO
PROFESSORA: ROSÂNGELA TEIXEIRAPÉCORA ANO:2º TURMA: B
ENSINO FUNDAMENTAL I TURNO: VESPERTINO
COMPONENTE CORRICULAR: GEOGRAFIA DATA: 03/07/2020
ALUNO (A):

atividadespedagogicas.net

ATIVIDADE DE GEOGRAFIA



DIA; 08/07/2020



ESTADO DE MATO GROSSO DO SUL
MUNICÍPIO DE LADÁRIO
SECRETARIA MUNICIPAL DE EDUCAÇÃO
ESCOLA MUNICIPAL EDUARDO MALHADO

ESCOLA MUNICIPAL EDUARDO MALHADO
PROFESSORA: ROSÂNGELA TEIXEIRAPÉCORA ANO:2º TURMA: B
ENSINO FUNDAMENTAL I TURNO: VESPERTINO
COMPONENTE CORRICULAR: GEOGRAFIA DATA: 09/07 e 10/07/2020
ALUNO (A):

SONDAGEM DE GEOGRAFIA

PENSE NO BAIRRO EM QUE VOCÊ MORA. DE ACORDO COM SEU BAIRRO RESPONDA AS PERGUNTAS ABAIXO COM A AJUDA DAS PESSOAS QUE MORAM COM VOCÊ.

1 – O nome do seu bairro é _____

2 - Há quanto tempo você mora nele? _____

3 – O nome da rua onde você mora é _____

_____

4 – Marque abaixo os itens que existem no seu bairro:

( ) posto de saúde
( ) escola
( ) rede de água
( ) postes de iluminação
( ) rede de esgoto
( ) supermercados
( ) bancos
( ) lojas
( ) hospital
( ) praça
( ) quadra de esporte
( ) restaurantes



_____

5 – O que você gostaria que tivesse no seu bairro?

_____

_____

_____

6 – Escreva o que você mais gosta no bairro onde mora e ilustre no quadro abaixo:

_____

_____

ESTADO DE MATO GROSSO DO SUL
MUNICÍPIO DE LADÁRIO
SECRETARIA MUNICIPAL DE EDUCAÇÃO
ESCOLA MUNICIPAL EDUARDO MALHADO

Entrevistando Você



Você é atento aos acontecimentos de sua rua? Então responda às perguntas abaixo:

- Você mora em casa ou em apartamento?

_____

- O número da sua residência é par ou ímpar?

_____

- Quais linhas de ônibus passam em sua rua?

_____

- Quais os dias da semana em que se faz coleta de lixo em sua rua?

_____

- Em que horário o carteiro passa, entregando correspondências?

_____

- Há algum telefone público em sua rua?

_____