ESCOLA MUNICIPAL EDUARDO MALHADO

Ladário _____ de _____de _____

Aluno (a) : _____ 3º "A"

Professora: Solange da Silva
COMPETÊNCIA CURRICULAR: Língua Portuguesa Aulas 2 (segunda feira)
CONTEÚDOS/OBJETOS DE CONHECIMENTO: Artigo definido e indefinido -(MS.EF35LP07.s.07)
Caderno do futuro 3ª ano

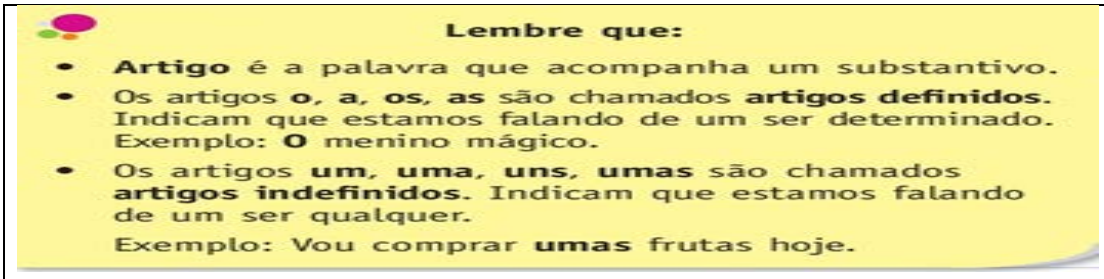

1 Sublinhe os artigos

a) Os meninos

b) O mar

c) As montanhas

d) A casa

e) Os passarinhos

f) Um chocolate

g) Uns aviões

h) Uma boneca

i) umas maçãs

2) complete com os artigos definidos o, a. os, as

a)_____ montanha

b) _____ xicara

c) _____ rocha

d) _____homem

e) _____ animais

f) _____gaviões

g) _____ amigos

h) _____ bichos

i) _____ pessoas

j) _____ mar

k) _____ flores

l) _____rua

3) Complete com os artigos indefinidos um , uma , uns umas:

a) _____ remédio

b) _____ pessoas

C _____ galinhas

d) _____ anel

4) Circule os artigos das frases abaixo:

a) A menina comprou uns vestidos.

b) Os jogadores levaram as bolas.

c) AS pipocas são deliciosas!

d) A princesa é uma dama encantadora.

e) O fazendeiro comprou um trator.

COMPETÊNCIA CURRICULAR: Matemática Aulas 1 (segunda feira)
CONTEÚDOS/OBJETOS DE CONHECIMENTO: Dúzia e (1/2) meia dúzia - (MS.EF03MA20.s.20),
www.novaescola.or.br

12 unidades formam uma dúzia 6 unidades formam (1/2) meia dúzia

1)Resolva:

a) Papai foi a feira e comprou 2 dúzias de laranja, 1 dúzia de banana, meia dúzia de limão Quantas frutas papai comprou?

b) Maria tem 36 lápis de cor e juliana tem 12. Quantas dúzias Maria tem a mais que Juliana?
R: _____

2) Complete:

* UMA DÚZIA DE OVOS SÃO _____ OVOS.



* DUAS DÚZIAS DE OVOS SÃO _____ OVOS.





* MEIA DÚZIA DE OVOS SÃO _____ OVOS.



* UMA DÚZIA E MEIA DE OVOS SÃO _____ OVOS.





QUANTO É UMA DÚZIA?

UMA **DÚZIA** É O MESMO QUE **DOZE UNIDADES**.

- OBSERVE O DESENHO ABAIXO.



QUANTOS OVOS AO TODO? ☐

ISTO SIGNIFICA QUE ACIMA TEM UMA _____ DE OVOS.

- MARQUE O CONJUNTO QUE TEM **UMA DÚZIA.**

☐ 

☐ 

- DESENHE ATÉ COMPLETAR UMA DÚZIA.



www.amorensina.com.br - Todos os direitos reservados ©

ESCOLA MUNICIPAL EDUARDO MALHADO

Ladário _____ de _____de _____

Aluno (a) : _____ 3º "A"

Professora: Solange da Silva

COMPETÊNCIA CURRICULAR: Matemática Aulas 2 (terça feira)

CONTEÚDOS/OBJETOS DE CONHECIMENTO: Adição -(MS.EF02MA06.s.07)

Caderno do futuro 3ª ano

1) Arme, efetue as adições:

a) 1326 + 149 + 207 =

b) 1412 + 316 + 4 =

c) 3028 + 617 + 238 =

d) 629 + 136 + 18 =

e) 528 + 119 + 37 =

f) 443 + 254 + 325 =

2)Problemas

a. Carlos tem 216 figurinhas. Henrique tem 78 figurinhas a mais que Carlos.

Quantas figurinhas tem Henrique?

Resposta : calcule

b. Um trem levava 256 passageiros. Numa estação, subiram mais 42. Quantos passageiros ficaram no trem?

Responda:

ESCOLA MUNICIPAL EDUARDO MALHADO

Ladário _____ de _____de _____

Aluno (a) : _____ 3º “A”

Professora: Solange da Silva

COMPETÊNCIA CURRICULAR: Língua Portuguesa Aulas 2 (quarta feira)
CONTEÚDOS/OBJETOS DE CONHECIMENTO: Artigo definido e indefinido - (MS.EF35LP07.s.07)
Caderno do futuro 3ª ano

Escreva os nomes das figuras, com os seus artigos:

Artigos definidos	Artigos indefinidos
 _____	 _____
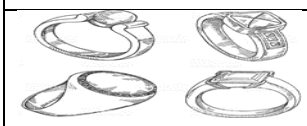 _____	 _____
 _____	 _____
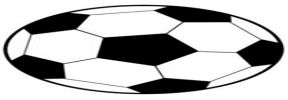 _____	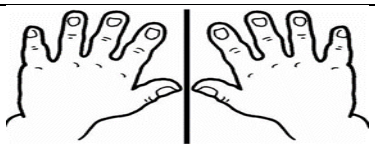 _____

2) No texto a seguir, acrescente os artigos definidos ou indefinidos:

Guilherme e Gustavo são irmãos. _____ padrinho de Guilherme o levou para passear na cidade.

Algum tempo depois, _____ padrinho de Gustavo fez _____ mesma coisa. Ambos queriam

ganhar _____ presente. Por isso, cada um deles foi levado a _____ loja da cidade.

COMPETÊNCIA CURRICULAR: Matemática Aulas 1 (quarta feira)
CONTEÚDOS/OBJETOS DE CONHECIMENTO: Subtração - (MS.EF02MA06.s.07)
Caderno do futuro 3ª ano

1) Arme e efetue:

a) 525 − 204 =

b)1647 − 320 =

c) 2999 – 1999

d) 978 − 432 =

e) 2710 − 510 =

f) 1374 − 152 =

g) 885 − 241 =

h) 1986 − 653 =

2) Problemas

a) Um sorveteiro levou para a praia 79 picolés, vendeu eu 68.
Quantos picolés sobraram?

Resposta: _____

b) Lili coleciona chaveiros. Ela tinha 158 chaveiros e deu 36 para sua prima.
Quantos chaveiros ela tem agora?

Resposta: _____

3)



ESCOLA MUNICIPAL EDUARDO MALHADO

Ladário _____ de _____de _____

Aluno (a) : _____ 3º “A”

Professora: Solange da Silva

COMPETÊNCIA CURRICULAR: Língua Portuguesa Aulas 1 (quinta feira)

CONTEÚDOS/OBJETOS DE CONHECIMENTO: Artigos definido indefinido(MS.EF35LP07.s.07)
Referência https://acessaber.com.br/

1) COMPLETE COM OS ARTIGOS INDEFINIDOS ADEQUADOS:

A) _____ SACOLA.

B) _____ CANETAS.

C) _____ TIGRESA.

D) _____ AGRICULTORES.

E) _____ LARANJAS.

F) _____ BALÕES.

G) _____ ORAÇÕES.

H) _____ PROFESSORES.

2) CIRCULE OS ARTIGOS DEFINIDOS OU INDEFINIDOS PRESENTES NAS FRASES ABAIXO:

A) UMA MENINA LAVOU A BICICLETA.

B) O CACHORRO É UM ANIMAL MAMÍFERO.

C) AS MULHERES VIRAM OS CARROS.

D) AS ONDAS FAZIAM O NAVIO BALANÇAR.

E) A TELEVISÃO QUEBROU MAIS UMA VEZ.

F) FIZ A LIÇÃO DE CASA ONTEM.

3) OBSERVE AS FRASES ABAIXO E CIRCULE OS ARTIGOS DEFINIDOS E SUBLINHE OS ARTIGOS INDEFINIDOS.

A) DEI UMAS RISADAS E FIQUEI MELHOR.

B) LEVEI O BOLO PARA A VOVÓ.

C) PASSEI O AVENTAL PARA O LADO.

D) AS ROUPAS VELHAS DÃO A IMPRESSÃO DE SUJEIRA.

E) NA MESA ESTÃO UNS PÃES E O CAFÉ.

F) AS VACAS PRODUZEM O LEITE.

G) UMAS CRIANÇAS NÃO GANHARAM BRINQUEDOS.

COMPETÊNCIA CURRICULAR: História Aulas 1 (quinta feira)
CONTEÚDOS/OBJETOS DE CONHECIMENTO: Profissões - (MS.EF01GE07.s.06)
Caderno do futuro 3ª ano

Lembre que:

- Nas cidades também há pessoas que trabalham no comércio.
- Comércio é o setor responsável pela compra e venda de produtos.
- As pessoas que trabalham no comércio são os **comerciários**.
- Os donos das casas comerciais são os comerciantes.
- Chamamos de casas comerciais os lugares que compram e vendem produtos, como lojas, farmácias, livrarias, padarias, supermercados etc.

- Os produtos vendidos no comércio podem vir da indústria ou do campo.
- **Consumidores** são as pessoas que compram os produtos.
- É dever do consumidor verificar, na hora da compra, se o prazo de validade do produto não está vencido e se o produto tem garantia contra defeitos de fabricação.

1) Responda:

A) O que é comercio?

R: _____

b) O que são comerciantes?

R: _____

2) Escreva o nome de quem trabalha nesses órgãos:

a) Saúde = _____

b) Educação = _____

c) Comunicação falada e escrita = _____

d) Transporte = _____

3)

ENCONTRE AS PROFISSÕES NO CAÇA-PALAVRAS

C	A	N	T	O	R	J	M	P	G
K	V	E	L	P	I	N	T	O	R
O	O	P	A	R	I	J	C	N	C
Y	M	E	C	A	N	I	C	O	O
B	O	L	T	F	V	Y	N	O	D
N	O	K	F	E	P	L	I	R	E
T	E	C	P	A	D	E	I	R	O
P	C	D	L	S	T	F	O	A	H
P	R	O	F	E	S	S	O	R	P
G	M	Y	O	P	B	D	J	R	L
J	A	R	D	I	N	E	I	R	O

CANTOR
MECÂNICO
PADEIRO
PROFESSOR
JARDINEIRO
PINTOR



ESCOLA MUNICIPAL EDUARDO MALHADO

Ladário _____ de _____de _____

Aluno (a) : _____ 3º “A”

Professora: Solange da Silva

COMPETÊNCIA CURRICULAR: história Aulas 1 (quinta feira)

CONTEÚDOS/OBJETOS DE CONHECIMENTO: Profissões - (MS.EF01GE07.s.06)

www.novaescolanovaescola.org.br

1) Vamos prestar atenção e fazer a cruzadinha.



2) Procure em revistar os profissionais que você gosta recorte e cole .

COMPETÊNCIA CURRICULAR: Geografia Aulas 2 (sexta feira)

CONTEÚDOS/OBJETOS DE CONHECIMENTO: Profissões - (MS.EF01GE07.s.06)

www.educaçãotransformadora,co,,br

1.Observa a imagem e responde:



a) Qual é que achas que é a profissão representada na figura? _____

_____

b) O que é que faz um médico? _____

_____

_____

2- Escreve por debaixo de cada imagem o nome das profissões representadas.













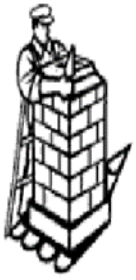



ESCOLA MUNICIPAL EDUARDO MALHADO

Ladário _____ de _____de _____

Aluno (a) : _____ 3º “A”

Professora: Solange da Silva

COMPETÊNCIA CURRICULAR: Língua Portuguesa Aulas 1 sábado letivo referente a 5ª feira)

CONTEÚDOS/OBJETOS DE CONHECIMENTO: Produção da escrita - (MS.EF35LP07.s.07)

Descubra o segredo da carte enigmática e reescreva abaixo:



_____

_____

_____

_____

_____

_____

COMPETÊNCIA CURRICULAR: Geografia Aulas 2 (sexta feira)

CONTEÚDOS/OBJETOS DE CONHECIMENTO : Profissões - (MS.EF01GE07.s.06)

www.educaçãotransformadora.com.br

LIGUE DE ACORDO O NOME A CADA PROFISSÃO:



CAIXA



BALCONISTA



PROFESSORA



MÉDICO

A) Qual a profissão que você acha mais interessante?

_____

B) E o que você gostaria de ser?

_____

C) Qual a profissão:

Do seu pai: _____ Da sua mãe: _____

ESCOLA MUNICIPAL EDUARDO MALHADO

Ladário _____ de _____de _____

Aluno (a) : _____ 3º "A"

Professora: Solange da Silva

COMPETÊNCIA CURRICULAR: Língua Portuguesa Aulas 2 (2ª feira)

CONTEÚDOS/OBJETOS DE CONHECIMENTO: Interpretação / leitura -(MS.EF01LI00.n.05)

www.educaçãotransformadora.com.br



1) Leia o texto abaixo e responda as questões:

LUPITA

LUPITA É UMA CADELINHA MUITO LEVADA. ELA ESCONDE O CHINELO DO PAPAI NO QUINTAL.

LUPITA RASGA O SOFÁ DA SALA, PUXA A COLCHA DA CAMA E DEIXA A BONECA DO BEBÊ CAIR NO CHÃO.

QUANDO LUPITA QUER SE ESCONDER CORRE PARA O CANIL E FICA QUIETINHA.

a) QUAL É O TÍTULO DO TEXTO?

_____

b) SOBRE QUAL ANIMAL É O TEXTO?

_____

c) O QUE LUPITA FAZ?

_____

_____

d) ONDE LUPITA SE ESCONDE?

_____

2) Organize as palavras abaixo em ordem alfabética (lembre de observar a 1ª letra de cada palavra):

SOFÁ	LUPITA	CADELA	QUINTAL	BONECA	AMIGO

COMPETÊNCIA CURRICULAR: matemática Aulas 1 (segunda feira)

CONTEÚDOS/OBJETOS DE CONHECIMENTO: Subtração - (MS.EF02MA06.s.07)

www.educaçãotransformadora.com.br

Arme e efetue no caderno.

a) 385 - 187
b) 463 - 225
c) 728 - 357
d) 503 - 276
e) 456 - 391
f) 389 - 145
g) 608 - 594
h) 276 - 137
i) 354 - 286
j) 960 -732



Arme e resolva no caderno.

a) 197 + 458
b) 156 + 293
c) 208 + 739
d) 164 + 278
e) 135 + 361
f) 496 + 208
g) 729 + 185
h) 258 + 406
i) 171 + 537
j) 460 + 294



ESCOLA MUNICIPAL EDUARDO MALHADO

Ladário _____ de _____de _____

Aluno (a) : _____ 3º "A"

Professora: Solange da Silva

COMPETÊNCIA CURRICULAR: Matemática Aulas 2 (terça feira)

CONTEÚDOS/OBJETOS DE CONHECIMENTO: Problemas - (MS.EF02MA06.s.07)

www.educaçãotransformadora,com,br

Recortar, colar e resolver os probleminhas abaixo no caderno de para casa. Deixe as continhas no caderno.

1. Em um estádio de futebol cabem 550 pessoas. Entraram apenas 380. Quantas pessoas ainda faltam para lotar o estádio?

---

2. Roberto tem 32 selos em sua coleção. Paulo tem 24 selos. Quantos selos Roberto têm a mais que Paulo?

---

3. Um sorveteiro fez 63 picolés de goiaba, 29 de laranja e 18 de manga. Vendeu ao todo 46 picolés. Quantos picolés não foram vendidos?



---

4. Numa estante havia 120 livros. Colocaram mais 48 e depois retiraram 23. Quantos livros ficaram?

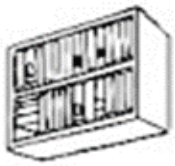

---

5. Para o aniversário de Didi foram feitos 50 empadinhas, 45 coxinhas e 90 canudinhos. Quantos salgados foram feitos ?



---

6. Um feirante tinha 138 mangas e 123 laranjas. Vendeu 114 frutas. Quantas frutas ainda restam?



---

7. Carlos tem 45 figurinhas. André tem 87 . Quantas figurinhas os dois tem juntos?