ESTADO DE MATO GROSSO DO SUL
MUNICÍPIO DE LADÁRIO
SECRETARIA MUNICIPAL DE EDUCAÇÃO
ESCOLA MUNICIPAL EDUARDO MALHADO

ATIVIDADE PEDAGÓGICA COMPLEMENTAR

ATIVIDADE 1

CAÇA-NÚMEROS

- Encontre, no caça-números, os números abaixo:

Vinte e seis = _____	Vinte e dois = _____	Dezessete = _____
Dez = _____	Vinte e cinco = _____	Trinta e nove = _____
Dezesseis = _____	Vinte e um = _____	Dezoito = _____
Vinte e sete = _____	Dezenove = _____	Trinta e um = _____



1	3	0	9	5	4	2	1	3	4
3	2	7	6	2	5	0	3	0	9
4	3	1	8	5	1	1	6	7	0
5	2	5	1	2	6	3	2	9	6
1	7	2	6	1	9	2	9	2	1
2	2	7	0	3	3	1	4	6	5
5	1	0	3	2	0	3	2	6	0
2	4	4	2	5	4	5	1	2	4
0	3	1	6	1	2	1	7	4	1
3	1	6	0	3	9	3	3	1	5

- Agora, escreva o antecessor e o sucessor de cada um deles:

_____ 26 _____	_____ 16 _____	_____ 32 _____	_____ 17 _____
_____ 25 _____	_____ 10 _____	_____ 27 _____	_____ 21 _____
_____ 19 _____	_____ 39 _____	_____ 18 _____	_____ 31 _____

ATIVIDADE 2

HORA DA ATIVIDADE

1-QUANTAS FLORES MARIANA REGOU NO JARDIM? ☐

*PINTE UMA DEZENA DAS ROSAS QUE MARIANA REGOU.

*UMA DEZENA CORRESPONDE A: ☐





2-QUANTAS FLORES JULIANA COLHEU NO JARDIM? ☐

*PINTE MEIA DEZENA DE FLORES NO JARDIM DA JULIANA

*MEIA DEZENA CORRESPONDE A: ☐





3-JOÃOZINHO PESCOU UMA DÚZIA DE PEIXINHOS. QUANTOS PEIXINHOS ELE PESCOU? ☐

*PINTE MEIA DÚZIA DE PEIXES.

*MEIA DÚZIA DE PEIXES CORRESPONDE A: ☐





ESTADO DE MATO GROSSO DO SUL
MUNICÍPIO DE LADÁRIO
SECRETARIA MUNICIPAL DE EDUCAÇÃO
ESCOLA MUNICIPAL EDUARDO MALHADO

ATIVIDADE 3



ATIVIDADE 4

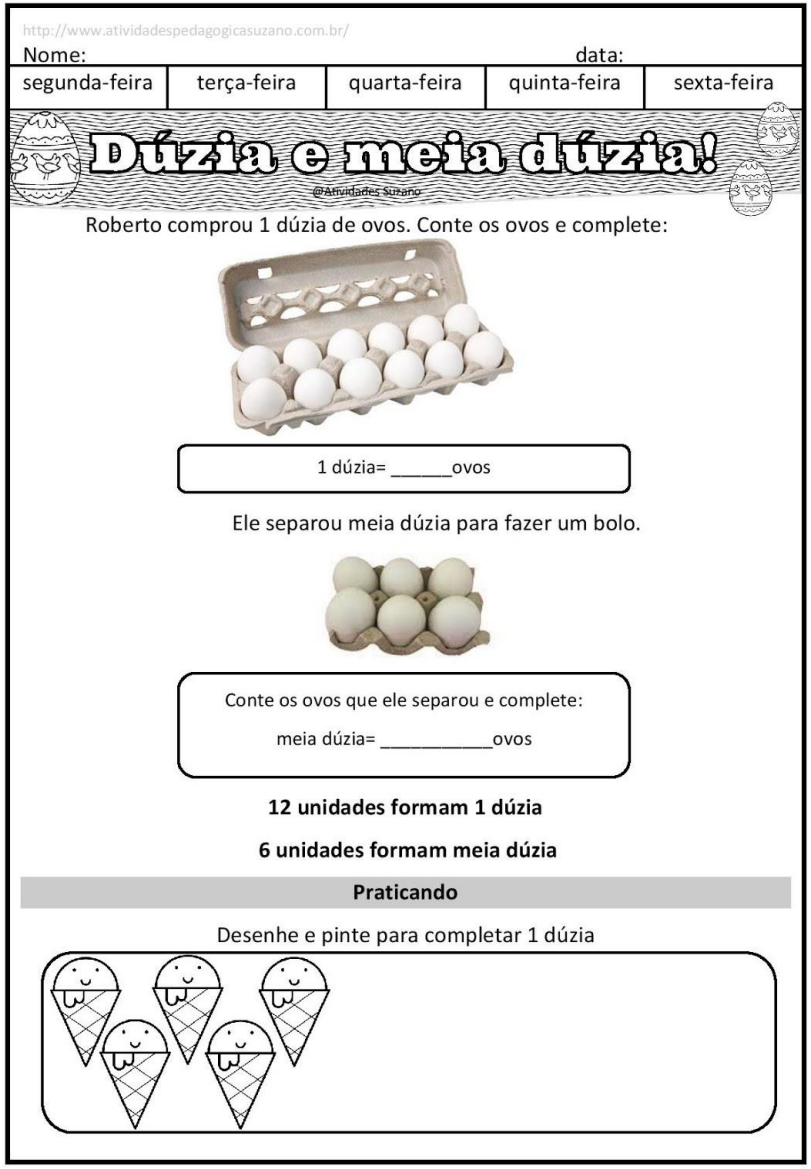

ESTADO DE MATO GROSSO DO SUL
MUNICÍPIO DE LADÁRIO
SECRETARIA MUNICIPAL DE EDUCAÇÃO
ESCOLA MUNICIPAL EDUARDO MALHADO

ATIVIDADE 5

Pinta os balões de acordo com o seu resultado.

4 – vermelho	6 – amarelo	8 – azul	12 – verde

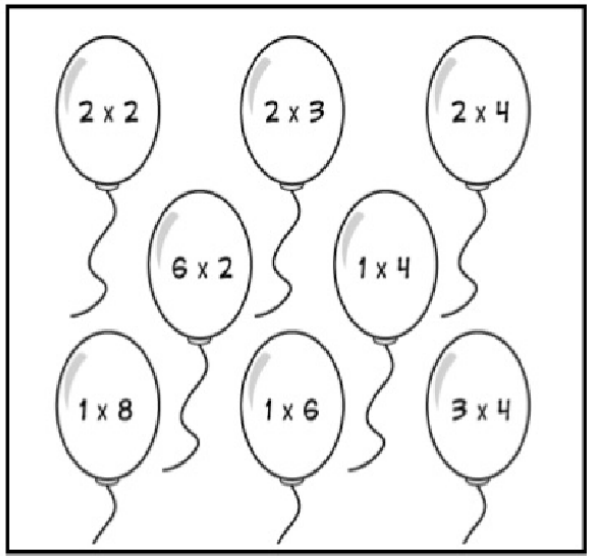

→Liga as adições às multiplicações.

- 4+4+4
- 2+2+2+2+2+2
- 2+2+2
- 3+3+3
- 4+4

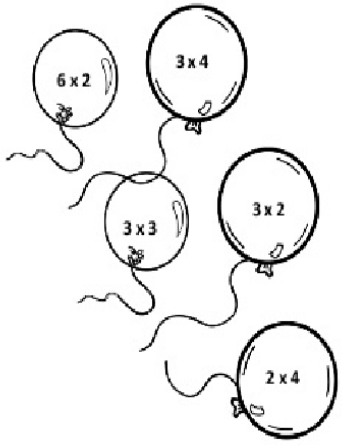

ATIVIDADE 6

Par e Ímpar

1 - Pinte de azul os números pares e de vermelho os números ímpares



2 - Circule os desenhos de dois em dois e classifique os conjuntos em par ou ímpar.

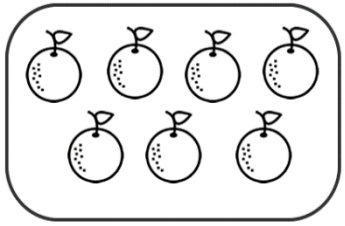

☐Par ☐Ímpar

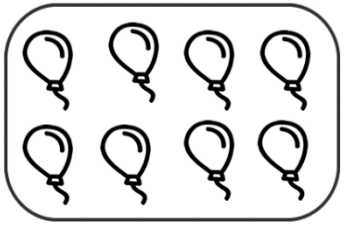

☐Par ☐Ímpar



☐Par ☐Ímpar



☐Par ☐Ímpar

ESTADO DE MATO GROSSO DO SUL
MUNICÍPIO DE LADÁRIO
SECRETARIA MUNICIPAL DE EDUCAÇÃO
ESCOLA MUNICIPAL EDUARDO MALHADO

ATIVIDADE 7

VAMOS PENSAR COMO REPRESENTAMOS OS NÚMEROS?

PINTE OS NÚMEROS ABAIXO DE ACORDO COM A ESCRITA:

2 0 5 2 5 VINTE E CINCO	3 8 3 0 8 TRINTA E OITO
5 6 5 0 6 CINQUENTA E SEIS	1 0 0 2 0 5 1 2 5 CENTO E VINTE E CINCO
1 0 0 0 5 0 0 1 5 0 0 MIL E QUINHENTOS	2 0 0 3 0 2 2 3 2 DUZENTOS E TRINTA E DOIS
6 7 5 6 0 0 7 0 5 SEISCENTOS E SETENTA E CINCO	3 9 7 3 0 0 9 0 7 TREZENTOS E NOVENTA E SETE
4 0 0 8 0 9 4 8 9 QUATROCENTOS E OITENTA E NOVE	1 0 8 1 8 DEZOITO

ATIVIDADE 8

VAMOS COMPLETAR A TABELA DE 1 ATÉ 99?

	1								
10			13			16			
				24					
30		32							39
40					45				
					55		57		
60			63					68	
	71								79
				84			87		
		92							

ESTADO DE MATO GROSSO DO SUL
MUNICÍPIO DE LADÁRIO
SECRETARIA MUNICIPAL DE EDUCAÇÃO
ESCOLA MUNICIPAL EDUARDO MALHADO

ATIVIDADE 9

VAMOS COMPLETAR A TABELA DE 100 ATÉ 209?

100	101	102	103	104	105	106	107	108	109
110									
120									
130									
140									
150									
160									
170									
180									
190									
200			203				207		

ATIVIDADE 10

VAMOS COMPLETAR A TABELA DE 200 ATÉ 309?

200							207		
		212							
					225				
	231								
									249
250									
			263						
						276			
				284					
								298	
300					305				

ESTADO DE MATO GROSSO DO SUL
MUNICÍPIO DE LADÁRIO
SECRETARIA MUNICIPAL DE EDUCAÇÃO
ESCOLA MUNICIPAL EDUARDO MALHADO

ATIVIDADE 11

PINTE OS NÚMEROS QUE **NÃO** ESTÃO NA ORDEM DE 1 ATÉ 100:

1	2	2	4	5	6	7	8	9	10
11	12	13	41	15	16	17	77	19	21
21	22	33	24	25	26	27	28	29	30
31	32	33	34	53	36	37	38	39	40
41	24	43	44	45	46	47	48	49	50
15	52	53	54	55	56	57	58	59	60
61	62	63	64	65	66	76	68	96	70
71	27	73	74	75	76	77	78	79	80
81	82	38	84	85	86	87	88	89	09
91	92	93	49	95	96	97	98	99	100

ATIVIDADE 12

ARME E RESOLVA

71 - 4 =

D	U

84 - 3 =

D	U



11 - 8 =

D	U

47 - 6 =

D	U

17 - 36 =

D	U

55 - 15 =

D	U

46 - 14 =

D	U

58 - 15 =

D	U

36 - 27 =

D	U

14 - 11 =

D	U

41 - 11 =

D	U

61 - 18 =

D	U

ESTADO DE MATO GROSSO DO SUL
MUNICÍPIO DE LADÁRIO
SECRETARIA MUNICIPAL DE EDUCAÇÃO
ESCOLA MUNICIPAL EDUARDO MALHADO

ATIVIDADE 13

Escola:_____

Turma:_____ Data:____ /____ /____

Aluno:_____

1 - Escreva os nomes dos desenhos e separe em sílabas



boneca

bo/ne/ca

Diga a modelo















www.aartedeensinareaprender.com.br

ATIVIDADE 14



AULA DE NATAÇÃO



João Pedro e seu irmão Simão estão na aula de natação.

O clube que eles freqüentam fica perto da casa deles, em frente à fábrica de botões.

Salomão é o professor. Ele nada tão bem como um tubarão.

Os meninos vestem seus calções e pulam na piscina. Salomão sempre elogia:

— Parabéns, crianças! Continuem assim que em breve serão campeões de natação.

Os meninos olham para ele com entusiasmo e satisfação.

Graça Batituci

1) Qual é o título do texto?

_____

2) Quais são os nomes das crianças do texto?

_____

3) Qual é o nome do professor de natação?

_____

ESTADO DE MATO GROSSO DO SUL
MUNICÍPIO DE LADÁRIO
SECRETARIA MUNICIPAL DE EDUCAÇÃO
ESCOLA MUNICIPAL EDUARDO MALHADO

ATIVIDADE 15

1 - Complete as palavras abaixo com:

r ou rr

ca__o
ba__ata
u__ubu
bo__acha
amo__a
ja__o
co__ida
pi__ulito
ga__afa
to__ada

ba__aca
ca__oça
se__ote
cadei__a
cacho__o
ba__iga
fa__ol
ba__o
ca__acol
gi__assol



ATIVIDADE 16

1 - Complete as palavras abaixo com:

s ou ss

ca__a
pa__eata
gira__ol
pe__oa
o__o
va__oura
so__ego
a__ado
carro__el
pul__eira

sal__icha
pa__eio
pê__ego
pá__aro
progre__o
can__ado
a__obio
suce__o
con__erva
a__inar



ESTADO DE MATO GROSSO DO SUL
MUNICÍPIO DE LADÁRIO
SECRETARIA MUNICIPAL DE EDUCAÇÃO
ESCOLA MUNICIPAL EDUARDO MALHADO

ATIVIDADE 17

1. Sublinhe os substantivos próprios e circule os substantivos comuns destas frases:

a) O nome do meu amigo é Frederico.

b) André comprou chocolate para Juliana.

c) Fui de carro para Salvador.

d) Sapeca é um gatinho esperto.

e) Carla ganhou o estojo e Bebeto, os lápis.

"Pensaremos em cada menina
que vivia naquela janela;
uma que se chamava Arabela,
outra que se chamava Carolina."

Cecília Meireles. "As meninas". *Ou isto ou aquilo*. Rio de Janeiro: Nova Fronteira, 1990.

2. Leia o trecho do poema acima e escreva:

a) dois substantivos próprios:

ATIVIDADE 18

b) dois substantivos comuns:

3. Classifique os substantivos em próprio ou comum, relacionando as colunas:

(1) substantivo próprio
(2) substantivo comum

( ) rosa	( ) Bahia
( ) porta	( ) Rosa
( ) caneta	( ) Brasil
( ) cinzeiro	( ) Ana
( ) príncipe	( ) criança
( ) Plutão	( ) Roque
( ) Vicente	( ) melancia

4. Complete as frases com substantivos comuns que indiquem profissão:

a) A _____ faz roupas.
b) O _____ engraxa e lustra sapatos.
c) Quem faz pão é o _____.
d) O _____ conserta calçados.
e) O _____ ensina aos alunos.
f) Quem vende remédios é o _____.

ESTADO DE MATO GROSSO DO SUL
MUNICÍPIO DE LADÁRIO
SECRETARIA MUNICIPAL DE EDUCAÇÃO
ESCOLA MUNICIPAL EDUARDO MALHADO

ATIVIDADE 19

g) Quem examina os doentes é o .

5. Escreva nomes comuns de:

animais flores

frutas brinquedos

63 / 112

6. Escreva nomes próprios de:

pessoas cidades

ATIVIDADE 20



ESTADO DE MATO GROSSO DO SUL
MUNICÍPIO DE LADÁRIO
SECRETARIA MUNICIPAL DE EDUCAÇÃO
ESCOLA MUNICIPAL EDUARDO MALHADO

ATIVIDADE 21

1 - Observe as figuras abaixo e coloque um **X** no jornal.

a) b) c) d)








2 – Existe uma nova revista em quadrinhos nas bancas:

"Turma da Mônica Jovem"

Para que serve esta revistas em quadrinho? Marque a resposta certa.



a- ( ) Dar uma notícia aos adolescentes.
b- ( ) Divertir o leitor adolescentes.
c- ( ) Convidar para uma festa de adolescente.
d- ( ) Ensinar os adolescentes a fazer uma comida.

3- Marquinho gosta de organizar suas revistinhas pelo nome, em ***ordem alfabética***. Marque a opção que mostra como Marquinho organiza suas revistas.

a	Chico Bento	Magali	Mônica	Cascão	Cebolinha
b	Cascão	Cebolinha	Chico Bento	Magali	Mônica
c	Magali	Mônica	Chico Bento	Cebolinha	Cascão
d	Cebolinha	Chico Bento	Cascão	Mônica	Magali

4-Circule o ***número*** do telefone de Juliana:

JULIANA 3462 8687

ATIVIDADE 22

5- Observe o cartaz de aniversariantes. Escreva nele o nome de TALITA respeitando a ***ordem alfabética.***



SANDRA
SARA
ULISSES
VERINHA

6- Observe a faixa colocada no portão da escola de Sueli e circule o que ***não é letra***.

CRIANÇAS, ESTAMOS FELIZES COM A CHEGADA DE VOCÊS.
SEJAM BEM VINDAS!

7- Circule palavra por palavra do texto abaixo.

O coelhinho fez sua toca pertinho do ipê amarelo.

8- Faça uma cruz nos blocos que Marta deverá colocar na ***caixa de letras***.

1	**M**	**6**	**0**	**L**
W	**B**	**4**	**X**	**U**
6	**7**	**D**	**8**	**C**
32	**K**	**M**	**11**	**E**

ESTADO DE MATO GROSSO DO SUL
MUNICÍPIO DE LADÁRIO
SECRETARIA MUNICIPAL DE EDUCAÇÃO
ESCOLA MUNICIPAL EDUARDO MALHADO

ATIVIDADE 23

9- Copie o texto abaixo na folha de caderno.

NO MEIO DA NOITE O LIVRO DE HISTÓRIA DESPERTOU.

__ PESSOAL! É HORA DE ACORDAR! – GRITOU ELE.

AS LETRAS DESPERTARAM ESFREGANDO OS OLHOS CHEIOS DE SONO.



10- Risque o quadro que apresenta ***uma palavra***:

(a)	(b)	(c)	(d)
Deu um abraço	**sua**	**Eu vi o macaco.**	**a formiguinha**

11- Circule a ***primeira palavra*** do texto:

Era uma vez uma menina muito linda. Ela tinha cabelos cacheados, dourados como um raio de sol. Seus olhinhos azuis não paravam quietos, pois queriam olhar tudo que havia ao seu redor.

Adaptação da história "Cachinhos Dourado"

ATIVIDADE 24

12- Circule a ***última palavra*** do texto.

Mamãe Ursa passeava pelo campo florido com seu filhotinho Tufi.

De repente, ela viu Tufi correndo em direção à uma grande colméia.

Ela sabia que as abelhas podiam machucar Tufi. Então Mamãe Ursa gritou:

___ Tufi, pare!

Fragmento de história infantil, adaptado.

13-Circule, nas palavras de cada quadro, as letras iniciais:

1	2	3	4
Beto **cabide** **BONECA** *acaba*	**QUEIJO** **querida** *periquito*	**Daniel** **goiabada** *pedido*	**fada** **Fernanda** **cafezinho**

14- Faça um X no quadro onde todas as palavras estão ***escritas com letra maiúscula***:

ferro *serenata* *carrinho* *gato* *bonequinha*	**FERRO** **SERENATA** **CARRINHO** **BONEQUINHA** **BONEQUINHA**	**FERRO** **Gato** **Serenata** **BONEQUINHA** **Carrinho**

15- Copie a frase utilizando letra cursiva:

O cachorrinho Bitu chorava de fome e frio.

_____

_____

ESTADO DE MATO GROSSO DO SUL
MUNICÍPIO DE LADÁRIO
SECRETARIA MUNICIPAL DE EDUCAÇÃO
ESCOLA MUNICIPAL EDUARDO MALHADO

ATIVIDADE 25

16- Marque a opção cujo nome tem a sílaba mediana igual a silaba mediana de **CADEIRA:**

a) 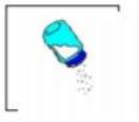 b)  c)  d) 

17-Risque o desenho cujo nome tem a mesma quantidade de sílabas que **Pá:**

a)  b)  c)  d) 

18- Marque o desenho cujo nome começa com F:

a)  b)  c)  d) 

19- Escreva o nome dos desenhos.

 _____  _____

 _____  _____

 _____

ATIVIDADE 26

20- Faça uma **+** na palavra que tem o mesmo número de sílabas que **TARTARUGA**.

a) martelo b) jabuticaba
c) crocodilo d) feijão

21-Colorir o quadrinho da ***primeira letra da palavra jacaré***:

x	c	f	j	p

22- Qual é a sílaba do meio, da palavra **VIOLÃO**?

a) ☐ **o** b) ☐ **io** c) ☐ **la** d) ☐ **lão**

23- Leia com atenção o texto abaixo e responda:

Troco um par de patins azuis, tamanho 33, por uma bola.

Falar com Pedro –

4ºano – tarde.

a) Quem está trocando os patins?_____

b) Por qual brinquedo ele troca os patins? _____

c) Qual a cor e o número dos patins? _____

d) De que turma ele é?_____

e) Em que turno ele estuda? _____

ESTADO DE MATO GROSSO DO SUL
MUNICÍPIO DE LADÁRIO
SECRETARIA MUNICIPAL DE EDUCAÇÃO
ESCOLA MUNICIPAL EDUARDO MALHADO

ATIVIDADE 27

Lembre que:

- Os meios de transporte servem para transportar pessoas e mercadorias de um lugar para outro.
- São meios de transporte: carro, trem, ônibus, barco, avião, cavalo, bicicleta etc.
- Os meios de transporte podem ser:
  - **terrestres**: são aqueles que se movimentam por terra, como o automóvel, o trem, o caminhão, a bicicleta, o metrô, a carroça etc.
  - **aéreos**: são aqueles que se movimentam pelo ar, como o avião, o helicóptero.
  - **aquáticos**: são aqueles que se movimentam pela água, como o navio, a canoa, a lancha, o iate, a jangada, a balsa.
- O ônibus, o trem e o metrô são chamados de transportes coletivos porque levam muitas pessoas ao mesmo tempo.

ATIVIDADE 27

1. Dê exemplos de meios de transporte e escreva para que servem:

2. Como podem ser os meios de transporte?

ESTADO DE MATO GROSSO DO SUL
MUNICÍPIO DE LADÁRIO
SECRETARIA MUNICIPAL DE EDUCAÇÃO
ESCOLA MUNICIPAL EDUARDO MALHADO

ATIVIDADE 28

3. Escreva o nome dos meios de transporte que:

a) poluem o ar.

b) não poluem o ar.

4. Ligue o meio de transporte ao profissional que o dirige e depois ao local de onde ele parte:

trem •	• motorista •	• aeroporto
navio •	• piloto •	• estação ferroviária
ônibus •	• maquinista •	• cais do porto
avião •	• timoneiro •	• estação rodoviária

ATIVIDADE 29

5. Para que servem os seguintes meios de transporte?

a) ônibus



b) caminhão



6. Dê exemplos de:

a) transportes coletivos.

b) transportes de uso individual.

ESTADO DE MATO GROSSO DO SUL
MUNICÍPIO DE LADÁRIO
SECRETARIA MUNICIPAL DE EDUCAÇÃO
ESCOLA MUNICIPAL EDUARDO MALHADO

ATIVIDADE 30

7. Dos meios de transporte abaixo, circule aqueles que são mais comuns onde você mora.

trem - ônibus - barco - metrô
carro de boi - avião - trator
navio - motocicleta - jangada
helicóptero - bicicleta - carro
caminhão - cavalo - carroça

8. Escolha um meio de transporte que você usa para ir à escola, ao centro da cidade, de um bairro para outro ou para passear e faça o desenho dele.

ATIVIDADE 31

9. Pesquise e anote quais eram os meios de transporte usados em outras épocas. Cole figuras se possível.

ESTADO DE MATO GROSSO DO SUL
MUNICÍPIO DE LADÁRIO
SECRETARIA MUNICIPAL DE EDUCAÇÃO
ESCOLA MUNICIPAL EDUARDO MALHADO

ATIVIDADE 32

Lembre que:

- Trânsito é o movimento de pedestres e de veículos nas ruas, avenidas e estradas.
- Para organizar o trânsito e dar segurança aos pedestres, existem:
  - guarda de trânsito: organiza o movimento de veículos e pedestres.
  - as faixas de pedestres: estão indicadas com listras brancas pintadas no chão das ruas e estradas. Os veículos devem parar antes da faixa e os pedestres devem atravessar onde elas existirem.
  - semáforo, sinaleiro ou farol: controla a passagem de veículos e pedestres.
  - sinais de trânsito: orientam os motoristas na direção de seus veículos.



ATIVIDADE 32

10. O que é trânsito?

11. Cite três cuidados que devemos ter para evitar acidentes.

12. O que você sabe sobre as leis de trânsito?

ESTADO DE MATO GROSSO DO SUL
MUNICÍPIO DE LADÁRIO
SECRETARIA MUNICIPAL DE EDUCAÇÃO
ESCOLA MUNICIPAL EDUARDO MALHADO

ATIVIDADE 33

13. Pesquise e escreva o que cada uma destas placas de trânsito indica:

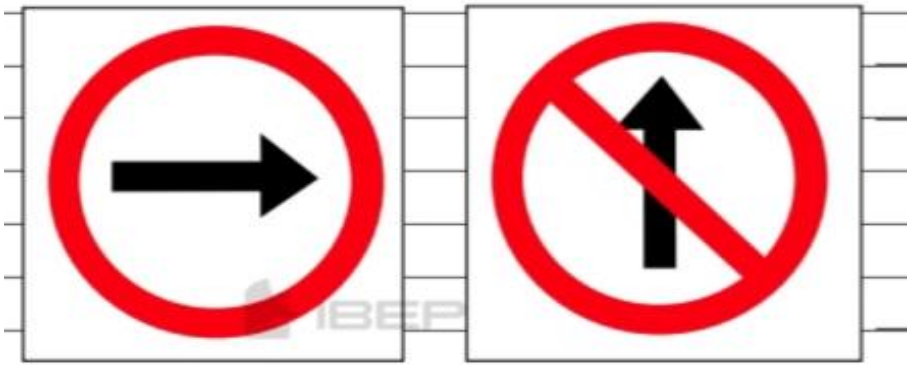



ATIVIDADE 34

Agora faça uma pesquisa por onde você passa diariamente e escreva os sinais de trânsito que você encontra pelo caminho.

14. Quais são as pessoas da sua família que dirigem? Elas costumam obedecer aos sinais de trânsito?

ESTADO DE MATO GROSSO DO SUL
MUNICÍPIO DE LADÁRIO
SECRETARIA MUNICIPAL DE EDUCAÇÃO
ESCOLA MUNICIPAL EDUARDO MALHADO

ATIVIDADE 35

15. Observe o trânsito em frente à sua escola, na hora da entrada ou da saída. Os motoristas obedecem à sinalização? Os pedestres obedecem às regras de trânsito? Escreva o que você viu de certo e de errado.

a) Certo

b) Errado

16. Por que as pessoas precisam usar cinto de segurança nos automóveis?

ATIVIDADE 36

17. Você sabe para que servem as faixas exclusivas para pedestres?

18. O que deve fazer um guarda de trânsito?