ESCOLA MUNICIPAL EDUARDO MALHADO.

LADÁRIO MS, _____ DE JULHO DE 2020.

ALUNO(A)_____ 3° ANO_____.

PROF. SUELISY AULAS:02

CIÊNCIAS (REVISÃO)- ATIVIDADE AVALIATIVA

PERÍODO: 16/07 a 31/07/2020.

BIBLIOGRAFIA: https://pt.slideshare.net/

OBSERVE A IMAGEM.



1) QUAL DOS SERES APRESENTADOS NA IMAGEM NÃO É UM SER VIVO?

(A) Crianças
(B) Árvore
(C) Rocha
(D) Pássaro

2)LEIA AS FRASES E ESCREVA (V) PARA VERDADEIRO E (F) PARA FALSO.

( ) Os olhos não são os principais órgãos da visão.
( ) As pálpebras protegem os olhos da luz excessiva e evitam a entrada de alguns objetos.
( ) Os cílios são pelos localizados nas pálpebras.
( ) Os pálpebras são pelos localizados no rosto.

Marque a sequência correta.

(A) F, V, F,F (B) F,V,V,V
(C) V, V, V, V (D) F,V,V,F

3) O SER HUMANO E OS OUTROS ANIMAIS PERCEBEM O AMBIENTE EM QUE ESTÃO POR MEIO DOS SENTIDOS. ESSES SENTIDOS QUE O SER HUMANO E OS OUTROS ANIMAIS POSSUEM SÃO:

(A) a visão, a audição, o olfato, o paladar e o tato.
(B) a articulação, o esqueleto, o olfato e as pernas.
(C) os pés, a visão, as pernas e o cérebro.
(D) a visão, o esqueleto, o paladar.

4) PARA MANTERMOS NOSSO CORPO LIMPO E SAUDÁVEL, PRECISAMOS PÔR EM PRÁTICA DIARIAMENTE ALGUNS HÁBITOS DE HIGIENE.
MARQUE COM UM X COMO PODEMOS MANTER NOSSO CORPO LIMPO.



(A) Dormir sem escovar os dentes.
(B) cortar e limpar as unhas.
(C) Não escovar os dentes após as refeições.
(D) Colocar objetos sujos na boca.

5) CIRCULE O NOME DO ÓRGÃO DO SENTIDO UTILIZADO POR ARTHUR PARA SENTIR O CHEIRO DOS BOLINHOS DE PEIXE DE SUA AVÓ.

(A) ( )Paladar
(B) ( )Olfato
(C) ( ) Visão
(D) ( ) Audição.

6) MARQUE O NOME DO AMBIENTE DA CASA EM QUE FICA O FOGÃO.

(A) ( )Sala
(B) ( )Quarto
(C)( ) Cozinha
(D) ( ) Varanda

7)PARA QUE O SER HUMANO CRESÇA E SE DESENVOLVA ADEQUADAMENTE É NECESSÁRIO:



(A) ( )Se alimentar somente de carne.
(B) ( ) Que tenha uma alimentação nutritiva e variada.
(C) ( ) Se alimentar somente de frutas.
(D) ( ) Se alimentar só de refrigerante.

8) OS ALIMENTOS SÃO NECESSÁRIOS PARA QUE POSSAMOS SOBREVIVER E REALIZAR DIVERSAS ATIVIDADES, COMO:

(A)( ) Comer alimentos gordurosos.
(B)( ) Somente estudar.
(C)( ) Estudar, trabalhar, brincar e praticar exercícios físicos.
(D) ( ) Tomar somente refrigerante

ESCOLA MUNICIPAL EDUARDO MALHADO.

LADÁRIO MS, _____ DE JULHO DE 2020.

ALUNO(A)_____ 3° ANO_____.

PROF. SUELISY AULAS:02

CIÊNCIAS- ATIVIDADE AVALIATIVA

PERÍODO: 16/07 a 31/07/2020.

BIBLIOGRAFIA: http:// www.slideshare.net/blogdatiaiolanda/

9- Assinale a alternativa correta.

●O que posso fazer quando estiver na fase adulta?

(A) arrumar os brinquedos (B) trabalhar fora
(C) brincar (D) usar frauda

10 - Dentre os brinquedos abaixo, qual é o seu favorito?

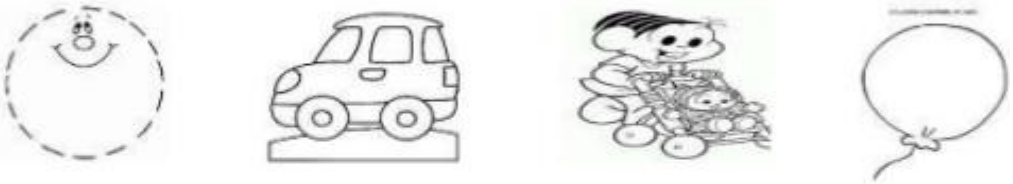

11 -O que é solo?
(A) É uma comida.
(B) É um jogo.
(C) É uma camada superficial da crosta terrestre
(D) É um pensamento.

12 -O que o Sol fornece para o nosso planeta?

(A) Água (B) Luz e calor (C) Energia (D) Escuridão

13 - Juliana estava brincando com um carrinho no quintal de sua casa no final da tarde. Ela resolveu parar de brincar,mas esqueceu de guardar o carrinho. À noite lembrou-se de que seu carinho tinha ficado no quintal. Por que ela não achou o carrinho?
(A) Porque não procurou.
(B) Porque não havia luz.
(C) Porque ela tinha guardado.
(D) Porque o carrinho não existia.

14 -Na situação de Juliana por que a luz era importante?
(A) Porque ela ilumina o ambiente.
(B) Porque ela trás escuridão para o ambiente.
(C) Porque ela traz alegria para o ambiente.
(D) Porque ela não está no ambiente.

15 - O que a Mônica e o Cebolinha estão fazendo no desenho abaixo?



(A) Brincando
(B) Plantando uma planta.
(C) Jogando lixo.
(D) Andando de bicicleta

Observe o Sistema Solar abaixo e escreva o nome de cada imagem utilizando as palavras do quadro.

Lua - Sol - Terra

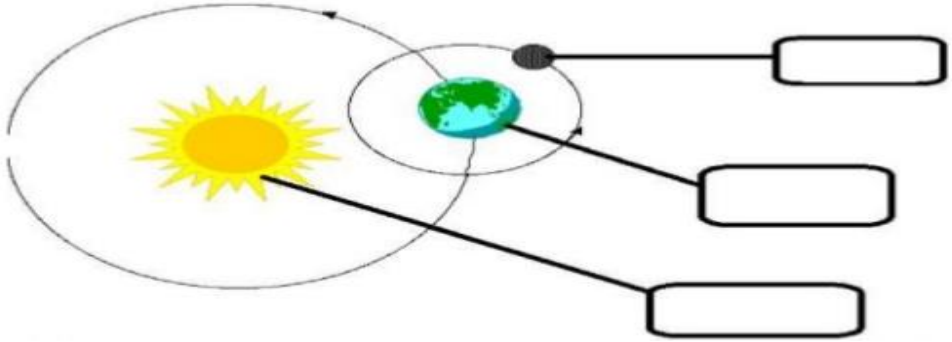

- Sobre a Lua, complete corretamente as frases com as palavras dos parênteses.

a) A Lua é o único_____natural da Terra. (satélite – planeta)

b) Só enxergamos a Lua porque ela é _____ pelo Sol. (aquecida – iluminada)

c) A Lua gira ao redor_____. (da Terra – do Sol)

ESCOLA MUNICIPAL EDUARDO MALHADO.

LADÁRIO MS, _____ DE JULHO DE 2020.

ALUNO(A)_____ 3° ANO_____.

PROF. SUELISY AULAS:02

CIÊNCIAS- SAÚDE HUMANA.

PERÍODO: 16/07 a 31/07/2020. HABILIDADE- MS(E.F03CI09)

BIBLIOGRAFIA: https://pt.slideshare.net/kchies/

- Leia o texto e faça o que se pede.

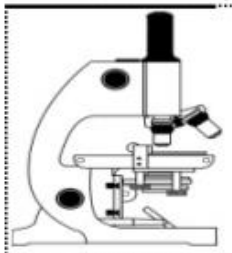

Antonie Van Leeuwenhoek, um cientista bastante curioso, passava seu tempo livre estudando lentes de vidro e construindo microscópios. Um dia, ele observou ao microscópio resíduos retirados dos seus dentes. Que surpresa! Minúsculos seres vivos foram observados pelo pesquisador. E eles estavam por toda parte: na poeira, no solo e até na água!

(Coleção Pitanguá - Ciências – – pág. 120)

a) A invenção do microscópio é considerada um avanço tecnológico. Como você explicaria o que é tecnologia? Pinte o quadrinho da resposta correta.

☐ Tecnologia é o uso dos conhecimentos científicos para melhorar e facilitar a vida humana.

☐ A tecnologia é uma máquina que serve para criar algo.

b) De acordo com o texto, podemos afirmar que o microscópio é um aparelho utilizado para ampliar imagens de seres e objetos invisíveis a olho nu.

Pensando nisso, marque com (X) em que tipo de tecnologia podemos classificar o microscópio.

( ) Tecnologia da saúde.
( ) Tecnologia dos alimentos.
( ) Tecnologia da comunicação.

c) Qual a importância do microscópio?

_____
_____

- Pense e responda.

Por que devemos planejar o uso das tecnologias?

_____
_____

➢ **Leia o texto e responda as questões.**

VERMINOSES

Verminoses são doenças causadas por "bichinhos" parecidos com minhocas e chamados vermes. Tanto as pessoas como os animais podem ser atacados pelas verminoses. Assim o boi, o cavalo, o cabrito e até mesmo seu cachorrinho ou seu gatinho de estimação podem sofrer de verminose.

Os vermes, todos inimigos de nossa saúde, se desenvolvem no interior de nosso corpo, especialmente nos intestinos (mas podem se instalar em outros órgãos – fígado, pulmões, cérebro). Caso não sejam combatidos, podem causar sérios problemas de saúde, e, às vezes, até a morte. As pessoas com verminoses têm deficiência de crescimento, dificuldade de concentração e de aprendizado, sonolência e cansaço.



A-) As doenças causadas por vermes são as:

1-( ) cataporas 2-( ) verminoses 3-( ) gripes

B-) Como ficam as pessoas com verminose?

_____
_____

C-) Marque com X quais os cuidados que devemos ter para evitar as verminoses?

( ) Andar descalço.
( ) Beber sempre água filtrada ou fervida.
( ) Lavar bem os alimentos.
( ) Comer carne crua.



D-) Os vermes se desenvolvem no interior de nosso corpo, especialmente no _____ mas podem se instalar em outros órgão _____, _____, _____.