ESCOLA MUNICIPAL EDUARDO MALHADO

LADÁRIO_____ de _____ de _____

Aluno (a): _____3º “A”

Professora: Solange da Silva

COMPETÊNCIA CURRICULAR: Língua Portuguesa Aulas 2 (segunda feira)
CONTEÚDOS/OBJETOS DE CONHECIMENTO:
Gênero textual: receita - (MS.EF02LI00.n.06)
www.escolanova.com.br
1) Leia o texto e responda as perguntas:

Bolo de fubá cremoso

Ingredientes

3 ovos
2 colheres (sopa) de manteiga
1 pacote de queijo ralado
4 xícaras de leite
½ xícara de fubá
3 colheres (sopa) de farinha de trigo
1 colher (sopa) de fermento em pó
2 ½ xícaras de açúcar

Preparo

Bata tudo no liquidificador.
Despeje em uma fôrma de bolo untada com manteiga e farinha.
Asse em forno médio por 35 minutos.
Espere esfriar e retire da fôrma. Coma suspirando.

MURRAY, Roseana. Poemas e comidinhas. São Paulo: Paulus, 2008.

1) Responda.

a) Qual é o título do texto?
R: _____

b) De que fala o texto?
R:
_____

2) Complete o trecho de acordo com o texto.
Bata tudo no
_____

Despeje em uma fôrma de bolo com manteiga e _____
_____
Asse em forno por _____
_____

Espere esfriar e retire da ____
_____e_____

3) Depois de assado, como você acha que ficou o bolo de fubá cremoso? Ilustre-o.

4) Assinale corretamente.

a. No bolo de fubá cremoso, foram usados:

( ) 2 ovos ( ) 4 ovos ( ) 3 ovos

b. Também foram usadas:

( ) 2 ½ xícaras de açúcar
( ) 2 xícaras de açúcar
( ) 2 ½ colheres de açúcar
( ) 2 colheres de açúcar

c. Onde todos os ingredientes foram batidos?

( ) Na batedeira
( ) Na mão
( )No liquidificador

COMPONETE CURRICULAR: Matemática aula 1 (segunda feira)
CONTEÚDOS/OBJETOS DE CONHECIMENTO: Formas geométricas
Figuras geométricas planas - (MS.EF01MA14.s.16)
Caderno do futuro/ matemática 3º ano

1) Contorne cada grupo de objetos que tem a mesma forma.



2) Escreva o nome do sólido geométrico com o qual cada figura abaixo se parece:

 _____	 _____	 _____
 _____	 _____	 _____
 _____	 _____	 _____

ESCOLA MNICIPAL EDUARDO MALHADO

Ladário _____ de _____ de _____

Aluno (a): _____3º “A”

Professora: Solange da Silva

COMPONETE CURRICULAR: Matemática aula 2 (terça feira)

CONTEÚDOS/OBJETOS DE CONHECIMENTO:

Figuras geométricas planas - (MS.EF01MA14.s.16)

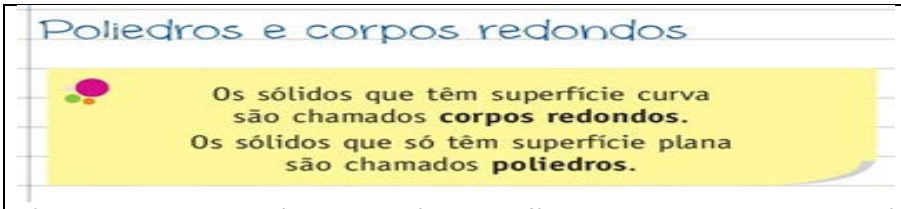

3) Pinte de <u>verde</u> os sólidos que têm superfícies planas e de <u>azul</u> os que têm superfície curva.

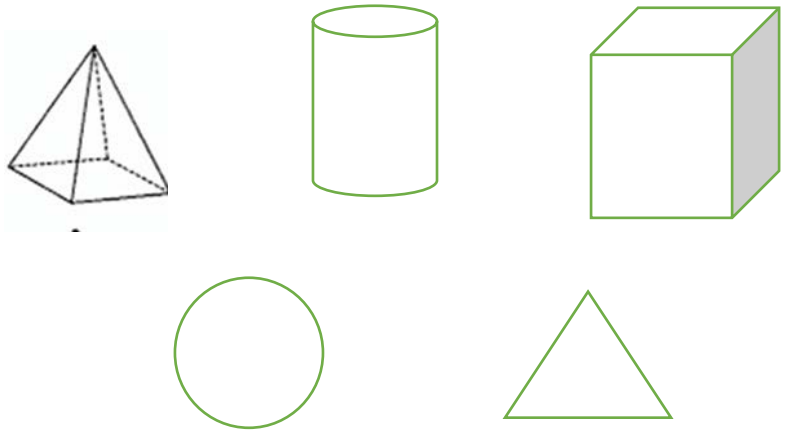

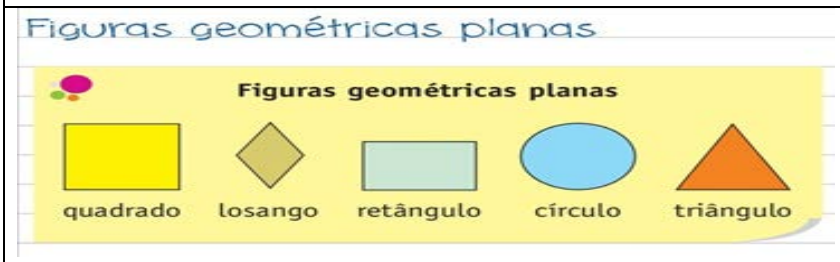

4)Pinte cada figura e complete



Números de lado _____
Nome _____

Números de lado _____
Nome _____

Números de lado _____
Nome _____

Números de lado _____
Nome _____

ESCOLA MUNICIPAL EDUARDO MALHADO

Ladário _____ de _____ de _____

Aluno (a): _____ 3º “A”

Professora: Solange da Silva

COMPONETE CURRICULAR: Língua Portuguesa aula 2 (quarta feira)

CONTEÚDOS/OBJETOS DE CONHECIMENTO:

Construção do sistema alfabético - MS.EF02LP02.s.02)

* vamos trabalhar com U e L / O e U

1) Complete as palavras com a letra U ou L :

a) vo__tar b) ca__do

c) a__ finete d) a_ta

e) a__dição f) as__dade

g) fina__ h) ca__sa

i) ca__da j) as__to

2) Vamos colocar a letra O ou U para completar a palavra:

a) ch__visc__ b) m__leca

c) g__ela d) sabi___

e) táb__a f) p__blic___

g) ma__a h) emb__tir

3) Separe as sílabas das palavras:

a)cauteloso = _____

c)milharal = _____

d)caldeirão = _____

e)mingau = _____

f)avental = _____

g)automóvel = _____

4) Substitua o número pelas sílabas e forme as palavras correspondentes:

1 bo	2 ei	3 chu	4 la	5 ro	6 co n	7 cha	8 po
9 vei	10 ca	11 tu	12 ra	13 Lir	14 mu	15 lei	16ju

a) 1 + 4 + 7 – _____

b) 3 + 9 + 5 – _____

c) 10 + 8 + 2 + 12- _____

d) 10 + 16 – _____

e) 6 + 7 – _____

f) 15 + 11 + 12 – _____

g) 8 + 13 – _____

h) 14 + 4 – _____

i) 11 + 1 – _____

5) Escreva uma frase afirmativa e uma negativa para cada palavra abaixo:

a) palhaço - _____

_____

b) tatu - _____

_____

COMPONETE CURRICULAR: Matemática aula 1 (quarta feira)

CONTEÚDOS/OBJETOS DE CONHECIMENTO:

Figuras geométricas planas - (MS.EF01MA14.s.16)

1 crie um desenho usando as figuras geométricas abaixo :

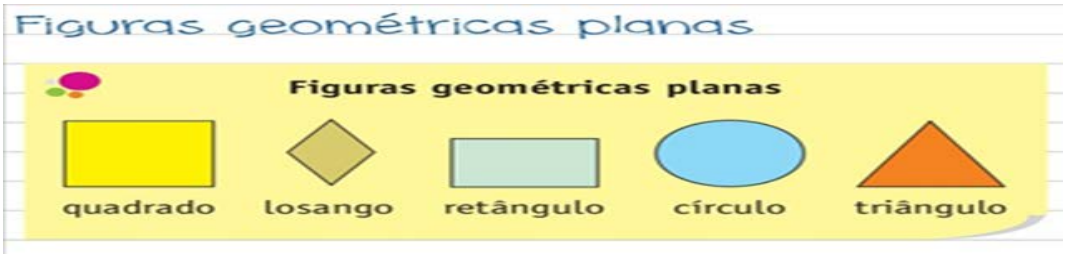

2) Pesquise recorte e cole objetos que tem o mesmo formato das figuras geométricas abaixo:

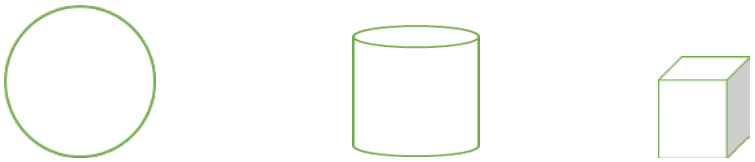

ESCOLA MUNICIPAL EDUARDO MALHADO

Ladário _____ de _____ de _____

Aluno(a): _____3º “A”

Professora: Solange da Silva

COMPONETE CURRICULAR: Língua Portuguesa aula 2 (quarta feira)

CONTEÚDOS/OBJETOS DE CONHECIMENTO:

Construção do sistema alfabético - MS.EF02LP02.s.02)

Vamos trabalhar com ga gue gui go gu

1) Complete as palavras com ga, go,gu — gue, gui e depois copie-as:

a) che__ da b) fran___ c) jo__ nho d) fo__ te

_____ _____ _____ _____

e) fi___ f) a__ lha g) fo__ ira h) _____ijo

_____ _____ _____ _____

2) Escreva o nome das figuras abaixo e separa as silabas.

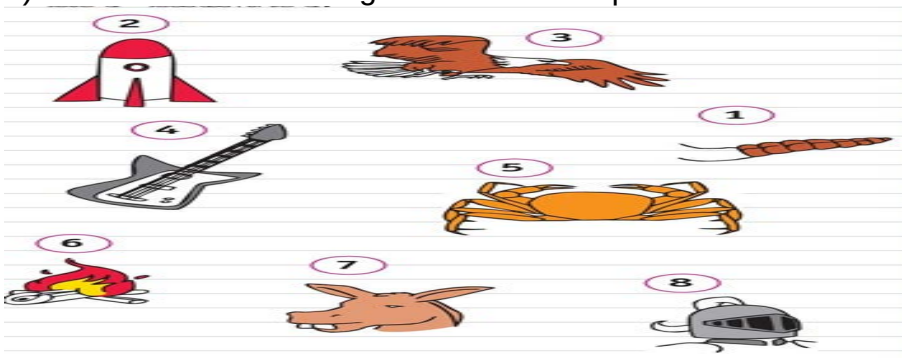

1_____, _____

2_____, _____

3_____, _____

4_____, _____

5_____, _____

6_____, _____

7_____, _____

8_____, _____

2) Encontre os nomes do desenho circule e escreva em ordem alfabética.

CAÇA-PALAVRAS



S	T	E	F	O	G	O	O	E	T	A	O
R	F	O	G	Á	O	O	Q	A	F	I	O
E	L	G	A	T	G	G	R	V	O	R	H
G	M	E	C	A	N	O	A	I	V	O	A
A	S	L	A	G	U	A	T	R	P	A	U
D	Ó	C	P	N	R	H	V	E	T	Z	C
G	A	F	A	U	L	M	O	T	O	R	X
R	C	O	G	R	G	G	E	L	I	D	N
V	B	M	A	G	A	A	A	R	V	J	O
G	A	I	O	A	O	O	G	A	O	X	E
E	S	P	A	R	A	A	R	U	G	O	B

_____

_____

_____

COMPONETE CURRICULAR: Matemática aula 1 (quarta feira)

CONTEÚDOS/OBJETOS DE CONHECIMENTO:

Figuras geométricas planas - (MS.EF01MA14.s.16)

3) Pinte a paisagem assim: os triângulos de vermelho, os círculos de amarelo, os quadrados de azul e os retângulos de laranja. Complete a legenda e indique as quantidades das formas.



Legenda:









- Agora responda:

a) Quantos triângulos você pintou ?

_____

b) Quantos retângulos ? _____

c) Quantos círculos ? _____

d) Quantos quadrados? _____

e) Qual é o total de figuras que você pintou?

_____