ESTADO DE MATO GROSSO DO SUL
MUNICÍPIO DE LADÁRIO
SECRETARIA MUNICIPAL DE EDUCAÇÃO
ESCOLA MUNICIPAL EDUARDO MALHADO

ESCOLA: Municipal Eduardo Malhado
PROFESSOR (A): Stéffanie Mayara S. Fleuri **TURMA (S):** 3º ano "B" **ENSINO FUNDAMENTAL:** I **TURNO:** Vespertino **ALUNO (A):**
COMPONENTE CURRICULAR: Matemática **PERÍODO:** 01/07/2020 A 15/07/2020 **QUANTIDADE DE AULAS:**

Objeto de conhecimento: Multiplicação
Habilidade: MS.EF03MA03.s.03

OBSERVE AS RODAS A SEGUIR. FAÇA OS CÁLCULOS USANDO A MULTIPLICAÇÃO E COMPLETE COM OS NÚMEROS PEDIDOS.

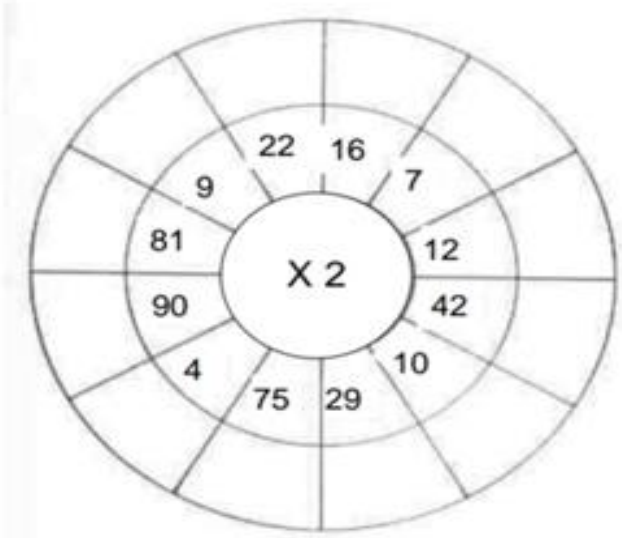

Disponível em Disponível em < https://br.pinterest.com/> Acessado dia 29 de junho de 2020.

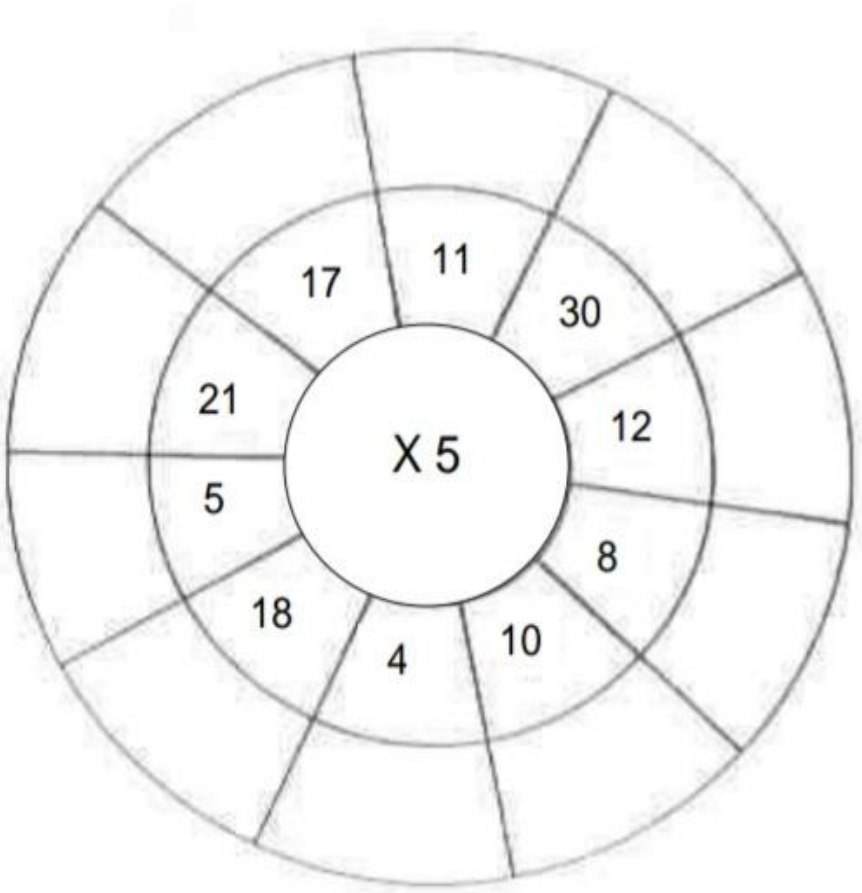

Disponível em Disponível em < https://br.pinterest.com/> Acessado dia 29 de junho de 2020.

ESTADO DE MATO GROSSO DO SUL
MUNICÍPIO DE LADÁRIO
SECRETARIA MUNICIPAL DE EDUCAÇÃO
ESCOLA MUNICIPAL EDUARDO MALHADO

Objeto de conhecimento: Raciocínio Lógico
Habilidade: MS.EF03MA05.s.05

VEJA COMO OS COLEGAS DE JUCA SENTARAM EM TORNO DE UMA MESA CIRCULAR:



- JUCA FICOU BEM EM FRENTE DE NINA.
- TIAGO FICOU IMEDIATAMENTE A DIREITA DE NINA.
- JOÃO, QUE ESTAVA ENTRE JUCA E CARLOS, FICOU BEM EM FRENTE DE TIAGO.
- GIRANDO EM TORNO DA MESA NO SENTIDO HORÁRIO (DOS PONTEIROS DO RELÓGIO), TEM O JUCA, DEPOIS A NINA E EM SEGUIDA A MARIA.
- PEDRO E NINA FICARAM UM DE FRENTE PARA O OUTRO

15) COMO SÃO OS ALUNOS? DÊ CARACTERÍSTICAS QUE POSSAM IDENTIFICÁ-LOS.

ALUNO	CARACTERÍSTICA

Disponível em Disponível em < https://br.pinterest.com/> Acessado dia 29 de junho de 2020.

ESTADO DE MATO GROSSO DO SUL
MUNICÍPIO DE LADÁRIO
SECRETARIA MUNICIPAL DE EDUCAÇÃO
ESCOLA MUNICIPAL EDUARDO MALHADO

Objeto de conhecimento: Situação problema
Habilidade: MS.EF03MA05.s.05

LARISSA TEM UMA LOJA QUE VENDE ENFEITES PARA O DIA DA PÁTRIA.

VEJA AS VENDAS DA SEMANA:

TIPO:	SEGUNDA	TERÇA	QUARTA	QUINTA	SEXTA
BANDEIROLAS	224	347	287	339	465.
BALÕES	122	184	298	275	371

a-QUANTOS ENFEITES FORAM VENDIDOS NA SEGUNDA-FEIRA?_____

b -QUANTAS BANDEIROLAS FORAM VENDIDAS NA SEMANA?_____

c-QUAL O DIA DA SEMANA QUE FOI VENDIDO MAIS ENFEITES?_____QUANTOS?_____

d- QUAL O DIA DA SEMANA QUE FOI VENDIDO MENOS ENFEITES?_____ QUANTOS?_____

f-QUANTAS BANDEIRINHAS FORAM VENDIDAS NA SEXTA-FEIRA?_____

g-QUAL FOI O ENFEITE MAIS VENDIDO?_____ QUANTOS?_____

h-QUAL FOI O ENFEITE MENOS VENDIDO? _____ _____ QUANTOS?_____

OBSERVE O PAINEL DESENHADO ABAIXO.

450

O NÚMERO REPRESENTADO NELE PODE TAMBÉM SER ESCRITO COMO:

a) ( ) QUATRO CENTENAS E CINCO DEZENAS
b) ( ) QUATRO DEZENAS E CINCO UNIDADES
c) ( ) QUATRO CENTENAS E ZERO UNIDADES
d) ( ) QUATRO CENTENAS E CINCO UNIDADES

OBSERVE OS ANÚNCIOS E RESPONDA

LOJAS MACAVI
PROMOÇÃO:
Por:
R$ 1.399,00



LOJAS AMERICANAS
NOTEBOOK
R$ 1.099,00



ELETRO MÓVEIS
NOTEBOOK
A PARTIR DE:
R$ 1.320,00



EXECUTE
NOTEBOOK
POR:
R$ 1.229,00



Em qual das lojas o Notebook custa mais barato?

a) ( ) Execute
b) ( ) Eletro Móveis
c) ( ) Lojas Americanas
d) ( ) Lojas Macavi

Em qual delas ele custa mais caro?

a) ( ) Lojas Macavi
b) ( ) Lojas Americanas
c) ( ) Eletro Móveis
d) ( ) Execute

Disponível em Disponível em < https://br.pinterest.com/> Acessado dia 29 de junho de 2020.

ESTADO DE MATO GROSSO DO SUL
MUNICÍPIO DE LADÁRIO
SECRETARIA MUNICIPAL DE EDUCAÇÃO
ESCOLA MUNICIPAL EDUARDO MALHADO

Objeto de conhecimento: Multiplicação
Habilidade: MS.EF03MA03.s.03

REVISÃO: RESOLVA AS MULTIPLICAÇÕES:

145 X 2	134 X 2	170 X 2	185 X 2	155 X 2
145 X 3	132 X 3	147 X 3	156 X 3	128 X 3
140 X 5	45 X 4	109 X 4	136 X 4	198 X 4
61 X 5	108 X 5	123 X 5	90 X 6	145 X 6

Disponível em Disponível em < https://br.pinterest.com/> Acessado dia 29 de junho de 2020.

Objeto de conhecimento: Situação problema
Habilidade: MS.EF03MA05.s.05

FUI ATÉ LOJA E COMPREI ALGUNS PRESENTES. CALCULE CORRETAMENTE O TROCO QUE RECEBI POR CADA COMPRA FEITA.

Preço	Paguei com	Recebi de troco
 R$ 25,00	R$ 50,00	( ) R$ 15,00 ( ) R$ 75,00 ( ) R$ 3,00 ( ) R$ 25,00
 R$ 68,00	R$ 80,00	( ) R$ 22,00 ( ) R$ 13,00 ( ) R$ 148,00 ( ) R$ 12,00
 R$ 19,00	R$ 20,00	( ) R$ 1,00 ( ) R$ 11,00 ( ) R$ 39,00 ( ) R$ 2,00
 R$ 86,00	R$ 100,00	( ) R$ 186,00 ( ) R$ 14,00 ( ) R$ 86,00 ( ) R$ 26,00

Disponível em Disponível em < https://br.pinterest.com/> Acessado dia 29 de junho de 2020.

ESTADO DE MATO GROSSO DO SUL
MUNICÍPIO DE LADÁRIO
SECRETARIA MUNICIPAL DE EDUCAÇÃO
ESCOLA MUNICIPAL EDUARDO MALHADO

ESCOLA: Municipal Eduardo Malhado
PROFESSOR (A): Stéffanie Mayara S. Fleuri **TURMA (S):** 3º ano "B" **ENSINO FUNDAMENTAL:** I **TURNO:** Vespertino **ALUNO (A):**
COMPONENTE CURRICULAR: Língua Portuguesa **PERÍODO:** 01/07/2020 A 15/07/2020 **QUANTIDADE DE AULAS:**

Objeto de conhecimento: Classificação das palavras/ Interpretação de texto
Habilidade: MS.EF03LP05.s.05

CLASSIFICAÇÃO DAS PALAVRAS

⇨ Sílabas – Atividade oral e escrita (página 26 e 27)

- Leia, copie e responda no caderno as questões do livro nº: 1 ao 5

INTERPRETAÇÃO DE TEXTO

⇨ Leitura: história em versos (página 32)

- Leia o texto: Orquestra

⇨ Interpretação do texto (página 33, 34 e 35)

- Leia, copie e responda no caderno as questões do livro nº: 1 ao 9

Componente Curricular: Geografia
Período: 01/07/2020 a 15/07/2020
Quantidade de aulas:

Objeto de conhecimento: O bairro
Habilidade: MS.EF03GE01.s.01

⇨ O BAIRRO ONDE EU MORO (página 28)

- Leia o trecho do poema: Amigos do peito e em seguida copie e responda no caderno as questões do livro nº 1,2 e 3

Componente Curricular: História
Período: 01/07/2020 a 15/07/2020
Quantidade de aulas:

Objeto de conhecimento: Grupos sociais
Habilidade: **EF02HI02**

⇨ VIVER EM GRUPO (página 90 e 91)

- Leia o texto: As diferentes comunidades e em seguida copie e responda no caderno as questões do livro nº 1,2 e 3