ESTADO DE MATO GROSSO DO SUL
MUNICÍPIO DE LADÁRIO
SECRETARIA MUNICIPAL DE EDUCAÇÃO
ESCOLA MUNICIPAL EDUARDO MALHADO

ESCOLA MUNICIPAL EDUARDO MALHADO	PERÍODO: 03 /11 – 03 /11/2020.
PROFESSORA: SUELISY KNAUF	TURMA: 3º ANO
ENSINO FUNDAMENTAL I	TURNO:
COMPONENTE CURRICULAR: CIÊNCAS	
ALUNO (A):	

ATIVIDADE AVALIATIVA DE CIÊNCIAS

1. Os seres vivos dependem de outros componentes do meio ambiente para viver. Dois desses componentes são
(A) areia e tecido.
(B) asfalto e luz.
(C) ar e tecido.
(D) ar e água.

---

2. Sobre a presença de água no corpo dos seres vivos, podemos afirmar que
(A) só o ser humano possui água no interior do corpo.
(B) todos os seres vivos têm água em seus corpos.
(C) só os vegetais têm água em seus corpos.
(D) nenhum ser vivo possui água no interior do corpo.

3.Os seres vivos dependem de componentes não vivos. Marque a figura abaixo que melhor representa esta dependência:

(A) 

(C) 

(B) 

(D) 

ESTADO DE MATO GROSSO DO SUL
MUNICÍPIO DE LADÁRIO
SECRETARIA MUNICIPAL DE EDUCAÇÃO
ESCOLA MUNICIPAL EDUARDO MALHADO

4. O ser humano pode prejudicar o ambiente. A figura abaixo representa





(A) o uso de agrotóxicos.
(B) a queimada.
(C) o desmatamento.
(D) o acúmulo de lixo.

---

5. Podemos perceber, na figura abaixo, a praia poluída por



(A) inseticida.
(B) agrotóxico.
(C) lixo.
(D) pneus.

6. De acordo com a figura abaixo, podemos observar o ciclo



(A) da água.
(B) da corrente de ar.
(C) do vento.
(D) da corrente marítima.

ESTADO DE MATO GROSSO DO SUL
MUNICÍPIO DE LADÁRIO
SECRETARIA MUNICIPAL DE EDUCAÇÃO
ESCOLA MUNICIPAL EDUARDO MALHADO

7. Pedro fez uma experiência com uma planta. Observou que o saco plástico ficou cheio de gotinhas de água. Isto aconteceu porque a planta transpira e libera

(A) a terra para o solo.
(B) a água para o ar.
(C) as raízes para a terra.
(D) as folhas para o sol.



Credit: Ming kei College, Hong Kong

8. A água muda de estado líquido para sólido, de acordo com

(A) a força do vento.
(B) a temperatura.
(C) a intensidade da chuva.
(D) a influência da lua.

---

9. Várias espécies de seres vivos estão em risco de extinção. Marque a figura que representa uma espécie em risco de extinção:


Gato
(A)


Cachorro
(B)


Minhoca
(C)


Mico leão dourado
(D)

---

10. As figuras abaixo representam água no estado


(1)


(2)


(3)

(A) 1- líquido, 2 - sólido e 3 - gasoso.
(B) 1- líquido, 2 - gasoso e 3 - sólido.
(C) 1- sólido, 2 - líquido e 3 - gasoso.
(D) 1- gasoso, 2 - sólido e 3 - líquido.

ESTADO DE MATO GROSSO DO SUL
MUNICÍPIO DE LADÁRIO
SECRETARIA MUNICIPAL DE EDUCAÇÃO
ESCOLA MUNICIPAL EDUARDO MALHADO

ESCOLA MUNICIPAL EDUARDO MALHADO	PERÍODO: 03 /11 – 03 /11/2020.
PROFESSORA: SUELISY KNAUF	TURMA: 3º ANO
ENSINO FUNDAMENTAL I	TURNO:
COMPONENTE CURRICULAR: CIÊNCAS	
ALUNO (A):	

ATIVIDADE AVALIATIVA

O QUE É O NOVO CORONAVÍRUS 2019?

O novo coronavírus 2019 (2019-nCoV) é um novo vírus que causa doenças respiratórias em humanos e pode se espalhar de pessoa para pessoa.
Este vírus foi identificado pela primeira vez durante uma investigação sobre um surto de doença respiratória em Wuhan, China.
https://cura.com.br/orientacoes-sobre-novo-coronavirus-2019-ncov-e-suas-possiveis-implicacoes/
Conforme o texto e outras informações obtidas por meio da mídia, responda a questão com as suas palavras:

Quais os cuidados que você e sua família estão tomando com relação à pandemia (CORONAVÍRUS- COVID-19)?

ESTADO DE MATO GROSSO DO SUL
MUNICÍPIO DE LADÁRIO
SECRETARIA MUNICIPAL DE EDUCAÇÃO
ESCOLA MUNICIPAL EDUARDO MALHADO

ESCOLA MUNICIPAL EDUARDO MALHADO	PERÍODO: 03 /11 – 03 /11/2020.
PROFESSORA: SUELISY KNAUF	TURMA: 3º ANO
ENSINO FUNDAMENTAL I	TURNO:
COMPONENTE CURRICULAR: CIÊNCAS	
ALUNO (A):	

VAMOS FALAR UM POUCO SOBRE O CORONAVÍRUS.



AS PALAVRAS ABAIXO ESTÃO EMBARRALHADAS, VAMOS ESCREVE-LAS CORRETAMENTE.



ESTADO DE MATO GROSSO DO SUL
MUNICÍPIO DE LADÁRIO
SECRETARIA MUNICIPAL DE EDUCAÇÃO
ESCOLA MUNICIPAL EDUARDO MALHADO

ESCOLA MUNICIPAL EDUARDO MALHADO	PERÍODO: 03 /11 – 03 /11/2020.
PROFESSORA: SUELISY KNAUF	TURMA: 3º ANO
ENSINO FUNDAMENTAL I	TURNO:
COMPONENTE CURRICULAR: CIÊNCAS -REVISÃO	
ALUNO (A):	

1) O cachorro, o gato e o papagaio são animais vertebrados, porque possuem:

(A) Pelos. (B) patas. (C) coluna vertebral. (D) penas.

2) Marque a opção que contém apenas animais vertebrados:

(A), jacaré, minhoca e formiga.
(B) coelho, lombriga e cupim.
(C) cachorro, galinha, minhoca.
(D) Vaca, elefante, onça.

3) **Correlacione** os animais abaixo ao grupo a que pertencem.

De acordo com algumas características, os vertebrados são classificados em diferentes grupos.

(A) andorinha (B) macaco (C) perereca (D) jacaré (E) tubarão

( ) Mamífero ( ) Ave ( ) Peixe ( ) Réptil ( ) Anfíbio

4) Enumere:

1-Aves ( ) Nascem de ovos, rastejam e o corpo é coberto de escama placas duras.
2-Mamíferos ( ) Possuem o corpo coberto de escamas e vivem na água.
3-Anfíbios ( ) Iniciam a vida na água e depois de adultos vivem na terra.
4-Répteis ( ) Possuem asas e pernas, têm bico . Voam e põem ovos.
5-Peixes ( ) Desenvolvem-se dentro da mãe e mamam.

5) Complete as frases:
a- Animais vertebrados são os animais que possuem a _____

b- Os animais que não tem a coluna vertebral são chamados de _____

c- A _____ é um animal invertebrado que vive debaixo da terra.

6) Leia com atenção e marque **V** se a frase for verdadeira e **F** se a frase for falsa:

( ) Animais invertebrados são aqueles que não tem a coluna vertebral.
( ) Alguns vertebrados podem viver dentro do corpo do ser humano, como por exemplo, as lombrigas.
( ) Os invertebrados podem ser divididos em terrestres e aquáticos.
( ) Os vertebrados podem ser classificados em: mamíferos, aves, peixes, anfíbios e répteis.
( ) Os animais que possuem a coluna vertebral são chamados de invertebrados.



- Leia a frase a seguir e risque a figura que melhor a representa.

"A maioria dos vegetais consegue se desenvolver, pois é um solo fértil".



Horta



Dunas

ESTADO DE MATO GROSSO DO SUL
MUNICÍPIO DE LADÁRIO
SECRETARIA MUNICIPAL DE EDUCAÇÃO
ESCOLA MUNICIPAL EDUARDO MALHADO

MARQUE UM X

PARA QUAL TIPO DE ANIMAL A FIGURA ABAIXO REPRESENTA

( ) ANIMAIS VERTEBRADOS

( ) ANIMAIS INVERTEBRADOS

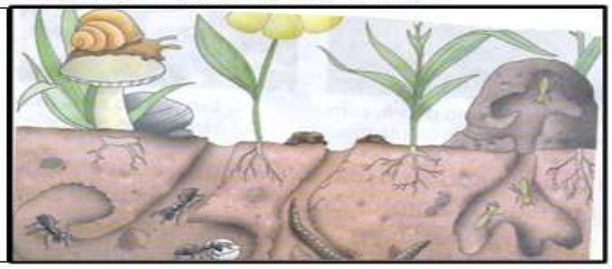

( ) ANIMAIS VERTEBRADOS

( ) ANIMAIS INVERTEBRADOS



No ambiente encontramos diversos seres vivos. Além dos seres vivos, também encontramos os recursos naturais.

- Marque um (x) na opção correta.

a) Os elementos necessários para os seres vivos viverem são:

( ) a água, o lixo e as doenças.
( ) a água, o solo e o ar.
( ) as doenças, o lixo e a pedra.

b) Na natureza a água pode ser encontrada nos:

( ) desertos, lagos, lagoas e portas.
( ) tecidos, madeira, areia e papel.
( ) mares, rios, lagos e lagoas.

c) O ar é formado por diferentes gases e um dos gases mais necessário para a respiração dos seres vivos é o:

( ) gás oxigênio.
( ) gás carbônico.
( ) gás nitrogênio.

- O solo abaixo está sendo cuidado? Por quê?



Lixão no Rio de Janeiro. Livro Eu Gosto – 2º. Ano.

_____

_____

_____

_____

_____

_____