Escola Municipal Nelson Mangabeira.

Ladário _____ de abril de 2020.

Professor (a): Silvia Cespedes.

Aluno(a): _____

Série: 2º Ano Turma: A Turno: Matutino

SIMULADO DE LÍINGUA PORTUGUESA



1-Observe a imagem e assinale o seu nome.

☐ CAMISOLA ☐ CAMISETA ☐ CARRINHO ☐ CAMIONETE

2-Com que letra começa esta gravura:



☐ C ☐ K ☐ G ☐ Ç

1- Assinale um **X** onde aparecem só letras:

☐ 

☐ 

☐ 

☐ 

2- O que as meninas estão fazendo:

☐ As meninas estão pulando amarelinha.

☐ As meninas estão pulando corda.

☐ As meninas jogam peteca.

☐ As meninas brincam de roda.



3- O que está escrito ao lado:

☐ **Cimento**

☐ Cigarra

☐ **ciranda**

☐ *Cinema*

cigarra

6- Observe o desenho e diga com quantas sílabas se escreve o nome da figura.?



☐ 2 ☐ 3 ☐ 4 ☐ 5

7-Reescreva a frase para a letra cursiva.

O garoto gosta de tangerina.

1- Que gênero textual e este texto?

☐ Convite ☐ Anúncio

☐ Bilhete ☐ Propaganda.

Mamãe

Vou à casa do Felipe fazer a tarefa da escola.

Um beijo: Fabrício.

9- Quem escreveu o texto acima?

☐ Vizinha ☐ Felipe ☐ Fabrício ☐ Mamãe

2- O texto fala de quê?



☐ De uma brincadeira ☐ De uma doença

☐ Regras de jogo ☐ Reciclagem

BOA SORTE!!!!

Escola Municipal Nelson Mangabeira.

Ladário, _____ de abril de 2020.

Professor (a): Silvia Cespedes.

Aluno(a):_____

Série: 2º Ano Turma: A Turno: Matutino

SIMULADO DE MATEMÁTICA

1- Conte quantos gatinhos aparecem na imagem:



☐ 5 ☐ 6 ☐ 7 ☐ 8

2- Maria ganhou oito pirulitos. Comeu 3. Marque um X no quadradinho que indica quantos pirulitos ela ainda tem.

☐ 8 ☐ 7 ☐ 6 ☐ 5

3- Que horas esta marcando o relógio?



☐ 11 horas e 10 minutos.

☐ 15 horas.

☐ 15 horas e 2 minutos.

☐ 11 horas.

4- O que as crianças estão brincando?



☐ De futebol.

☐ De boneca.

☐ De pular corda.

☐ De esconde, esconde.

5-Veja esta caixa de balas.



Carolina ganhou uma caixa iguais a essa, com 3 balas cada uma. Marque quantas balas recebeu?

☐ 3 ☐ 6 ☐ 8 ☐ 9

4- Qual a forma geométrica do dado?



☐ Círculo ☐ Triângulo ☐ Retângulo ☐ Quadrado

5- Qual o valor desta moeda?



☐ 5 centavos ☐ 50 centavos ☐ 5 reais ☐ 1 real

6- Qual é o dia que fica entre 24 e 26?



☐ 24 ☐ 25

☐ 26 ☐ 27

7- Este é o número 36 por extenso, se escreve assim.

☐ Vinte e seis ☐ Trinta e seis ☐ Quarenta e seis ☐ cinquenta e seis

8- Complete o gráfico com os dados da imagem.

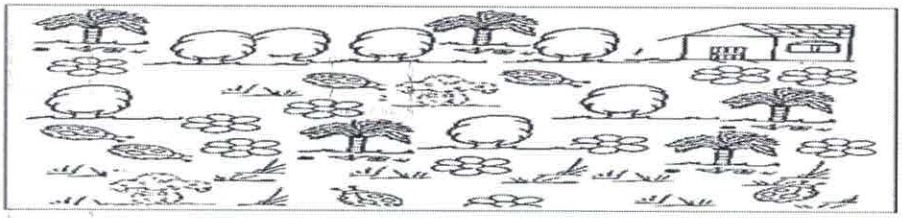



Escola Municipal Nelson Mangabeira.

Ladário, _____ de abril de 2020.

Professor (a): Silvia Cespedes.

Aluno(a): _____

Série: 2º Ano Turma: A Turno: Matutino

SIMULADO DE GEOGRAFIA

1. Aprendemos que a casa é o lugar onde as pessoas se abrigam e convivem. Nossa casa é dividida em partes chamadas cômodos. Observe a representação da casa abaixo e responda:

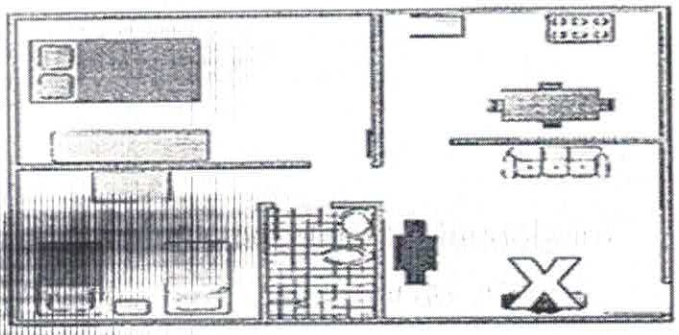

a. Quantos cômodos têm? _____

b. Quantos quartos? _____

c. Qual o cômodo marcado com **X**?

_____

2. Agora temos um outro desenho representando uma casa. Observe bem o desenho, escreva o nome de cada parte e faça o que se pede:



a. Pinte de verde o lugar onde você toma banho.
b. Circule os móveis do cômodo onde você dorme.
c. Pinte a o lugar onde fazemos comida de amarelo.
d. Faça um x na parte da casa onde assistimos televisão.

Tipos de Moradia

Escreva o nome destes tipo de moradia.

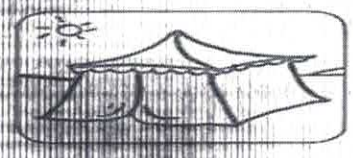
_____

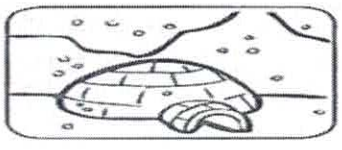
_____

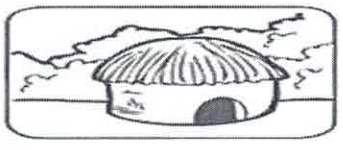
_____

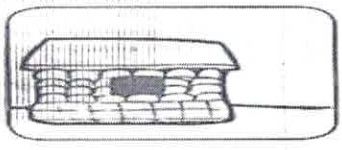
_____

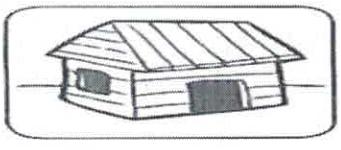
_____


_____

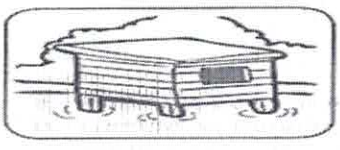
_____

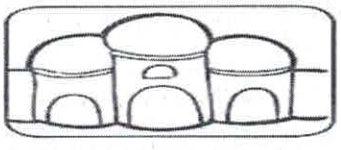
_____

iglu palacete palafita tijolo tenda madeira pedra oca

Escola Municipal Nelson Mangabeira.

Ladário, _____ de abril de 2020.

Professor (a): Silvia Cespedes.

Aluno(a): _____

Série: 2º Ano **Turma: A** **Turno: Matutino**

SIMULADO DE HISTÓRIA

EU SOU ASSIM...



EU ME CHAMO _____.

MEU APELIDO É _____.

EU TENHO _____ ANOS.

NASCI NA CIDADE DE _____, NO DIA _____, NO MÊS DE _____ E NO ANO DE _____.

MEUS OLHOS SÃO _____ E MEUS CABELOS SÃO _____.

EU ESTUDO NA ESCOLA _____.

O QUE MAIS GOSTO É DE _____.

NÃO GOSTO DE _____.

EU SOU ASSIM: _____

AO NASCER, TODA CRIANÇA TEM O DIREITO DE RECEBER UM NOME E UM SOBRENOME. O SOBRENOME INDICA À FAMILIA À QUAL PERTENCEMOS.

ESCREVA O SEU NOME COMPLETO:

tão 5- ESTA É A ÁRVORE GINEALÓGICA DA FAMILIA DE BÁRBARA;

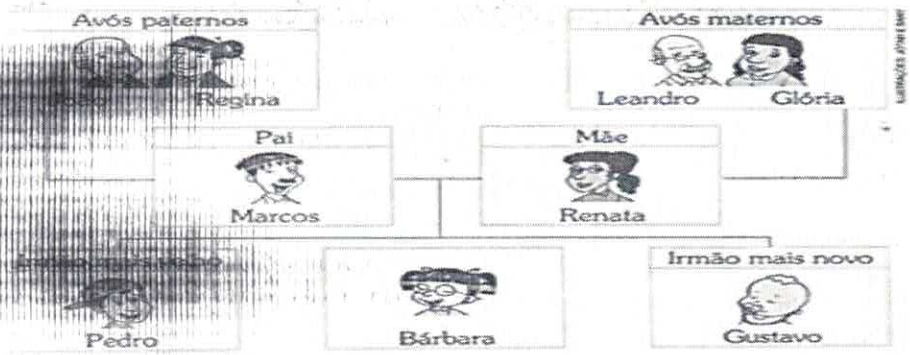

) COMO SE CHAMAM OS IRMÃO DE BÁRBARA?

_____

) QUEM É O IRMÃO MAIS VELHO?_____ E O MAIS NOVO?

_____

) COMO CHAMAM OS PAIS DE BÁRBARA?_____

) JOÃO E REGINA SÃO AVÓS_____

Escola Municipal Nelson Mangabeira.

Ladário, _____ de abril de 2020.

Professor (a): Silvia Cespedes.

Aluno(a):_____

Série: 2º Ano Turma: A Turno: Matutino

SONDAGEM DE LÍNGUA PORTUGUESA

1. MARQUE UM X NO QUADRINHO EM QUE INDICA QUANTAS SÍLABAS TEM O NOME DA FIGURA

					
1 3 4 5	3 2 5 6	1 2 5 3	2 5 4 6	3 4 1 2	1 2 4 3

2. FAÇA UM X NAS TRÊS PALAVRAS QUE POSSUEM O MESMO SOM QUE SÃO AS RIMAS.

- ☐ MILHO – COLHER - SOL
- ☐ CHULÉ – CAFÉ - BONÉ
- ☐ VIDA – COMIDA -JANELA
- ☐ MEL – BALÃO - SOLA

3. FAÇA UM X NA PALAVRA QUE INDICA O NOME CORRETO DA FIGURA:

				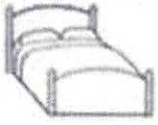	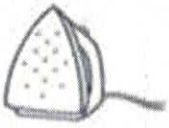	
☐ MILHO ☐ MICROFONE ☐ MICO	☐ VERMELHO ☐ VELA ☐ VESTIDO	☐ SALA ☐ SAIA ☐ SALVA	☐ PANELA ☐ PALETA ☐ PATETA	☐ LAMA ☐ CAMA ☐ FAMA	☐ FERRO ☐ BERRO ☐ PERTO	☐ NUCA ☐ NUVEM ☐ NUBLADO

4. LEIA , OBSERVE E RESPONDA:

MAMÃE:

ESTOU NA CASA DA ANA PORQUE FUI ESTUDAR MATEMÁTICA. BEIJOS

LUÍZA.

12/08/2010

A. ESTE TEXTO É UM:

☐ CONTO ☐ CARTA ☐ BILHETE

B. QUEM ESCREVEU?

☐ ANA ☐ LUÍZA ☐ MAMÃE

C. QUEM RECEBEU?

☐ MAMÃE ☐ ANA ☐ LUÍZA

E. QUAL FOI O ASSUNTO?

☐ PASSEIO ☐ ESTUDO ☐ VIAGEM

Leia, silenciosamente, a lista de frutas do Sacolão:

PÊRA ABACAXI UVA LARANJA MELANCIA BANANA



Escreva a primeira letra de cada fruta:

___ ___ ___ ___ ___ ___

Agora coloque estas letras em ordem alfabética:

___ ___ ___ ___ ___ ___

- Colorir a seta onde está escrito uma palavra:

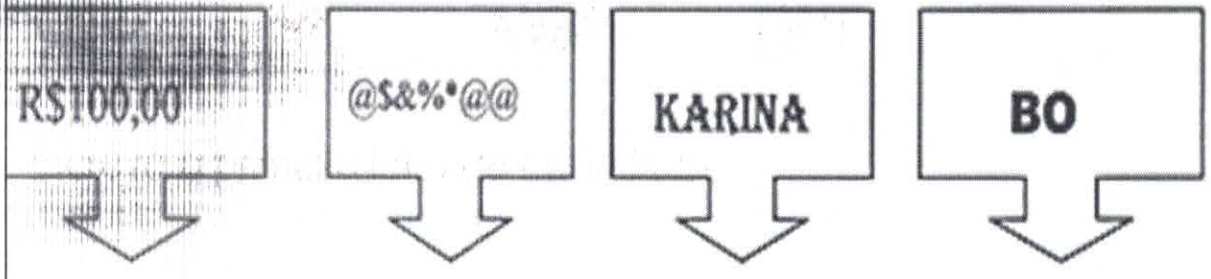

Escreva duas palavras começados com a sílaba abaixo:

GA _____ _____

Escreva uma frase com a palavra MELANCIA:

_____

Escola municipal Nelson Mangabeira.

Ladário, _____ de abril de 2020.

Professora: Silvia Cespedes.

Aluno: _____

Série: 2º ano Turma: A Turno: Matutino

Sondagem de Matemática

1. Os números são muito úteis no nosso dia. Escreva três lugares nos quais podemos usar números em nossa vida diária:



2. Resolva as adições e descubra a quem pertence cada animal de estimação, relacionando os resultados:

15
+13



20
+ 5



12
+ 12





JONAS

24



GILDA

28



MIRTES

25

3-Resolva as subtrações:

10	14	22	49
-10	-11	-10	-21



4-Marquinhos tem uma coleção de bonecos guerreiros. Ela já tem 25 e sua mãe lhe deu de aniversário mais 12. Com quantos guerreiros marquinhos ficou em sua coleção?



Resposta: _____

5-Luciana ganhou de sua tia uma caixa com 18 bombons e ela já comeu 6. Quantos bombons sobraram na caixa?

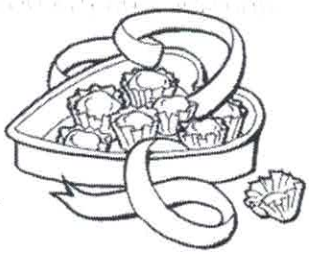

Resposta: _____

6-Escreva números de 0 a 50.

_____

_____

_____

_____

_____

_____

BOA SORTE

ESCOLA MUNICIPAL _____

LADÁRIO ___ DE ABRIL DE 2020

ALUNO (A):_____ TURMA: ____ ANO

PROFESSOR(A): SILVIA CESPEDES

ATIVIDADE AVALIATIVA

SOMOS VIZINHOS

OBSERVE:

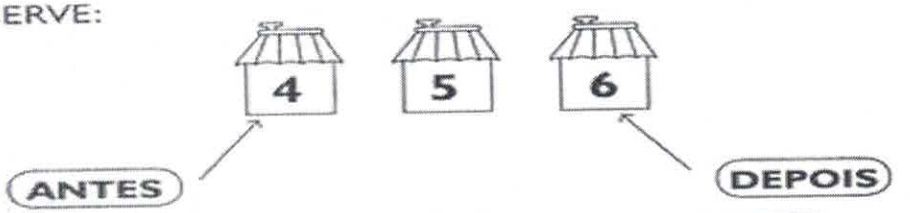

OS NUMERAIS **4** E **6** SÃO VIZINHOS DO **5**.

1) ESCREVA O NUMERAL QUE VEM **ANTES** DE:

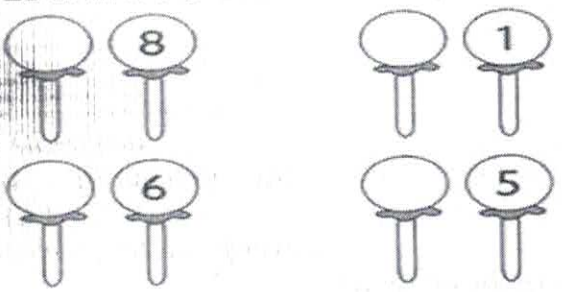

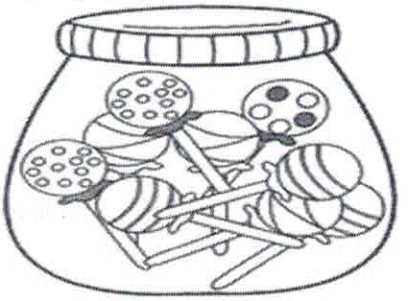

2) AGORA, ESCREVA O NUMERAL QUE VEM **DEPOIS** DE:





ESCOLA MUNICIPAL _____

LADÁRIO DE __ ABRIL DE 2020

ALUNO (A): _____

PROFESSORA: SILVIA CESPEDES

ATIVIDADE AVALIATIVA LÍNGUA PORTUGUESA

Pinte as letras que formam o nome do objeto e depois organize-as para formar o nome

O	S		J	
	K	P	B	
L		A		E

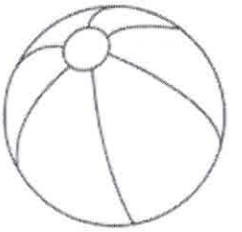

_____

Continue a sequência.

E			H

A		C	

	J	K			N

S		U			X	Y	

ESTADO DE MATO GROSSO DO SUL
MUNICÍPIO DE LADÁRIO
SECRETARIA MUNICIPAL DE EDUCAÇÃO
ESCOLA MUNICIPAL NELSON MANGABEIRA

Data____/____/____ Série: 2º Ano A

Aluno (a): _____

Atividade de Arte

1) Vamos colar palitos de fósforos no indiozinho?



ESTADO DE MATO GROSSO DO SUL
MUNICÍPIO DE LADÁRIO
SECRETARIA MUNICIPAL DE EDUCAÇÃO
ESCOLA MUNICIPAL NELSON MANGABEIRA

Data____/____/____ Série: 2º Ano A

Aluno (a): _____

Atividade de Arte

VAMOS COLORIR A CASINHA DA VOVÓ COM AS CORES INDICADAS

AZUL

VERDE

AMARELO

VERMELHO



ESTADO DE MATO GROSSO DO SUL
MUNICÍPIO DE LADÁRIO
SECRETARIA MUNICIPAL DE EDUCAÇÃO

ESCOLA MUNICIPAL NELSON MANGABEIRA.

LADÁRIO, ____/___/ 2020.

PROFESSORA: JORCILENE PINHEIRO

ALUNO: _____ CIÊNCIAS

TURMA: 2º A/B TURNO: Matutino

Veja as partes da planta e discuta com sua turma para que elas servem.

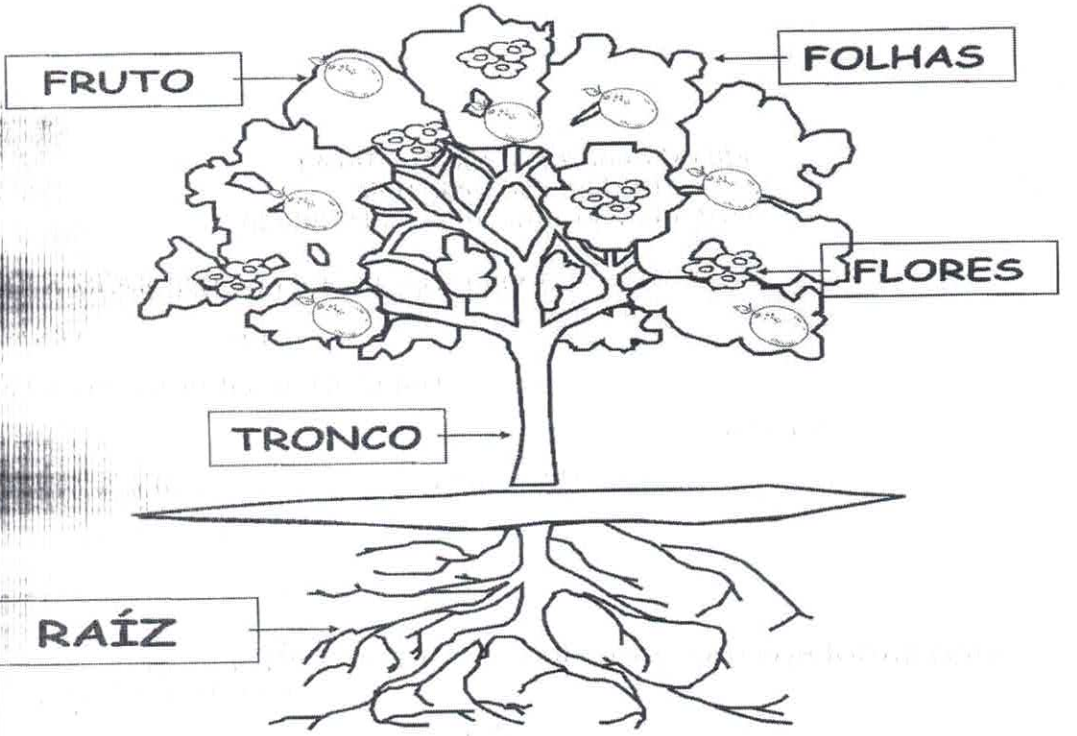

Quantas frutas há na árvore? _____

Esta árvore parece com alguma que você já viu? Qual?

_____

Disponível em:http://escolasaber.blogspot.com/2016/10/atividades-partes-das-plantas-e-suas.html acesso em 16/04/2020

ESTADO DE MATO GROSSO DO SUL
MUNICÍPIO DE LADÁRIO
SECRETARIA MUNICIPAL DE EDUCAÇÃO

ESCOLA MUNICIPAL NELSON MANGABEIRA.

LADÁRIO, ____/___/ 2020.

PROFESSORA: JORCILENE PINHEIRO

ALUNO: _____ CIÊNCIAS

TURMA: 2º A/B TURNO: Matutino

CRUZADINHA
PARTES DAS PLANTAS

Complete a cruzadinha de acordo com as partes das plantas.

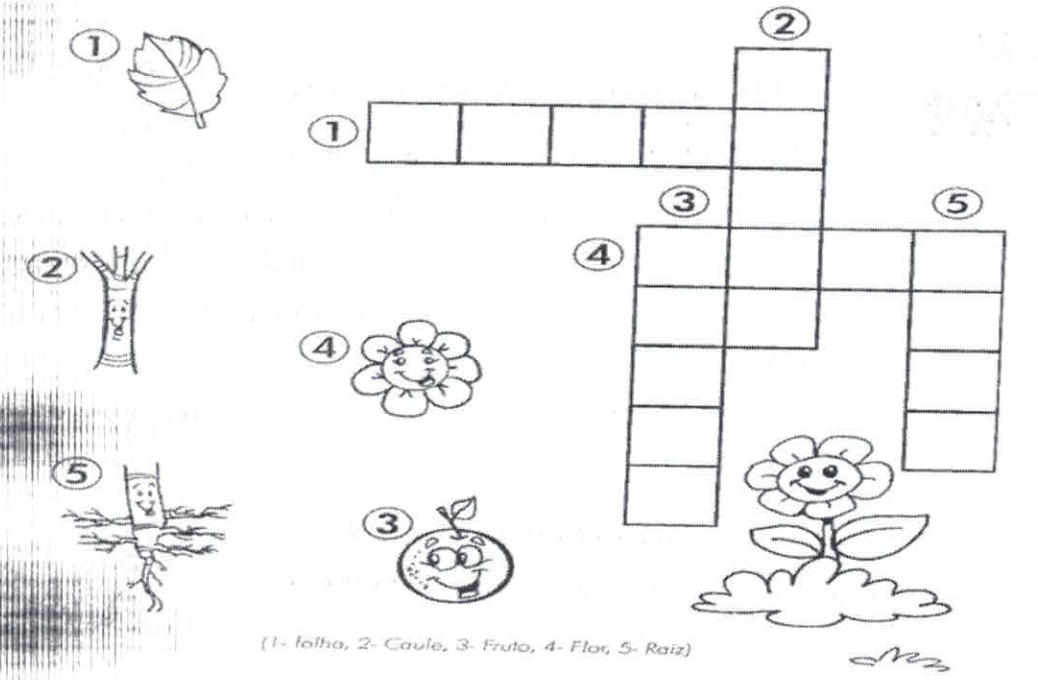

(1- folha, 2- Caule, 3- Fruto, 4- Flor, 5- Raiz)

Disponível em:https://www.lipitipi.org/2014/09/atividades-educativas-partes-das.html acesso em 16/04/2020

ESTADO DE MATO GROSSO DO SUL
MUNICÍPIO DE LADÁRIO
SECRETARIA MUNICIPAL DE EDUCAÇÃO

ESCOLA MUNICIPAL NELSON MANGABEIRA.

LADÁRIO, ____/___/ 2020.

PROFESSORA: JORCILENE PINHEIRO

ALUNO: _____ CIÊNCIAS

TURMA: 2º A/B TURNO: Matutino

Encontre no caça-palavras as partes das plantas, e escreva-os no retângulo

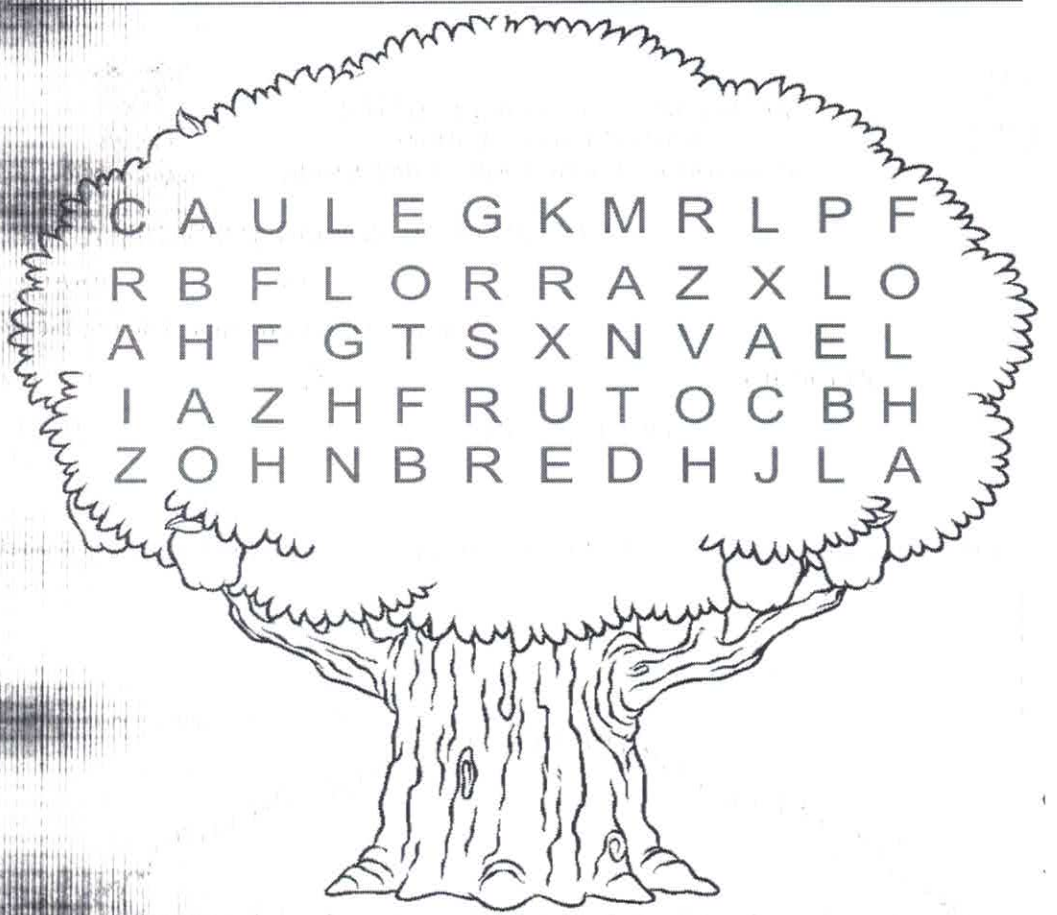

Disponível em:https://www.lipitipi.org/2014/09/atividades-educativas-partes-das.html acesso em 16/04/2020

ESTADO DE MATO GROSSO DO SUL
MUNICÍPIO DE LADÁRIO
SECRETARIA MUNICIPAL DE EDUCAÇÃO

ESCOLA MUNICIPAL NELSON MANGABEIRA.

LADÁRIO, ____/___/ 2020.

PROFESSORA: JORCILENE PINHEIRO

ALUNO: _____ EDUCAÇÃO CIDADÃ

TURMA: 2ºA TURNO: Matutino

Valores



1. Qual palavra acima você considera mais importante?



2. Qual delas você mais pratica no seu dia a dia?



Disponível em :https://www.espacoprofessor.com/post/atividade-sobre-valores acesso em:16/04/2020

ESTADO DE MATO GROSSO DO SUL
MUNICÍPIO DE LADÁRIO
SECRETARIA MUNICIPAL DE EDUCAÇÃO

ESCOLA MUNICIPAL NELSON MANGABEIRA.

LADÁRIO, ____/___/ 2020.

PROFESSORA: JORCILENE PINHEIRO

ALUNO: _____ EDUCAÇÃO CIDADÃ

TURMA: 2ºA TURNO: Matutino

2. QUAIS VALORES A SUA FAMÍLIA CONSIDERA IMPORTANTES? ESCREVA NO CORAÇÃO:



Disponível em :https://sites.google.com/site/diariodaprofaglauce/resgatando-valores acesso em:16/04/2020

ESTADO DE MATO GROSSO DO SUL
MUNICÍPIO DE LADÁRIO
SECRETARIA MUNICIPAL DE EDUCAÇÃO

ESCOLA MUNICIPAL NELSON MANGABEIRA.

LADÁRIO, ____/___/ 2020.

PROFESSORA: JORCILENE PINHEIRO

ALUNO: _____ EDUCAÇÃO CIDADÃ

TURMA: 2°A TURNO: Matutino

Vamos pintar as Palavrinhas Mágicas:



Disponível em :https://atividadespedagogicas.net/2017/10/palavrinhas-magicas-para-educacao-infantil.html acesso em:16/04/2020