**ESTADO DE MATO GROSSO DO SUL**
**MUNICÍPIO DE LADÁRIO**
**SECRETARIA MUNICIPAL DE EDUCAÇÃO**
**ESCOLA MUNICIPAL NELSON MANGABEIRA**

| |
|---|
| ESCOLA MUNICIPA NELSON MANGABEIRA |
| PROFESSORA: ROSÂNGELA TEIXEIRA PÉCORA TURMA: 2º ANO B |
| ENSINO FUNDAMENTAL I TURNO: MATUTINO |
| COMPONENTE CURRICULAR: LÍNGUA PORTUGUESA PERÍODO: 08//09 - 09/09/2020 |
| ALUNO (A): |

## ATIVIDADE DE LÍNGUA PORTUGUESA

Escola: _____

Aluno: _____



atividades-portugues-1-ano.blogspot.com

**Poema:**

### Leilão de jardim

**Cecília Meirelles**

**Quem me compra um jardim com flores?**
**Borboletas de muitas cores,**
**Lavadeiras e passarinhos,**
**Ovos verdes e azuis nos ninhos!**

**Quem me compra este Caracol?**
**Quem me compra um raio de sol?**
**Um lagarto entre o muro e a hera?**
**Uma estátua de Primavera?**

**Quem me compra este formigueiro?**
**E este sapo, que é jardineiro?**
**E a cigarra e a sua canção?**
**E o grilinho dentro do chão?**

**(este é meu leilão).**



**1- Qual o título do poema?**_____
**2-Qual a sua autora?**
**3- Quais os animais que são citados no poema?**_____
_____
**4- O que é um leilão?**_____
**5-Retire o que se pede:**
**a) uma palavra com rr-**_____
**b) três palavras com nh-**_____
**c) uma palavra com ch-**_____
**6- Complete de acordo com o poema:**
**Quem me compra este**_____**?**
**E este**_____**, que é jardineiro?**
**E a** _____**e a sua canção?**
**E o** _____**dentro do chão?**

**ESTADO DE MATO GROSSO DO SUL**
**MUNICÍPIO DE LADÁRIO**
**SECRETARIA MUNICIPAL DE EDUCAÇÃO**
**ESCOLA MUNICIPAL NELSON MANGABEIRA**

| | |
|---|---|
| ESCOLA MUNCIPAL NELSON MANGABEIRA | |
| PROFESSORA: ROSÂNGELA TEIXEIRA PÉCORA | TURMA: 2º ANO B |
| ENSINO FUNDAMENTAL I | TURNO: MATUTINO |
| COMPONENTE CURRICULAR: LÍNGUA PORTUGUESA | PERÍODO: 10/09 -04/09 -11/09/2020 |
| ALUNO (A): | |

https://br.pinterest.com/

**ATIVIDADE DE LÍNGUA PORTUGUESA**

## Gramática: Aumentativo e Diminutivo

## ATIVIDADES

1 -- Complete com o diminutivo dos animais.

a) Filhote de leão é _____

b) Filhote de pato é _____

c) Filhote de camelo é _____

d) Filhote de gato é _____

e) Filhote de cachorro é _____

f) Filhote de girafa é _____

g) Filhote de coelho é _____

h) Filhote de tatu é _____

i) Filhote de pássaro é _____

**ESTADO DE MATO GROSSO DO SUL**
**MUNICÍPIO DE LADÁRIO**
**SECRETARIA MUNICIPAL DE EDUCAÇÃO**
**ESCOLA MUNICIPAL NELSON MANGABEIRA**

| | |
|---|---|
| ESCOLA MUNCIPAL NELSON MANGABEIRA | |
| PROFESSORA: ROSÂNGELA TEIXEIRA PÉCORA | TURMA: 2º ANO B |
| ENSINO FUNDAMENTAL I | TURNO: MATUTINO |
| COMPONENTE CURRICULAR: LÍNGUA PORTUGUESA | PERÍODO: 14/09 -04/09 -15/09/2020 |
| ALUNO (A): | |

https://br.pinterest.com/

## TESTE DE VERIFICAÇÃO DE APRENDIZAGEM DE LÍNGUA PORTUGUESA

1)FAÇA UM **X** NO QUADRADINHO ONDE ESTÁ ESCRITO O NÚMERO DE SÍLABAS DO NOME DO ANIMAL.

A) ☐ 4
B) ☐ 2
C) ☐ 6
D) ☐ 3



2) FAÇA UM **X** NO QUADRADINHO ONDE ESTÁ ESCRITA A ÚLTIMA SÍLABA DO NOME DA FIGURA ABAIXO.



(A) ☐ BOR
(B) ☐ LE
(C) ☐ BO
(D) ☐ TA

3) FAÇA UM X NO QUADRADINHO EM QUE ESTÃO ESCRITOS OS NOMES DAS FIGURAS ABAIXO.



(A) ☐ ANÃO – ILHA – URNA
(B) ☐ ANÃO – OLHO – URNA
(C) ☐ AVIÃO – OLHO – UVA

4) OBSERVE O TEXTO ABAIXO:




A ÚLTIMA PALAVRA DO TEXTO É:

A) LAVE B) MUDE
C) MÃOS D) SUAS

5) LEIA O TEXTO ABAIXO:

**OS MENINOS QUE MORAM PERTO DO RIO FAZEM NAVIOS COM CAIXAS DE LEITE PARA BRINCAR.**

O QUE OS MENINOS FAZEM?

(A) MOLA. (B) BOLAS.
(C) NAVIOS. (D) PIÃO.

6) LEIA O TEXTO E RESPONDA.

**OS MENINOS BRINCAM DE JOGAR PIÃO.**

A) 
B) 
C) 
D) 

ESTADO DE MATO GROSSO DO SUL
MUNICÍPIO DE LADÁRIO
SECRETARIA MUNICIPAL DE EDUCAÇÃO
ESCOLA MUNICIPAL NELSON MANGABEIRA

7- MARQUE A PALAVRA QUE COMEÇA IGUAL:

PAPAGAIO - ☐ PETECA ☐ POTE ☐ PASSÁRO

8- MARQUE A PALAVRA QUE TERMINA IGUAL A ÚLTIMA SÍLABA DA PALAVRA

PIÃO - ☐ MAÇÃ ☐ PIPA ☐ BALÃO

9- NUMERE CORRETAMENTE:

| | | |
|---|---|---|
| ( ) FERRO | ( ) COLA | ( ) GARRAFA |
| ( ) SACOLA | ( ) CAMELO | ( ) CAMA |
| ( ) VASSOURA | ( ) MILHO | ( ) TATU |
| ( ) GARFO | ( ) LAÇO | ( ) SOFÁ |

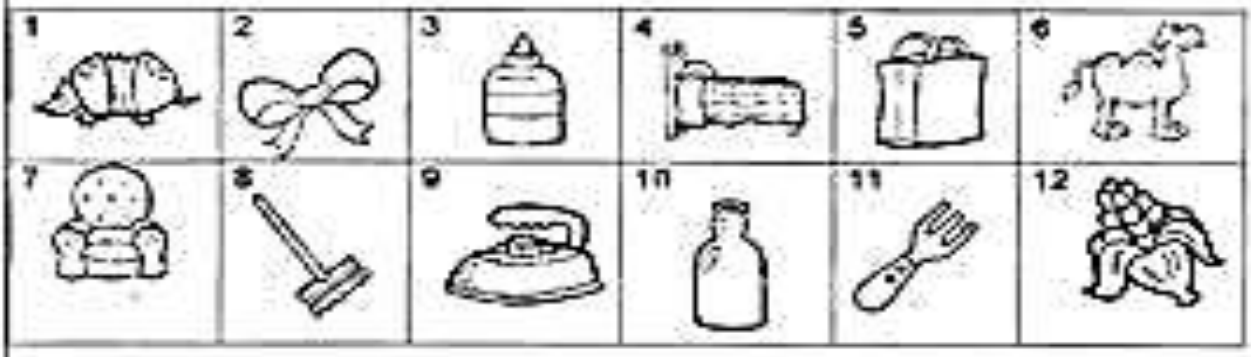


10 – AUTO DITADO

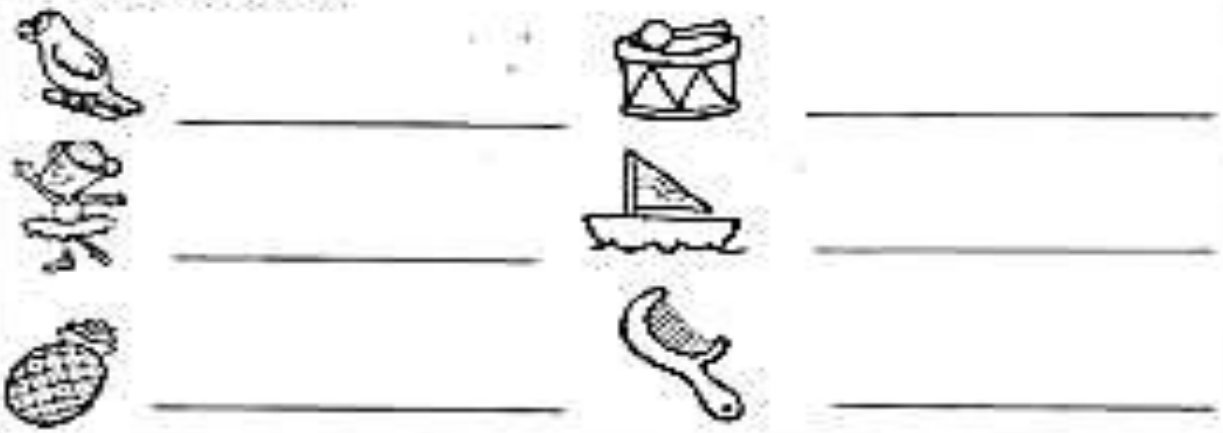

**ESTADO DE MATO GROSSO DO SUL**
**MUNICÍPIO DE LADÁRIO**
**SECRETARIA MUNICIPAL DE EDUCAÇÃO**
**ESCOLA MUNICIPAL NELSON MANGABEIRA**

| | |
|---|---|
| ESCOLA MUNICIPAL NELSON MANGABEIRA | |
| PROFESSORA: ROSÂNGELA TEIXEIRA PÉCORA | TURMA: 2º ANO B |
| ENSINO FUNDAMENTAL I | TURNO: MATUTINO |
| COMPONENTE CURRICULAR: MATEMÁTICA | PERÍODO: 10/09 – 11/09/2020 |
| ALUNO (A): | |

## ATIVIDADE DE MATEMÁTICA

**Questão 1.** João trabalha no zoológico de Belo Horizonte. Ele cuida de vários animais. Ajude-o a separar as quantidades de cada espécie de animais:

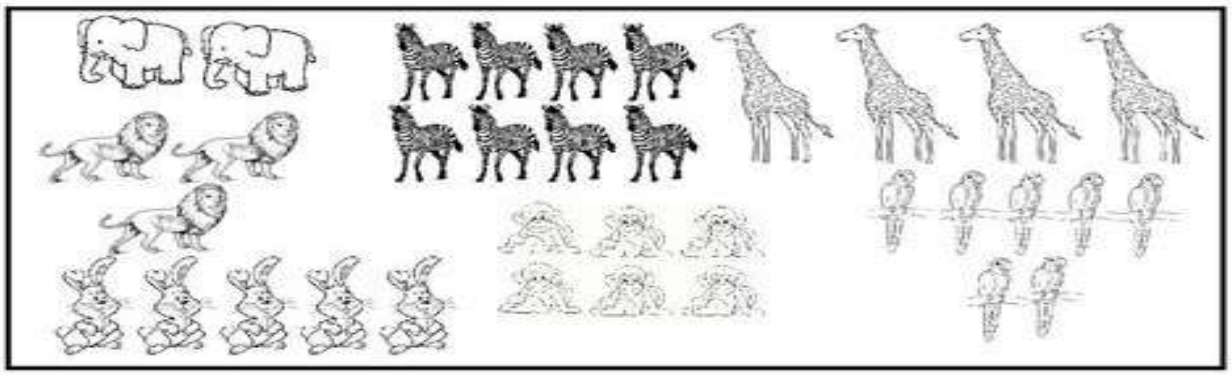

| **Animais** | Arara | Coelho | Elefante | Girafa | Leão | Macaco | Zebra |
|---|---|---|---|---|---|---|---|
| **Quantidade** | | | | | | | |

Responda:

A) Que animal aparece mais nessa cena? ☐

B) Que animal aparece menos nessa cena? ☐

C) Quantos macacos têm a mais do que leões? ☐

D) Quantos coelhos têm a menos do que araras? ☐

E) Quantos são os animais ao todo? ☐

---

**Questão 2.** Paulo tem em seu álbum 84 figurinhas. Qual é o número que representa a quantidade de figurinhas que Paulo tem?

a.( ) Quarenta e oito. b.( )Oitenta e quatro.

c.( ) Cinquenta e cinco d.( )Trinta e seis.

**ESTADO DE MATO GROSSO DO SUL**
**MUNICÍPIO DE LADÁRIO**
**SECRETARIA MUNICIPAL DE EDUCAÇÃO**
**ESCOLA MUNICIPAL NELSON MANGABEIRA**

| |
|---|
| ESCOLA MUNICIPAL NELSON MANGABEIRA |
| PROFESSORA: ROSÂNGELA TEIXEIRA PÉCORA TURMA: 2º ANO B |
| ENSINO FUNDAMENTAL I TURNO: MATUTINO |
| COMPONENTE CURRICULAR: MATEMÁTICA PERÍODO: 14/09 – 15/09/2020 |
| ALUNO (A): |

# AVALIAÇÃO DE MATEMÁTICA

**1 – COMPLETE AS SEQUÊNCIAS**

| | | | | | |
|---|---|---|---|---|---|
| 17 | | | | 21 | |
| 72 | | | 75 | | |
| 89 | | | 92 | | |
| | 113 | | | 116 | |
| 149 | | | 152 | | |
| | 167 | | 169 | | |

**2 – OBSERVE O CALENDÁRIO E RESPONDA**

| | D | S | T | Q | Q | S | S |
|---|---|---|---|---|---|---|---|
| SETEMBRO | | | 01 | 02 | 03 | 04 | 05 |
| | 06 | 07 | 08 | 09 | 10 | 11 | 12 |
| | 13 | 14 | 15 | 16 | 17 | 18 | 19 |
| | 20 | 21 | 22 | 23 | 24 | 25 | 26 |
| | 27 | 28 | 29 | 30 | | | |

07 - INDEPENDÊNCIA DO BRASIL

1 – DE QUAL MÊS É O CALENDÁRIO ?

_____

2 – QUAL MÊS VEM DEPOIS DESTE ?

_____

3 – QUANTOS DIAS TEM ESTE MÊS ?

_____

4 – QUAL DIA DA SEMANA SERÁ O DIA 23 ?

_____

5 – QUANTOS SÁBADOS ? _____

6 – TEM FERIADO NESTE MÊS ? QUAL DIA ?

_____

**ARME AS CONTINHAS RESOLVA**

54 + 35 = _____ 76 – 43 = _____

72 + 7 = _____ 67 – 34 = _____

42 + 36 = _____ 88 – 4 = _____

25 + 64 = _____ 65 – 24 = _____

| D | U |
|---|---|
| | |
| | |
| | |

| D | U |
|---|---|
| | |
| | |
| | |

| D | U |
|---|---|
| | |
| | |
| | |

| D | U |
|---|---|
| | |
| | |
| | |

| D | U |
|---|---|
| | |
| | |
| | |

| D | U |
|---|---|
| | |
| | |
| | |

| D | U |
|---|---|
| | |
| | |
| | |

| D | U |
|---|---|
| | |
| | |
| | |

miriamveiga.com

BOA SORTE. BEIJOS.....

**ESTADO DE MATO GROSSO DO SUL**
**MUNICÍPIO DE LADÁRIO**
**SECRETARIA MUNICIPAL DE EDUCAÇÃO**
**ESCOLA MUNICIPAL NELSON MANGABEIRA**

| |
|---|
| ESCOLA MUNICIPAL NELSON MANGABEIRA |
| PROFESSORA: ROSÂNGELA TEIXEIRA PÉCORA TURMA: 2º ANO B |
| ENSINO FUNDAMENTAL I TURNO: MATUTINO |
| COMPONENTE CURRICULAR: HISTÓRIA PERÍODO: 08/09 -09/09 /2020 |
| ALUNO (A): |

## AVALIAÇÂO DE HISTÓRIA




BEM CAPRICHADO VALE NOTA!

**ESTADO DE MATO GROSSO DO SUL**
**MUNICÍPIO DE LADÁRIO**
**SECRETARIA MUNICIPAL DE EDUCAÇÃO**
**ESCOLA MUNICIPAL NELSON MANGABEIRA**

| |
|---|
| ESCOLA MUNICIPAL NELSON MANGABEIRA |
| PROFESSORA: ROSÂNGELA TEIXEIRA PÉCORA TURMA: 2º ANO B |
| ENSINO FUNDAMENTAL I TURNO: MATUTINO |
| COMPONENTE CURRICULAR: GEOGRAFIA PERÍODO: 09/09/-10/09 /2020 |
| ALUNO (A): |

# AVALIAÇÃO DE GEOGRAFIA

1- Circule e pinte os meios de transporte que levam muitas pessoas de uma vez:



2- Associe corretamente cada letra abaixo ao tipo de meio de transporte.

T Terrestre A Aéreo M Marítimo

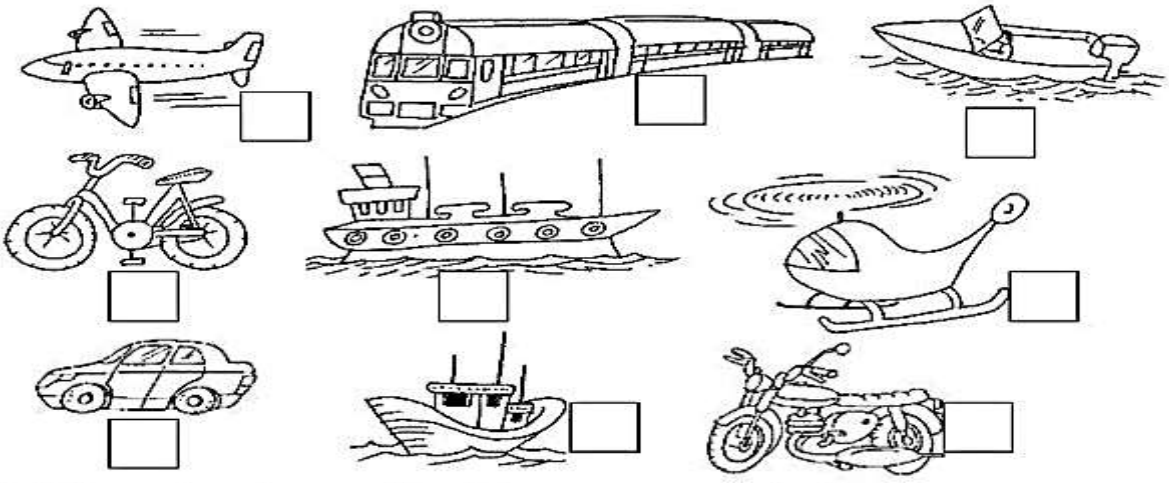

3- Pinte corretamente o semáforo abaixo e escreva o que significa cada cor.

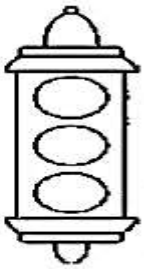

_____

_____

_____

BEM CAPRICHADO VALENDO NOTA.!