ESTADO DE MATO GROSSO DO SUL
MUNICÍPIO DE LADÁRIO
SECRETARIA MUNICIPAL DE EDUCAÇÃO
ESCOLA MUNICIPAL NELSON MANGABEIRA

ESCOLA MUNICIPA NELSON MANGABEIRA	
PROFESSORA: ROSÂNGELA TEIXEIRA PÉCORA	TURMA: 2º ANO B
ENSINO FUNDAMENTAL I	TURNO: MATUTINO
COMPONENTE CURRICULAR: LÍNGUA PORTUGUESA	PERÍODO: 03/11 - 04/1212020
ALUNO (A):	

ATIVIDADE DE LÍNGUA PORTUGUESA

Escreva palavras iniciadas com as vogais **A, E, I, O, U.**
Veja os modelos.

Com **A**, escrevo: amor
Com **E**, escrevo: escola
Com **I**, escrevo: igualdade
Com **O**, escrevo: obrigado
Com **U**, escrevo: universo



Com **A**, escrevo: _____
Com **E**, escrevo: _____
Com **I**, escrevo: _____
Com **O**, escrevo: _____
Com **U**, escrevo: _____

Com **A**, escrevo: _____
Com **E**, escrevo: _____
Com **I**, escrevo: _____
Com **O**, escrevo: _____
Com **U**, escrevo: _____

PERÍODO: 05/11 - 06/11/2020

LETRA INICIAL



PINTE AS FIGURAS QUE COMEÇAM COM A LETRA INDICADA NA PÁGINA E ESCREVA SEUS NOMES NAS LINHAS.

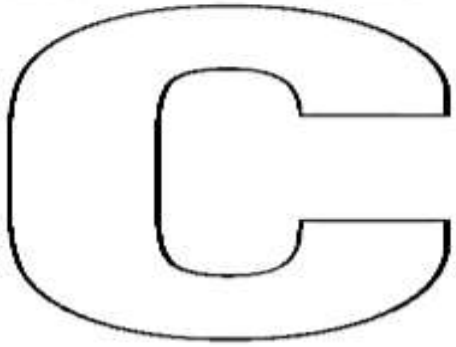

_____
_____
_____
_____
_____
_____



ESTADO DE MATO GROSSO DO SUL
MUNICÍPIO DE LADÁRIO
SECRETARIA MUNICIPAL DE EDUCAÇÃO
ESCOLA MUNICIPAL NELSON MANGABEIRA

ESCOLA MUNICIPA NELSON MANGABEIRA	
PROFESSORA: ROSÂNGELA TEIXEIRA PÉCORA	TURMA: 2º ANO B
ENSINO FUNDAMENTAL I	TURNO: MATUTINO
COMPONENTE CURRICULAR: LÍNGUA PORTUGUESA	PERÍODO: 09/11 – 10/11/2020
ALUNO (A):	

ATIVIDADE DE LÍNGUA PORTUGUESA

TRABALHANDO A RECEITA DO BOLO DE FUBÁ

MARQUE UM (X) NAS RESPOSTAS CORRETAS:

A) PITADA É O MESMO QUE:
- ( ) UM POUQUINHO
- ( ) GRANDE QUANTIDADE



B) O FUBÁ É UM DERIVADO: (É FEITO DO)
- ( ) CARÁ
- ( ) MILHO

DESENHE A QUANTIDADE DE OVOS QUE SERÁ USADA NO BOLO:

FAÇA UMA LISTA DE QUITANDAS QUE PODEMOS FAZER COM FUBÁ E FARINHA DE TRIGO. RECORTE GRAVURAS OU DESENHE PARA ILUSTRAR:

PERIODO DE 11/11 - 12/11/2020

COMPLETE AS PALAVRAS DO ALFABETO ILUSTRADO COM AS VOGAIS:


V_____SSOUR_____

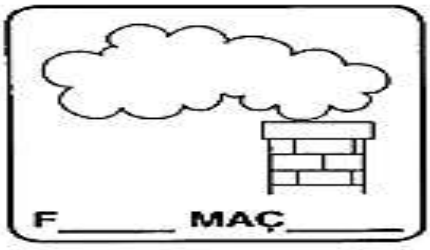
F_____ MAÇ_____

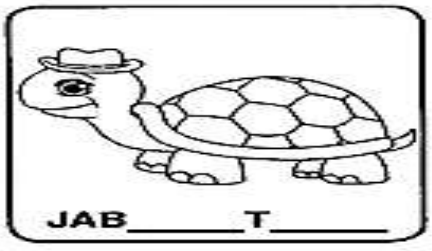
JAB_____T_____

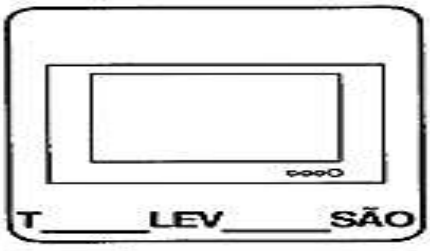
T_____LEV_____SÃO


_____VELH_____


G_____T_____

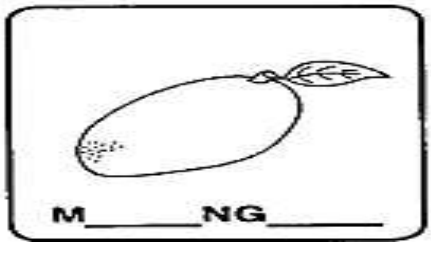
M_____NG_____


CO_____LH_____


B_____L_____

ESTADO DE MATO GROSSO DO SUL
MUNICÍPIO DE LADÁRIO
SECRETARIA MUNICIPAL DE EDUCAÇÃO
ESCOLA MUNICIPAL NELSON MANGABEIRA

ESCOLA MUNICIPA NELSON MANGABEIRA	
PROFESSORA: ROSÂNGELA TEIXEIRA PÉCORA	TURMA: 2º ANO B
ENSINO FUNDAMENTAL I	TURNO: MATUTINO
COMPONENTE CURRICULAR: LÍNGUA PORTUGUESA	PERÍODO: 13/11 – 16/11/2020
ALUNO (A):	

ATIVIDADE DE LÍNGUA PORTUGUESA

ESCREVENDO PALAVRAS

Leia as palavras dos quadros abaixo.

COZINHA	CHINELO	CHUMBO
CHEFE	CHÁ	CHOQUE
ARRANHÃO	FALHA	LINHA
MACHADO	LENHA	CHIFRE
MANHÃ	CAMINHÃO	BANHO
ORELHUDO	CHUVEIRO	SONHO
BILHETE	NINHO	LANCHE
BARULHO	CHUTEIRA	ALHO
CHOCOLATE	CACHORRO	UNHA
CHALEIRA	CHEIRO	CHICOTE



Circule, nos quadros, as palavras com **LH**.

Agora, risque as palavras com **NH**.

Escreva as palavras com **CH** no quadro correspondente.

CHA	CHE	CHI	CHO	CHU

Escolha uma palavra com **LH, NH, CH** e escreva, no caderno, frases com cada uma delas.

PERIODO DE 17/11 - 18/11/2020

15-COMPLETE COM CHA, CHE CHI, CHO, CHU

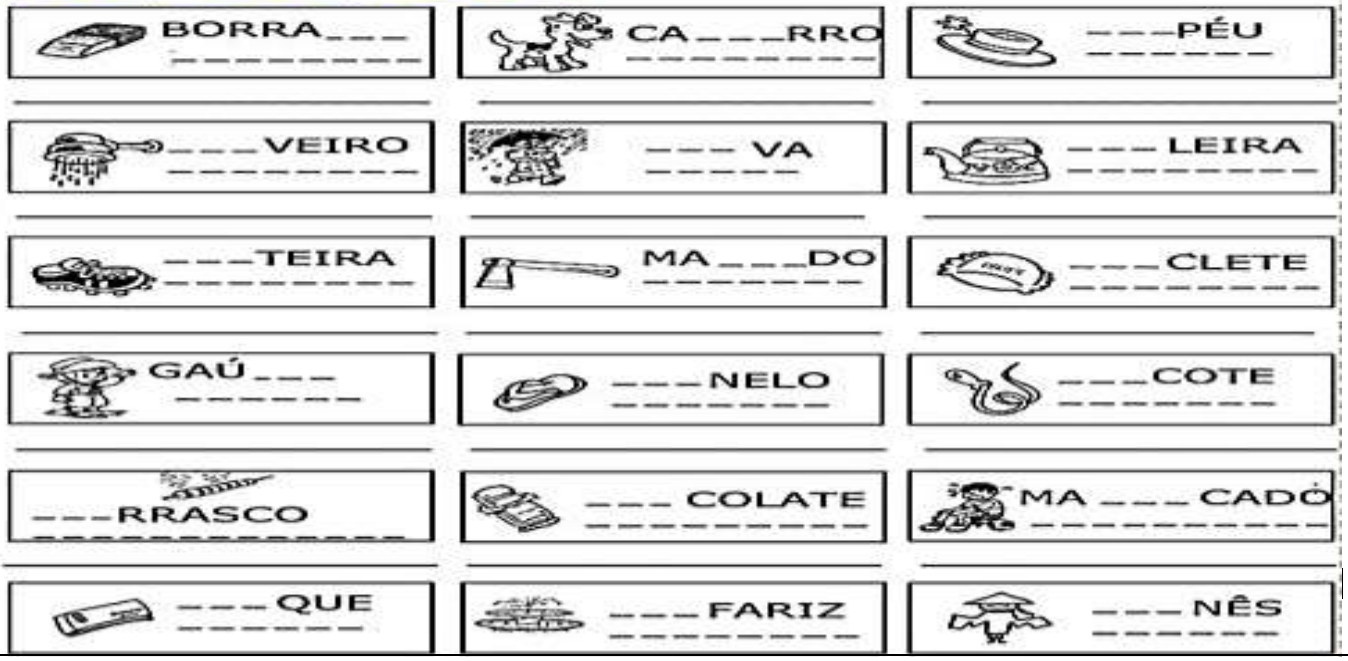

ESTADO DE MATO GROSSO DO SUL
MUNICÍPIO DE LADÁRIO
SECRETARIA MUNICIPAL DE EDUCAÇÃO
ESCOLA MUNICIPAL NELSON MANGABEIRA

PROFESSORA: ROSÂNGELA TEIXEIRA PÉCORA	TURMA: 2º ANO B
ENSINO FUNDAMENTAL I	TURNO: MATUTINO
COMPONENTE CURRICULAR: LÍNGUA PORTUGUESA	PERÍODO: 19/11 –23/11/2020
ALUNO (A):	

ATIVIDADE DE LÍNGUA PORTUGUESA

COMO É O MOSQUITO QUE TRANSMITE A DENGUE?

É um mosquito rajado, geralmente escuro, com manchas brancas no corpo. Sua maior característica é a presença de um desenho prateado na parte dorsal do tórax. Ele pica principalmente durante o dia. A fêmea se alimenta de sangue, pois é necessário para o amadurecimento dos ovos.

Qual é o período em que o mosquito da dengue ataca? Marque a resposta mais adequada:

- ☐ À NOITE.
- ☐ À TARDE.
- ☐ DURANTE O DIA.
- ☐ DURANTE O SONO.

PERIODO DE 24/11 - 25/11/2020

1 - Complete as palavras abaixo com:



ESTADO DE MATO GROSSO DO SUL
MUNICÍPIO DE LADÁRIO
SECRETARIA MUNICIPAL DE EDUCAÇÃO
ESCOLA MUNICIPAL NELSON MANGABEIRA

PROFESSORA: ROSÂNGELA TEIXEIRA PÉCORA	TURMA: 2º ANO B
ENSINO FUNDAMENTAL I	TURNO: MATUTINO
COMPONENTE CURRICULAR: LINGUA PORTUGUESA	PERÍODO: 26-11- 27-11-2020
ALUNO (A):	

ATIVIDADE DE LINGUA PORTUGUESA

PIOLHO, NÃO!

1) Leia o anúncio e, depois, responda:

QUER ACABAR COM O PIOLHO?

Use PIDIOLHO



Mata piolhos e lêndeas
É barato e vale muito...
Passe com algodão molhado na cabeça e lave após meia hora.

a) Qual é o nome do medicamento?

_____

b) Para que ele é usado?

_____

_____

c) Como se deve usar o medicamento?

_____

_____

2) Adivinhe: O que é, o que é que anda com os pés na cabeça?

PERIODO DE 30/11 - 01/12/2020

QUAL É O PONTO

Pontue corretamente as frases abaixo com: [?] ou [!]

- Como a praça está cheia
- Ai Que dor de cabeça
- Quem é esta menina
- Puxa Que doce gostoso
- Quantos anos você tem
- Nossa Como você é legal
- Quantas horas são
- Como o céu está bonito
- Que dia é hoje
- Como você está bonita
- Você quer um doce



ESTADO DE MATO GROSSO DO SUL
MUNICÍPIO DE LADÁRIO
SECRETARIA MUNICIPAL DE EDUCAÇÃO
ESCOLA MUNICIPAL NELSON MANGABEIRA

PROFESSORA: ROSÂNGELA TEIXEIRA PÉCORA	TURMA: 2º ANO B
ENSINO FUNDAMENTAL I	TURNO: MATUTINO
COMPONENTE CURRICULAR: LINGUA PORTUGUESA	PERÍODO: 02-12- 03-12-2020
ALUNO (A):	

ATIVIDADE DE LINGUA PORTUGUESA

Leia a tirinha e responda.



Copyright © 2000 Mauricio de Sousa Produções Ltda. Todos os direitos reservados. 5882

Cebolinha soube que Magali estava brincando com Cascão por que:

- ☐ Ela contou para ele.
- ☐ Ele viu as marcas das mãos sujas do cascão.
- ☐ Cebolinha estava vendo escondido.
- ☐ Cascão correu e contou para Cebolinha.

Leia a tirinha e responda a questão abaixo.



Copyright © 2002 Mauricio de Sousa Produções Ltda. Todos os direitos reservados. 7405

Podemos perceber lendo na tirinha acima que:

- ☐ Magali adora comer borboleta.
- ☐ Magali achou a mão do Cebolinha doce.
- ☐ Magali só pensa em comida.
- ☐ Cebolinha deu um soco na Magali.

ESTADO DE MATO GROSSO DO SUL
MUNICÍPIO DE LADÁRIO
SECRETARIA MUNICIPAL DE EDUCAÇÃO
ESCOLA MUNICIPAL NELSON MANGABEIRA

PROFESSORA: ROSÂNGELA TEIXEIRA PÉCORA	TURMA: 2º ANO B
ENSINO FUNDAMENTAL I	TURNO: MATUTINO
COMPONENTE CURRICULAR: MATEMÁTICA	PERÍODO: 03-11 – 05-11-2020
ALUNO (A):	

ATIVIDADE DE MATEMÁTICA

COMPLETE O PERCURSO EM ORDEM DECRESCENTE E AJUDE O MENINO A ENCONTRAR SUA BOLA.



50 49 ◯ ◯ 46 45 ◯ 43

33 34 ◯ 36 ◯ 38 ◯ ◯ 41 ◯ ◯

31 ◯ ◯ 28 ◯ 26 25 ◯ 23 22 ◯

11 ◯ 13 14 ◯ 16 17 ◯ 19 ◯ ◯

9 ◯ 7 ◯ ◯ 4 3 ◯ ◯

PERÍODO: 06/11 - 09/11/2020

1) Troque as parcelas de lugar e resolva as operações. Veja o modelo:

⊕		⊕		Total
2	3	3	2	5
3	5			
4	2			
7	1			
5	4			
6	0			



2) O que você observou ao trocar as parcelas de lugar? Marque a resposta correta.

◯ O resultado ficou diferente.

◯ O resultado permaneceu o mesmo.

3) Escreva as adições representadas na forma vertical.



_____
+_____
_____



_____
+_____
_____



_____
+_____
_____

ESTADO DE MATO GROSSO DO SUL
MUNICÍPIO DE LADÁRIO
SECRETARIA MUNICIPAL DE EDUCAÇÃO
ESCOLA MUNICIPAL NELSON MANGABEIRA

PROFESSORA: ROSÂNGELA TEIXEIRA PÉCORA	TURMA: 2º ANO B
ENSINO FUNDAMENTAL I	TURNO: MATUTINO
COMPONENTE CURRICULAR: MATEMÁTICA	PERÍODO: 10-11 – 11-11-2020
ALUNO (A):	

ATIVIDADE DE MATEMÁTICA

NA TRILHA COM OS NÚMEROS PARES

Complete a trilha, escrevendo somente os números pares.



PERÍODO: 13/11 - 16/11/2020

Observe o trenzinho.

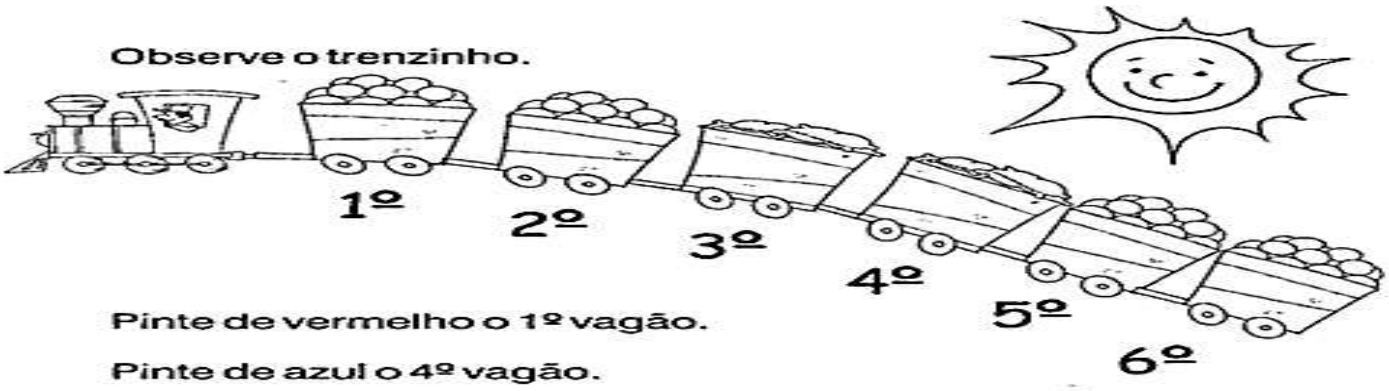

Pinte de vermelho o 1º vagão.

Pinte de azul o 4º vagão.

Qual é o último vagão? _____

Junto com a professora complete com o número ordinal.
Observando o quadro.

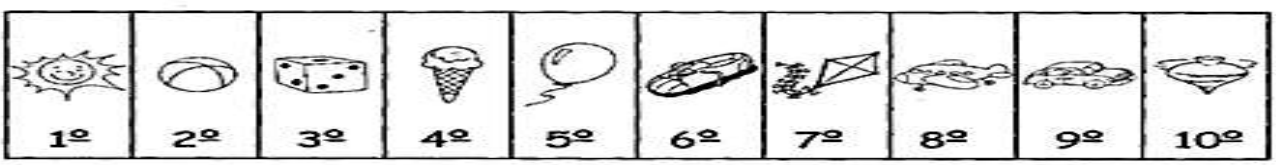

O 4º é o sorvete
O _____ é o sol
O _____ é o sapato
O _____ é a bola

O _____ é o pião
O _____ é o balão
O _____ é o carro

ESTADO DE MATO GROSSO DO SUL
MUNICÍPIO DE LADÁRIO
SECRETARIA MUNICIPAL DE EDUCAÇÃO
ESCOLA MUNICIPAL NELSON MANGABEIRA

PROFESSORA: ROSÂNGELA TEIXEIRA PÉCORA	TURMA: 2º ANO B
ENSINO FUNDAMENTAL I	TURNO: MATUTINO
COMPONENTE CURRICULAR: MATEMÁTICA	PERÍODO: 17/11 – 19/11 - 23/11/- 2020
ALUNO (A):	

ATIVIDADE DE MATEMÁTICA

COMPLETE



6 + 2 = ☐
4 + 3 = ☐
5 + 2 = ☐
7 + 2 = ☐
4 + 4 = ☐

3 + 2 = ☐
8 + 1 = ☐
6 + 3 = ☐
2 + 2 = ☐
4 + 6 = ☐

3 + ☐ = 4
☐ + 4 = 6
5 + ☐ = 8
☐ + 3 = 7
2 + ☐ = 5

☐ + 6 = 9
5 + ☐ = 14
☐ + 4 = 10
2 + ☐ = 7
☐ + 5 = 12

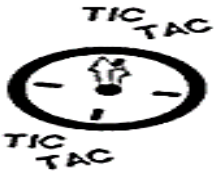

PERÍODO: 24/11 - 26/11/2020

7- Resolva as operações:



8- Conte os paus:

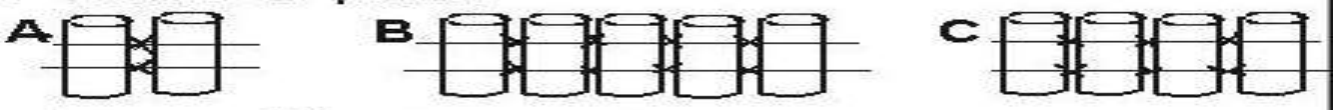

- A cerca A tem .....paus.
- A cerca B tem .....paus.
- A cerca C tem .....paus.
-Qual delas é a maior?.....
- E a menor?.....
- Todas as cercas juntas tem .....paus.
- A metade de A..... e C.....
- O dobro de A..... B..... C.....

A + B:..... B + C:..... A + C:.....
A + A:..... C + C:..... B + B:.....
B – A:..... B – C:..... C – A :.....

ESTADO DE MATO GROSSO DO SUL
MUNICÍPIO DE LADÁRIO
SECRETARIA MUNICIPAL DE EDUCAÇÃO
ESCOLA MUNICIPAL NELSON MANGABEIRA

PROFESSORA: ROSÂNGELA TEIXEIRA PÉCORA	TURMA: 2º ANO B
ENSINO FUNDAMENTAL I	TURNO: MATUTINO
COMPONENTE CURRICULAR: MATEMÁTICA	PERÍODO: 27/11 – 30/11-2020
ALUNO (A):	

ATIVIDADE DE MATEMÁTICA

MULTIPLICAÇÃO? É LEGAL!

Observe as ilustrações e responda efetuando as multiplicações abaixo:

1- Há quantos picolés no total?



____ x ____ = ____

2- Quantas bolas há ao todo?



____ x ____ = ____

3- Qual o número total de crianças abaixo?



____ x ____ = ____

PERÍODO: 01/12 - 03/12/2020

VAMOS COMPLETAR A TABUADA?



ESTADO DE MATO GROSSO DO SUL
MUNICÍPIO DE LADÁRIO
SECRETARIA MUNICIPAL DE EDUCAÇÃO
ESCOLA MUNICIPAL NELSON MANGABEIRA

PROFESSORA: ROSÂNGELA TEIXEIRA PÉCORA	TURMA: 2º ANO B
ENSINO FUNDAMENTAL I	TURNO: MATUTINO
COMPONENTE CURRICULAR: HISTÓRIA	PERÍODO: 03/11- 04/11/2020
ALUNO (A):	

ATIVIDADE DE HISTÓRIA

FASES DA VIDA

COM O PASSAR DO TEMPO NÓS CRESCEMOS E NOSSO CORPO SE MODIFICA. PASSAMOS POR DIFERENTES FASES NA VIDA.

❖ DESCUBRA EM QUE FASE DA VIDA ESTA CADA PERSONAGEM E NUMERE-AS CORRETAMENTE.



1) ESTOU NA FASE EM QUE MEU CORPO APRESENTA MUITAS LIMITAÇÕES. TENHO MUITAS EXPERIÊNCIAS QUE CONSEGUI AO LONGO DA VIDA.

2) SAI DA ADOLESCÊNCIA, TRABALHO E CONHEÇO MINHAS RESPONSABILIDADES.

3) ESTOU COMEÇANDO A CONHECER O MUNDO E ESTOU EM CRESCIMENTO.

❖ ESCREVA CADA FASE QUE SE ENCONTRAM ESSES PERSONAGENS.

1-

2-

3-

ESTADO DE MATO GROSSO DO SUL
MUNICÍPIO DE LADÁRIO
SECRETARIA MUNICIPAL DE EDUCAÇÃO
ESCOLA MUNICIPAL NELSON MANGABEIRA

ESCOLA MUNICIPA NELSON MANGABEIRA	
PROFESSORA: ROSÂNGELA TEIXEIRA PÉCORA	TURMA: 2º ANO B
ENSINO FUNDAMENTAL I	TURNO: MATUTINO
COMPONENTE CURRICULAR: HISTÓRIA	PERÍODO: 10/11--11/11/2020
ALUNO (A):	

ATIVIDADE DE HISTÓRIA

Data comemorativa

15 DE NOVEMBRO – PROCLAMAÇÃO DA REPÚBLICA



Escolha a opção correta:

- Quando foi que o Brasil deixou de ser governado por imperador?
  - ☐ 7 de setembro
  - ☐ 15 de novembro de 1889
  - ☐ 21 de abril
- Quem proclamou a República no Brasil?
  - ☐ Dom Pedro I
  - ☐ Tiradentes
  - ☐ Marechal Deodoro da Fonseca

ESTADO DE MATO GROSSO DO SUL
MUNICÍPIO DE LADÁRIO
SECRETARIA MUNICIPAL DE EDUCAÇÃO
ESCOLA MUNICIPAL NELSON MANGABEIRA

PROFESSORA: ROSÂNGELA TEIXEIRA PÉCORA	TURMA: 2º ANO B
ENSINO FUNDAMENTAL I	TURNO: MATUTINO
COMPONENTE CURRICULAR: HISTÓRIA	PERÍODO: 17/11 - 18/11 -24/11/2020
ALUNO (A):	

ATIVIDADE DE HISTÓRIA

DIA DA BANDEIRA

1. PINTE SOMENTE AS LETRINHAS QUE FORMAM O NOME DA DATA COMEMORATIVA DE HOJE.



N	B	T	A	N	F	D	G	E	I	M	R	S	A

2. QUAL É O MÊS QUE COMEMORAMOS O DIA DA BANDEIRA E A PROCLAMAÇÃO DA REPÚBLICA.

N	I	O	V	T	F	E	J	M	B	D	R	P	O

3. FAÇA UM X NA RESPOSTA CORRETA

O QUE ESTÁ ESCRITO NA BANDEIRA BRASILEIRA:

A) AMO A PÁTRIA.
B) ORDEM E PROGRESSO.
C) BRASIL BRASILEIRO.



4. AS ESTRELAS REPRESENTAM OS:

A) ESTADOS BRASILEIROS.
B) HABITANTES.
C) ANIMAIS.

5. QUAIS SÃO AS CORES AS BANDEIRA?

A) MARROM, ROSA, VERMELHO E CINZA.
B) PRETO, AZUL, LARANJA E VERDE.
C) VERDE, AMARELO, AZUL E BRANCO.

ESTADO DE MATO GROSSO DO SUL
MUNICÍPIO DE LADÁRIO
SECRETARIA MUNICIPAL DE EDUCAÇÃO
ESCOLA MUNICIPAL NELSON MANGABEIRA

ESCOLA MUNICIPA NELSON MANGABEIRA	
PROFESSORA: ROSÂNGELA TEIXEIRA PÉCORA	TURMA: 2º ANO B
ENSINO FUNDAMENTAL I	TURNO: MATUTINO
COMPONENTE CURRICULAR: HISTÓRIA	PERÍODO: 25/11 - 01/12 - 02/12/2020
ALUNO (A):	

ATIVIDADE DE HISTÓRIA

Leia o texto abaixo.



5.O que significa a palavra " **luto**" na frase:



( ) A data marca a morte de Zumbi.
( ) A data marca a luta dos negros pela liberdade.
( ) A data marca a morte de negros que lutaram pela liberdade.

---

6. Procure no dicionário o significado das palavras:

Luta_____

Luto _____

Resistência _____

ESTADO DE MATO GROSSO DO SUL
MUNICÍPIO DE LADÁRIO
SECRETARIA MUNICIPAL DE EDUCAÇÃO
ESCOLA MUNICIPAL NELSON MANGABEIRA

PROFESSORA: ROSÂNGELA TEIXEIRA PÉCORA	TURMA: 2º ANO B
ENSINO FUNDAMENTAL I	TURNO: MATUTINO
COMPONENTE CURRICULAR: GEOGRAFIA	PERÍODO: 04/11 – 05/10/2020
ALUNO (A):	

ATIVIDADE DE GEOGRAFIA

NUMERE A 2º COLUNA DE ACORDO COM A 1ª:

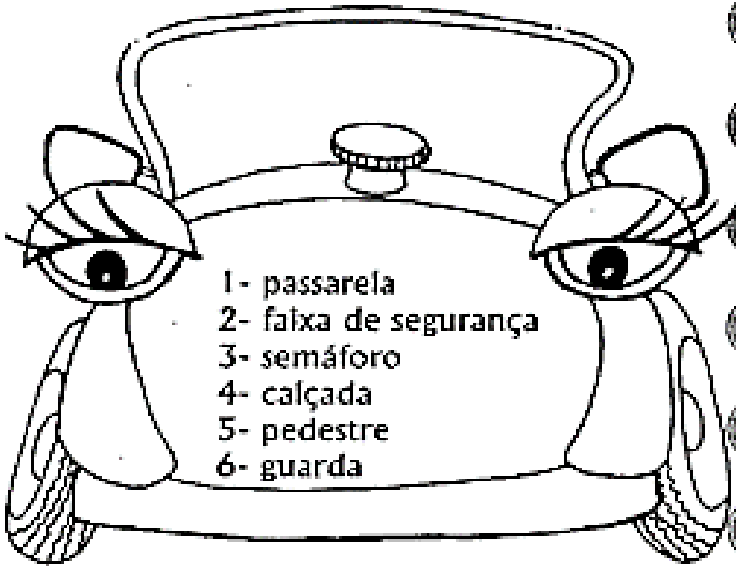

( ) Lugar onde andam os pedestres.

( ) Pessoas que andam a pé.

( ) Local onde as pessoas atravessam a rua.

( ) Construção sobre as ruas.

( ) Pessoa que nos orienta no trânsito.

( ) Sinalização luminosa no trânsito.

AGORA, A PARTIR DAS PALAVRAS DA ATIVIDADE ANTERIOR, FORME FRASES BEM INTERESSANTES!

passarela _____

faixa de segurança _____

semáforo _____

calçada _____

pedestre _____

guarda _____

ESTADO DE MATO GROSSO DO SUL
MUNICÍPIO DE LADÁRIO
SECRETARIA MUNICIPAL DE EDUCAÇÃO
ESCOLA MUNICIPAL NELSON MANGABEIRA

ESCOLA MUNICIPA NELSON MANGABEIRA	
PROFESSORA: ROSÂNGELA TEIXEIRA PÉCORA	TURMA: 2º ANO B
ENSINO FUNDAMENTAL I	TURNO: MATUTINO
COMPONENTE CURRICULAR: GEOGRAFIA	PERÍODO:11/11 – 12/11/2020
ALUNO (A):	

ATIVIDADE DE GEOGRAFIA

Meios de comunicação

1. Ligue corretamente.

Serve para ouvir música.

É enviada pelo correio.

Serve para conversar com pessoas que estão distantes.

Nele, lemos as notícias do Brasil e do mundo.

Nela, assistimos a novelas, desenhos e filmes.

Serve para entrar na internet e obter informações.



2. Pinte o meio de comunicação mais utilizado por você.

ESTADO DE MATO GROSSO DO SUL
MUNICÍPIO DE LADÁRIO
SECRETARIA MUNICIPAL DE EDUCAÇÃO
ESCOLA MUNICIPAL NELSON MANGABEIRA

ESCOLA MUNICIPA NELSON MANGABEIRA	
PROFESSORA: ROSÂNGELA TEIXEIRA PÉCORA	TURMA: 2º ANO B
ENSINO FUNDAMENTAL I	TURNO: MATUTINO
COMPONENTE CURRICULAR: GEOGRAFIA	PERÍODO: 18/11 – 19/11 -25/11/2020
ALUNO (A):	

ATIVIDADE DE GEOGRAFIA

Bandeira brasileira

1. Pinte a bandeira do Brasil com as cores correspondentes.

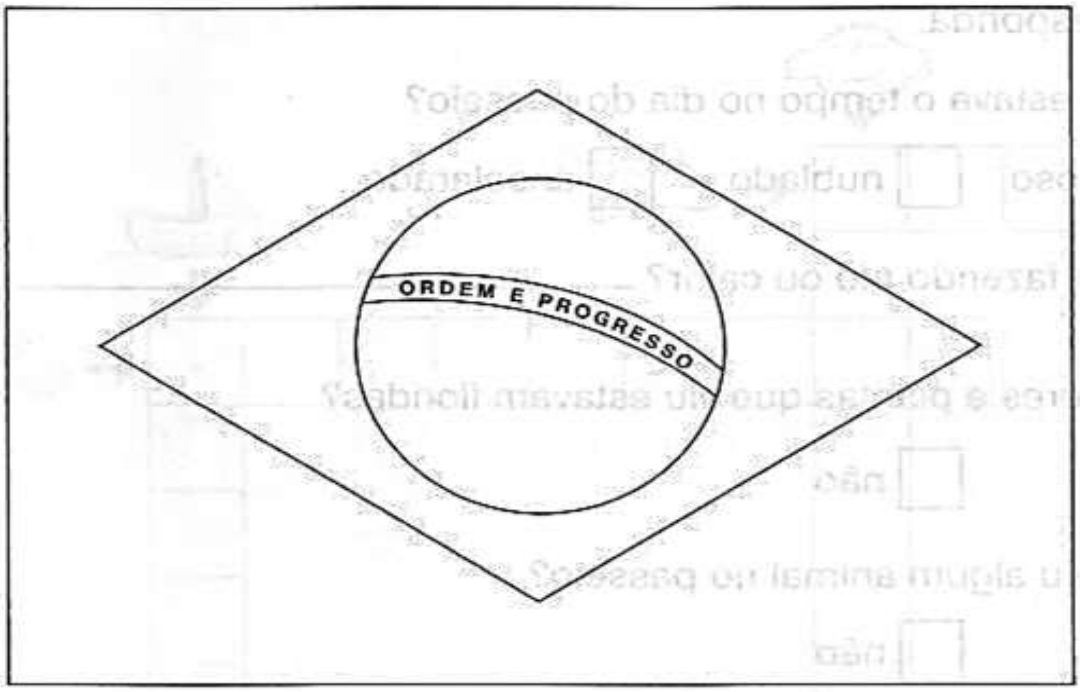

2. Enumere a 2ª coluna de acordo com a 1ª.

(1) Verde	( ) Representa o céu.
(2) Amarelo	( ) Representa nossas matas.
(3) Azul	( ) Representam os Estados.
(4) Branco	( ) Representa o nosso ouro, nossas riquezas.
(5) Estrelas	( ) Representa a paz.

ESTADO DE MATO GROSSO DO SUL
MUNICÍPIO DE LADÁRIO
SECRETARIA MUNICIPAL DE EDUCAÇÃO
ESCOLA MUNICIPAL NELSON MANGABEIRA

PROFESSORA: ROSÂNGELA TEIXEIRA PÉCORA	TURMA: 2º ANO B
ENSINO FUNDAMENTAL I	TURNO: MATUTINO
COMPONENTE CURRICULAR: GEOGRAFIA	PERÍODO: 26/11 – 02//12 -03/12/2020
ALUNO (A):	

ATIVIDADE DE GEOGRAFIA

BRINCANDO E COMPLETANDO

Escreva as letras que faltam e descubra as quatro estações do ano.



P I O V



Relacione a 2ª coluna de acordo com 1ª, conforme os meses em que ocorrem as estações do ano.

① Primavera	( ) De março a junho.
② Verão	( ) De setembro a dezembro.
③ Outono	( ) De junho a setembro.
④ Inverno	( ) De dezembro a março.



A inclinação da Terra dá origem às estações do ano.