Escola Municipal Nelson Mangabeira.

Ladário, _____ de abril de 2020.

Professor (a): Rosângela Teixeira Pécora.

Aluno(a):_____

Série: 2º Ano Turma: B Turno: Matutino

SIMULADO DE MATEMÁTICA

1- Conte quantos gatinhos aparecem na imagem:



☐ 5 ☐ 6 ☐ 7 ☐ 8

2- Maria ganhou oito pirulitos. Comeu 3. Marque um X no quadradinho que indica quantos pirulitos ela ainda tem.

☐ 8 ☒ 7 ☐ 6 ☐ 5

3- Que horas esta marcando o relógio?

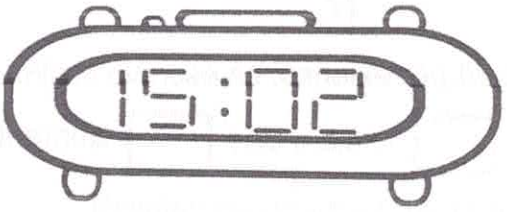

☐ 11 horas e 10 minutos.

☐ 15 horas.

☐ 15 horas e 2 minutos.

☐ 11 horas.

4- O que as crianças estão brincando?



☐ De futebol.

☐ De boneca.

☐ De pular corda.

☐ De esconde, esconde.

5-Veja esta caixa de balas.



Carolina ganhou uma caixa iguais a essa, com 3 balas cada uma. Marque quantas balas recebeu?

☐ 3 ☐ 6 ☐ 8 ☐ 9

6- Qual a forma geométrica do dado?



☐ Círculo ☐ Triângulo ☐ Retângulo ☐ Quadrado

7- Qual o valor desta moeda?



☐ 5 centavos ☐ 50 centavos ☐ 5 reais ☐ 1 real

8- Qual é o dia que fica entre 24 e 26?



☐ ☐

☐ **26** ☐

24 **25**

26 **27**

9- Este é o número 36 por extenso, se escreve assim.

☐ Vinte e seis ☐ Trinta e seis ☐ Quarenta e seis ☐ cinquenta e seis

10-Complete o gráfico com os dados da imagem.



12						
11						
10						
9						
8						
7						
6						
5						
4						
3						
2						
1						

Escola Municipal Nelson Mangabeira.

Ladário, _____ de abril de 2020.

Professor (a): Rosângela Teixeira Pécora.

Aluno(a):_____

Série: 2º Ano Turma: B Turno: Matutino

SIMULADO DE HISTÓRIA

EU SOU ASSIM...



EU ME CHAMO _____.

MEU APELIDO É _____.

EU TENHO _____ ANOS.

NASCI NA CIDADE DE _____, NO DIA _____, NO MÊS DE _____ E NO ANO DE _____.

MEUS OLHOS SÃO _____ E MEUS CABELOS SÃO _____.

EU ESTUDO NA ESCOLA _____.

O QUE MAIS GOSTO É DE _____.

NÃO GOSTO DE _____.

EU SOU ASSIM: _____

AO NASCER, TODA CRIANÇA TEM O DIREITO DE RECEBER UM NOME E UM SOBRENOME. O SOBRENOME INDICA À FAMILIA À QUAL PERTENCEMOS.

ESCREVA O SEU NOME COMPLETO:

_____

tão 5- ESTA É A ÁRVORE GINEALÓGICA DA FAMILIA DE BÁRBARA:

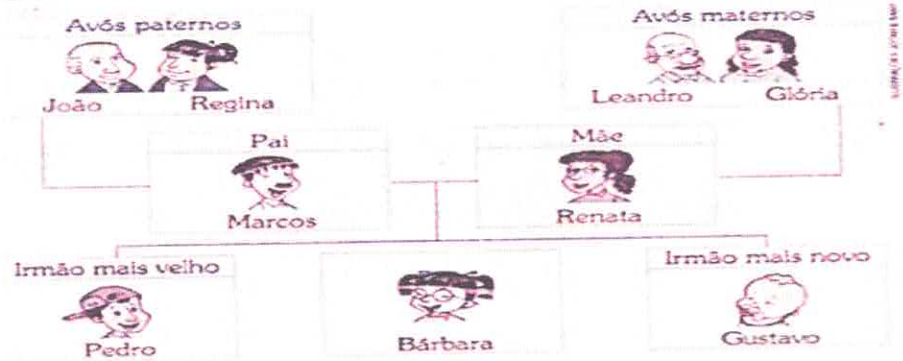

) COMO SE CHAMAM OS IRMÃO DE BÁRBARA?

_____

) QUEM É O IRMÃO MAIS VELHO?_____ E O MAIS NOVO?

_____

) COMO CHAMAM OS PAIS DE BÁRBARA?_____

) JOÃO E REGINA SÃO AVÓS_____

Escola Municipal Nelson Mangabeira.

Ladário, _____ de abril de 2020.

Professor (a): Rosângela Teixeira Pécora.

Aluno(a):_____

Série: 2º Ano Turma: B Turno: Matutino

SIMULADO DE GEOGRAFIA

1. Aprendemos que a casa é o lugar onde as pessoas se abrigam e convivem. Nossa casa é dividida em partes chamadas cômodos. Observe a representação da casa abaixo e responda:

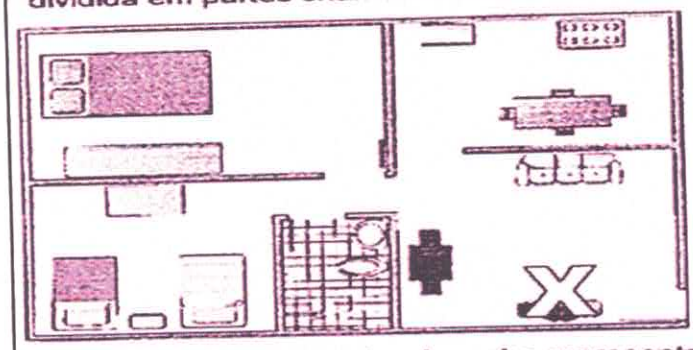

a. Quantos cômodos têm? _____

b. Quantos quartos? _____

c. Qual o cômodo marcado com **X**?

_____

2. Agora temos um outro desenho representando uma casa. Observe bem o desenho, escreva o nome de cada parte e faça o que se pede:

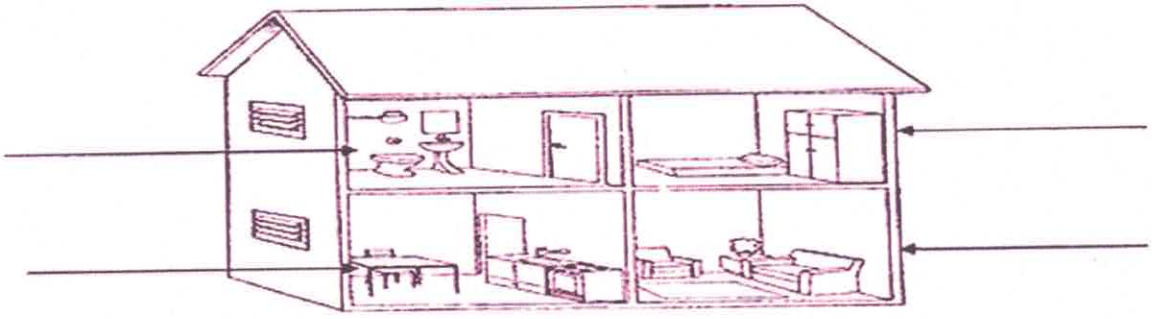

a. Pinte de verde o lugar onde você toma banho.
b. Circule os móveis do cômodo onde você dorme.
c. Pinte a o lugar onde fazemos comida de amarelo.
d. Faça um x na parte da casa onde assistimos televisão.

Tipos de Moradia

Escreva o nome destes tipo de moradia.



_____



_____

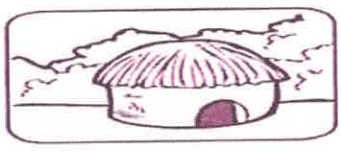

_____



_____



_____



_____



_____

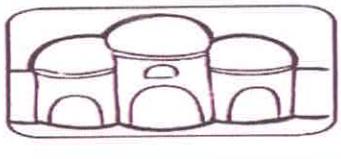

_____

iglu	palacete	palafita	tijolo	tenda	madeira	pedra	oca

Escola municipal Nelson mangabeira.

Ladário, _____de abril de 2020.

Professora: Rosângela Teixeira Pécora

Aluno: _____

Série: 2º ano Turma: B Turno: Matutino

Sondagem de Matemática

Objetivo: identificar a função social dos números no cotidiano.

1. Os números são muito úteis no nosso dia. Escreva três lugares nos quais podemos usar números em nossa vida diária:



Objetivo: resolver adições simples

2. Resolva as adições e descubra a quem pertence cada animal de estimação, relacionando os resultados:

15
+ 13



O CÃO É DE _____

20
+ 5



O GATO É DE _____

12
+ 12

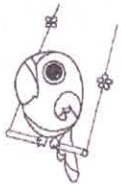

O PÁSSARO É DE _____

	JONAS 24		GILDA 28		MIRTES 25

Objetivo: resolver subtrações simples.

3. Resolva as subtrações:



10	14	22	49
-10	-11	-10	-21

Objetivo: solucionar situações-problema de modo convencional ou por estratégias próprias.

4. Marquinhos tem uma coleção de bonecos guerreiros. Ela já tem 25 e sua mãe lhe deu de aniversário mais 12. Com quantos guerreiros marquinhos ficou em sua coleção?



Resposta: _____

5. Luciana ganhou de sua tia uma caixa com 18 bombons e ela já comeu 6. Quantos bombons sobraram na caixa?



Resposta: _____

6. Escreva números de 0 a 50.

_____

_____

_____

_____

ESCOLA MUNICIPAL NELSON MANGABEIRA.

LADÁRIO, _____DE ABRIL DE 2020.

PROFESSORA: ROSÂNGELA TEIXEIRA PÉCORA

ALUNO: _____

SÉRIE: 2º ANO TURMA: B TURNO: MATUTINO



Atividade Pedagógica Complementar

Senhores Pais/ responsáveis: segue abaixo a lista de lições do mês de 2 de abril até 18 de abril. Os números no canto DIREITO superior de cada quadrinho se referem aos dias do mês.

- Lembrem-se que, em cada lição, deverá ser repassada no caderno e haver um cabeçalho, disciplina e enunciado.

DISCIPLINA LÍNGUA PORTUGUESA

ABRIL

SEGUNDA	TERÇA	QUARTA	QUINTA	SEXTA	SÁBADO
			02 ESCREVA SEU NOME COMPLETO 4 VEZES, CADA VEZ DE UMA COR DIFERENTE.	03 ESCREVA O ALFABETO CURSIVO MAIÚSCULO E DEPOIS CIRCULE AS VOGAIS.	04 ESCREVA O ALFABETO CURSIVO MINÚSCULO E DEPOIS CIRCULE AS CONSOANTES.
06 RECORTE 5 FIGURAS E COLE-AS NO CADERNO. ESCREVA UMA FRASE PARA CADA UMA DELAS.	07 ESCREVA DEZ PALAVRAS COM ENCONTROS VOCÁLICOS Encontro vocálico Ai - Oi - Ui - Ei - Au Escreva os encontros vocálicos de acordo com o desenho AI AU OI UI AU OI UI AI	08 COLOQUE AS PALAVRAS EM ORDEM ALFABÉTICA. FACA-BOLA- IVO-GATO-DEDO-UVA-AVE-CASA-EMA--JACA-KIWI-JACA-VACA-XALÉ LATA-SAPO-PATO HORA-MALA-ZEBU-RATO-OVO-YURI-QUEIJO-TATU-WAFER-NAVIO.	09 VAMOS TREINAR A ESCRITA. ESCREVA 10 PALAVRAS COM A FAMÍLIA SILÁBICA DO M MA-ME- MI-MO-MU.	10 SONDAGEM DE LÍNGUA PORTUGUESA. ATIVIDADE XEROCADA ANEXA A FOLHA DE ATIVIDADES PEDAGÓGICAS COMPLEMENTARES.	11 DESENHO UM COELHO. ESCREVA FRASES COM AS PALAVRAS; COELHO OVO CHOCOLATE JESUS PÁSCOA
13 SEPARE EM SÍLABAS AS PALAVRAS; CAMAROTE CANIVETE CAMARADA CAMALOTE CAÇAROLA CARAMELO CARAMUJO	14 JUNTE AS SÍLABAS E FORME PALAVRAS . FA+CA+DA= MA+LE+TA= SA+PA+TO= PA+NE+LA= CA+NE+TA= JA+NE=LA= RA+PA+DU+RA=	15 ESCREVA O NOME DE 10 FRUTAS E ESCOLHA TRÊS PARA FAZER UMA FRASE.	16 SIMULADO AVALIATIVO DE LÍNGUA PORTUGUESA ATIVIDADE XEROCADA ANEXA A FOLHA DE ATIVIDADES PEDAGÓGICAS COMPLEMENTARES.	17 PINTE OS ECONTROS VOCÁLICOS DAS PALAVRAS; POUCO- PEIXE-CAIXA-LEITE-PAI CACAU-TOUCA CUIDA-PAULADA PIEDADE- LOUCA COURO-MEU-	18 LEITURA; CANTIGA POPULAR. A BARATA DIZ QUE TEM! ATIVIDADES NAS PÁGINAS 19 E 20, LIVRO DIDÁTICO ÁPIS DE ANA TRINCONI, TEREZINHA BERTIN E VERA MARCHEZI

ENTREGUE: 02/04/2020

CIENTE. PROFª. R. Pécora

CIENTE.RESP._____

ESCOLA MUNICIPAL NELSON MANGABEIRA.

LADÁRIO, _____DE ABRIL DE 2020.

PROFESSORA: ROSÂNGELA TEIXEIRA PÉCORA

ALUNO: _____

SÉRIE: 2º ANO TURMA: B TURNO: MATUTINO



Atividade Pedagógica Complementar

Senhores Pais/ responsáveis: segue abaixo a lista de lições do mês de 2 de abril até 18 de abril. Os números no canto DIREITO superior de cada quadrinho se referem aos dias do mês.

- Lembrem-se que, em cada lição, deverá ser repassada no caderno e haver um cabeçalho, disciplina e enunciado.

DISCIPLINA MATEMÁTICA

ABRIL

SEGUNDA	TERÇA	QUARTA	QUINTA	SEXTA	SÁBADO
			02 FAÇA A SEQUÊNCIA NUMÉRICA 0 ATÉ 50.	03 ESCREVA DE 2 EM 2 DE O Á 54.	04 CALCULE MENTALMENTE. 4+7= 6+6= 8+4= 7+5= 5+5= 9+2= 6+8= 10+3=
06 COLOQUE O SUCESSOR E ANTECESSOR DOS NÚMEROS. ------8------- ------13----- ------24----- ------35----- ------46----	07 CIRCULE OS NÚMEROS MENORES QUE 49. 53- 09- 62- 11 - 50- 13- 32- 73- 35- 81- 27- 94- 45- 04- 67 -20	08 	09 ARME E EFETUE AS SUBTRAÇÕES: 19-15= 19-6= 23-10= 22-19= 43-31= 34-22= 22-10= 38-16= 12-12= 15-13=	10 COLOQUE EM ORDEM CRESCENTE OS NUMERAIS; 19- 03- 11- 08- 04- 13- 01- 15- 05- 10- 18- 14- 16- 12- 06- 07- 00- 09- 17- 02	11 SONDAGEM DE MATEMÁTICA. ATIVIDADE XEROCADA ANEXA A FOLHA DE ATIVIDADES PEDAGÓGICAS COMPLEMENTARES.
13 PINTE OS NÚMEROS PARES DE AMARELO E ÍMPARES DE ROSA. 02- 17- 06- 11- 18- 23- 08- 13- 16- 01-14- 19- 04- 17- 10- 03- 12- 15- 20- 05	14 ESCREVA POR EXTENSO OS NUMERAIS: 02 12 05 13 07 15 09 18 11 20	15 	16 NÚMERO PAR E NÚMERO ÍMPAR. LIVRO DIDÁTICO ÁPIS DE LUIZ ROBERTO DANTE. PÁGINAS 38 E 39.	17 ARME E EFETUE AS ADIÇÕES: 12+15= 34+25= 59+10= 25+34= 24+20= 75=24= 26+52= 62+12= 41+34= 85+13=	18 SIMULADO AVALIATIVO DE MATEMÁTICA. ATIVIDADE XEROCADA ANEXA A FOLHA DE ATIVIDADES PEDAGÓGICAS COMPLEMENTARES.

ENTREGUE: 02/04/2020 CIENTE. PROFª. _____

ESCOLA MUNICIPAL NELSON MANGABEIRA.

LADÁRIO, _____DE ABRIL DE 2020.

PROFESSORA: ROSÂNGELA TEIXEIRA PÉCORA

ALUNO: _____

SÉRIE: 2º ANO TURMA: B TURNO: MATUTINO



Atividade Pedagógica Complementar

Senhores Pais/ responsáveis: segue abaixo a lista de lições do mês de 2 de abril até 18 de abril. Os números no canto DIREITO superior de cada quadrinho se referem aos dias do mês.

- Lembrem-se que, em cada lição, deverá ser repassada no caderno e haver um cabeçalho, disciplina e enunciado.

DISCIPLINA HISTÓRIA

ABRIL

SEGUNDA	TERÇA	QUARTA	QUINTA	SEXTA	SÁBADO
			02	03	04
06	07 ESCREVA AS INFORMAÇÕES SOBRE VOCÊ. SEU NOME: IDADE: NOME DA MÃE: NOME DO PAI: QUANTOS IRMÃOS: BRINQUEDO QUE GOSTA; COMIDA FAVORITA.	08 FAÇA UM AUTORETRATO DA SUA FAMÍLIA E ESCREVA O NOME DELES. FAÇA BEM COLORIDO.	09	10	11 DESENHE E PINTE OS SÍMBOLOS DA PÁSCOA. 
13	14 QUEM EU SOU? LIVRO DIDÁTICO ÁPIS DE ROGÉRIO G. NIGRO MARIA ELENA SIMIELLI E ANNA MARIA CHARLIER. ATIVIDADES DE LEITURA E EXERCICIOS DAS PÁGINAS DA 10 ATÉ A 15.	15 SIMULADO AVALIATIVO DE HISTÓRIA ATIVIDADE XEROCADA ANEXA A FOLHA DE ATIVIDADES PEDAGÓGICAS COMPLEMENTARES	16	17 	18

ENTREGUE: 02/04/2020

CIENTE. PROFª. _____

CIENTE.RESP._____

ESCOLA MUNICIPAL NELSON MANGABEIRA.

LADÁRIO, _____DE ABRIL DE 2020.

PROFESSORA: ROSÂNGELA TEIXEIRA PÉCORA

ALUNO: _____

SÉRIE: 2º ANO TURMA: B TURNO: MATUTINO



Atividade Pedagógica Complementar

Senhores Pais/ responsáveis: segue abaixo a lista de lições do mês de 2 de abril até 18 de abril. Os números no canto DIREITO superior de cada quadrinho se referem aos dias do mês.

- Lembrem-se que, em cada lição, deverá ser repassada no caderno e haver um cabeçalho, disciplina e enunciado.

DISCIPLINA GEOGRAFIA

ABRIL

SEGUNDA	TERÇA	QUARTA	QUINTA	SEXTA	SÁBADO
			02 FAÇA UM DESENHO DE SUA CASA, COM O MAIOR NÚMERO DE DETALHES POSSÍVEIS E ESCREVA O NOME DOS CÔMODOS.	03 TRABALHO FAÇA UMA MAQUETE SIMPLES DE SUA CASA.	04
06	07	08	09 RESPONDA AS PERGUNTAS; QUANTAS PESSOAS MORAM COM VOCÊ? QUAL NOME SUA RUA? QUE COR É SUA CASA? QUANTOS CÔMODOS ELA TEM? SUA CASA É DE MADEIRA OU ALVENARIA? QUAL A PARTE DA CASA QUE MAIS GOSTA DE FICAR?	10 PESQUISE E RESPONDA: DE QUE SÃO FEITAS AS CASAS? POR QUE AS CASAS SÃO TÃO DIFERENTES? QUAIS OS TIPOS DE CASA VOCÊ CONHECE? COMO GOSTARIA QUE FOSSE SUA CASA.	11
13 	14	15	16 SIMULADO AVALIATIVO DE GEOGRAFIA ATIVIDADE XEROCADA ANEXA A FOLHA DE ATIVIDADES PEDAGÓGICAS COMPLEMENTARES	17 DESENHE O TRAJETO DE SUA CASA ATÉ A ESCOLA, COLOCANDO OS COMÉRCIOS QUE ESTIVEREM NO CAMINHO	18 PEQUISA FEITA CADERNO. QUIAS OS BAIRROS QUE VOCÊ CONHECE, PEÇA AJUDA PARA OS PAIS.

ENTREGUE: 02/04/2020

CIENTE. PROFª. _____

CIENTE.RESP._____

Escola Municipal Nelson Mangabeira.

Ladário, _____ de abril de 2020.

Professor (a): Rosângela Teixeira Pécora.

Aluno(a):_____

Série: 2º Ano Turma: B Turno: Matutino



SIMULADO DE LÍINGUA PORTUGUESA

1-Observe a imagem e assinale o seu nome.

☐ CAMISOLA ☐ CAMISETA ☐ CARRINHO ☐ CAMIONETE

2-Com que letra começa esta gravura:



☐ C ☐ K ☐ G ☐ Ç

3- Assinale um **X** onde aparecem só letras:

☐ 

☐ 

☐ 

☐ 

4- O que as meninas estão fazendo:



☐ As meninas estão pulando amarelinha.

☐ As meninas estão pulando corda.

☐ As meninas jogam peteca.

☐ As meninas brincam de roda.

5- O que está escrito ao lado:

cigarra

☐ **Cimento**

☐ Cigarra

☐ **ciranda**

☐ *cinema*

6- Observe o desenho e diga com quantas sílabas se escreve o nome da figura.?



☐ 2 ☐ 3 ☐ 4 ☐ 5

7-Reescreva a frase para a letra cursiva.

O garoto gosta de tangerina.

8- Que gênero textual e este texto?

☐ Convite ☐ Anúncio

☐ Bilhete ☐ Propaganda.

Mamãe

Vou à casa do Felipe fazer a tarefa da escola.

Um beijo: Fabrício.

9- Quem escreveu o texto acima?

☐ Vizinha ☐ Felipe ☐ Fabrício ☐ Mamãe

9- O texto fala de quê?



☐ De uma brincadeira ☐ De uma doença

☐ Regras de jogo ☐ Reciclagem

BOA SORTE!!!!

E.M.E.I. Tilma Fernandes Veiga r Creche Valódia Serra.

ESCOLA MUNICIPAL NELSON MANGABEIRA.

LADÁRIO, _____DE ABRIL DE 2020.

PROFESSORA: ROSÂNGELA TEIXEIRA PÉCORA

ALUNO: _____

SÉRIE: 2º ANO TURMA: B TURNO: MATUTINO



Atividade Pedagógica Complementar

Senhores Pais/ responsáveis: segue abaixo a lista de lições do mês de 2 de abril até 18 de abril. Os números no canto DIREITO superior de cada quadrinho se referem aos dias do mês.

- Lembrem-se que, em cada lição, deverá ser repassada no caderno e haver um cabeçalho, disciplina e enunciado.

DISCIPLINA LÍNGUA PORTUGUESA

ABRIL

SEGUNDA	TERÇA	QUARTA	QUINTA	SEXTA	SÁBADO
			02 ESCREVA SEU NOME COMPLETO 4 VEZES, CADA VEZ DE UMA COR DIFERENTE.	03 ESCREVA O ALFABETO CURSIVO MAIÚSCULO E DEPOIS CIRCULE AS VOGAIS.	04 ESCREVA O ALFABETO CURSIVO MINÚSCULO E DEPOIS CIRCULE AS CONSOANTES.
06 RECORTE 5 FIGURAS E COLE-AS NO CADERNO. ESCREVA UMA FRASE PARA CADA UMA DELAS.	07 ESCREVA DEZ PALAVRAS COM ENCONTROS VOCÁLICOS  	08 COLOQUE AS PALAVRAS EM ORDEM ALFABÉTICA. FACA-BOLA- IVO-GATO-DEDO-UVA-AVE-CASA-EMA--JACA-KIWI-JACA-VACA-XALÉ LATA-SAPO-PATO HORA-MALA-ZEBU-RATO-OVO-YURI-QUEIJO-TATU-WAFER-NAVIO.	09 VAMOS TREINAR A ESCRITA. ESCREVA 10 PALAVRAS COM A FAMÍLIA SILÁBICA DO M MA-ME- MI-MO-MU.	10 SONDAGEM DE LÍNGUA PORTUGUESA. ATIVIDADE XEROCADA ANEXA A FOLHA DE ATIVIDADES PEDAGÓGICAS COMPLEMENTARES.	11 DESENHO UM COELHO. ESCREVA FRASES COM AS PALAVRAS; COELHO OVO CHOCOLATE JESUS PÁSCOA
13 SEPARE EM SÍLABAS AS PALAVRAS; CAMAROTE CANIVETE CAMARADA CAMALOTE CAÇAROLA CARAMELO CARAMUJO	14 JUNTE AS SÍLABAS E FORME PALAVRAS . FA+CA+DA= MA+LE+TA= SA+PA+TO= PA+NE+LA= CA+NE+TA= JA+NE=LA= RA+PA+DU+RA=	15 ESCREVA O NOME DE 10 FRUTAS E ESCOLHA TRÊS PARA FAZER UMA FRASE.	16 SIMULADO AVALIATIVO DE LÍNGUA PORTUGUESA ATIVIDADE XEROCADA ANEXA A FOLHA DE ATIVIDADES PEDAGÓGICAS COMPLEMENTARES.	17 PINTE OS ECONTROS VOCÁLICOS DAS PALAVRAS; POUCO- PEIXE-CAIXA-LEITE-PAI CACAU-TOUCA CUIDA-PAULADA PIEDADE- LOUCA COURO-MEU-	18 LEITURA; CANTIGA POPULAR. A BARATA DIZ QUE TEM! ATIVIDADES NAS PÁGINAS 19 E 20, LIVRO DIDÁTICO ÁPIS DE ANA TRINCONI, TEREZINHA BERTIN E VERA MARCHEZI

ENTREGUE: 02/04/2020 CIENTE. PROFª. _____

CIENTE.RESP._____

6- Observe o desenho e diga com quantas sílabas se escreve o nome da figura.?



☐ 2 ☐ 3 ☐ 4 ☐ 5

7-Reescreva a frase para a letra cursiva.

O garoto gosta de tangerina.

8- Que gênero textual e este texto?

☐ Convite ☐ Anúncio

☐ Bilhete ☐ Propaganda.

Mamãe

Vou à casa do Felipe fazer a tarefa da escola.

Um beijo: Fabrício.

9- Quem escreveu o texto acima?

☐ Vizinha ☐ Felipe ☐ Fabrício ☐ Mamãe

9- O texto fala de quê?



☐ De uma brincadeira ☐ De uma doença

☐ Regras de jogo ☐ Reciclagem

BOA SORTE!!!!

E.M.E.I. Tilma Fernandes Veiga r Creche Valódia Serra.

Escola Municipal Nelson Mangabeira.

Ladário, _____ de abril de 2020.

Professor (a): Rosângela Teixeira Pécora.

Aluno(a):_____

Série: 2º Ano Turma: B Turno: Matutino

SONDAGEM DE LÍNGUA PORTUGUESA

1. MARQUE UM X NO QUADRINHO EM QUE INDICA QUANTAS SÍLABAS TEM O NOME DA FIGURA

					
1 3 4 5	3 2 5 6	1 2 5 3	2 5 4 6	3 4 1 2	1 2 4 3

2. FAÇA UM X NAS TRÊS PALAVRAS QUE POSSUEM O MESMO SOM QUE SÃO AS RIMAS.

☐ MILHO – COLHER - SOL

☐ CHULÉ – CAFÉ - BONÉ

☐ VIDA – COMIDA -JANELA

☐ MEL – BALÃO - SOLA

3. FAÇA UM X NA PALAVRA QUE INDICA O NOME CORRETO DA FIGURA:

						
MILHO MICROFONE MICO	VERMELHO VELA VESTIDO	SALA SAIA SALVA	PANELA PALETA PATETA	LAMA CAMA FAMA	FERRO BERRO PERTO	NUCA NUVEM NUBLADO

4. LEIA , OBSERVE E RESPONDA:

MAMÃE:

ESTOU NA CASA DA ANA
PORQUE FUI ESTUDAR
MATEMÁTICA. BEIJOS

LUÍZA.
12/08/2010

A. ESTE TEXTO É UM:

☐ CONTO ☐ CARTA ☐ BILHETE

B. QUEM ESCREVEU?

☐ ANA ☐ LUÍZA ☐ MAMÃE

C. QUEM RECEBEU?

☐ MAMÃE ☐ ANA ☐ LUÍZA

E. QUAL FOI O ASSUNTO?

☐ PASSEIO ☐ ESTUDO ☐ VIAGEM

ESCOLA MUNICIPAL NELSON MANGABEIRA.

LADÁRIO, _____DE ABRIL DE 2020.

PROFESSORA: ROSÂNGELA TEIXEIRA PÉCORA

ALUNO: _____

SÉRIE: 2º ANO TURMA: B TURNO: MATUTINO



Atividade Pedagógica Complementar

Senhores Pais/ responsáveis: segue abaixo a lista de lições do mês de 2 de abril até 18 de abril. Os números no canto DIREITO superior de cada quadrinho se referem aos dias do mês.

- Lembrem-se que, em cada lição, deverá ser repassada no caderno e haver um cabeçalho, disciplina e enunciado.

DISCIPLINA MATEMÁTICA

ABRIL

SEGUNDA	TERÇA	QUARTA	QUINTA	SEXTA	SÁBADO
			02 FAÇA A SEQUÊNCIA NUMÉRICA 0 ATÉ 50.	03 ESCREVA DE 2 EM 2 DE O Á 54.	04 CALCULE MENTALMENTE. 4+7= 6+6= 8+4= 7+5= 5+5= 9+2= 6+8= 10+3=
06 COLOQUE O SUCESSOR E ANTECESSOR DOS NÚMEROS. ------8------- ------13----- ------24----- ------35----- ------46----	07 CIRCULE OS NÚMEROS MENORES QUE 49. 53- 09- 62- 11 - 50- 13- 32- 73- 35- 81- 27- 94- 45- 04- 67 -20	08 	09 ARME E EFETUE AS SUBTRAÇÕES: 19-15= 19-6= 23-10= 22-19= 43-31= 34-22= 22-10= 38-16= 12-12= 15-13=	10 COLOQUE EM ORDEM CRESCENTE OS NUMERAIS; 19- 03- 11- 08- 04- 13- 01- 15- 05- 10- 18- 14- 16- 12- 06- 07- 00- 09- 17- 02	11 SONDAGEM DE MATEMÁTICA. ATIVIDADE XEROCADA ANEXA A FOLHA DE ATIVIDADES PEDAGÓGICAS COMPLEMENTARES.
13 PINTE OS NÚMEROS PARES DE AMARELO E ÍMPARES DE ROSA. 02- 17- 06- 11- 18- 23- 08- 13- 16- 01-14- 19- 04- 17- 10- 03- 12- 15- 20- 05	14 ESCREVA POR EXTENSO OS NUMERAIS: 02 12 05 13 07 15 09 18 11 20	15 	16 NÚMERO PAR E NÚMERO ÍMPAR. LIVRO DIDÁTICO ÁPIS DE LUIZ ROBERTO DANTE. PÁGINAS 38 E 39.	17 ARME E EFETUE AS ADIÇÕES: 12+15= 34+25= 59+10= 25+34= 24+20= 75=24= 26+52= 62+12= 41+34= 85+13=	18 SIMULADO AVALIATIVO DE MATEMÁTICA. ATIVIDADE XEROCADA ANEXA A FOLHA DE ATIVIDADES PEDAGÓGICAS COMPLEMENTARES.

ENTREGUE: 02/04/2020 CIENTE. PROFª. _____

5-Veja esta caixa de balas.



Carolina ganhou uma caixa iguais a essa, com 3 balas cada uma. Marque quantas balas recebeu?

☐ 3 ☐ 6 ☐ 8 ☐ 9

6- Qual a forma geométrica do dado?



☐ Círculo ☐ Triângulo ☐ Retângulo ☐ Quadrado

7- Qual o valor desta moeda?



☐ 5 centavos ☐ 50 centavos ☐ 5 reais ☐ 1 real

8- Qual é o dia que fica entre 24 e 26?



Maio 2018

Dom	Seg	Ter	Qua	Qui	Sex	Sa
		1	2	3	4	5
6	7	8	9	10	11	12
13	14	15	16	17	18	19
20	21	22	23	24	25	26
27	28	29	30	31		

Corpus Christi 15 Dia das mães 1 Dia do Trabalho

☐ **24** ☐ **25**

☐ **26** ☐ **27**

9- Este é o número 36 por extenso, se escreve assim.

☐ Vinte e seis ☐ Trinta e seis ☐ Quarenta e seis ☐ cinquenta e seis

10-Complete o gráfico com os dados da imagem.



Objetivo: resolver subtrações simples.

3. Resolva as subtrações:



10	14	22	49
-10	-11	-10	-21

Objetivo: solucionar situações-problema de modo convencional ou por estratégias próprias.

4. Marquinhos tem uma coleção de bonecos guerreiros. Ela já tem 25 e sua mãe lhe deu de aniversário mais 12. Com quantos guerreiros marquinhos ficou em sua coleção?



Resposta: _____

5. Luciana ganhou de sua tia uma caixa com 18 bombons e ela já comeu 6. Quantos bombons sobraram na caixa?



Resposta: _____

6. Escreva números de 0 a 50.

_____

_____

_____

_____

ESCOLA MUNICIPAL NELSON MANGABEIRA.

LADÁRIO, _____DE ABRIL DE 2020.

PROFESSORA: ROSÂNGELA TEIXEIRA PÉCORA

ALUNO: _____

SÉRIE: 2º ANO TURMA: B TURNO: MATUTINO



Atividade Pedagógica Complementar

Senhores Pais/ responsáveis: segue abaixo a lista de lições do mês de 2 de abril até 18 de abril. Os números no canto DIREITO superior de cada quadrinho se referem aos dias do mês.

- Lembrem-se que, em cada lição, deverá ser repassada no caderno e haver um cabeçalho, disciplina e enunciado.

DISCIPLINA HISTÓRIA

ABRIL

SEGUNDA	TERÇA	QUARTA	QUINTA	SEXTA	SÁBADO
			02	03	04
06	07 ESCREVA AS INFORMAÇÕES SOBRE VOCÊ. SEU NOME: IDADE: NOME DA MÃE: NOME DO PAI: QUANTOS IRMÃOS: BRINQUEDO QUE GOSTA; COMIDA FAVORITA.	08 FAÇA UM AUTORETRATO DA SUA FAMÍLIA E ESCREVA O NOME DELES. FAÇA BEM COLORIDO.	09	10	11 DESENHE E PINTE OS SÍMBOLOS DA PÁSCOA. 
13	14 QUEM EU SOU? LIVRO DIDÁTICO ÁPIS DE ROGÉRIO G. NIGRO MARIA ELENA SIMIELLI E ANNA MARIA CHARLIER. ATIVIDADES DE LEITURA E EXERCICIOS DAS PÁGINAS DA 10 ATÉ A 15.	15 SIMULADO AVALIATIVO DE HISTÓRIA ATIVIDADE XEROCADA ANEXA A FOLHA DE ATIVIDADES PEDAGÓGICAS COMPLEMENTARES	16	17 	18

ENTREGUE: 02/04/2020 CIENTE. PROFª. Rosângela

CIENTE.RESP._____

Escola Municipal Nelson Mangabeira.

Ladário, _____ de abril de 2020.

Professor (a): Rosângela Teixeira Pécora.

Aluno(a):_____

Série: 2º Ano Turma: B Turno: Matutino

SIMULADO DE HISTÓRIA

EU SOU ASSIM...



EU ME CHAMO _____.

MEU APELIDO É _____.

EU TENHO _____ ANOS.

NASCI NA CIDADE DE _____, NO DIA _____, NO MÊS DE _____ E NO ANO DE _____.

MEUS OLHOS SÃO _____ E MEUS CABELOS SÃO _____.

EU ESTUDO NA ESCOLA _____.

O QUE MAIS GOSTO É DE _____.

NÃO GOSTO DE _____.

EU SOU ASSIM: _____

AO NASCER, TODA CRIANÇA TEM O DIREITO DE RECEBER UM NOME E UM SOBRENOME. O SOBRENOME INDICA À FAMILIA À QUAL PERTENCEMOS.

ESCREVA O SEU NOME COMPLETO:

tão 5- ESTA É A ÁRVORE GINEALÓGICA DA FAMILIA DE BÁRBARA;

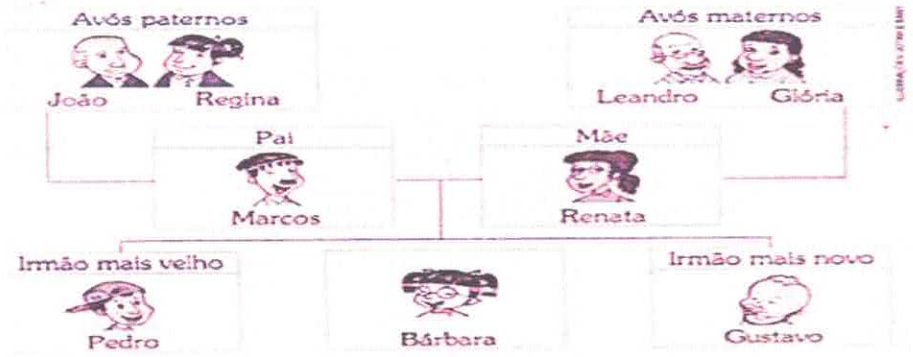

) COMO SE CHAMAM OS IRMÃO DE BÁRBARA?

_____

) QUEM É O IRMÃO MAIS VELHO?_____ E O MAIS NOVO?

_____

) COMO CHAMAM OS PAIS DE BÁRBARA?_____

) JOÃO E REGINA SÃO AVÓS_____

ESCOLA MUNICIPAL NELSON MANGABEIRA.

LADÁRIO, _____DE ABRIL DE 2020.

PROFESSORA: ROSÂNGELA TEIXEIRA PÉCORA

ALUNO: _____

SÉRIE: 2º ANO TURMA: B TURNO: MATUTINO



Atividade Pedagógica Complementar

Senhores Pais/ responsáveis: segue abaixo a lista de lições do mês de 2 de abril até 18 de abril. Os números no canto DIREITO superior de cada quadrinho se referem aos dias do mês.

- Lembrem-se que, em cada lição, deverá ser repassada no caderno e haver um cabeçalho, disciplina e enunciado.

DISCIPLINA GEOGRAFIA

ABRIL

SEGUNDA	TERÇA	QUARTA	QUINTA	SEXTA	SÁBADO
			02 FAÇA UM DESENHO DE SUA CASA, COM O MAIOR NÚMERO DE DETALHES POSSÍVEIS E ESCREVA O NOME DOS CÔMODOS.	03 TRABALHO FAÇA UMA MAQUETE SIMPLES DE SUA CASA.	04
06	07	08	09 RESPONDA AS PERGUNTAS; QUANTAS PESSOAS MORAM COM VOCÊ? QUAL NOME SUA RUA? QUE COR É SUA CASA? QUANTOS CÕMODOS ELA TEM? SUA CASA É DE MADEIRA OU ALVENARIA? QUAL A PARTE DA CASA QUE MAIS GOSTA DE FICAR?	10 PESQUISE E RESPONDA: DE QUE SÃO FEITAS AS CASAS? POR QUE AS CASAS SÃO TÃO DIFERENTES? QUAIS OS TIPOS DE CASA VOCÊ CONHECE? COMO GOSTARIA QUE FOSSE SUA CASA.	11
13 	14	15	16 SIMULADO AVALIATIVO DE GEOGRAFIA ATIVIDADE XEROCADA ANEXA A FOLHA DE ATIVIDADES PEDAGÓGICAS COMPLEMENTARES	17 DESENHE O TRAJETO DE SUA CASA ATÉ A ESCOLA, COLOCANDO OS COMÉRCIOS QUE ESTIVEREM NO CAMINHO	18 PEQUISA FEITA CADERNO. QUIAS OS BAIRROS QUE VOCÊ CONHECE, PEÇA AJUDA PARA OS PAIS.

ENTREGUE: 02/04/2020 CIENTE. PROFª. _____

CIENTE.RESP._____

Escola Municipal Nelson Mangabeira.

Ladário, _____ de abril de 2020.

Professor (a): Rosângela Teixeira Pécora.

Aluno(a):_____

Série: 2º Ano Turma: B Turno: Matutino

SIMULADO DE GEOGRAFIA

1. Aprendemos que a casa é o lugar onde as pessoas se abrigam e convivem. Nossa casa é dividida em partes chamadas cômodos. Observe a representação da casa abaixo e responda:

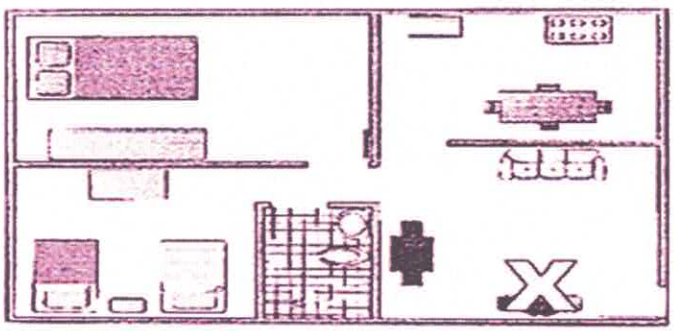

a. Quantos cômodos têm? _____

b. Quantos quartos? _____

c. Qual o cômodo marcado com **X**?

_____

2. Agora temos um outro desenho representando uma casa. Observe bem o desenho, escreva o nome de cada parte e faça o que se pede:

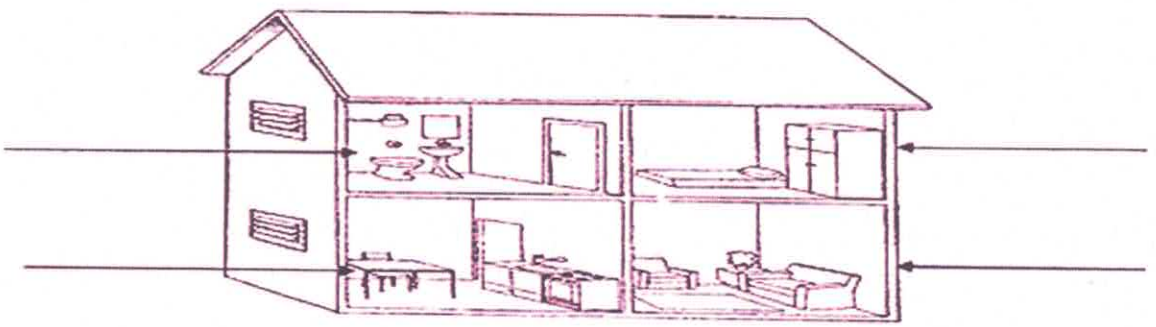

a. Pinte de verde o lugar onde você toma banho.
b. Circule os móveis do cômodo onde você dorme.
c. Pinte a o lugar onde fazemos comida de amarelo.
d. Faça um x na parte da casa onde assistimos televisão.

Tipos de Moradia

Escreva o nome destes tipo de moradia.



_____



_____



_____

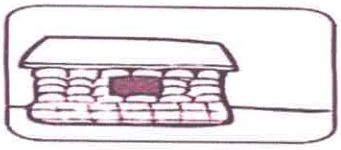

_____



_____



_____

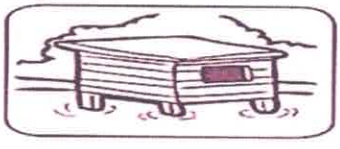

_____

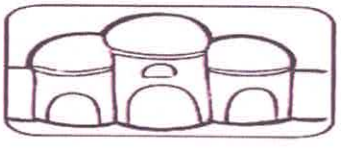

_____

iglu	palacete	palafita	tijolo	tenda	madeira	pedra	oca

Escola Municipal Nelson Mangabeira.

Ladário, _____ de abril de 2020.

Professor (a): Rosângela Teixeira Pécora.

Aluno(a):_____

Série: 2º Ano Turma: B Turno: Matutino

SONDAGEM DE LÍNGUA PORTUGUESA

1. MARQUE UM X NO QUADRINHO EM QUE INDICA QUANTAS SÍLABAS TEM O NOME DA FIGURA

		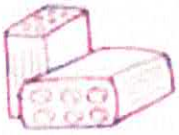			
1 3 4 5	3 2 5 6	1 2 5 3	2 5 4 6	3 4 1 2	1 2 4 3

2. FAÇA UM X NAS TRÊS PALAVRAS QUE POSSUEM O MESMO SOM QUE SÃO AS RIMAS.

☐ MILHO – COLHER - SOL

☐ CHULÉ – CAFÉ - BONÉ

☐ VIDA – COMIDA -JANELA

☐ MEL – BALÃO - SOLA

3. FAÇA UM X NA PALAVRA QUE INDICA O NOME CORRETO DA FIGURA:

						
MILHO MICROFONE MICO	VERMELHO VELA VESTIDO	SALA SAIA SALVA	PANELA PALETA PATETA	LAMA CAMA FAMA	FERRO BERRO PERTO	NUCA NUVEM NUBLADO

4. LEIA , OBSERVE E RESPONDA:

MAMÃE:

ESTOU NA CASA DA ANA
PORQUE FUI ESTUDAR
MATEMÁTICA. BEIJOS

LUÍZA.
12/08/2010

A. ESTE TEXTO É UM:

☐ CONTO ☐ CARTA ☐ BILHETE

B. QUEM ESCREVEU?

☐ ANA ☐ LUÍZA ☐ MAMÃE

C. QUEM RECEBEU?

☐ MAMÃE ☐ ANA ☐ LUÍZA

E. QUAL FOI O ASSUNTO?

☐ PASSEIO ☐ ESTUDO ☐ VIAGEM

Leia, silenciosamente, a lista de frutas do Sacolão:

PÊRA ABACAXI UVA LARANJA MELANCIA BANANA



Escreva a primeira letra de cada fruta:

___ ___ ___ ___ ___ ___

Agora coloque estas letras em ordem alfabética:

___ ___ ___ ___ ___ ___

- Colorir a seta onde está escrito uma palavra:

R$100,00	@$&%*@@	KARINA	BO

Escreva duas palavras começados com a sílaba abaixo:

GA _____ _____

Escreva uma frase com a palavra MELANCIA:

_____