ESTADO DE MATO GROSSO DO SUL
MUNICÍPIO DE LADÁRIO
SECRETARIA MUNICIPAL DE EDUCAÇÃO

ESCOLA: MUNICIPAL NELSON MANGABEIRA.
PROFESSOR (A):Rosélia Costa
TURMA: 3º ANO
ENSINO FUNDAMENTAL I TURNO:_MAT._____
ALUNO(A): _____
COMPONENTE CURRICULAR: GEOGRAFIA
PERÍODO: 02/10 /2020 Á 09/10/2020
QUANTIDADE DE AULAS: 02 AULAS

Objetivo: A cidade e o campo: aproximações e diferenças
Habilidades: (EF03GE01) Identificar e comparar aspectos culturais dos grupos sociais de seus lugares de vivência, seja na cidade, seja no campo.

SIMULADO DE GEOGRAFIA

NOME:_____



VOCÊ ESTÁ CONHECENDO MELHOR O MUNICÍPIO ONDE MORA. APRENDEU QUE O BAIRRO É UMA PARTE DO MUNICÍPIO.
LEIA ENTÃO AS QUESTÕES COM ATENÇÃO E RESPONDA.

1- O município é dividido em zona rural(campo) e zona urbana(cidade). A nossa Escola está localizada na:

( ) ZONA RURAL ( ) ZONA URBANA

2- Complete as frases com as palavras abaixo:

RUAS - CIDADE - PRAÇAS - AVENIDAS

- O bairro é formado por um conjunto de _____, _____ e _____.
- Ele é uma parte da _____.

4-Numere as frases corretamente>
(1)Direito dos alunos
(2) Dever dos alunos

- [ ] Ser respeitado.
- [ ] Estudar e fazer com interesse suas tarefas.
- [ ] Ser pontual.
- [ ] Ter um bom ensino e uma boa educação.
- [ ] Não faltar às aulas.
- [ ] Ser atencioso e respeitar os professores.
- [ ] Ter um espaço para brincar.
- [ ] Zelar pela limpeza da escola.

5- Marque um X na resposta certa:

NOMES	RURAL	URBANA
1- Ar puro		
2- Poluição		
3- Vaqueiro		
4- Prefeitura		
5- Fazendeiro		
6- Cachoeiras		
7- Criação de gado		
8- Praça de esportes		
9- Correios		
10- Grandes plantações		

6- Ligue as frases corretamente:

a) Os bairros são chamados de residenciais porque neles há principalmente...
b) Os bairros são chamados comerciais porque neles há mais...
c) Os bairros são chamados industriais porque neles há muitos...

FÁBRICA
MORADIAS
Estabelecimentos comerciais

7- Numere os serviços públicos corretamente:

(1) CORREIOS
(2) CEMIG
(3) COPASA
(4) TELEMAR
(5) PREFEITURA
(6) VIAÇÃO SERRO
(7) LIQUIGÁS

( ) transporte
( ) correspondências
( ) gás
( ) energia elétrica
( ) água e esgoto
( ) lixo
( ) telefone

ESTADO DE MATO GROSSO DO SUL
MUNICÍPIO DE LADÁRIO
SECRETARIA MUNICIPAL DE EDUCAÇÃO

Feliz Dia das Crianças

12 de Outubro



ESTADO DE MATO GROSSO DO SUL
MUNICÍPIO DE LADÁRIO
SECRETARIA MUNICIPAL DE EDUCAÇÃO

ESCOLA: **MUNICIPAL NELSON MANGABEIRA**.
PROFESSOR(A): Rosélia Costa TURMA:**3 º ANO**
ENSINO FUNDAMENTAL I
ALUNO: _____

TURNO: **MATUTINO**
PERIODO:02/10/10/2020 á 09/10/2020
COMPONENTE CURRICULAR: **MATEMÁTICA**
QUANTIDADE DE AULA: 05 **AULAS**

OBJETIVO: Procedimentos de cálculo (mental e escrito) com números naturais: adição e subtração

Habilidades: (EF03MA05) Utilizar diferentes procedimentos de cálculo mental e escrito para resolver problemas significativos ...

Simulado de Matemática

Escola: _____ - 3º Ano
Prof. _____
Nome: _____

QUESTÃO 01



Este foi o convite da Festa Junina que a Escola Lugar de Aprender fez para este ano.
No convite, a forma do vestido da menina lembra
(A) um círculo.
(B) um retângulo.
(C) um quadrado.
(D) um triângulo.

H15 — **QUESTÃO 02**



Na folhinha de calendário destacada acima, está marcada a data da Festa Junina da Escola Lugar de Aprender.
Em que dia da semana a festa aconteceu?
(A) Domingo.
(B) Terça-feira.
(C) Quarta–feira.
(D) Quinta-feira

H15 — **QUESTÃO 03**



A família de Ricardo saiu cedo para chegar à festa junina. O relógio está marcando a hora em que esta família saiu de casa.
Que horas o relógio está marcando?
(A) 13 horas.
(B) 15 horas.
(C) 18 horas.
(D) 20 horas.

H17 — **QUESTÃO 04**



No cartaz da festa junina está a lista de preços de algumas comidas para serem vendidas durante a festa.
Observando os preços podemos dizer que a comida mais cara é
(A) a canjica.
(B) a pipoca.
(C) o cachorro-quente.
(D) o milho.

H5 — **QUESTÃO 05**



Os participantes de um jogo de Bingo precisavam de uma linha completa para ganhar o prêmio.
Na cartela acima, o participante deixou de ganhar por apenas um número.
O número que faltou, para este participante ganhar, pode ser representado no sistema de numeração decimal por
(A) 1 dezena e 9 unidades.
(B) 5 dezenas e 7 unidades.

ESTADO DE MATO GROSSO DO SUL
MUNICÍPIO DE LADÁRIO
SECRETARIA MUNICIPAL DE EDUCAÇÃO

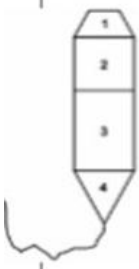



A sala de aula de Fabiana é a
A) I B) II C) V
D) VI

H14 — QUESTÃO 17

(SAEMS). Cida foi ao banco e trocou uma nota de 50 reais por 10 moedas de 1 real e, o restante, por notas de 5 reais.
Quantas notas de 5 reais ela recebeu nessa troca?
A) 50
B) 10
C) 8
D) 5

H6 — QUESTÃO 18

(SAEMS). O álbum de Raul tem lugar para 93 figurinhas. Ele já colou 37.
Quantas figurinhas faltam para Raul completar esse álbum?
A) 46
B) 56
C) 64
D) 66

H11 — QUESTÃO 19

(SAEMS). Luma e Almir desenharam essas figuras geométricas.

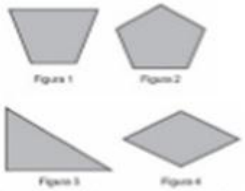

Qual dessas figuras é triângulo?
A) Figura 1
B) Figura 2
C) Figura 3
D) Figura 4

H1 — QUESTÃO 20

(SAEMS). Conte todas as bolas que a menina jogou.



Quantas bolas ela jogou?
A) 20 bolas.
B) 23 bolas.
C) 24 bolas.
D) 28 bolas.

H15 — QUESTÃO 21

(SAEMS). Veja abaixo quantas horas está marcando o relógio de ponteiros.



Qual relógio digital marca a mesma hora desse relógio de ponteiros?

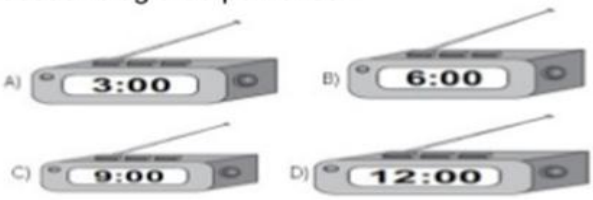

QUESTÃO 22

https://www.slideshare.net/SamuelAlencar2/simulado-de-matemtica-para-o-3-ano-do-ensino-fundamental-i-teste-final



Cuide nesse momento de Pandemia e cuide de quem você ama.