ESCOLA MUNICIPAL NELSON MANGABEIRA

LADÁRIO,_____ DE_____ DE 2020.

ALUNO:_____4º ANO "A"

PROFESSORA: FRANCIELE

Observe os desenhos e escreva seus nomes obedecendo a ordem alfabética:



A _____	I _____	R _____
B _____	J _____	S _____
C _____	L _____	T _____
D _____	M _____	U _____
E _____	N _____	V _____
F _____	O _____	X _____
G _____	P _____	Z _____
H _____	Q _____	

Que trabalho fácil!

ESCOLA MUNICIPAL NELSON MANGABEIRA

LADÁRIO,_____ DE_____ DE 2020.

ALUNO:_____4º ANO "A"

PROFESSORA: FRANCIELE

ESCREVA O NOME DOS DESENHOS:













CIRCULE CADA PALAVRA DA QUADRINHA:

A CASINHA DA VOVÓ
CERCADINHA DE CIPÓ
O CAFÉ ESTÁ DEMORANDO
COM CERTEZA NÃO TEM PÓ

AGORA MARQUE QUANTAS PALAVRAS HÁ NESTA QUADRINHA:

- ☐ **14**
- ☐ **16**
- ☐ **15**
- ☐ **17**

COPIE ESTA FRASE NO ESPAÇO ABAIXO.

ÁGUA MOLE EM PEDRA DURA
TANTO BATE ATÉ QUE FURA.

_____

_____

_____

ESCOLA MUNICIPAL NELSON MANGABEIRA

LADÁRIO,_____ DE_____ DE 2020.

ALUNO:_____4º ANO "A"

PROFESSORA: FRANCIELE

SOLETRANDO TAMBÉM SE APRENDE

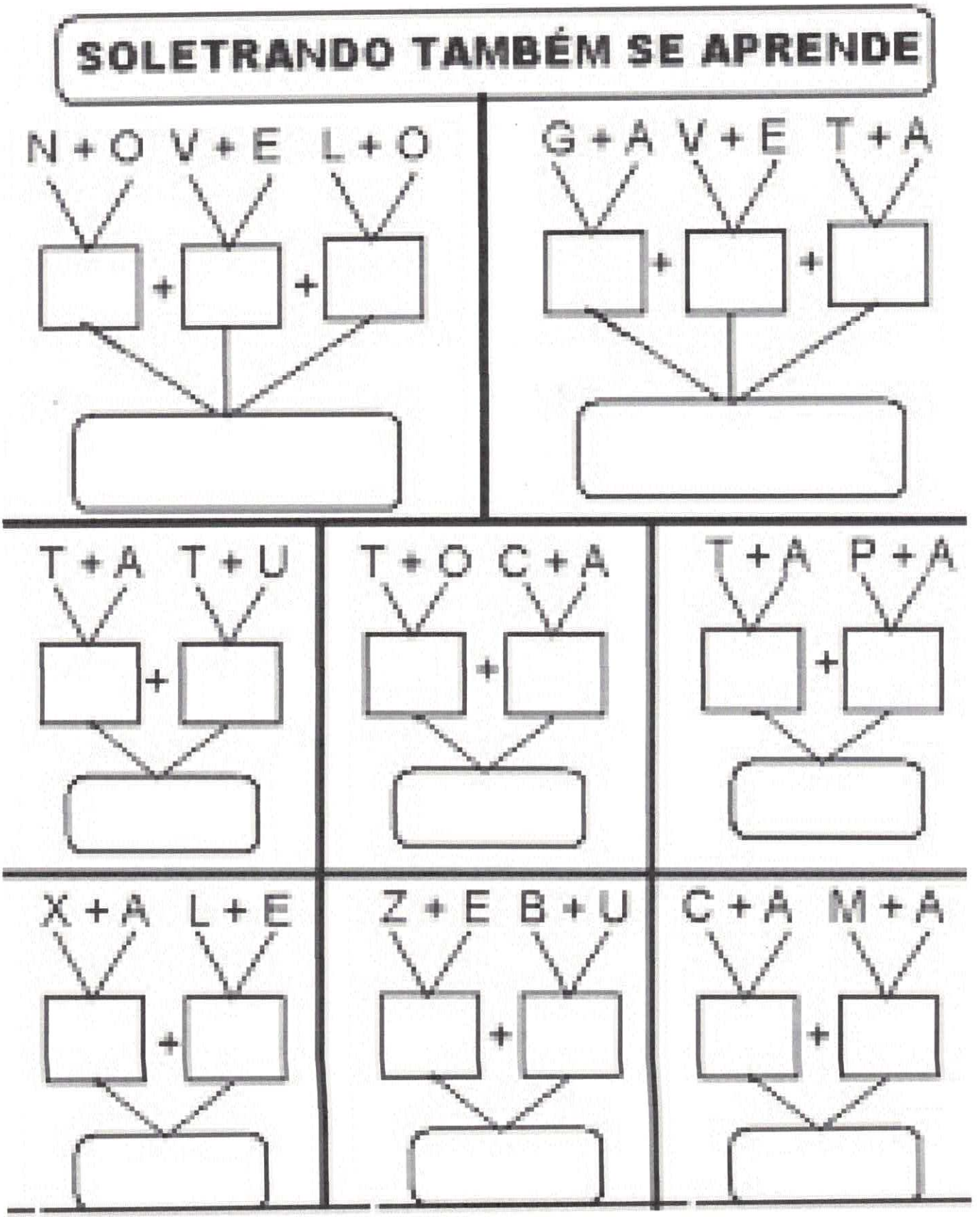

ESCOLA MUNICIPAL NELSON MANGABEIRA

LADÁRIO,_____ DE_____ DE 2020.

ALUNO:_____4º ANO "A"

PROFESSORA: FRANCIELE

Componha os números, procurando no caça-números o valor referente.

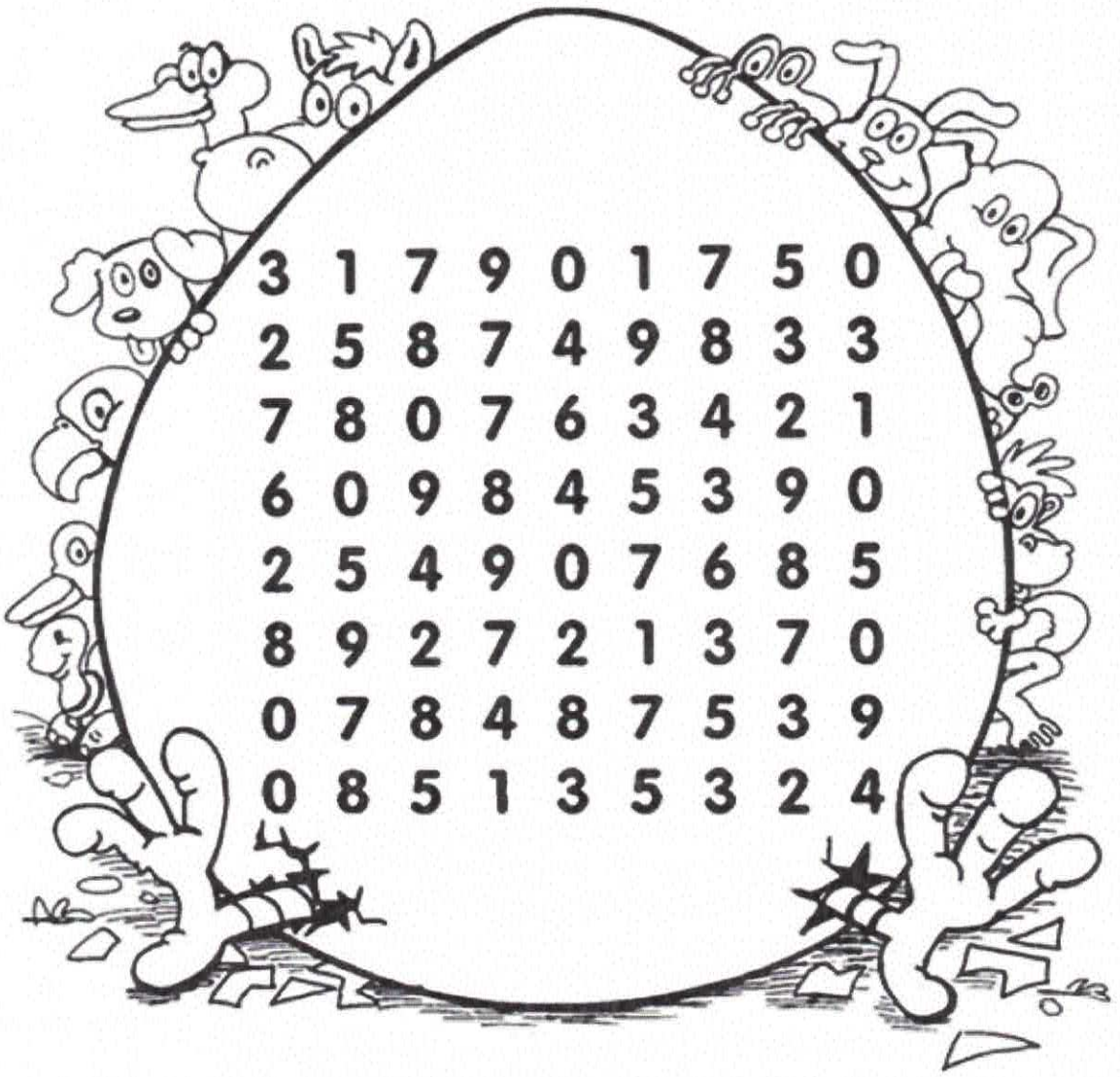

a) 1 centena + 5 dezenas + 8 unidades = _____

b) 1 centena + 7 dezenas + 5 unidades = _____

c) 3 centenas + 6 dezenas + 3 unidades = _____

d) 7 centenas + 4 dezenas + 1 unidade = _____

e) 5 centenas + 3 dezenas + 2 unidades = _____

f) 2 centenas + 5 dezenas + 4 unidades = _____

ESCOLA MUNICIPAL NELSON MANGABEIRA

LADÁRIO,_____ DE_____ DE 2020.

ALUNO:_____4º ANO "A"

PROFESSORA: FRANCIELE

CAÇA ADIÇÕES



1	4	3	7	2	1	4	2						
0	3	9	8	3	9	5	3						
4	4	7	4	1	0	6	3						
7	3	6	1	4	3	5	9						
6	9	5	4	0	7	4	8						
3	5	3	6	7	0	9	5						
2	0	9	7	3	1	6	1						
9	1	7	6	5	3	2	0	7					
1	9	5	1	7	2	4	6	1					
0	5	8	9	0	5	7	9	8					
3	1	7	3	2	6	1	7	9	0	1	5	6	

✎ Descubra os números e procure os resultados no caça pintando-os um de cada cor.

a) 1 centena, 5 dezenas e 6 unidades = _____

b) 1 centena, 0 dezena e 4 unidades = _____

c) 1 centena, 4 dezenas e 0 unidade = _____

d) 1 centena, 9 dezenas e 5 unidades = _____

e) 1 centena, 8 dezenas e 9 unidades = _____

f) 2 centenas, 3 dezenas e 3 unidades = _____

g) 3 centenas, 7 dezenas e 2 unidades = _____

h) 1 centena, 6 dezenas e 1 unidade = _____

i) 2 centenas, 0 dezena e 9 unidades = _____

j) 3 centenas, 1 dezena e 7 unidades = _____

ESCOLA MUNICIPAL NELSON MANGABEIRA

LADÁRIO,_____ DE_____ DE 2020.

ALUNO:_____4º ANO "A"

PROFESSORA: FRANCIELE

É MUITO FÁCIL!

Resolva as operações começando sempre pelas unidades. Veja!



DU	DU	DU
12	21	52
+ 34	+ 43	+ 13
46	---	---

DU	DU	DU
30	41	33
+ 26	+ 16	+ 22
---	---	---

DU	DU	DU
14	51	15
+ 61	+ 25	+ 52
---	---	---

ESCREVA O NOME DOS NUMERAIS:

21_____

11_____ 19_____

25_____

18_____

ESCOLA MUNICIPAL NELSON MANGABEIRA

LADÁRIO,_____ DE_____ DE 2020.

ALUNO:_____4º ANO "A"

PROFESSORA: FRANCIELE

1) COMPLETE O QUADRO COM OS NUMERAIS QUE FALTAM. DEPOIS, PINTE APENAS AS DEZENAS EXATAS.



10	11	12	13	14	15	16	17	18	
20									
50									
80									
								98	







2) FAÇA AS CONTINHAS E MARQUE O RESULTADO CERTO AO LADO:

4 + 5	8 9 10
18 + 15	31 32 33
9 + 5	12 13 14
10 + 5	13 14 15
15 + 16	29 30 31
15 + 10	25 26 27
18 + 15	32 33 34
19 - 8	11 12 13
9 - 5	3 4 5
15 + 6	19 20 21
8 -5	3 4 5
18 + 9	26 27 25
10 -10	0 1 2



ESCOLA MUNICIPAL NELSON MANGABEIRA

LADÁRIO,_____ DE_____ DE 2020.

ALUNO:_____4º ANO "A"

PROFESSORA: FRANCIELE



Geografia

O município

► Administração em meu município

Leia:

Os **Estados** estão divididos em áreas menores, chamadas **municípios**.

Todo **município** é formado pela **zona urbana**, que é a **cidade**, e pela **zona rural**, que é o **campo**.

Quem **governa** o município é o **prefeito**. Ele comanda os trabalhos da **prefeitura** e é auxiliado pelo **vice-prefeito** e pelos seus **secretários**.

❖ **Complete:**



❖ O ..... é responsável pela melhoria dos serviços públicos municipais e seu funcionamento. Na ausência do prefeito, quem assume o município é o vice-prefeito.

❖ Para **fazer as leis municipais**, e ..... o trabalho do prefeito, existem os **vereadores**. O prefeito, o vice-prefeito, e os vereadores são eleitos pelo povo por meio de voto secreto.



ESCOLA MUNICIPAL NELSON MANGABEIRA

LADÁRIO,_____ DE_____ DE 2020.

ALUNO:_____4º ANO "A"

PROFESSORA: FRANCIELE

Atividade

OBSERVE A IMAGEM E RESPONDA.



QUANTAS FRUTAS HÁ NO CESTO DA ÍNDIA?

_____

QUANTAS BANANAS?

_____

QUANTOS ABACAXIS?

_____

QUAL A PRIMEIRA LETRA DO NOME DA CASA DA ÍNDIA.

_____

ESTADO DE MATO GROSSO DO SUL
MUNICÍPIO DE LADÁRIO
SECRETARIA MUNICIPAL DE EDUCAÇÃO

ESCOLA MUNICIPAL NELSON MANGABEIRA.

LADÁRIO, ____/___/ 2020.

PROFESSORA: JORCILENE PINHEIRO

ALUNO: _____ CIÊNCIAS

TURMA: 4º A TURNO: Matutino

A vaca é um animal herbívoro, pois se alimenta apenas de vegetais.

- **Classifique** os animais abaixo em herbívoros, carnívoros ou onívoros.

elefante → _____

leão → _____

urso → _____

girafa → _____



Questão 03: **(12 pontos / 3 cada)**

- Sobre os seres vivos, **escreva** (V) para verdadeiro e (F) para falso nas afirmativas abaixo.

( ) O gás que os seres vivos precisam para viver é o oxigênio.

( ) Para viver os seres vivos precisam respirar e se alimentar.

( ) Animais que se alimentam de outros animais são chamados de onívoros.

( ) Só é possível encontrar plantas nas florestas.

Questão 04: **(8 pontos)**

- **Observe** os animais abaixo.





- Agora, **responda.**
- Esses dois animais são aquáticos ou terrestres? **Explique**.

_____

Disponível em:https://pt.slideshare.net/andrearosa10004/provapbciencias2anotarde2bim-1-4
acesso em: 17/04/2020

ESTADO DE MATO GROSSO DO SUL
MUNICÍPIO DE LADÁRIO
SECRETARIA MUNICIPAL DE EDUCAÇÃO

ESCOLA MUNICIPAL NELSON MANGABEIRA.

LADÁRIO, ____/___/ 2020.

PROFESSORA: JORCILENE PINHEIRO

ALUNO: _____ CIÊNCIAS

TURMA: 4º A TURNO: Matutino

ANIMAIS CARNÍVOROS

São os animais que comem carne.

Pinte abaixo os animais carnívoros.



Escreva quais foram os animais carnívoros que você achou no desenho acima.

(cachorro)	(onça)	(leão)

Disponível em :https://br.pinterest.com/pin/643803709217793988/ acesso em: 17/04/2020

ESTADO DE MATO GROSSO DO SUL
MUNICÍPIO DE LADÁRIO
SECRETARIA MUNICIPAL DE EDUCAÇÃO

ESCOLA MUNICIPAL NELSON MANGABEIRA.

LADÁRIO, ____/___/ 2020.

PROFESSORA: JORCILENE PINHEIRO

ALUNO: _____ CIÊNCIAS

TURMA: 4º A TURNO: Matutino

ANIMAIS HERBÍVOROS

Encontre no caça-palavras os nomes de alguns animais herbívoros:

peixe-boi girafa vaca elefante
cavalo ovelha coelho zebra



Animais herbívoros são aqueles que só se alimentam de vegetais.

Disponível em https://onlinecursosgratuitos.com/10-atividades-sobre-animais-carnivoros-herbivoros-e-onivoros-para-imprimir/ acesso em: 17/04/2020

Escola Municipal "Nelson Mangabeira."
Ladário, 27 de Abril de 2020.
Nome: _____Série: 4º A\B Professora: Cristiane Disciplina: ECDH

CAÇA - PREVENÇÃO

CORONAVÍRUS

Q	Y	U	S	A	B	Ã	O	I	P	C
E	M	Ç	X	M	W	Ç	P	V	Z	O
T	O	Á	O	R	N	E	B	Á	G	N
W	K	L	S	E	Y	U	T	G	S	T
R	F	C	L	C	N	I	J	U	D	A
S	H	O	T	O	A	R	K	A	J	T
D	C	O	Q	Z	D	R	Ç	L	C	O
F	B	L	M	G	K	V	A	N	A	X
G	L	Z	B	E	I	J	O	A	H	V

MÁSCARA - LENÇO - ÁLCOOL - ÁGUA
SABÃO - CONTATO - BEIJO -

ORIENTAÇÕES DAS ATIVIDADES PROGRAMADAS DE 22 Á 30 DE ABRIL de 2020

- *Escola Municipal Nelson Mangabeira*
- *Prof. Igor de Oliveira Silva*
- *Disciplina: Educação Física*
- *Turmas: 4º ano A*
- *Turno: Matutino.*

Avaliação: Pesquisar como construir e realizar o jogo de "Peteca". Anotar a pesquisa e realizar o jogo. A idéia é brincar!

Assistir no Youtube o filme: **"Planeta dos Macacos"**. Link: https://www.youtube.com/watch?v=uYFXXUkhtQU

Fabricando o "Baragandão" – Cortar papel crepom em tirar com cores de preferência de vocês, em seguida pegue uma folha de jornal e dobre bem com as tirinhas de papel crepom no meio e depois passe durex em volta. Em seguida amarre barbante no meio.
Acesse o link: http://ecosdaculturapopular.blogspot.com/2010/05/barangandao-e-um-brinquedo-muito.html