Atividade pedagógica complementar

Profª Vanessa Rodrigues

Senhores pais/responsáveis segue abaixo a lista das lições de 22 a 30 de abril. Os números do canto direito superior de cada quadradinho se referem ao dia do mês.

Lembrando que cada atividade deverá ser realizada no caderno, contendo cabeçalho, nome da disciplina e enunciado.

TODAS AS ATIVIDADES ENVIADAS VALERÁ NOTA.

DISCIPLINA: MATEMÁTICA

23/4

1. FAÇA AS OPERAÇÕES, SIGA O EXEMPLO:

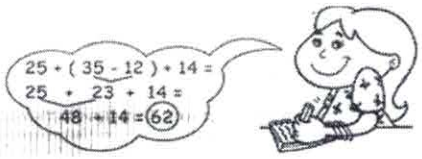

A) (45+26) – (15 + 13) =

B) 58 – (29 – 6) + 42 =

C) 89 – (19 + 22) + 42 =

D) 100 – (52 + 15) – 27 =

24/4

1. CONTINUAÇÃO DAS ATIVIDADES.

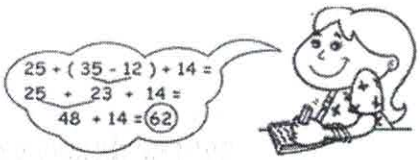

A) (13 + 22) – (18 -12) =

B) (69 – 28) + (14 – 9) =

C) 192 – (86 + 35) + 24 =

D) 398 + (138 – 97) + 45 =

25/4

Resolva os problemas no seu caderno:

a) O zoológico de uma cidade foi visitado por 8.627 pessoas no sábado e por 11.388 pessoas no domingo. Quantas pessoas visitaram o zoológico nesse fim de semana?

S.M. OP. R.

b) Estavam assistindo a uma partida de futebol 302 pessoas. Se 98 dessas pessoas eram crianças, quantos adultos assistiam a essa partida de futebol?

S.M. OP. R.

27/4

1) Ontem Marcela fez aniversário. Ela nasceu em 1 989. Quantos anos ela tem agora?

Cálculo Resposta

.....

.....

2) A capacidade de um teatro é de 493 espectadores. Já foram vendidos 145 ingressos para a sessão de hoje. Quantas pessoas ainda podem comprar ingresso?

Cálculo Resposta

.....

.....

3) A biblioteca da escola de Carlos tem 5 114 livros. Hoje só há 4 218. Quantos livros estão emprestados?

Cálculo Resposta

.....

.....

4) Você já ouviu falar em Monteiro Lobato, autor das histórias do Sítio do Pica-pau Amarelo? Em 18 de abril de 2012, comemora-se 130 anos de seu nascimento. Calcule o ano de sua morte, sabendo que ele viveu 66 anos.

Cálculo Resposta

.....

.....

28/4

5) Veja o preço de alguns brinquedos à venda em uma loja e responda às perguntas a seguir.

Mercadorias	Preço
boneca que fala	R$ 216,00
boneca que anda	R$ 190,00
boneca que faz pipi	R$ 187,00
bicicleta de 18 marchas	R$ 353,00
autorama	R$ 99,00
videogame	R$ 209,00



a) O senhor Sílvio comprou as 3 bonecas.Quanto ele gastou?

.....

b) Dona Ângela tem 500 reais e quer comprar 2 brinquedos. Se ela comprar a bicicleta, poderá comprar outro brinquedo? Qual?

.....



c) Gustavo tem 150 reais. Quanto falta para ele poder comprar o videogame?

.....

d) Clacule a diferença entre o preço da boneca mais cara e o preço da boneca mais barata.

.....

e) Quantos reais o videogame custa a mais que o autorama?

.....

30/4

Sólidos geométricos



Em muitas construções e objetos, podemos observar o uso de diversas formas geométricas.













Se você observar, vai descobrir coisas incríveis! Uma delas é que os objetos não apresentam a mesma forma.



Conheça alguns sólidos geométricos:

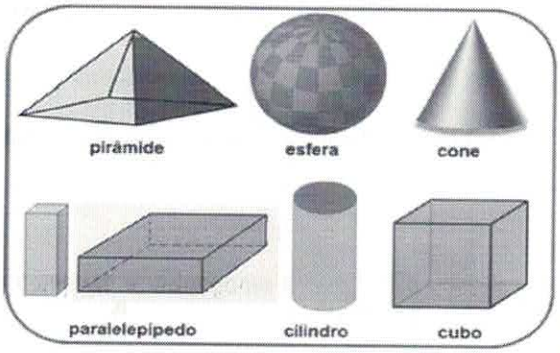

AGORA, É COM VOCÊ!!!

1- Compare as imagens, ao lado, com os sólidos geométricos, acima. Agora, escreva o sólido geométrico que representa cada imagem citada.

a) a bola - _____

b) a geladeira - _____

c) o dado - _____

d) o extintor de incêndio - _____

e) o chapéu de palhaço - _____

DISCIPLINA: LÍNGUA PORTUGUESA

22/4 E 23/4

O que é coronavírus? (COVID-19)

Coronavírus é uma família de vírus que causam infecções respiratórias. O novo agente do Coronavírus foi descoberto em 31/12/19 após casos registrados na China. Provoca a doença chamada de Coronavírus (COVID-19).

Os primeiros casos de Coronavírus em humanos foram isolados pela primeira vez em 1937. No entanto, foi em 1965 que o vírus foi descrito como Coronavírus, em decorrência do perfil na microscopia, parecendo uma coroa.

A maioria das pessoas se infecta com coronavírus comuns ao longo da vida, sendo as crianças pequenas mais propensas a se infectarem com o tipo mais comum do vírus. Os coronavírus mais comuns que infectam humanos são o Alpha Coronavírus 229E e NL63 e Beta Coronavírus OC43, HKU1…

O que você precisa saber e fazer. Como prevenir o contágio



Lave as mãos com água e sabão ou use álcool em gel.

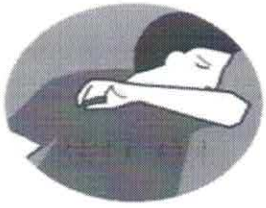

Cubra o nariz e boca ao espirrar ou tossir.



Evite aglomerações se estiver doente.

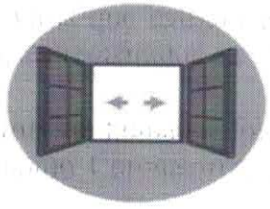

Mantenha os ambientes bem ventilados.



Não compartilhe objetos pessoais.

Fonte: saude.gov.br/coronavirus

Estrutura do texto

A) Que tipo de texto acabamos de ler?

B) Onde ele pode ser encontrado?

C) O que ele informa?

D) Para quem o texto foi produzido?

Compreensão textual

A) Descreva o motivo pelo qual foi estabelecido o nome "coronavírus"?

B) Faça uma pesquisa e descubra o significado dos termos COVID19.

C) Em relação às recomendações expostas acima, a respeito dos cuidados que devemos ter, você acha que as

pessoas estão fazendo o necessário para evitar o contágio? E quanto a você, quais são as precauções que tem tomado, em casa, e ao sair?

_____

_____

2. O texto "O que é coronavírus? (COVID-19)" apresenta informações importantes para o entendimento da doença causada por esse vírus. Para quais pessoas esse texto foi escrito?

a - ( ) Somente para as crianças.
b - ( ) Para professores que ministram aulas em universidades.
c - ( ) Para pessoas adultas.
d - ( ) Para sociedade em geral: crianças, jovens e adultos.

24/4 E 25/4



Com essa onda de Coronavírus até o Cascão resolveu lavar as mãos!

ATIVIDADE 1:

No texto 2, encontramos a seguinte frase "LAVAR AS MÃOS SALVA VIDAS!". Por que lavar as mãos pode salvar vidas?

a) ( ) Porque as mão ficam cheirosas.
b) ( ) Porque é uma maneira de evitar a transmissão de vírus.
c) ( ) Porque é uma forma de agradar aos pais.
d) ( ) Porque é necessário para participar de algumas brincadeiras.

ATIVIDADE 2:

Observe a imagem do texto 2, em seguida marque (V) para verdadeiro e (F) para falso:

a) ( ) A turminha da Mônica estava comemorando o aniversário do Cascão.

b) ( ) Todos estavam tristes pela atitude do Cascão.

c) ( ) A turminha da Mônica estava muito feliz porque o Cascão finalmente resolveu vencer o medo da água e lavou as mãos.

d) ( ) Ao lavar as mãos, Cascão está ajudando salvar vidas

ATIVIDADE 3:

Relacione as colunas adequadamente:

Exemplo:
1- Personagem que não gosta de tomar banho. ***(1) Cascão***

1- Não é necessário lavar as mãos.
2- Devemos utilizar água e sabão ao lavar as mãos.
3- Uma doença fez com que até o Cascão lavasse as mãos.
4- Além de lavar as mãos o personagem também precisou tomar um bom banho.

( ) Cascão
( ) Para evitar contaminação
( ) Coronavírus
( ) Ajuda a aumentar a contaminação por vírus

27/4 E 28/4

Leia a tirinha a seguir:



ATIVIDADE 1:

Após ler a tirinha, assinale a alternativa correta:

a -( ) Cebolinha e Cascão são irmãos.

b- ( ) Os dois personagens parecem estar tristes.

c- ( ) Cascão mora na casa do Cebolinha.

d- ( ) Os dois amigos são como dois irmão que moram em casas diferentes.

ATIVIDADE 2:

Após ler a tirinha, assinale a alternativa correta:

a -( ) Cebolinha e Cascão são irmãos.

b- ( ) Os dois personagens parecem estar tristes.

c- ( ) Cascão mora na casa do Cebolinha.

d- ( ) Os dois amigos são como dois irmão que moram em casas diferentes.

29/4 E 30/4

Emprego do je e ji
Emprego do ge e gi
Emprego do ce e ci
Emprego do ç

Emprego do z
Sílabas travadas pela consoante z: az, ez, iz, oz, uz
m antes de p e b e no final das palavras

1. Escreva j ou g para completar as palavras:

berin ___ ela	ho ___ e	pa ___ em	á ___ io
tre ___ eito	___ íria	mon ___ e	___ ema
ma ___ estade	la ___ e	gara ___ e	___ ipe
sar ___ ento	ele ___ er	gor ___ eta	___ esso
___ eca	___ esto	___ iló	___ ente

2. Continue a formar palavras. Siga o modelo:

conhecer: conhecimento

fornecer: _____

acontecer: _____

aborrecer: _____

esquecer: _____

aparecer: _____

aquecer: _____

entristecer: _____

3. Relacione as palavras de acordo com as legendas:

⊘ cesta	□ certo	☆ cerca	▽ cinza
_____ cinzento	_____ cercado	_____ certeiro	_____ cestão
_____ cercar	_____ cesteiro	_____ cinzeiro	_____ certeza

DISCIPLINA – GEOGRAFIA

22/4 E 24/4

Observe o mapa e responda:

MAPA-MÚNDI

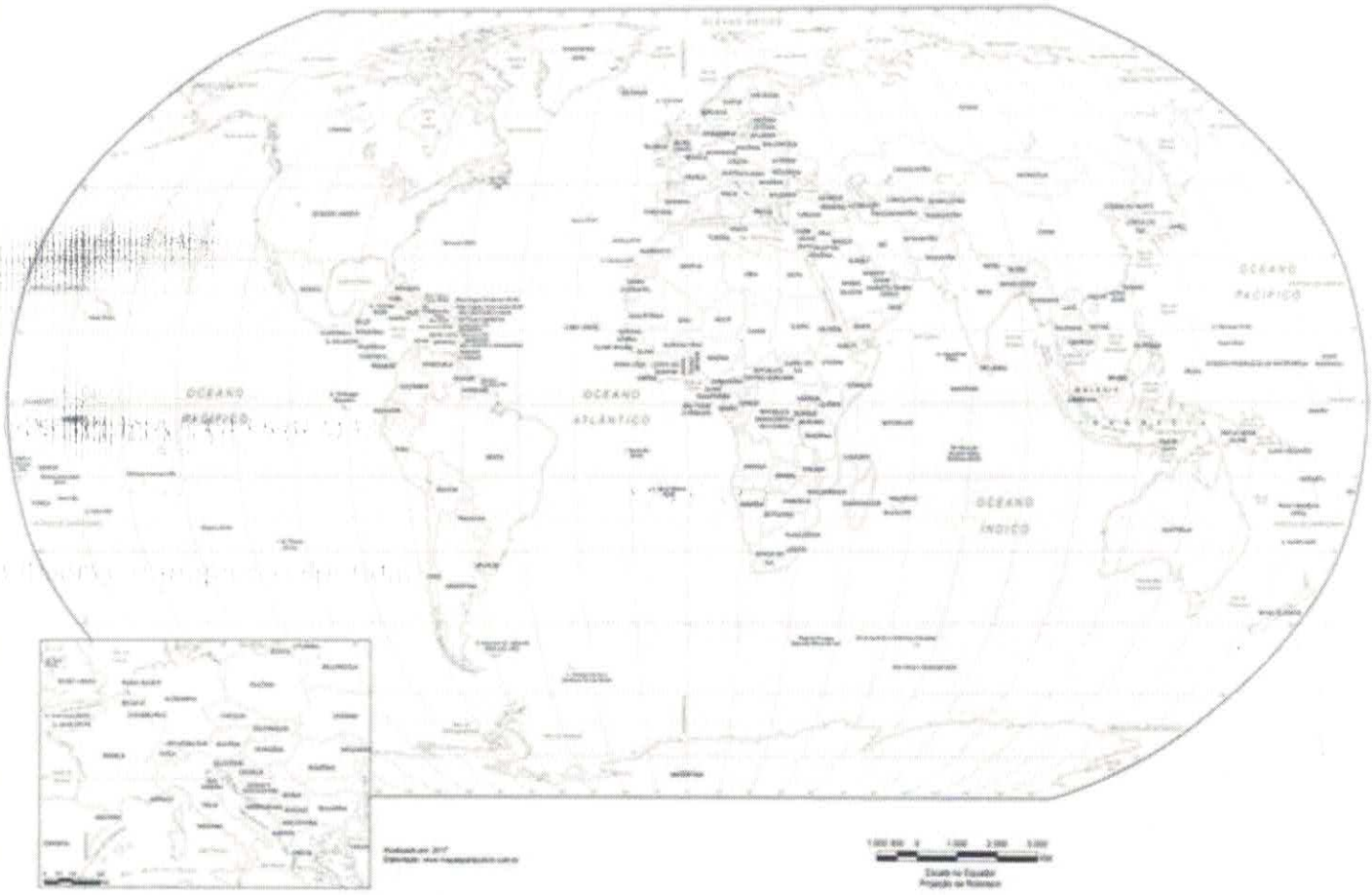

1: Observe o mapa e responda:

a. Qual nome (título) desse mapa?

_____

b. O que ele está representando?

_____

c. Pinte no mapa de amarelo o país que você mora e de cinza o país onde iniciou a pandemia do COVID-19.

25/4 E 29/4

OBSERVANDO O MAPA.

Olhe no mapa do Brasil e destaque (pintando) o Estado em qual moramos:



Complete a tabela a seguir com os nomes e capitais de alguns estados brasileiros a partir de sua sigla.

SIGLA	ESTADO	CAPITAL
AM		
AC		
RR		
RO		
PA		
AP		
TO		
MT		
MS		

DISCIPLINA: HISTÓRIA

23/4 E 28/4



DIA DO ÍNDIO – 19 DE ABRIL

Os índios foram os primeiros habitantes do Brasil. Eles vivem em grupos chamados TRIBOS.

Os índios têm vários costumes diferentes dos nossos.

Eles moram em cabanas chamadas OCAS. Várias ocas formam uma aldeia Chamada TABA.

Os índios alimentam-se de produtos que cultivam, de frutos colhidos na mata e de animais que caçam e pescam.

Para caçar e pescar, usam arcos, flechas e lanças, feitos por eles mesmos.

Os índios pintam o corpo e se enfeitam com colares e penas coloridas. Suas festas são alegres, com muita música e dança.

Hoje existem poucas tribos indígenas no Brasil.

A FUNAI é um órgão criado pelo governo para proteger e valorizar o índio. FUNAI significa: Fundação Nacional do Índio.

RESPONDA NO CADERNO

1) Em que dia se comemora o Dia do Índio?

.....

2) Como vivem os índios?

.....

3) De que os índios se alimentam?

.....

4) O que significa e qual é o papel da FUNAI?

.....

5) O que os índios usam para caçar e pescar?

.....

6) Na sua opinião ,por que hoje existem poucas tribos indígenas no Brasil?

30/04

FACA UM CARTAZ (CARTOLINA/PAPEL PARDO) ONDE PESQUISARÁ SOBRE A VIDA DOS INDIGENAS: SEUS COSTUMES, COMIDAS, TRAJES, MORADIAS.
PODERÁ COLAR GRAVURAS OU DESENHAR.

ESTADO DE MATO GROSSO DO SUL
MUNICÍPIO DE LADÁRIO
SECRETARIA MUNICIPAL DE EDUCAÇÃO

SMEL

ATIVIDADES DE EDUCAÇAO FISICA
NOME: _____
SERIE: 5 B

JOGO DOS 7 ERROS

www.smartkids.com.br

-Instruções:
Para brincar com o jogo dos 7 erros basta imprimir essa página, depois compare as figuras e encontre os 7 erros que existem na figura b. Marque-os com uma canetinha ou lápis para não perder a conta! Boa diversão!

a.



b.



Ligue os desenhos de acordo com os esportes:











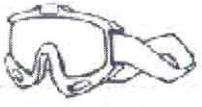

NATAÇÃO	.....
BOXE	.....
HIPISMO	.....
REMO	.....
TÊNIS	.....
FUTEBOL	.....
CICLISMO	.....

SECRETARIA MUNICIPAL DE EDUCAÇÃO
Rua Avenida 14 de Março, nº656 – Centro – Ladário – MS – CEP: 79370-000
Endereço Eletrônico: educaladario@brturbo.com.br
Telefone para contato: 67 3226 2394/ 3226 2034

ATIVIDADES DE EDUCAÇAO FISICA
NOME:_____
SERIE: 5 B

escreva corretamente no diagrama abaixo o nome de cinco esportes olímpicos.
Boa diversão!

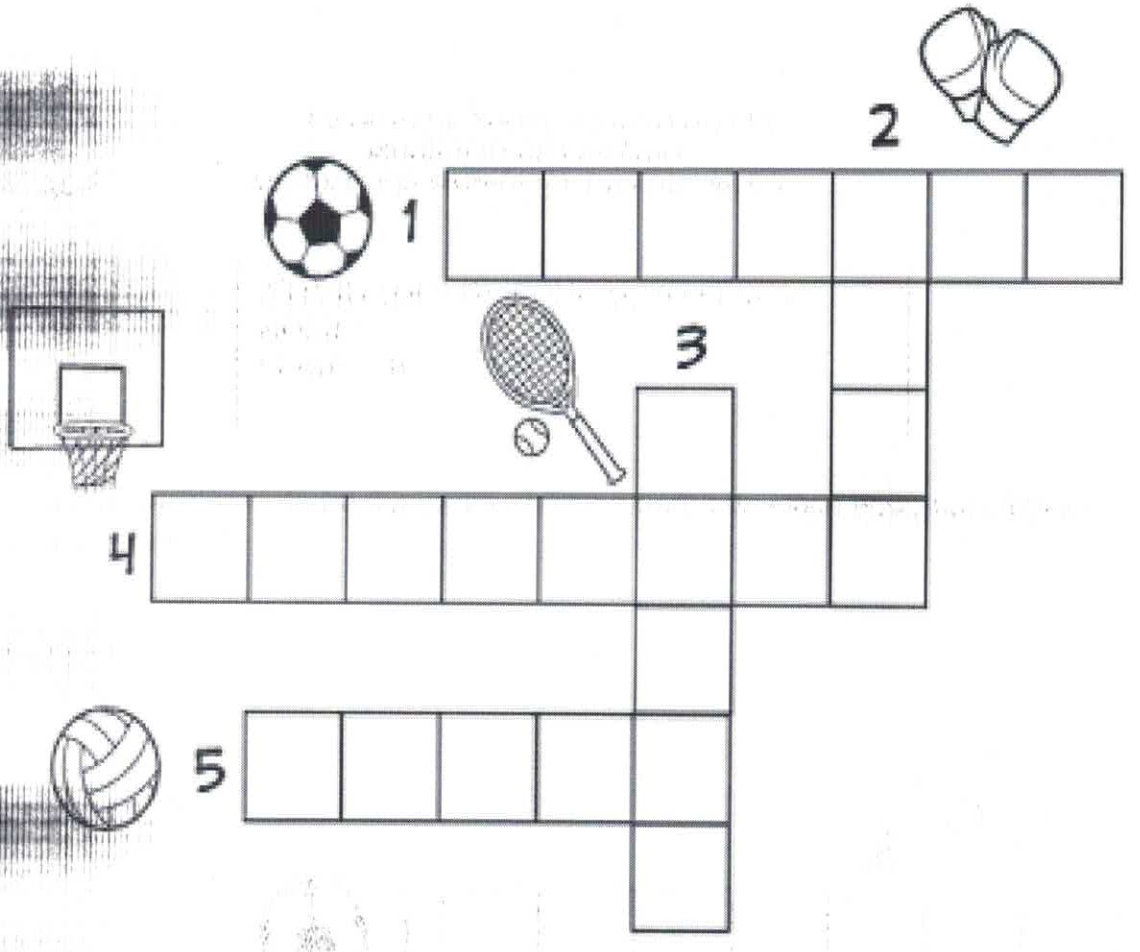

ESTADO DE MATO GROSSO DO SUL
MUNICÍPIO DE LADÁRIO
SECRETARIA MUNICIPAL DE EDUCAÇÃO

Escola Municipal " Nelson Mangabeira."
Ladário,24 de Abril de 2020.
Nome: _____Série: 5º B Vespertino Professora: Cristiane Disciplina: ECDH

CAÇA - PREVENÇÃO

CORONAVÍRUS

Q	Y	U	S	A	B	Ã	O	I	P	C
E	M	Ç	X	M	W	Ç	P	V	Z	O
T	O	Á	O	R	N	É	B	Á	G	N
W	K	L	S	E	Y	U	T	G	S	T
R	F	C	L	C	N	I	J	U	D	A
S	H	O	T	O	A	R	K	A	J	T
D	C	O	Q	Z	D	R	Ç	L	C	O
F	B	L	M	G	K	V	A	N	A	X
G	L	Z	B	E	I	J	O	A	H	V

ECDH

6- COMPLETE A ESCRITA ENIGMÁTICA:

EU LAVO AS  COM .

FÁBIO LIMPA O  COM .

VITOR TAMPA A  COM O .

O VÍRUS É TRANSMITIDO PELO .

Escola Municipal Nelson Mangabeira.

Curso: Ensino Fundamental

Disciplina: Artes Visuais.

Professor: Jubiracy Junior.

09 cópias

ATIVIDADES ESCOLARES.

Do 5ºano vespertino.

As atividades devem ser sempre feitas com o acompanhamento do responsável.

Agora que você já domina o conteúdo Arte Rupestre, faça um desenho da arte rupestre, que represente este movimento, e elabore **05 questões com respostas** do referido conteúdo pesquisado. Para ser entregue na coordenação da escola. Lembre-se que é através de suas atividades que você será avaliado, ou seja, será a nossa primeira nota do bimestre. Sucesso em suas pesquisas.

Escola Municipal Nelson Mangabeira.

Curso: Ensino Fundamental

Disciplina: Artes Visuais.

Professor: Jubiracy Junior.

ATIVIDADES ESCOLARES.

Do 5ºano vespertino.

As atividades devem ser sempre feitas com o acompanhamento do responsável.

Agora que você já domina o conteúdo Arte Rupestre, faça um desenho da arte rupestre, que represente este movimento, e elabore **05 questões com respostas** do referido conteúdo pesquisado. Para ser entregue na coordenação da escola. Lembre-se que é através de suas atividades que você será avaliado, ou seja, será a nossa primeira nota do bimestre. Sucesso em suas pesquisas.