ESCOLA: NELSON MANGABEIRA

PROFESSOR (A): PAOLA ANDREA TONIAZZO GARCIA **TURMA(S):** 5 ANO B
ENSINO FUNDAMENTAL I **TURNO:** VESPERTINO
ALUNO(A): _____

COMPONENTE CURRICULAR: EDUCAÇÃO FÍSICA
PERÍODO: 04/11 05/11 11/11 12/11 18/11
QUANTIDADE DE AULAS: 05

OBJETOS DE CONHECIMENTO:
Esporte e saúde

HABILIDADES:
(EF35EF06)Diferenciar os conceitos de jogo e esporte, identificando as características que os constituem na contemporaneidade e suas manifestações (profissional e comunitária/lazer).

ATIVIDADE 01

5. PRATICAR ESPORTE É CUIDAR DO CORPO. FAÇA A CORRESPONDÊNCIA DE CADA SÍMBOLO AO ESPORTE CORRESPONDENTE.

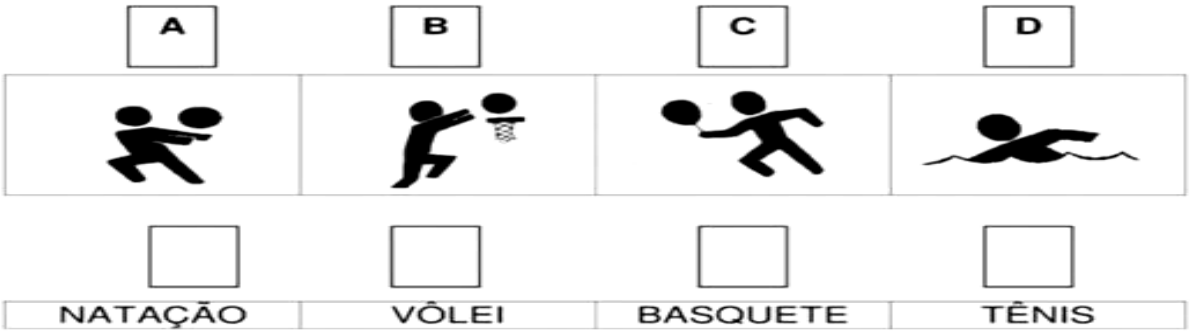

6. DESENHE UM SÍMBOLO PARA ESTES ESPORTES.

CICLISMO

FUTEBOL



Disponível em< https://br.pinterest.com/pin/502010689696174951/

ATIVIDADE 02



Disponível em < https://br.pinterest.com/pin/310396599313592571/

ATIVIDADE 03



Disponível em < https://br.pinterest.com/pin/498421883742704316/

ATIVIDADE 04

Resolva o caça-palavras. Encontre os nomes das partes do corpo humano.

J	S	A	C	K	B	M	O	U	T	H	E
R	H	A	N	D	U	H	X	F	H	G	D
Q	O	M	R	G	T	I	C	V	D	B	N
A	R	M	D	C	L	F	O	O	T	M	O
N	P	T	S	F	U	V	T	W	E	C	S
X	E	N	E	P	W	L	S	F	J	L	E
E	O	X	Y	I	L	E	J	A	G	D	K
A	U	Q	E	J	B	G	R	V	I	H	N
R	Z	X	L	A	G	M	K	Z	B	X	O
V	F	I	N	G	E	R	Q	E	W	P	H

Escreva o nome das partes do corpo indicadas.

1 _____

2 _____

3 _____

4 _____

5 _____

6 _____

7 _____

8 _____

9 _____



Disponível em https://www.ideiacriativa.org/2012/07/atividade-olimpiadas-ginastica-olimpica.html

ESCOLA: NELSON MANGABEIRA

PROFESSOR (A): PAOLA ANDREA TONIAZZO GARCIA **TURMA(S):** 5 ANO B
ENSINO FUNDAMENTAL I **TURNO:** VESPERTINO
ALUNO(A): _____

COMPONENTE CURRICULAR: EDUCAÇÃO FÍSICA
PERÍODO: 19/11 25/11 26/11 02/12 03/12
QUANTIDADE DE AULAS: 05

OBJETOS DE CONHECIMENTO:
Brincadeiras e jogos populares

HABILIDADES:
(EF35EF01) Experimentar e fruir brincadeiras e jogos populares do Brasil e do mundo, incluindo aqueles de matriz indígena e africana, e recriá-los, valorizando a importância desse patrimônio histórico cultural.

ATIVIDADE 01

1. OBSERVE OS JOGADORES:



A) O NOME DO JOGO É:

☐ PAREDÃO
☐ TÊNIS DE MESA
☐ PETECA

B) O EQUIPAMENTO UTILIZADO NESTE JOGO É:

☐ TACO ☐ BOLA ☐ PETECA

C) QUEM ESTÁ JOGANDO PETECA?

☐ MENINAS ☐ MENINOS ☐ VELHOS

D) QUANTOS MENINOS JOGAM O JOGO DE PETECA?

☐ 2 ☐ 4 ☐ 3

E) A PETECA É FEITA DE:



☐ PENAS
☐ FOLHAS DE ÁRVORES
☐ BASE DE BORRACHA

Disponível em< https://br.pinterest.com/pin/502010689696174951/

ATIVIDADE 02

2. OBSERVE A IMAGEM:



A) O NOME DO JOGO É:

- ☐ PAREDÃO
- ☐ TÊNIS DE MESA
- ☐ PETECA

B) O JOGO PAREDÃO TEM ESTE NOME POR QUÊ?

- ☐ REBATE A BOLA NO CHÃO
- ☐ REBATE A BOLA NA PAREDE
- ☐ REBATE A BOLA NA REDE

C) PARA JOGAR O JOGO PETECA E DO PAREDÃO OS JOGADORES TÊM QUE:



☐ CHUTAR ALGUM OBJETO



☐ REBATER ALGUM OBJETO

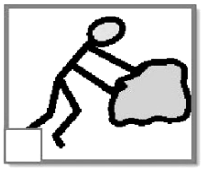

☐ EMPURRAR ALGUM OBJETO

Disponível em < https://madalenaclaudia.blogspot.com

ATIVIDADE 03

1 CONHECIDO MUNDIALMENTE, GUSTAVO KUERTEN (GUGA) É UM EX-ATLETA BRASILEIRO DE QUAL MODALIDADE?



A- ( ) TÊNIS DE MESA
B- ( ) BOXE
C- ( ) TÊNIS DE CAMPO

2- OBSERVE A IMAGEM: É A BOLA DO JOGO DE TCHOUKBALL. QUAL DAS BOLAS ABAIXO QUE PARECE COM ESTA MODALIDADE?









A) HANDEBOL B) VOLEIBOL C) BASQUETEBOL

Disponível em < https://madalenaclaudia.blogspot.com

ATIVIDADE 04

1. OBSERVE A IMAGEM:



A) QUAL ESPORTE É ESTE?

☐ TÊNIS DE MESA
☐ BOXE
☐ TÊNIS DE CAMPO

2. ENUMERE ALGUNS MATERIAIS USADOS NO TÊNIS DE MESA:

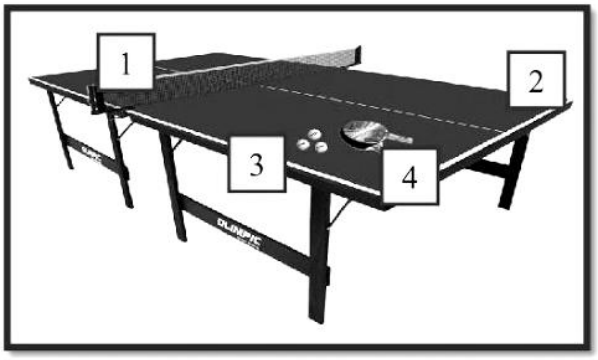

☐ MESA
☐ REDE
☐ RAQUETE
☐ BOLA

3. ESCREVA A FRASE:

O TÉNIS DE MESA É SEM DÚVIDA UM DESPORTO EXTRAORDINÁRIO QUE EXIGE MUITA RAPIDEZ E AGILIDADE.

_____

_____

_____

_____

Disponível em < https://madalenaclaudia.blogspot.com