CEMEI NEUSA ASSAD MALTA.

NOME:_____ PRÉ I-A DATA:29/04/2020

ESPAÇOS, TEMPOS E QUANTIDADES

CUBRA OS TRAÇADOS

2



Dois

2 2 2

2 2

2



2 2 2

2 2

2

DISPONÍVEL EM:pinterst.com

CEMEI NEUSA ASSAD MALTA.

ESPAÇOS, TEMPOS E QUANTIDADES

PINTE DE ACORDO COM A LEGENDA:



Ler e Aprender - lereaprender.com.br

DISPONÍVEL EM :lereaprender.com

CEMEI NEUSA ASSAD MALTA.

NOME:_____PRÉ I- A DATA:30/04/2020

EU, O OUTRO E O NÓS- OS SENTIDOS

GABRIELA ESTÁ LENDO SEU LIVRO FAVORITO
QUAL ORGÃO ELA USA PARA LER?
PINTE O QUADRINHO





WWW.ENSINAR-APRENDER.BLOGSPOT.COM

ANA OUVE OS PASSOS DO ANIMAL NO TELHADO
COM QUAL ORGÃO ELA OUVE?
PINTE O QUADRINHO

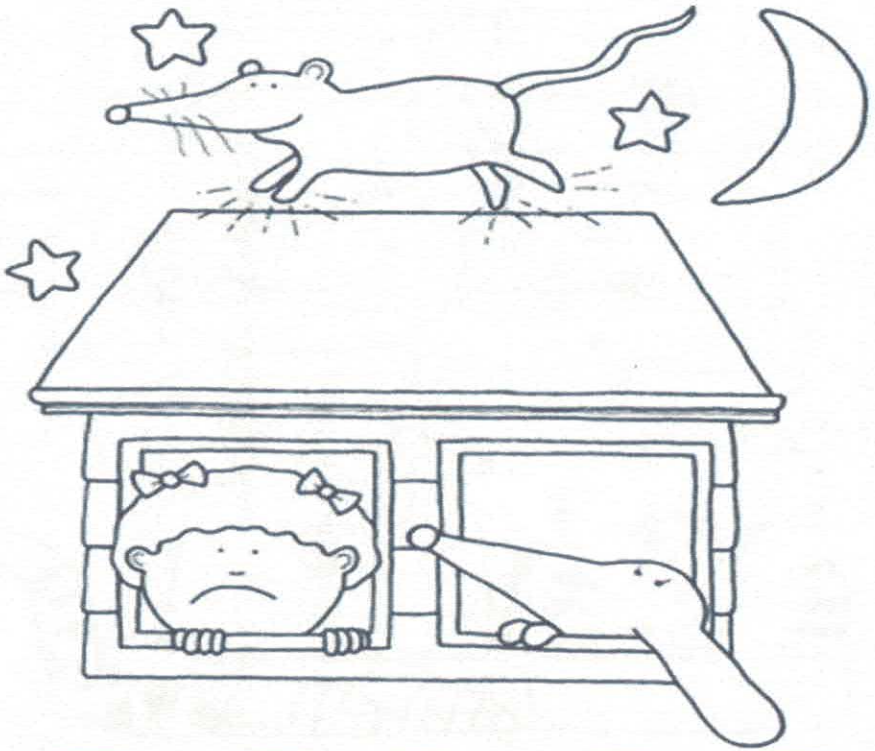



WWW.ENSINAR-APRENDER.BLOGSPOT.COM