ESCOLA MUNICIPAL PROFESSOR JOÃO BAPTISTA
PROFESSORA:JUCENIR LOPES BRAGA
TURMA: 3º ANO C
ENSINO: FUNDAMENTAL 1 TURNO: VESPERTINO
ALUNO:_____
COMPONENTE CURRICULAR: LÍNGUA PORTUGUESA
PERÍODO: 08/09/2020 a 15/09/2020
QUANTIDADE DE AULAS: 6 aulas

Objeto de conhecimento: Ler/escrever palavras com correspondência regulares contextuais-Ortografia RR-SS
HABILIDADES – EF03LP01

ATIVIDADE AVALIATIVA

PALAVRAS COM RR E SS

1. Separe as sílabas:
a) passarela - _____
b) dezessete - _____
c) pêssego - _____
d) suasso - _____
e) torrada - _____
f) barraca - _____
g) macarrão - _____
h) ferrugem - _____



2. Escreva o nome das figuras:






_____ _____ _____ _____






_____ _____ _____ _____

3. Complete as frases usando as palavras abaixo:

jarra - pássaro - carro

a) O suco de morango está na _____.
b) O _____ voa bem alto.
c) O _____ do papai está na oficina.

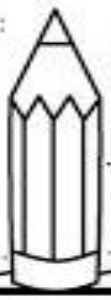

https://br.pinterest.com/pin/148055906489547467/

ESCOLA MUNICIPAL PROFESSOR JOÃO BAPTISTA
PROFJUCENIR LOPES BRAGA

TURMA: 3º ANO C
ENSINO: FUNDAMENTAL 1 TURNO: VESPERTINO
ALUNO:_____
COMPONENTE CURRICULAR: LÍNGUA PORTUGUESA
PERÍODO: 08/09/2020 a 15/09/2020
QUANTIDADE DE AULAS: 6 aulas

Objeto de conhecimento: Ler/escrever palavras com correspondência regulares contextuais-Ortografia C/Q.
Habilidades – EF03LP01

ATIVIDADE AVALIATIVA

1) COMPLETE AS PALAVRAS COM "CE", "CI", "QUE" OU "QUI":

 ☐ NOURA

 BA☐A

 MOS☐TO

 ES☐MÓ

 ☐NTO

 ES☐LETO

 MOR☐GO

 CA☐

 ☐IJO

2) DÊ AS RESPOSTA COLOCANDO UMA LETRA EM CADA POSIÇÃO:

A. ALIMENTO QUE FAZ A PESSOA CHORAR QUANDO ESTÁ SENDO DESCASCADO.

☐☐☐☐☐☐

B. PEÇA UTILIZADA PARA SEGURAR AS CALÇAS:

☐☐☐☐☐

O QUE É O QUE É?

1. MIA E É CHARMOSO

G A ☐ O

2. É UM REBANHO DE BOIS OU CARNEIROS

G A ☐ O

3) PROCURE AS PALAVRAS NO CAÇA-PALAVRAS DE ACORDO COM AS PESQUISAS AO LADO:

C A B E Ç A H J K L A
O B O B A Q U E L E Y
B P E S Q U I S A S H
E S C U R I D Ã O C J
R Q U E N T E X H A U
T C P M C H A R I D X
O E I O J H G F T A H
R H M S E Q U I L H O

1. PARTE DO CORPO ONDE SE ALOJA O CÉREBRO.
2. ATO DE BUSCAR, INVESTIGAR E RECOLHER DADOS
3. SÉRIE DE DEGRAUS PARA SUBIR E DESCER.
4. PEÇA DE ROUPA DE CAMA UTILIZADA PARA SE PROTEGER DO FRIO.
5. BOLO OU BISCOITO SECO FEITO COM FARINHA DE TRIGO OU ARARUTA.
6. INSETO QUE GOSTA DE COMER MADEIRA.
7. FALTA DE LUZ
8. PRONOME QUE INDICA ALGO OU PESSOA QUE ESTÁ DISTANTE DO LOCUTOR E DO OUVINTE.

https://br.pinterest.com/pin/633387433510685/

ESCOLA MUNICIPAL PROFESSOR JOÃO BAPTISTA
PROFESSORA : JUCENIR LOPES BRAGA

TURMA: 3º ANO C
ENSINO: FUNDAMENTAL 1 TURNO: VESPERTINO
ALUNO:_____
COMPONENTE CURRICULAR: LÍNGUA PORTUGUESA
PERÍODO: 16/09/2020 a 30/09/2020
QUANTIDADE DE AULAS: 12 aulas

Objeto de conhecimento: Ler/escrever palavras com correspondência regulares contextuais CH/LH/NH
Habilidade: EF03LP01

ATIVIDADE AVALIATIVA



1 LEIA AS PALAVRAS DO QUADRO ABAIXO.

COELHO	ALHO	CHUVA
CACHORRO	GALINHA	COALHADA
PASSARINHO	REPOLHO	LINHA
MOCHILA	NINHO	DINHEIRO
BOLICHE	MILHO	CHAPÉU

2 COMPLETE O QUADRO ESCREVENDO AS PALAVRAS ACIMA NAS COLUNAS CORRESPONDENTES.

CH	NH	LH

https://onlinecursosgratuitos.com/28-atividades-com-ch-lh-e-nh-para-imprimir/

ESCOLA MUNICIPAL PROFESSOR JOÃO BAPTISTA
PROFESSORA: JUCENIR LOPES BRAGA
TURMA: 3º ANO C
ENSINO: FUNDAMENTAL 1 TURNO: VESPERTINO
ALUNO:_____
COMPONENTE CURRICULAR: LÍNGUA PORTUGUESA
PERÍODO: 16/09/2020 a 30/09/2020

QUANTIDADE DE AULAS: 12 aulas

Objeto de conhecimento: Gênero Literário da tradição oral.
Habilidade: EF35LP14

PAPO (JOSÉ PAULO PAES)

- ONDE VAI JOANINHA ?
- A CASA DA VIZINHA.

VER SE ELA TEM TINTA
PARA MINHAS PINTAS.

- VOCÊ GOSTA DE CORES?
- CLARO, POIS VIVO ENTRE AS FLORES

COMENDO OS PULGÕES
QUE ESTRAGAM AS PLANTAÇÕES

E ACABAM COM O VERDE
TÃO GOSTOSO DE VER-SE.

MAS CHEGA DE PAPO
QUE O SOL JÁ VAI ALTO!

- ENTÃO ADEUS, JOANINHA.
- ENTÃO ADEUS, VIZINHA.



Interpretação de texto

1- A joaninha vai _____

( ) as plantações

( ) a casa da vizinha

2- O que a joaninha queria da vizinha?

_____

3- Por que a joaninha gosta de cores?

_____

4- O que a joaninha faz entre as flores?

_____

5- O verso "Que o sol já vai alto" significa que _____

( ) já é tarde para joaninha

( ) ainda é cedo para joaninha

6- Com quem a joaninha conversava?

_____

https://br.pinterest.com/pin/242138917443617462/

ESCOLA MUNICIPAL PROFESSOR JOÃO BAPTISTA
PROFESSORA: JUCENIR LOPES BRAGA
TURMA: 3º ANO C
ENSINO: FUNDAMENTAL 1 TURNO: VESPERTINO
ALUNO:_____
COMPONENTE CURRICULAR: LÍNGUA PORTUGUESA
PERÍODO: 16/09/2020 a 30/09/2020
QUANTIDADE DE AULAS: 12 aulas

Objeto de conhecimento: Ler/escrever palavras com correspondência regulares contextuais-Ortografia NH.
HABILIDADES – EF03LP01

ATIVIDADE AVALIATIVA

1-) COMPLETE AS PALAVRAS ABAIXO COM A SÍLABA EU FALTA:



2-) REESCREVA TODAS AS PALAVRAS ACIMA COM LETRA CURSIVA:

_____ _____
_____ _____
_____ _____
_____ _____
_____ _____
_____ _____

https://br.pinterest.com/cardoso4002/letra-nh-ch-lh/

ESCOLA MUNICIPAL PROFESSOR JOÃO BAPTISTA
PROFESSORA: JUCENIR LOPES BRAGA
TURMA: 3º ANO C
ENSINO: FUNDAMENTAL 1 TURNO: VESPERTINO
ALUNO:_____
COMPONENTE CURRICULAR: LÍNGUA PORTUGUESA
PERÍODO: 16/09/2020 a 30/09/2020
QUANTIDADE DE AULAS: 12 aulas

Objeto de conhecimento: Ler/escrever palavras com correspondência regulares contextuais-Ortografia NH.

HABILIDADES – EF03LP01

ATIVIDADE AVALIATIVA

1- ESCREVA O NOME DAS FIGURAS COM LETRA CURSIVA UTILIZANDO O NH:



http://roseartseducar.blogspot.com/2015/10/atividades-de-alfabetizacao-com-silabas.html

ESCOLA MUNICIPAL PROFESSOR JOÃO BAPTISTA
PROFESSORA: JUCENIR LOPES BRAGA.
TURMA: 3º ANO C
ENSINO: FUNDAMENTAL 1 TURNO: VESPERTINO
ALUNO:_____.
COMPONENTE CURRICULAR: MATEMÁTICA
PERÍODO: 08/09/2020 a 15/09/2020
QUANTIDADE DE AULAS: 5 aulas

Objeto de conhecimento: Utilizar diferentes procedimentos de cálculo mental e escrito envolvendo Adição e Subtração.
Habilidades: MSEF03MA05

ATIVIDADE AVALIATIVA

1-) Arme e efetue as adições e depois coloque os resultados:

		RESULTADO
a) 197 + 458		
b) 156 + 293		
c) 208 + 739		
d) 164 + 278		
e) 135 + 361		
f) 496 + 208		
g) 729 + 185		
h) 258 + 406		
i) 171 + 537		
j) 460 + 294		

A-) 197
+458

https://www.soescola.com/2017/06/atividades-adicao-e-subtracao-2-e-3-ano.html

ESCOLA MUNICIPAL PROFESSOR JOÃO BAPTISTA
PROFESSORA: JUCENIR LOPES BRAGA.
TURMA: 3º ANO C
ENSINO: FUNDAMENTAL 1 TURNO:VESPERTINO
ALUNO:_____.
COMPONENTE CURRICULAR: MATEMÁTICA
PERÍODO 08/09/2020 a 15/09/2020.
QUANTIDADE DE AULA: 05 aulas

Objeto de conhecimento: Utilizar diferentes procedimentos de cálculo mental e escrito envolvendo Adição e Subtração.

Habilidades: MSEF03MA05

ATIVIDADE AVALIATIVA

1-) Arme e efetue as subtrações e depois coloque os resultados:

		RESULTADOS
a) 385 - 187		
b) 463 - 225		
c) 728 - 357		
d) 503 - 276		
e) 456 - 391		
f) 389 - 145		
g) 608 - 594		
h) 276 - 137		
i) 354 - 286		
j) 960 -732		

a-) **3 8 5**
- 1 8 7

https://www.soescola.com/2017/06/atividades-adicao-e-subtracao-2-e-3-ano.html

ESCOLA MUNICIPAL PROFESSOR JOÃO BAPTISTA
PROFESSORA: JUCENIR LOPES BRAGA.
TURMA: 3º ANO C
ENSINO: FUNDAMENTAL 1 TURNO: VESPERTINO
ALUNO:_____.
COMPONENTE CURRICULAR: MATEMÁTICA
PERÍODO: 16/09/2020 a 30/09/2020
QUANTIDADE DE AULAS:10 aulas

Objeto de conhecimento: Utilizar diferentes procedimentos de cálculo mental e escrito envolvendo Adição e Subtração.

Habilidades: MSEF03MA05

OBSERVAÇÃO: TODAS AS ATIVIDADES DEVERAO SEREM FEITAS COM LETRA CURSIVA
TODAS AS ATIVIDADES DEVERÃO TER O NOME COMPLETO DO ALUNO (A)

ATIVIDADE AVALIATIVA

NAS ÚLTIMAS SEMANAS REALIZAMOS VÁRIAS ATIVIDADES NAS AULAS DE MATEMÁTICA. AGORA VAMOS RELEMBRAR UM POUCO DO QUE PRATICAMOS EM SALA E VER O QUE VOCÊ APRENDEU.

1- EFETUE CORRETAMENTE AS OPERAÇÕES:

5 + 6 = ☐	15 + 3 = ☐	27 + 9 = ☐	59 - 6 = ☐	47 - 5 = ☐

2- AGORA COLOQUE CADA RESULTADO QUE VOCÊ ENCONTROU EM UM QUADRINHO E ESCREVA COMO SE LÊ .

☐ onze
☐ _____
☐ _____
☐ _____
☐ _____

https://www.atividadesmatematica.com/2016/05/avaliacao-de-matematica-adaptada-para-3ano.html

ESCOLA MUNICIPAL PROFESSOR JOÃO BAPTISTA
PROFESSORA: JUCENIR LOPES BRAGA.
TURMA: 3º ANO C
ENSINO: FUNDAMENTAL 1 TURNO: VESPERTINO
ALUNO:_____
.
COMPONENTE CURRICULAR: MATEMÁTICA
PERÍODO: 16/09/2020 a 30/09/2020.
QUANTIDADE DE AULAS :10 aulas

Objeto de conhecimento: Utilizar diferentes procedimentos de cálculo mental e escrito envolvendo Adição e Subtração
Habilidades: MSEF03MA05

TODAS AS ATIVIDADES DEVERÃO TER O NOME COMPLETO DO ALUNO (A).

ATIVIDADE AVALIATIVA

Verificação da Aprendizagem em Matemática

1. Continue a sequência dos números:

50 ____ 70 ____ 90 ____ 110 ____ 130 ____ 150 ____

200 ____ 220 ____ 240 ____ 260 ____ 280 ____ 300

____ 510 ____ 530 ____ ____ 560 ____ 580 ____ ____

700 ____ 720 ____ ____ 750 ____ 770 ____ 790 ____

2. Observe os números abaixo:

135 - 130 - 132 - 134 - 138

A ordem crescente destes números é:

☐ 138 - 132 - 130 - 134 - 135
☐ 135 - 130 - 132- 138 - 135
☐ 130 - 132 - 134 - 135 - 138
☐ 138 - 135 - 134 - 132 - 130

3. A escrita do número 529 por extenso é:

☐ duzentos e vinte novembro
☐ noventa e dois
☐ cinquenta e nove
☐ quinhentos e vinte e nove

4. Escreva os numerais:

duzentos e quarenta e sete ____ trezentos e dois ____
seiscentos e trinta e seis ____ cento e trinta ____

https://br.pinterest.com/pin/341710690476939409/

ESCOLA MUNICIPAL PROFESSOR JOÃO BAPTISTA
PROFESSORA: JUCENIR LOPES BRAGA.
TURMA: 3º ANO C
ENSINO: FUNDAMENTAL 1 TURNO: VESPERTINO
ALUNO:_____.
COMPONENTE CURRICULAR: MATEMÁTICA
PERÍODO: 16/09/2020 a 30/09/2020
QUANTIDADE DE AULAS: 10 aulas

Objeto de conhecimento: Utilizar diferentes procedimentos de cálculo mental e escrito envolvendo Adição e Subtração
Habilidades: MSEF03MA05
OBSERVAÇÃO:TODAS AS ATIVIDADES DEVERÃO TER O NOME COMPLETO DO ALUNO (A).
RESPONDA NA FOLHA E COPIE COM LETRA CURSIVA NO CADERNO:

ATIVIDADE AVALIATIVA

Resolva os problemas.

	CÁLCULOS
O ônibus da escola de Mariana tem capacidade para 30 alunos. Hoje apenas 22 alunos foram. Quantos alunos faltaram? 	
Na casa de Mateus têm 10 laranjeiras, 1 mangueira, 2 limoeiros, 12 aceroleiras e 2 bananeiras. Quantas árvores tem na casa de Mateus, no total? 	
Junior tem uma coleção de carrinhos de brinquedos com 128 carrinhos. Ele quer dividi-los igualmente em quatro prateleiras. Quantos carrinhos cada prateleira terá? 	
Se a previsão é de que o dia amanheça em 20°C e passe para 33°C ao longo do dia. Quantos graus irá subir? 	

https://br.pinterest.com/pin/341710690476939409/

ESCOLA MUNICIPAL PROFESSOR JOÃO BAPTISTA
PROFESSORA: JUCENIR LOPES BRAGA.
TURMA: 3º ANO C
ENSINO: FUNDAMENTAL 1 TURNO: VESPERTINO
ALUNO:_____
COMPONENTE CURRICULAR: GEOGRAFIA
PERÍODO: 08/09/2020 a 15/09/2020
QUANTIDADE DE AULAS: 3 aulas

Objeto de conhecimento: Reconhecer diversas representações cartográficas – O clima no Brasil
Habilidades: EF03GE07
OBSERVAÇÃO: TODAS AS ATIVIDADES DEVERAO SEREM FEITAS COM LETRA CURSIVA.TODAS AS ATIVIDADES DEVERÃO TER O NOME COMPLETO DO ALUNO.

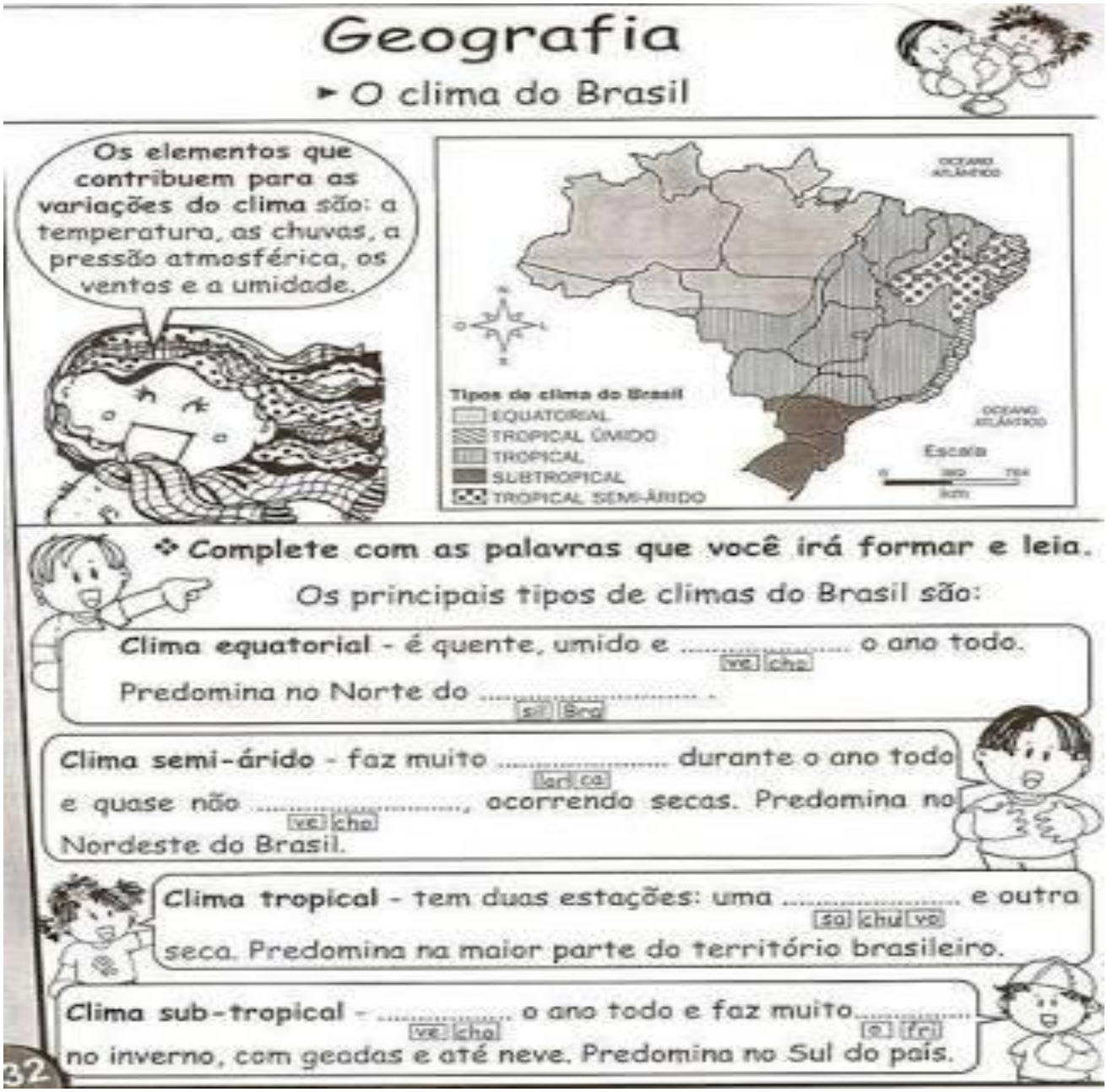

https://br.pinterest.com/pin/643803709219789927/

ESCOLA MUNICIPAL PROFESSOR JOÃO BAPTISTA
PROFESSORA: JUCENIR LOPES BRAGA.
TURMA: 3º ANO C
ENSINO: FUNDAMENTAL 1 TURMA :VESPERTINO
ALUNO:_____.
COMPONENTE CURRICULAR: GEOGRAFIA
PERÍODO: 16/09/2020 a 30/09/2020
QUANTIDADE DE AULAS: 5 aulas

Objeto de conhecimento: Reconhecer diversas representações cartográficas –) clima no Brasil
Habilidades: EF03GE07
OBSERVAÇÃO: TODAS AS ATIVIDADES DEVERAO SEREM FEITAS COM LETRA CURSIVA.TODAS AS ATIVIDADES DEVERÃO TER O NOME COMPLETO DO ALUNO(A).

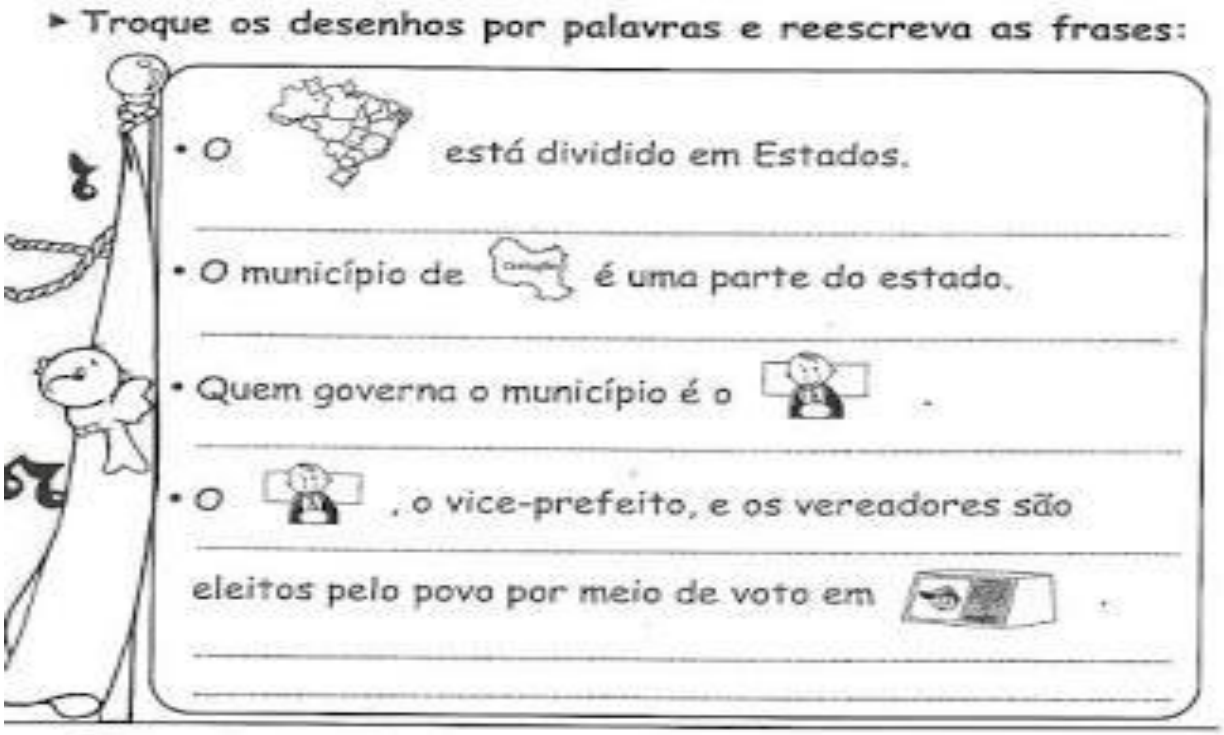



https://br.pinterest.com/pin/643803709219789986/

ESCOLA MUNICIPAL PROFESSOR JOÃO BAPTISTA
PROFESSORA: JUCENIR LOPES BRAGA.
TURMA: 3º ANO C
ENSINO: FUNDAMENTAL 1 TURMA :VESPERTINO
ALUNO:_____
_.
COMPONENTE CURRICULAR: GEOGRAFIA
PERÍODO: 16/09/2020 a 30/09/2020
QUANTIDADE DE AULAS: 5 aulas

Objeto de conhecimento: Serviços Publicos; Saneamento Básico,Educação ;Saude.
Habilidades: EF03G08
OBSERVAÇÃO: TODAS AS ATIVIDADES DEVERAO SEREM FEITAS COM LETRA CURSIVA.TODAS AS ATIVIDADES DEVERÃO TER O NOME COMPLETO DO ALUNO(A).



https://br.pinterest.com/pin/262827328240093537/

ESCOLA MUNICIPAL PROFESSOR JOÃO BAPTISTA
PROFESSORA: JUCENIR LOPES BRAGA.
TURMA: 3º ANO C
ENSINO: FUNDAMENTAL 1 TURNO:VESPERTINO
ALUNO:_____.
COMPONENTE CURRICULAR: HISTÓRIA
PERÍODO: 08/09/2020 a 15/09/2020
QUANTIDADE DE AULA: 2 aulas

Objeto de conhecimento: Identificar os patrimônios históricos e culturais. Estação do ano – Primavera.

Habilidades: EF03HI04

OBSERVAÇÃO: TODAS AS ATIVIDADES DEVERAO SEREM FEITAS COM LETRA CURSIVA
TODAS AS ATIVIDADES DEVERÃO TER O NOME COMPLETO DO ALUNO(A)

Atividade Avaliativa



O ouriço malabarista

No meio de duas flores
Em uma teia um ouriço,
Brinca de malabarista.
Onde é que se viu isso?

Na primavera é assim,
Alegre como num circo
Ficam felizes as flores
E até brinca o ouriço

Gi Barbosa

Compreendendo o Texto

Qual o título do texto?

_____

Qual seu personagem principal?

_____

Em qual estação se passa o espisódio com o ouriço?

_____

O que faz de tão surpreendente o ouriço?

_____

O que você achou do texto?

_____

Mala criativa

https://escolaeducacao.com.br/atividades-de-interpretacao

ESCOLA MUNICIPAL PROFESSOR JOÃO BAPTISTA
PROFESSORA: JUCENIR LOPES BRAGA.
TURMA: 3º ANO C
ENSINO: FUNDAMENTAL 1 TURNO: VESPERTINO
ALUNO:_____
_.
COMPONENTE CURRICULAR: HISTÓRIA
PERÍODO: 16/09/2020 a 30/09/2020
QUANTIDADE DE AULAS: 4 aulas

Objeto de conhecimento: Identificar os patrimônios históricos e culturais. Dia da Árvore.

Habilidades: EF03HI04

OBSERVAÇÃO: TODAS AS ATIVIDADES DEVERAO SEREM FEITAS COM LETRA CURSIVA
TODAS AS ATIVIDADES DEVERÃO TER O NOME COMPLETO DO ALUNO(A)

Atividade Avaliativa

DESCUBRA OS NOMES DAS FRUTAS DAS RESPECTIVAS PLANTAS E PROCURE NO CAÇA PALAVRAS.

PLANTA	FRUTA
BANANEIRA	
GOIABEIRA	
LARANJEIRA	
MACIEIRA	
MAMOEIRO	
ABACATEIRO	
LIMOEIRO	
TOMATEIRO	
CAJUEIRO	
UMBUZEIRO	
MANGUEIRA	
PEREIRA	
AMOREIRA	
PITANGUEIRA	
FIGUEIRA	
MEXERIQUEIRA	
AÇAIZEIRO SAPOTIZEIRO	
COQUEIRO PARREIRA	
INGAZEIRO	
JAMBUZEIRO	
JABUTICABEIRA	





B	P	R	M	S	T	O	M	A	T	E	H	P	L
A	V	N	A	S	F	G	H	A	Ç	A	Í	I	A
N	A	A	N	A	G	O	I	A	B	A	F	T	R
A	M	B	G	P	W	E	T	Y	U	I	G	A	A
N	O	A	A	O	F	G	V	H	Y	J	H	N	N
A	R	C	F	T	G	C	G	H	D	V	J	G	J
F	A	A	R	I	M	A	M	Ã	O	A	K	A	A
G	J	T	H	K	Y	J	D	G	T	H	L	F	S
H	P	E	R	A	G	U	G	A	L	I	M	Ã	O
U	M	B	U	K	M	E	X	E	R	I	C	A	A
D	W	R	F	B	M	A	Ç	Ã		F	I	G	O
Z	X	C	V	B	N	N	J	A	M	B	O	H	I
U	G	T	C	O	Q	U	E	I	R	O	L	T	N
V	F	J	A	B	U	T	I	C	A	B	A	T	G
A	G	H	J	K	L	L	Ç	A	M	Ç	U	G	Á

https://www.soescola.com/2017/09/texto-informativo-sobre-o-dia-da-arvore-com-atividades.html

ESCOLA MUNICIPAL PROFESSOR JOÃO BAPTISTA
PROFESSORA: JUCENIR LOPES BRAGA.
TURMA: 3º ANO C
ENSINO: FUNDAMENTAL 1 TURNO: VESPERTINO
ALUNO:_____
_.
COMPONENTE CURRICULAR: HISTÓRIA
PERÍODO: 16/09/2020 a 30/09/2020
QUANTIDADE DE AULAS: 4 aulas

Objeto de conhecimento: Identificar os patrimônios históricos e culturais. Dia da Árvore.
Habilidades: EF03HI04

OBSERVAÇÃO: TODAS AS ATIVIDADES DEVERAO SEREM FEITAS COM LETRA CURSIVA
TODAS AS ATIVIDADES DEVERÃO TER O NOME COMPLETO DO ALUNO(A)

Atividade avaliativa

A árvore

Ela cuida de nos dar;
sombra, alimento e proteção;
E ainda limpa o ar;
Combatendo a poluição.



Cite outros benefícios que as árvores nos ofererecem

_____

_____

_____

_____

O homem tem cortado muitas árvores.

Você acha isso certo? _____

Por quê? _____

_____

_____

_____

_____

http://www.educarx.com/2013/09/atividades-dia-da-arvore-3-ano.html