(MS.EI03ET07.s.07) Relacionar números às suas respectivas quantidades e identificar o antes, o depois e o entre em uma sequência.

ESCOLA MUNICIPAL EDUARDO MALHADO

NOME: _____ PRÉ II C

Data: 18/08/2020

ESCREVA O NUMERAL CORRESPONDENTE.

PINTE AS FIGURAS.



https://atividadespedagogicas.net/wp-content/uploads/2017/09/atividade-numero-9-2-774x1024.jpg

(MS.EI03EF01.s.01) Expressar ideias, desejos e sentimentos sobre suas vivências, por meio da linguagem oral e escrita (escrita espontânea) fotos, desenhos e outras formas de expressão.

ESCOLA MUNICIPAL EDUARDO MALHADO

NOME: _____ PRÉ II C

Data: 19/08/2020

ESCREVA AS LETRAS QUE FALTAM:



L	U	V	A
		V	
	U		
			A



B	A	L	A
	A		
			A
B			

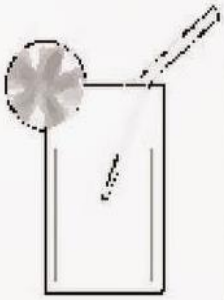

L	I	M	O	N	A	D	A
		M			A		
	I		O				
				N			A



L	I	X	O
		X	
	I		
			O



M	E	L	Ã	O
	E		Ã	
				O
M				



(MS.EI03ET07.S.07) Relacionar números às suas respectivas quantidades e identificar o antes, o depois e o entre em uma sequência.

ESCOLA MUNICIPAL EDUARDO MALHADO

NOME: _____ PRÉ II C

Data: 20/08/2020

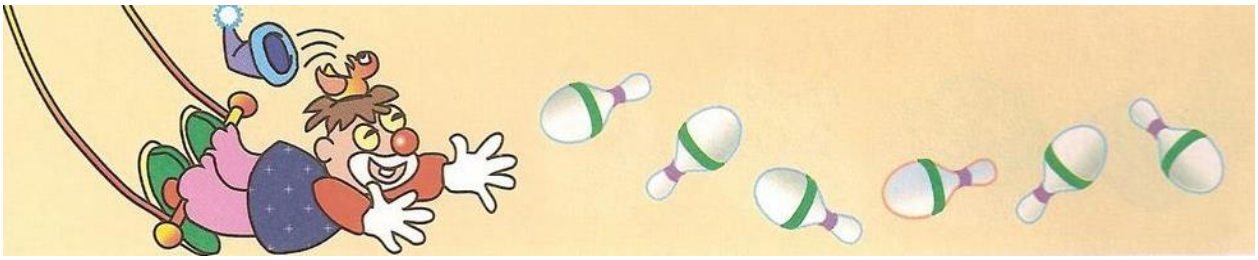

OBSERVE O MODELO E DESENHE FLORES NOS VASOS:



https://i.pinimg.com/originals/98/e1/ca/98e1ca7949e9dbf02f3222ed3df8dc83.jpg

SUGESTÃO DE LINK: https://www.youtube.com/watch?v=kq0kh0XvT9c

VÍDEO: COMO SOMAR OS NÚMEROS

(MS.EI03EF01.s.01) Expressar ideias, desejos e sentimentos sobre suas vivências, por meio da linguagem oral e escrita (escrita espontânea), fotos, desenhos e outras formas de expressão.

ESCOLA MUNICIPAL EDUARDO MALHADO

NOME: _____ PRÉ II C

Data: 21/08/2020

VEJA OS PERSONAGENS DO NOSSO FOLCLORE E COMPLETE COM AS LETRAS QUE ESTÃO FALTANDO:

S	A	C	I
	A		I



M	U	L	A
M		L	



I	A	R	A
			A



http://cantinhodosaber.com.br/wp-content/uploads/2020/08/Slide4-1-709x1024.jpg

(MS.EI03ET07.s.07) Relacionar números às suas respectivas quantidades e identificar o antes, o depois e o entre em uma sequência.

ESCOLA MUNICIPAL EDUARDO MALHADO

NOME: _____ PRÉ II C

Data: 25/08/2020

VAMOS CONTAR?

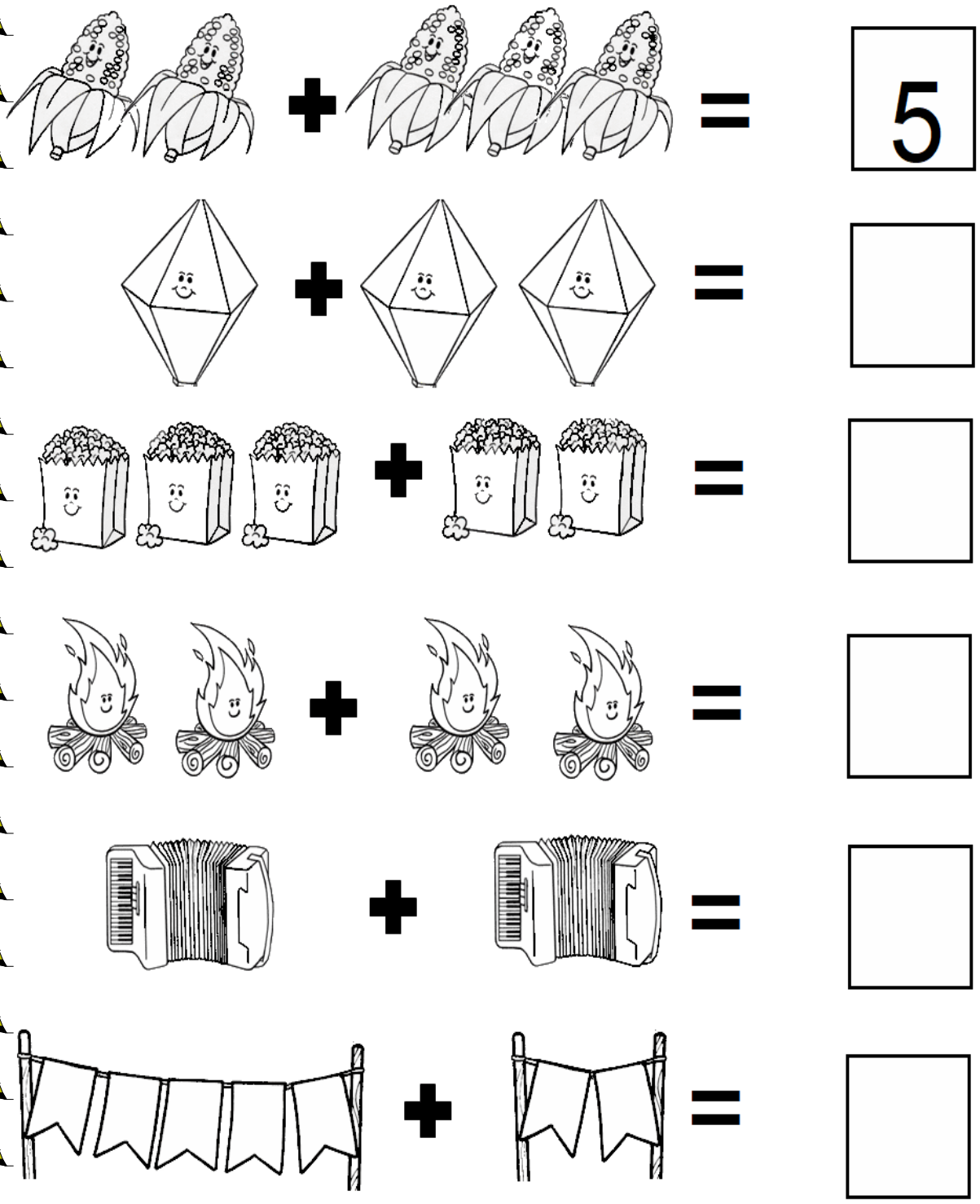

abc Criativo

(MS.Ei03EF07.s.07) Levantar hipóteses sobre gêneros textuais veiculados em portadores conhecidos, recorrendo a estratégias de observação gráfica e/ou de leitura.

ESCOLA MUNICIPAL EDUARDO MALHADO

NOME: _____ PRÉ II C

Data: 26/08/2020

LEIA A PARLENDA COM AJUDA DE UMA PESSOA DE SUA CASA

PARLENDA DO SAPO

OLHA O SAPO DENTRO DO SACO

O SACO COM O SAPO DENTRO

O SAPO BATENDO PAPO

E O PAPO SOLTANDO VENTO.

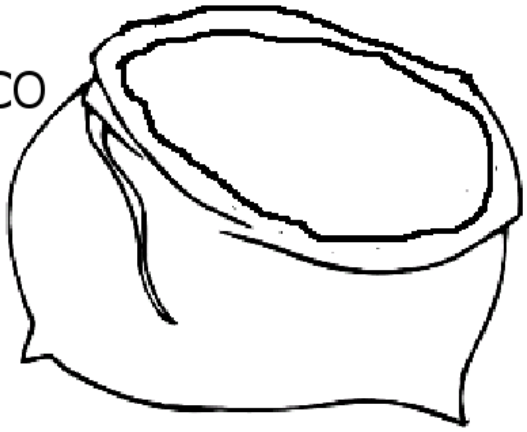

COMPLETE COM AS LETRAS FALTOSAS:



SAPO

S	A	P	O
S		P	
	A		O
S			O

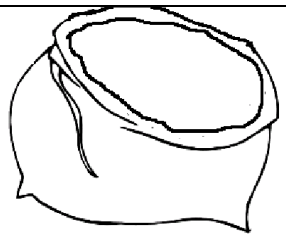

SACO

S	A	C	O
	A		O
S		C	
S			O

(MS.EI03ET07.s.07) Relacionar números às suas respectivas quantidades e identificar o antes, o depois e o entre em uma sequência.

ESCOLA MUNICIPAL EDUARDO MALHADO

NOME: _____ PRÉ II C

Data: 27/08/2020

QUAL É O RESULTADO?

1. Eu ganhei 3 carrinhos e 3 bolas. Quantos brinquedos eu ganhei?



$$\begin{array}{r} 3 \\ +\ 3 \\ \hline \end{array}$$

2. Vi passeando no quintal 5 formigas e 4 joaninhas. Quantos bichinhos estavam passeando no quintal?

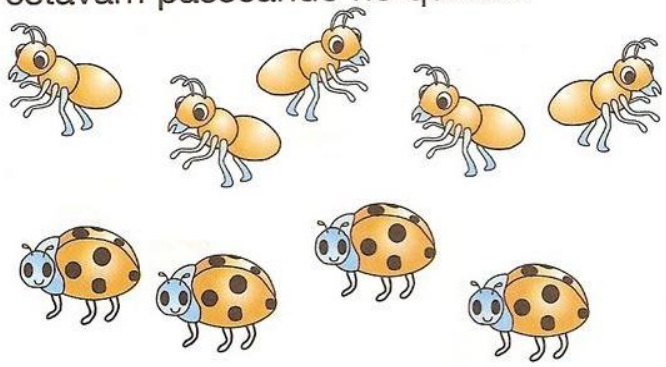

$$\begin{array}{r} 5 \\ +\ 4 \\ \hline \end{array}$$

3. No meu jardim nasceram 6 margaridas e 2 rosas. Quantas flores nasceram no meu jardim?



$$\begin{array}{r} 6 \\ +\ 2 \\ \hline \end{array}$$

(MS.EI03EF01.s.01) Expressar ideias, desejos e sentimentos sobre suas vivências, por meio da linguagem oral e escrita (escrita espontânea) fotos, desenhos e outras formas de expressão.

ESCOLA MUNICIPAL EDUARDO MALHADO

NOME: _____ PRÉ II C

Data: 28/08/2020

COMPLETE AS PALAVRAS COM A CONSOANTE N:

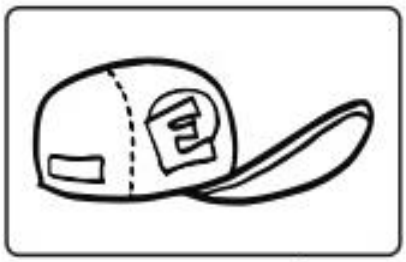

BO___É

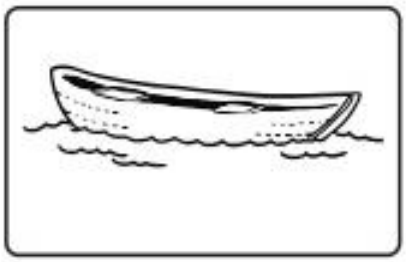

CA___OA



___UVEM

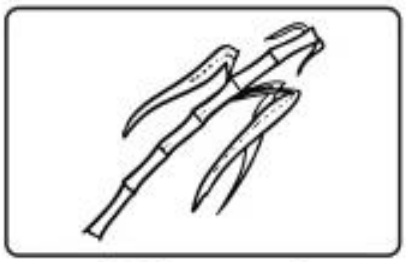

CA___A



PA___ELA



PE___ICO



PIA___O



___AVE



N

(MS.EI03ET07.s.07) Relacionar números às suas respectivas quantidades e identificar o antes, o depois e o entre em uma sequência.

ESCOLA MUNICIPAL EDUARDO MALHADO

NOME: _____ PRÉ II C

Data: 01/09/2020

VAMOS CONTAR?



(MS.EI03ET07.s.07) Relacionar números às suas respectivas quantidades e identificar o antes, o depois e o entre em uma sequência.

ESCOLA MUNICIPAL EDUARDO MALHADO

NOME: _____ PRÉ II C

Data: 03/09/2020

ADIÇÃO

VAMOS SOMAR?

LUCAS TINHA UMA BOLA E GANHOU MAIS UMA.
QUANTAS ELE TEM AGORA?

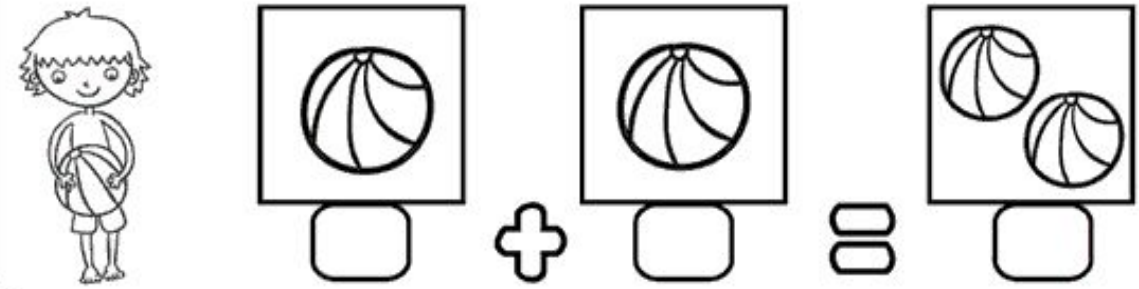

MARINA TINHA DOIS SORVETES E GANHOU MAIS UM.
QUANTOS ELA TEM AGORA?

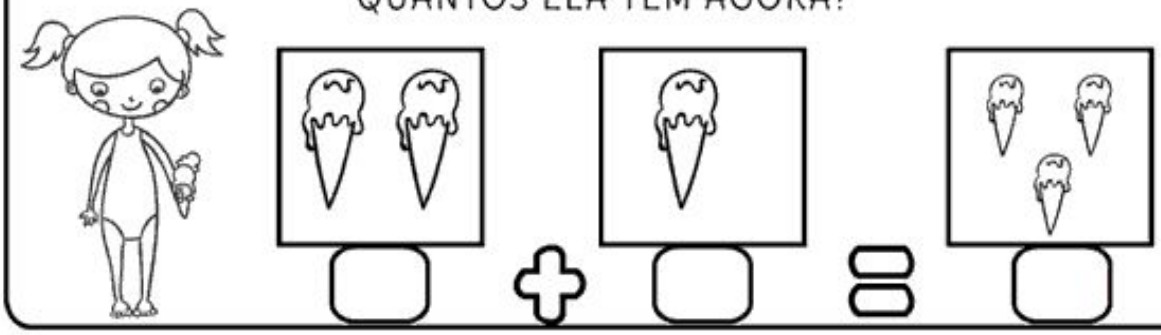

ALICE TINHA 3 LAÇOS E GANHOU MAIS UM.
QUANTOS ELA TEM AGORA?

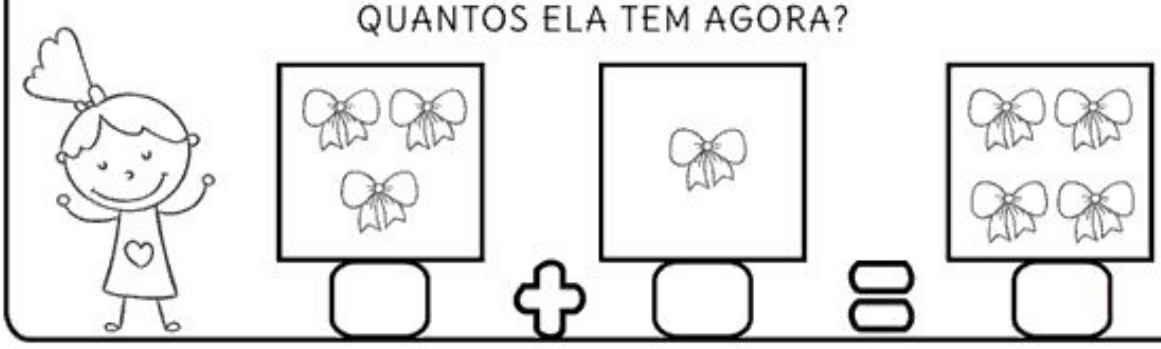

https://i.pinimg.com/

(MS.EI03EF01.s.01) Expressar ideias, desejos e sentimentos sobre suas vivências, por meio da linguagem oral e escrita (escrita espontânea) fotos, desenhos e outras formas de expressão.

ESCOLA MUNICIPAL EDUARDO MALHADO

NOME: _____ PRÉ II C

Data: 04/09/2020

DIGA O NOME DAS FIGURAS. DEPOIS, ESCREVA A LETRA INICIAL NO QUADRADINHO.



https://cdn.atividadesparaprofessores.com.br/

(MS.EI03EF01.s.01) Expressar ideias, desejos e sentimentos sobre suas vivências, por meio da linguagem oral e escrita (escrita espontânea) fotos, desenhos e outras formas de expressão.

ESCOLA MUNICIPAL EDUARDO MALHADO

NOME: _____ PRÉ II C

Data: 07/09/2020

COMPLETE AS PALAVRAS COM O P FALTOSO E COPIE-AS:



___P ATO

PATO



___ ENA

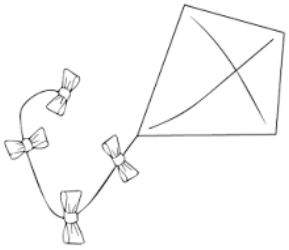

___ IPA



___ ANELA



___ IPOCA



___ OÇO



___ ORCO



___EIXE



___UDIM

notebookdaprof.blogspot.com